Series : Y7XWZ

SET~1

रोल नं.
Roll No.

प्रश्न-पत्र कोड
Q.P. Code 58/7/1

परीक्षार्थी प्रश्न-पत्र कोड को उत्तर-पुस्तिका के मुख-पृष्ठ पर अवश्य लिखें।
Candidates must write the Q.P. Code on the title page of the answer-book.

• • •

नोट

(I) कृपया जाँच कर लें कि इस प्रश्न-पत्र में मुद्रित पृष्ठ **23** हैं।

(II) प्रश्न-पत्र में दाहिने हाथ की ओर दिए गए प्रश्न-पत्र कोड को परीक्षार्थी उत्तर-पुस्तिका के मुख-पृष्ठ पर लिखें।

(III) कृपया जाँच कर लें कि इस प्रश्न-पत्र में **34** प्रश्न हैं।

(IV) **कृपया प्रश्न का उत्तर लिखना शुरू करने से पहले, उत्तर-पुस्तिका में यथा स्थान पर प्रश्न का क्रमांक अवश्य लिखें।**

(V) इस प्रश्न-पत्र को पढ़ने के लिए 15 मिनट का समय दिया गया है। प्रश्न-पत्र का वितरण पूर्वाह्न में 10.15 बजे किया जाएगा। 10.15 बजे से 10.30 बजे तक परीक्षार्थी केवल प्रश्न-पत्र को पढ़ेंगे और इस अवधि के दौरान वे उत्तर-पुस्तिका पर कोई उत्तर नहीं लिखेंगे।

NOTE

(I) Please check that this question paper contains **23** printed pages.

(II) Q.P. Code given on the right hand side of the question paper should be written on the title page of the answer-book by the candidate.

(III) Please check that this question paper contains **34** questions.

(IV) **Please write down the Serial Number of the question in the answer-book at the given place before attempting it.**

(V) 15 minute time has been allotted to read this question paper. The question paper will be distributed at 10.15 a.m. From 10.15 a.m. to 10.30 a.m., the candidates will read the question paper only and will not write any answer on the answer-book during this period.

#

• • •

अर्थशास्त्र
ECONOMICS

*निर्धारित समय : **3** घण्टे*
*Time allowed : **3** hours*

*अधिकतम अंक : **80***
*Maximum Marks : **80***

• • •

सामान्य निर्देश :

निम्नलिखित निर्देशों को ध्यानपूर्वक पढ़िए और उनका पालन कीजिए :

(i) *इस प्रश्न-पत्र में **34** प्रश्न हैं। **सभी** प्रश्न **अनिवार्य** हैं।*

(ii) *यह प्रश्न-पत्र **दो** खण्डों में विभाजित है :*

***खण्ड क** – समष्टि अर्थशास्त्र*

***खण्ड ख** – भारतीय आर्थिक विकास*

(iii) *इस प्रश्न-पत्र में **20** बहुविकल्पीय प्रकार के प्रश्न हैं। प्रत्येक प्रश्न **1** अंक का है।*

(iv) *इस प्रश्न-पत्र में **4** लघु-उत्तरीय प्रकार-I के प्रश्न हैं। प्रत्येक प्रश्न **3** अंकों का है। इन प्रश्नों के उत्तर 60 से 80 शब्दों में लिखे जाने चाहिए।*

(v) *इस प्रश्न-पत्र में **6** लघु-उत्तरीय प्रकार-II के प्रश्न हैं। प्रत्येक प्रश्न **4** अंकों का है। इन प्रश्नों के उत्तर 80 से 100 शब्दों में लिखे जाने चाहिए।*

(vi) *इस प्रश्न-पत्र में **4** दीर्घ-उत्तरीय प्रकार के प्रश्न हैं। प्रत्येक प्रश्न **6** अंकों का है। इन प्रश्नों के उत्तर 100 से 150 शब्दों में लिखे जाने चाहिए।*

(vii) *प्रत्येक प्रश्न के **सभी** भागों के उत्तर एक साथ लिखे जाने चाहिए।*

(viii) *इसके अतिरिक्त, ध्यान दें कि दृष्टिबाधित परीक्षार्थियों के लिए फोटो, मानचित्र आदि आधारित प्रश्नों के स्थान पर एक अन्य प्रश्न दिया गया है। इन प्रश्नों के उत्तर केवल दृष्टिबाधित परीक्षार्थी ही लिखें।*

(ix) *प्रश्न-पत्र में कोई समग्र विकल्प नहीं है। यद्यपि, कुछ प्रश्नों में आंतरिक विकल्प का प्रावधान दिया गया है। इन प्रश्नों में से केवल एक ही प्रश्न का उत्तर लिखा जाए।*

खण्ड क

समष्टि अर्थशास्त्र

1. निम्नलिखित कथनों का ध्यानपूर्वक अध्ययन कीजिए : *1*

कथन 1 : अन्य बातें समान रहने पर, विदेशी मुद्रा की कीमत और इसकी माँग के बीच सकारात्मक संबंध है।

कथन 2 : विदेशी विनिमय दर एक देश की अंतर्राष्ट्रीय बाज़ारों में क्रय शक्ति को दर्शाती है।

दिए गए कथनों के आलोक में, निम्नलिखित में से सही विकल्प का चयन कीजिए :

(A) कथन 1 सत्य है और कथन 2 असत्य है।

(B) कथन 1 असत्य है और कथन 2 सत्य है।

(C) कथन 1 और 2 दोनों सत्य हैं।

(D) कथन 1 और 2 दोनों असत्य हैं।

• • •

General Instructions :

Read the following instructions carefully and follow them :

(i) *This question paper contains **34** questions. **All** questions are **compulsory**.*

(ii) *This question paper contains **two** sections :*

***Section A** – Macro Economics*

***Section B** – Indian Economic Development*

(iii) *This question paper contains **20** Multiple Choice type questions. Each question carries **1** mark.*

(iv) *This question paper contains **4** Short Answer Type-I questions. Each question carries **3** marks. Answer these questions in 60 to 80 words.*

(v) *This question paper contains **6** Short Answer Type-II questions. Each question carries **4** marks. Answer these questions in 80 to 100 words.*

(vi) *This question paper contains **4** Long Answer type questions. Each question carries **6** marks. Answer these questions in 100 to 150 words.*

(vii) *Attempt **all** parts of a question together.*

(viii) *In addition to this, note that a separate question has been provided for Visually Impaired candidates in lieu of questions having visual inputs, map etc. Such questions are to be attempted by Visually Impaired candidates only.*

(ix) *There is no overall choice in the question paper. However, an internal choice has been provided in few questions. Only one of the choices in such questions has to be attempted.*

SECTION A
Macro Economics

1. Read the following statements carefully : *1*

Statement 1 : Keeping other things constant, there exists positive correlation between the price of foreign exchange and its demand.

Statement 2 : The foreign exchange rate indicates a country's purchasing power in international markets.

In the light of the given statements, choose the correct option from the following :

(A) Statement 1 is true and Statement 2 is false.

(B) Statement 1 is false and Statement 2 is true.

(C) Both Statements 1 and 2 are true.

(D) Both Statements 1 and 2 are false.

• • •

2. उपलब्ध सूचना का उपयोग करते हुए, निम्नलिखित तालिका को पूरा कीजिए : *1*

(सही विकल्प का चयन कीजिए)

	2014 – 2015	2016 – 2017
मौद्रिक GDP	6·5	9
वास्तविक GDP	...(i)...	7·2
GDP अपस्फीतिकारक	100	...(ii)...

विकल्प :

(A) 125, 100 (B) 125, 110

(C) 6·5, 125 (D) 100, 6·5

3. भारत में _____ मुद्रा आपूर्ति के आँकड़े जारी करता है। *1*

(रिक्त स्थान भरने के लिए सही विकल्प का चयन कीजिए)

(A) कॉर्पोरेशन बैंक

(B) भारतीय रिज़र्व बैंक

(C) वाणिज्यिक बैंक

(D) भारतीय स्टेट बैंक

4. निम्नलिखित कथनों – अभिकथन (A) और कारण (R) का ध्यानपूर्वक अध्ययन कीजिए। नीचे दिए गए विकल्पों में से सही विकल्प का चयन कीजिए : *1*

अभिकथन (A) : किसी भारतीय कंपनी द्वारा विदेशी कंपनियों को प्रदान की जाने वाली नौवहन (shipping) सेवाओं को भुगतान संतुलन (BOP) के चालू खाते में दर्ज किया जाएगा।

कारण (R) : भुगतान संतुलन (BOP) का चालू खाता भारत के निवासियों की परिसम्पत्तियों या देयताओं की स्थिति में परिवर्तन नहीं करता है।

विकल्प :

(A) अभिकथन (A) एवं कारण (R) दोनों सत्य हैं और कारण (R), अभिकथन (A) की सही व्याख्या है।

(B) अभिकथन (A) और कारण (R) दोनों सत्य हैं, लेकिन कारण (R), अभिकथन (A) की सही व्याख्या ***नहीं*** है।

(C) अभिकथन (A) सत्य है, लेकिन कारण (R) असत्य है।

(D) अभिकथन (A) असत्य है, लेकिन कारण (R) सत्य है।

• • •

2. Using the given information, complete the following table : *1*

(Choose the correct option)

	2014 – 2015	2016 – 2017
Nominal GDP	6·5	9
Real GDP	...(i)...	7·2
GDP deflator	100	...(ii)...

Options :

(A) 125, 100 (B) 125, 110

(C) 6·5, 125 (D) 100, 6·5

3. _____ releases data of money supply in India. *1*

(Choose the correct option to fill in the blank)

(A) Corporation Bank

(B) Reserve Bank of India

(C) Commercial Banks

(D) State Bank of India

4. Read the following statements – Assertion (A) and Reason (R) carefully. Choose the correct option from those given below : *1*

Assertion (A) : Shipping service provided by an Indian company to foreign companies will be recorded in current account of Balance of Payments (BOP).

Reason (R) : Current account of Balance of Payments (BOP) does not alter the status of the asset or liabilities of the residents of India.

Options :

(A) Both Assertion (A) and Reason (R) are true and Reason (R) is the correct explanation of Assertion (A).

(B) Both Assertion (A) and Reason (R) are true, but Reason (R) is ***not*** the correct explanation of Assertion (A).

(C) Assertion (A) is true, but Reason (R) is false.

(D) Assertion (A) is false, but Reason (R) is true.

• • •

5. वाणिज्यिक बैंकों को साख सृजक कहा जाता है, क्योंकि : *1*

(सही विकल्प का चयन कीजिए)

(A) वे केन्द्रीय बैंक से प्रतिभूतियाँ क्रय करते हैं।

(B) उनके द्वारा प्रदत्त ऋण जमा राशि उत्पन्न करते हैं।

(C) वे सरकार के बैंकर के रूप में कार्य करते हैं।

(D) वे अर्थव्यवस्था में ऋण दर को विनियमित करते हैं।

6. मान लीजिए, उपभोग फलन दिया गया है :

$C = 205 + 0{\cdot}9\ Y$ है (जहाँ C = कुल उपभोग और Y = राष्ट्रीय आय) *1*

निवेश गुणक (K) का मूल्य _____ होगा।

(रिक्त स्थान भरने के लिए सही विकल्प का चयन कीजिए)

(A) 0·09 (B) 10·0

(C) 0·9 (D) 9·0

7. सीमांत उपभोग प्रवृत्ति (MPC) को _____ फलन के ढलान द्वारा दर्शाया जाता है। *1*

(रिक्त स्थान भरने के लिए सही विकल्प का चयन कीजिए)

(A) बचत

(B) उपभोग

(C) उत्पादन

(D) लागत

8. निम्नलिखित कथनों का ध्यानपूर्वक अध्ययन कीजिए : *1*

कथन 1 : खुले बाज़ार संचालन से तात्पर्य, केन्द्रीय बैंक द्वारा सरकारी प्रतिभूतियों (G-Sec) के क्रय/विक्रय से है।

कथन 2 : मुद्रा आपूर्ति को कम करने के लिए, केन्द्रीय बैंक वाणिज्यिक बैंकों को सरकारी प्रतिभूतियाँ विक्रय करेगा।

दिए गए कथनों के आलोक में, निम्नलिखित में से सही विकल्प का चयन कीजिए :

(A) कथन 1 सत्य है और कथन 2 असत्य है।

(B) कथन 1 असत्य है और कथन 2 सत्य है।

(C) कथन 1 और 2 दोनों सत्य हैं।

(D) कथन 1 और 2 दोनों असत्य हैं।

• • •

5. Commercial banks are regarded as money creators because : *1*

(Choose the correct option)

(A) they purchase securities from the Central Bank.

(B) loans provided by them create deposits.

(C) they act as a banker to the government.

(D) they regulate the lending rate in the economy.

6. Suppose, the consumption function is given as : *1*

C = 205 + 0·9 Y (where C = Total Consumption and Y = National Income)

The value of Investment Multiplier (K) would be _____.

(Choose the correct option to fill in the blank)

(A) 0·09 (B) 10·0

(C) 0·9 (D) 9·0

7. Marginal Propensity to Consume (MPC) exhibits the slope of _____ function. (Choose the correct option to fill in the blank) *1*

(A) Saving

(B) Consumption

(C) Production

(D) Cost

8. Read the following statements carefully : *1*

Statement 1 : Open Market Operations refers to purchase/sale of Government Securities (G-Sec) by the Central Bank.

Statement 2 : To decrease money supply, Central Bank will sell the Government Securities to commercial banks.

In the light of the given statements, choose the correct option from the following :

(A) Statement 1 is true and Statement 2 is false.

(B) Statement 1 is false and Statement 2 is true.

(C) Both Statements 1 and 2 are true.

(D) Both Statements 1 and 2 are false.

• • •

9. एक लेखांकन वर्ष के दौरान, अर्थव्यवस्था में समग्र व्यय को _____ के रूप में भी जाना जाता है। *1*

(रिक्त स्थान भरने के लिए सही विकल्प का चयन कीजिए)

(A) स्वायत्त निवेश

(B) समग्र पूर्ति

(C) समग्र माँग

(D) प्रेरित निवेश

10. कीनेसियन अर्थशास्त्र में 45° रेखा _____ की ओर इंगित करती है। *1*

(रिक्त स्थान भरने के लिए सही विकल्प का चयन कीजिए)

(A) आय > उपभोग

(B) बचत > निवेश

(C) उपभोग > आय

(D) आय = उपभोग

11. (क) निम्नलिखित आँकड़ों से 'ब्रिकी' के मूल्य की गणना कीजिए : *3*

क्रम संख्या	*विवरण*	*राशि (₹ लाख में)*
(i)	उपदान	200
(ii)	प्रचालन अधिशेष	500
(iii)	प्रारंभिक स्टॉक	100
(iv)	अंतिम स्टॉक	600
(v)	मध्यवर्ती उपभोग	3,000
(vi)	स्थिर पूँजी का उपभोग	700
(vii)	लाभ	750
(viii)	साधन लागत पर शुद्ध मूल्य वृद्धि (NVA_{FC})	2,000

अथवा

(ख) आय विधि द्वारा राष्ट्रीय आय का आकलन करते समय बरती जाने वाली किन्हीं दो सावधानियों को उल्लेखित कीजिए व समझाइए। *3*

• • •

9. Aggregate expenditure in the economy during an accounting year is also known as _____. (Choose the correct option to fill in the blank) *1*

(A) Autonomous investment

(B) Aggregate supply

(C) Aggregate demand

(D) Induced investment

10. The 45° line in Keynesian economics indicates _____. *1*

(Choose the correct option to fill in the blank)

(A) Income > Consumption

(B) Savings > Investments

(C) Consumption > Income

(D) Income = Consumption

11. (a) Calculate the value of 'Sales' from the following data : *3*

S. No.	*Particulars*	*Amount (in ₹ lakh)*
(i)	Subsidies	200
(ii)	Operating surplus	500
(iii)	Opening stock	100
(iv)	Closing stock	600
(v)	Intermediate consumption	3,000
(vi)	Consumption of fixed capital	700
(vii)	Profits	750
(viii)	Net Value Added at Factor Cost (NVA_{FC})	2,000

OR

(b) State and explain any two precautions that must be taken while estimating national income by income method. *3*

• • •

12. नीचे दिए गए चित्र में दर्शाए गए, केन्द्रीय बैंक के किसी एक कार्य की पहचान कीजिए व समझाइए : *3*

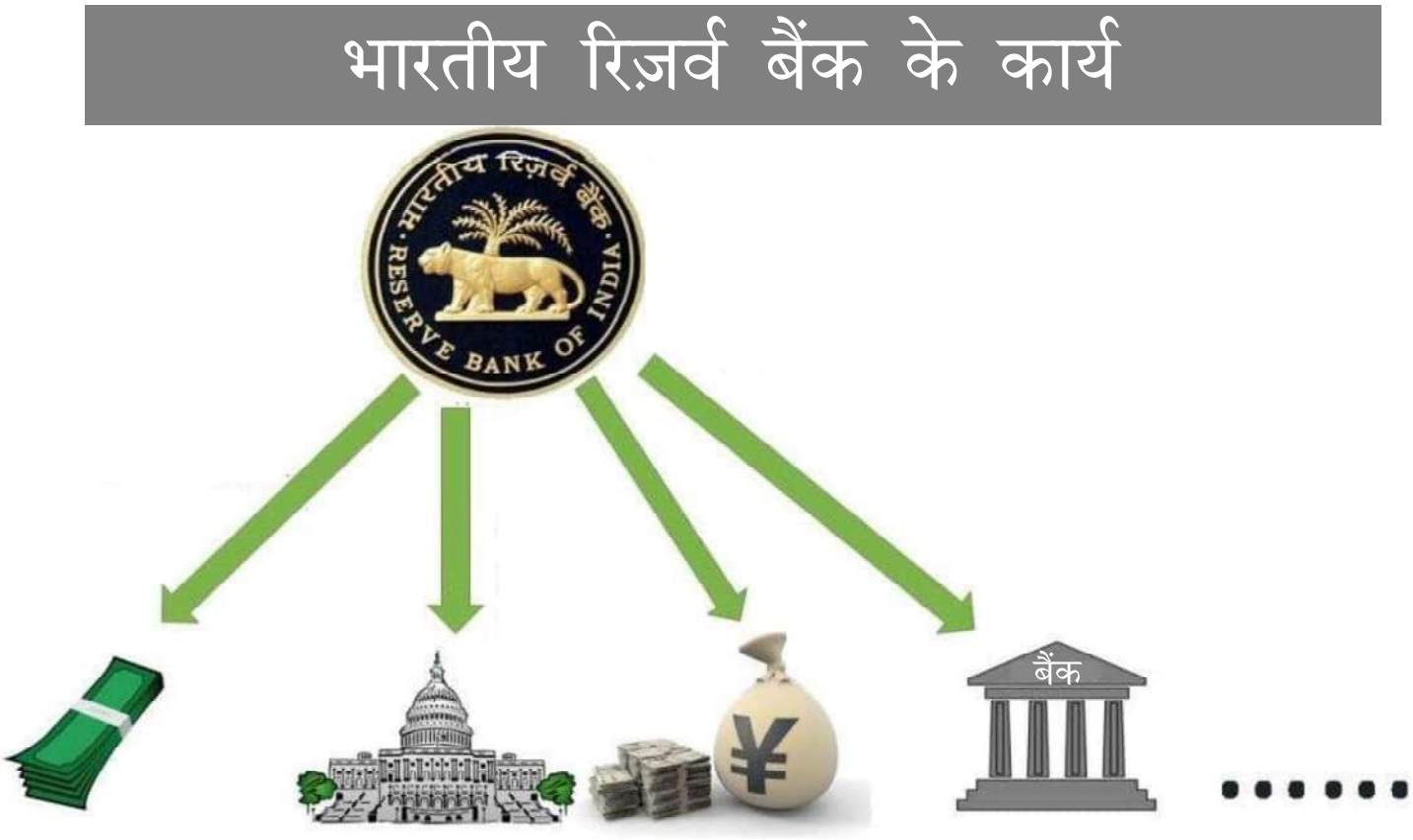

नोट : *निम्नलिखित प्रश्न केवल* ***दृष्टिबाधित परीक्षार्थियों*** *के लिए प्रश्न संख्या* ***12*** *के स्थान पर है।*

केन्द्रीय बैंक के किसी एक कार्य की व्याख्या कीजिए। *3*

13. (i) "किसी अर्थव्यवस्था में, प्रत्याशित निवेश (I) प्रत्याशित बचत (S) से अधिक है।"
दी गई स्थिति का उत्पाद, रोजगार व आय पर संभावित प्रभावों की व्याख्या कीजिए। *3*

(ii) अधिमाँग को परिभाषित कीजिए। *1*

14. (क) (i) भुगतान संतुलन व व्यापार संतुलन में विभेद कीजिए। *3*

(ii) चालू खाता अधिशेष को परिभाषित कीजिए। *1*

अथवा

(ख) (i) उपयुक्त उदाहरण का उपयोग करते हुए, प्रत्यक्ष विदेशी निवेश (FDI) व विदेशी संस्थागत निवेश (FII) में अंतर स्पष्ट कीजिए। *3*

(ii) पूँजी खाते के घटक के रूप में विदेशी सहायता (External Assistance) के किसी एक उदाहरण का उल्लेख कीजिए। *1*

15. "किसी अर्थव्यवस्था में अपस्फीतिकारी अंतराल की स्थिति को सही करने में मार्जिन आवश्यकताएँ अत्यंत सहायक होती हैं।"
दिए गए कथन का, मान्य तर्कों सहित औचित्य सिद्ध कीजिए। *4*

• • •

12. Identify and explain any one function of Central Bank as indicated in the image given below : *3*



Note : *The following question is for the* ***Visually Impaired Candidates*** *only, in lieu of Q. No.* ***12****.*

Explain any one function of Central Bank. *3*

13. (i) "In an economy, ex-ante investment (I) exceeds ex-ante savings (S)."

Explain the likely impact of the given situation on output, employment and income. *3*

(ii) Define excess demand. *1*

14. (a) (i) Distinguish between Balance of Payments and Balance of Trade. *3*

(ii) Define Current Account Surplus. *1*

OR

(b) (i) Using suitable example, distinguish between Foreign Direct Investments (FDI) and Foreign Institutional Investments (FII). *3*

(ii) State one example of External Assistance as a component of capital account. *1*

15. "Margin requirements are extremely helpful in correcting the situation of deflationary gap in an economy".

Justify the given statement with valid arguments. *4*

• • •

16. (क) (i) "घरेलू आय सदैव राष्ट्रीय आय से कम होती है।"
क्या आप दिए गए कथन से सहमत हैं ? अपने उत्तर के समर्थन में मान्य तर्क प्रस्तुत कीजिए। *3*

(ii) उपयुक्त उदाहरणों सहित, धनात्मक बाह्यताओं व ऋणात्मक बाह्यताओं में अंतर स्पष्ट कीजिए। *3*

अथवा

(ख) (i) "एक द्वि-क्षेत्रक अर्थव्यवस्था में, गृहस्थों द्वारा किया गया उपभोग व्यय सदैव फर्मों द्वारा उत्पादित वस्तुओं व सेवाओं पर हुए समग्र व्यय के बराबर होता है।"
क्या आप दिए गए कथन से सहमत हैं ? अपने उत्तर के समर्थन में वैध व्याख्या दीजिए। *3*

(ii) "दोहरी गणना समस्या के कारण किसी अर्थव्यवस्था में उत्पादन का अनुमान अधिक लग जाता है।"
उपयुक्त उदाहरण की सहायता से, दिए गए कथन का औचित्य सिद्ध कीजिए। *3*

17. निम्नलिखित गद्य का ध्यानपूर्वक अध्ययन करें :

केन्द्रीय बजट 2025-26 में सूक्ष्म, लघु व मध्यम उद्यम (MSME) क्षेत्र को सुदृढ़ बनाने के उद्देश्य से कई उपाय प्रस्तुत किए गए हैं। यह कृषि, निवेश व निर्यात के साथ-साथ भारत की विकास यात्रा में MSME की भूमिका को एक प्रमुख इंजन के रूप में मान्यता देता है।

भारत के औद्योगिक परिदृश्य में एक महत्त्वपूर्ण योगदानकर्ता के रूप में MSME क्षेत्र, विनिर्माण क्षेत्र, निर्यात व रोजगार सृजन में महत्त्वपूर्ण भूमिका निभाता है।

नए बजटीय प्रावधानों का उद्देश्य नवाचार को प्रोत्साहित करके, प्रतिस्पर्धात्मकता में वृद्धि करके तथा संसाधनों तक बेहतर पहुँच सुनिश्चित करके, एक सुदृढ़ नींव का निर्माण करना है।

इसके अलावा उद्यम पंजीकरण पोर्टल, PM विश्वकर्मा, PMEGP, SFURTI तथा सार्वजनिक क्रय नीति जैसी सरकार की विद्यमान पहलों ने MSMEs को एकीकृत व सशक्त बनाने की दिशा में एक संयुक्त प्रयास को प्रदर्शित करना जारी रखा है।

दिए गए गद्य व सामान्य ज्ञान के आधार पर निम्नलिखित प्रश्नों के उत्तर दीजिए :

(क) "MSMEs भारत की विकास यात्रा में महत्त्वपूर्ण भूमिका निभाते हैं।" क्या आप दिए गए कथन से सहमत हैं ? अपने उत्तर के समर्थन में मान्य तर्क प्रस्तुत कीजिए। *3*

(ख) MSMEs को सशक्त करने के लिए सरकार द्वारा उठाए गए प्रमुख उपायों की व्याख्या कीजिए। *3*

• • •

16. (a) (i) "Domestic income is always less than national income."
Do you agree with the given statement ? Support your answer with valid arguments. *3*

(ii) Distinguish between positive externalities and negative externalities with suitable examples. *3*

OR

(b) (i) "In a two-sector economy, consumption expenditure by households is always equal to aggregate expenditure on goods and services produced by the firms."
Do you agree with the given statement ? Support your answer with valid explanation. *3*

(ii) "Problem of Double Counting leads to overestimation of output in an economy."
Justify the given statement with the help of suitable example. *3*

17. Read the following text carefully :

The Union Budget 2025-26 introduces a series of measures aimed at strengthening the Micro, Small and Medium Enterprises (MSME) sector. It recognises the role of MSMEs as one of the key engines in India's journey of development, along with agriculture, investment and exports.

As a vital contributor to India's industrial landscape, the MSME sector plays a crucial role in manufacturing sector, exports and employment generation.

The new budgetary provisions aim to build on this strong foundation by fostering innovation, enhancing competitiveness and ensuring better access to resources.

Furthermore, the Government's ongoing initiatives like Udyam registration portal, PM Vishwakarma, PMEGP, SFURTI, and the Public Procurement Policy continue to demonstrate a combined effort towards integrating and empowering MSMEs.

On the basis of given text and common understanding, answer the following questions :

(a) "MSMEs play a pivotal role in the India's journey of development Do you agree with the given statement ?" Give valid reason in support of your answer. *3*

(b) Explain key measures initiated by the Government for strengthening MSMEs. *3*

• • •

खण्ड ख

भारतीय आर्थिक विकास

18. पहचान कीजिए कि, निम्नलिखित में से कौन-सी भौतिक पूँजी की एक विशेषता ***नहीं*** है। *1*

(सही विकल्प का चयन कीजिए)

(i) मूर्तता (Tangibility)

(ii) व्यापार योग्यता (Tradability)

(iii) स्थिरता (Immobility)

विकल्प :

(A) (i) व (ii) (B) (ii) व (iii)

(C) (i) व (iii) (D) (i), (ii) व (iii)

19. सरकार द्वारा निर्धारित न्यूनतम समर्थन मूल्य (MSP) का मुख्य लाभार्थी _____ होता है। *1*

(रिक्त स्थान भरने के लिए सही विकल्प का चयन कीजिए)

(A) मजदूर (B) उपभोक्ता

(C) व्यापारी (क्रेता) (D) कृषक

20. किसी भी अर्थव्यवस्था में रोजगार के औपचारिक क्षेत्र से संबंधित ***असत्य*** विशेषता की पहचान कीजिए। *1*

(सही विकल्प का चयन कीजिए)

(A) रोजगार सुरक्षा (B) सामाजिक सुरक्षा लाभ

(C) अनियमित भुगतान (D) निश्चित कार्य घंटे

21. निम्नलिखित कथनों का ध्यानपूर्वक अध्ययन कीजिए : *1*

कथन 1 : भारत में जल व वायु प्रदूषण की समस्या के समाधान हेतु भारत सरकार ने केन्द्रीय प्रदूषण नियंत्रण बोर्ड (CPCB) की स्थापना की थी।

कथन 2 : वनों की कटाई से स्वदेशी वनों (indigenous forests) का स्थायी विनाश होता है।

दिए गए कथनों के आलोक में, निम्नलिखित में से सही विकल्प का चयन कीजिए :

(A) कथन 1 सत्य है और कथन 2 असत्य है।

(B) कथन 1 असत्य है और कथन 2 सत्य है।

(C) कथन 1 और 2 दोनों सत्य हैं।

(D) कथन 1 और 2 दोनों असत्य हैं।

• • •

SECTION B
Indian Economic Development

18. Identify, which of the following is ***not*** a feature of physical capital. *1*

(Choose the correct option)

(i) Tangibility
(ii) Tradability
(iii) Immobility

Options :

(A) (i) and (ii) (B) (ii) and (iii)
(C) (i) and (iii) (D) (i), (ii) and (iii)

19. Prime beneficiary of the Minimum Support Price (MSP) fixed by the government is _____. *1*

(Choose the correct option to fill in the blank)

(A) Labourer (B) Consumer
(C) Trader (Buyer) (D) Farmer

20. Identify, the ***incorrect*** feature associated with the formal sector of employment in any economy. *1*

(Choose the correct option)

(A) Job security (B) Social security benefits
(C) Irregular payments (D) Fixed working hours

21. Read the following statements carefully : *1*

Statement 1 : In order to address the problem of water and air pollution in India, the Government of India had established the Central Pollution Control Board (CPCB).

Statement 2 : Deforestation leads to the permanent destruction of indigenous forests.

In the light of the given statements, choose the correct option from the following :

(A) Statement 1 is true and Statement 2 is false.
(B) Statement 1 is false and Statement 2 is true.
(C) Both Statements 1 and 2 are true.
(D) Both Statements 1 and 2 are false.

• • •

22. आधुनिकीकरण एक महत्त्वपूर्ण आर्थिक नियोजन उद्देश्य है, जो _____ पर केन्द्रित होता है। *1*

(रिक्त स्थान भरने के लिए सही विकल्प का चयन कीजिए)

(i) नवीन प्रौद्योगिकी को अपनाने

(ii) सामाजिक दृष्टिकोण में सकारात्मक परिवर्तन लाने

(iii) आय व संपत्ति के समान वितरण

(iv) बिचौलियों के उन्मूलन

विकल्प :

(A) (i) और (iv) (B) (i) और (iii)

(C) (i), (iii) और (iv) (D) (i) और (ii)

23. हाल में, भारत ने क्षेत्रीय व आर्थिक समूहों में से एक _____ के शिखर सम्मेलन की मेज़बानी व अध्यक्षता की थी। (रिक्त स्थान भरने के लिए सही विकल्प का चयन कीजिए) *1*

(A) SAARC (B) G8

(C) ASEAN (D) G20

24. _____ बेरोजगारी में किसी श्रमिक की सीमांत उत्पादकता शून्य के बराबर होती है। *1*

(रिक्त स्थान भरने के लिए सही विकल्प का चयन कीजिए)

(A) मौसमी (B) संरचनात्मक

(C) अनैच्छिक (D) प्रच्छन्न

25. _____ जनसांख्यिकीय सूचकों में से एक है, जिसमें पाकिस्तान, भारत व चीन से अग्रणी है। *1*

(रिक्त स्थान भरने के लिए सही विकल्प का चयन कीजिए)

(A) शहरीकरण (B) प्रजनन दर

(C) जनसंख्या घनत्व (D) लैंगिक अनुपात

26. _____ क्षेत्र के विस्तार के कारण, हाल के दिनों में, भारत से बाह्य प्रापण बहुत सशक्त हो गई है। *1*

(रिक्त स्थान भरने के लिए सही विकल्प का चयन कीजिए)

(A) कृषि (B) उत्पादन

(C) सूचना प्रौद्योगिकी (D) निर्माण

• • •

22. Modernization is an important economic planning objective that focuses on _____. *1*

(Choose the correct option to fill in the blank)

(i) Adoption of innovative technology

(ii) Bringing positive change in social outlook

(iii) Equal distribution of income and wealth

(iv) Abolition of intermediaries

Options :

(A) (i) and (iv) (B) (i) and (iii)

(C) (i), (iii) and (iv) (D) (i) and (ii)

23. Recently, India hosted and chaired the summit of _____ one of the regional and economic groupings. *1*

(Choose the correct option to fill in the blank)

(A) SAARC (B) G8

(C) ASEAN (D) G20

24. Under _____ unemployment the marginal productivity of a worker is equal to zero. *1*

(Choose the correct option to fill in the blank)

(A) Seasonal (B) Structural

(C) Involuntary (D) Disguised

25. _____ is one of the demographic indicators in which Pakistan is ahead of India and China. *1*

(Choose the correct option to fill in the blank)

(A) Urbanisation (B) Fertility rate

(C) Population density (D) Sex ratio

26. Outsourcing from India has become more intensified in recent times due to the expansion of the _____ sector. *1*

(Choose the correct option to fill in the blank)

(A) Agriculture (B) Manufacturing

(C) Information Technology (D) Construction

• • •

27. मान लीजिए कि, किसी अर्थव्यवस्था में नियमित श्रमिकों की तुलना में आकस्मिक श्रमिकों के प्रतिशत में वृद्धि होती है।

इस स्थिति को कार्यबल _____ के रूप में जाना जा सकता है। *1*

(रिक्त स्थान भरने के लिए सही विकल्प का चयन कीजिए)

(i) औपचारीकरण

(ii) अनियतीकरण (casualisation)

(iii) बेरोजगारी

विकल्प :

(A) (i) और (ii) (B) (ii) और (iii)

(C) केवल (ii) (D) केवल (i)

28. (क) "कई अर्थशास्त्रियों का मानना है कि, भारत ने ब्रिटिश औद्योगीकरण के लिए उनकी पोषक अर्थव्यवस्था बनकर बहुत भारी कीमत चुकाई है।"

किसी एक वैध तर्क द्वारा दिए गए कथन का औचित्य सिद्ध कीजिए। *3*

अथवा

(ख) ब्रिटिश शासन के दौरान भारत में बुनियादी ढाँचे के विकास का आलोचनात्मक मूल्यांकन कीजिए। *3*

29. कुछ अर्थशास्त्रियों का तर्क है कि :

"1991 के आर्थिक सुधारों के उपरांत औद्योगिक क्षेत्र के खराब प्रदर्शन के लिए वैश्वीकरण ने एक प्रमुख भूमिका निभाई"।

दिए गए कथन का औचित्य सिद्ध करने के लिए अपने तर्क प्रस्तुत कीजिए। *3*

30. भारत में रोजगार के वितरण से संबंधित निम्नलिखित जानकारी की तुलना व विश्लेषण कीजिए : *4*

विभिन्न क्षेत्रों में रोजगार का वितरण (पुरुष-महिला)

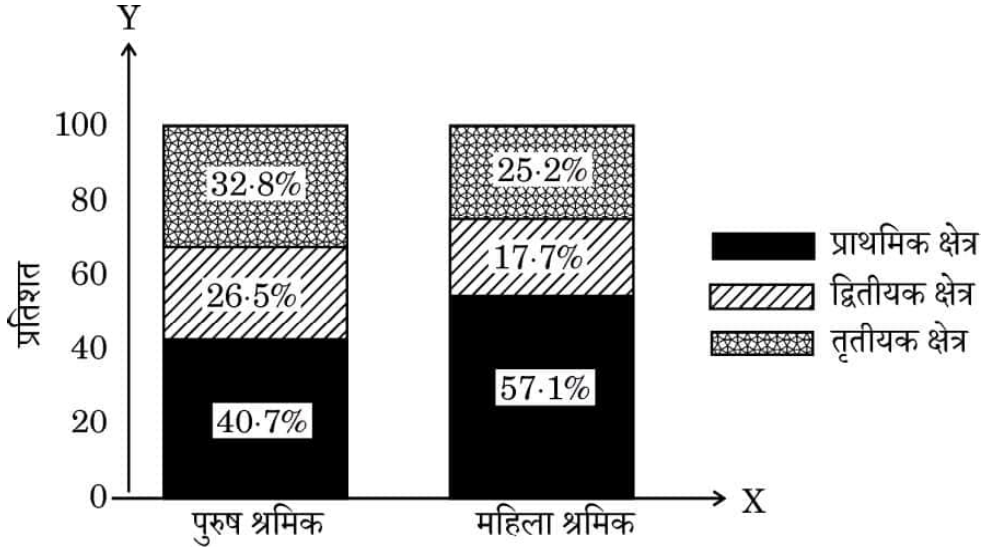

• • •

27. Suppose the percentage of casual workers rises in an economy as compared to the regular workers.
This situation may be known as _____ of workforce. *1*

(Choose the correct option to fill in the blank)

(i) Formalisation
(ii) Casualisation
(iii) Unemployment

Options :

(A) (i) and (ii) (B) (ii) and (iii)
(C) only (ii) (D) only (i)

28. (a) "Many economists believe that India paid a very heavy price for the British industrialisation, by becoming their feeder economy."
Justify the given statement with any one valid argument. *3*

OR

(b) Critically appraise, infrastructural development in India during the British rule. *3*

29. Some economists argue that :
"Post-1991 economic reforms, globalisation played a major role in poor performance of the industrial sector."
Present your arguments to justify the given statement. *3*

30. Compare and analyse the following information related to distribution of employment in India : *4*

Distribution of Employment (Male-Female) in Different Sectors

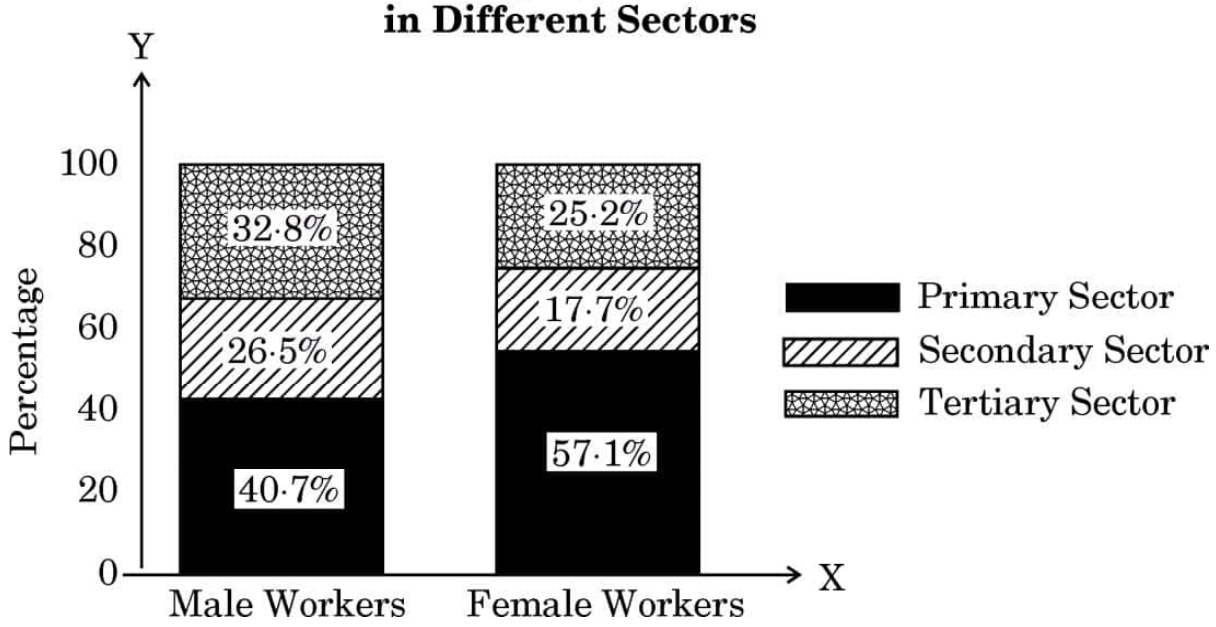

• • •

नोट : *निम्नलिखित प्रश्न केवल* ***दृष्टिबाधित परीक्षार्थियों*** *के लिए प्रश्न संख्या* ***30*** *के स्थान पर है।*

"शहरी महिलाओं की तुलना में, ग्रामीण महिलाएँ अधिक कार्यरत पाई जाती हैं।"

वैध स्पष्टीकरण द्वारा दिए गए कथन की पुष्टि कीजिए। *4*

31. (क) 1950 – 1990 के मध्य लघु उद्योगों के संरक्षण व संवर्धन के लिए भारत सरकार द्वारा उठाए गए किन्हीं दो कदमों का उल्लेख व व्याख्या कीजिए। *4*

अथवा

(ख) भारत की योजना अवधि के दौरान कृषि क्षेत्र में संस्थागत सुधार के रूप में भूमि परिसीमन की भूमिका का विस्तार से वर्णन कीजिए। *4*

32. शिक्षा व स्वास्थ्य क्षेत्रों में विभिन्न प्रकार के सरकारी हस्तक्षेप की आवश्यकता के पक्ष में तर्क प्रस्तुत कीजिए। *4*

33. (क) (i) 1947 के उपरांत, भारत व पाकिस्तान द्वारा अपनाई गई किन्हीं दो समान विकास रणनीतियों की व्याख्या कीजिए। *3*

(ii) पाकिस्तान में धीमी आर्थिक वृद्धि के किन्हीं दो कारणों का उल्लेख व चर्चा कीजिए। *3*

अथवा

(ख) (i) "चीन ने आर्थिक विकास के लिए विशेष आर्थिक क्षेत्रों (Special Economic Zones) के उपकरण का अत्यंत प्रभावी रूप से उपयोग किया था।"

दिए गए कथन का औचित्य मान्य व्याख्या द्वारा सिद्ध कीजिए। *3*

(ii) मानव विकास के ऐसे किन्हीं दो संकेतकों का उल्लेख व चर्चा कीजिए, जहाँ चीन ने उल्लेखनीय प्रदर्शन किया है। *3*

34. निम्नलिखित गद्य को ध्यानपूर्वक पढ़िए :

हाल ही में, केन्द्रीय मंत्रिमंडल द्वारा एक राष्ट्रीय स्तर की बहुराज्यीय सहकारी समिति के गठन को मंजूरी दी गई है। यह समिति जैविक उत्पादन व निर्यात को प्रोत्साहित कर कृषकों की आय में कई गुना वृद्धि करने में सहायता करेगी।

• • •

Note : *The following question is for the* ***Visually Impaired Candidates*** *only, in lieu of Q. No.* ***30****.*

"Compared to urban women, more rural women are found working."
Justify the given statement with valid explanation. *4*

31. (a) State and explain any two steps undertaken by the Government of India for the protection and promotion of Small-scale Industries between 1950 – 1990. *4*

OR

(b) Elaborate the role of land ceiling as an institutional reform in agricultural sector during the planning period of India. *4*

32. Argue in favour of the need for different forms of government intervention in education and health sectors. *4*

33. (a) (i) Explain any two similar developmental strategies followed by India and Pakistan in post 1947 era. *3*

(ii) State and discuss any two reasons for slow economic growth in Pakistan. *3*

OR

(b) (i) "China used the tool of Special Economic Zones for its economic development very effectively."
Justify the given statement with valid explanation. *3*

(ii) Mention and discuss any two indicators of human development, where China has performed well. *3*

34. Read the following text carefully :

The National-Level Multi-State Cooperative Society recently approved by the Union Cabinet for promoting organic production and exports, will help the farmers to increase their income manifold.

• • •

आगामी पाँच वर्षों में, प्रत्येक जिले में भूमि परीक्षण व उत्पादों के प्राकृतिक स्वरूप के चयन की व्यवस्था स्थापित की जाएगी।

सरकार ने सभी पंचायतों में एक सहकारी समिति स्थापित करने का भी निर्णय लिया है, जो यह सुनिश्चित करेगी कि केन्द्र सरकार की योजनाएँ कृषकों तक पहुँचें।

यूरिया के व्यापक उपयोग ने कृषि भूमि को हानि पहुँचाई है, तथा लाखों कृषक जैविक खेती की ओर अग्रसर हुए हैं।

बेहतर मूल्य पाने के लिए ऐसे उत्पादों के विपणन और प्रमाणीकरण की आवश्यकता है। इसके अलावा, यह भी सुनिश्चित करना है, कि नकली जैविक उत्पाद बाज़ार में न आएँ।

दिए गए गद्य व सामान्य ज्ञान के आधार पर निम्नलिखित प्रश्नों के उत्तर दीजिए :

(क) जैविक कृषि को परिभाषित कीजिए। *1*

(ख) जैविक कृषि के किन्हीं दो लाभों का उल्लेख कीजिए। *2*

(ग) जैविक उत्पादों को प्रोत्साहित करने के लिए सरकार द्वारा उठाए गए कदमों की व्याख्या कीजिए। *3*

• • •

The arrangements for testing of land and selection of natural form of products will be set up in each district in the coming five years.

Government has also decided to setup a cooperative society in all Panchayats, which will ensure that the Central Government's schemes reach the farmers.

Wide use of urea has spoiled farm land, and lakhs of farmers have moved towards organic farming.

To get better prices, there is a need for marketing and certification of such produce. Furthermore, steps must be taken to ensure that fake organic products do not hit the market.

On the basis of given text and common understanding, answer the following questions :

(a) Define organic farming. *1*

(b) State any two benefits of organic farming. *2*

(c) Explain the steps taken by the government to promote organic products. *3*

Marking Scheme
Strictly Confidential
(For Internal and Restricted use only)
Senior School Certificate Examination,2025

ECONOMICS (SUBJECT CODE – 030)

(PAPER CODE – 58/7/1)

General Instructions: -

1	You are aware that evaluation is the most important process in the actual and correct assessment of the candidates. A small mistake in evaluation may lead to serious problems which may affect the future of the candidates, education system and teaching profession. To avoid mistakes, it is requested that before starting evaluation, you must read and understand the spot evaluation guidelines carefully.
2	**"Evaluation policy is a confidential policy as it is related to the confidentiality of the examinations conducted, Evaluation done and several other aspects. Its' leakage to public in any manner could lead to derailment of the examination system and affect the life and future of millions of candidates. Sharing this policy/document to anyone, publishing in any magazine and printing in News Paper/Website etc may invite action under various rules of the Board and IPC."**
3	Evaluation is to be done as per instructions provided in the Marking Scheme. It should not be done according to one's own interpretation or any other consideration. Marking Scheme should be strictly adhered to and religiously followed. **However, while evaluating, answers which are based on latest information or knowledge and/or are innovative, they may be assessed for their correctness otherwise and due marks be awarded to them. In Class XII, while evaluating competency-based questions, please try to understand given answer and even if reply is not from marking scheme but correct competency is enumerated by the candidate, due marks should be awarded.**
4	The Marking scheme carries only suggested value points for the answers. These are in the nature of Guidelines only and do not constitute the complete answer. The students can have their own expression and if the expression is correct, the due marks should be awarded accordingly.
5	The Head-Examiner must go through the first five answer books evaluated by each evaluator on the first day, to ensure that evaluation has been carried out as per the instructions given in the Marking Scheme. If there is any variation, the same should be zero after delibration and discussion. The remaining answer books meant for evaluation shall be given only after ensuring that there is no significant variation in the marking of individual evaluators.
6	Evaluators will mark(√) wherever answer is correct. For wrong answer CROSS 'X" be marked. Evaluators will not put right (✓)while evaluating which gives an impression that answer is correct and no marks are awarded. **This is most common mistake which evaluators are committing.**
7	If a question has parts, please award marks on the right-hand side for each part. Marks awarded for different parts of the question should then be totalled up and written in the left-hand margin and encircled. This may be followed strictly.

8	If a question does not have any parts, marks must be awarded in the left-hand margin and encircled. This may also be followed strictly.
9	If a student has attempted an extra question, answer of the question deserving more marks should be retained and the other answer scored out with a note **"Extra Question"**.
10	No marks to be deducted for the cumulative effect of an error. It should be penalized only once.
11	A full scale of marks 80 has to be used. Please do not hesitate to award full marks if the answer deserves it.
12	Every examiner has to necessarily do evaluation work for full working hours i.e., 8 hours every day and evaluate 20 answer books per day in main subjects and 25 answer books per day in other subjects (Details are given in Spot Evaluation Guidelines). This is in view of the reduced syllabus and number of questions in question paper.
13	Ensure that you do not make the following common types of errors committed by the Examiner in the past:- ● Leaving answer or part thereof unassessed in an answer book. ● Giving more marks for an answer than assigned to it. ● Wrong totaling of marks awarded on an answer. ● Wrong transfer of marks from the inside pages of the answer book to the title page. ● Wrong question wise totaling on the title page. ● Wrong totaling of marks of the two columns on the title page. ● Wrong grand total. ● Marks in words and figures not tallying/not same. ● Wrong transfer of marks from the answer book to online award list. ● Answers marked as correct, but marks not awarded. (Ensure that the right tick mark is correctly and clearly indicated. It should merely be a line. Same is with the X for incorrect answer.) ● Half or a part of answer marked correct and the rest as wrong, but no marks awarded.
14	While evaluating the answer books if the answer is found to be totally incorrect, it should be marked as cross (X) and awarded zero (0)Marks.
15	Any un assessed portion, non-carrying over of marks to the title page, or totaling error detected by the candidate shall damage the prestige of all the personnel engaged in the evaluation work as also of the Board. Hence, in order to uphold the prestige of all concerned, it is again reiterated that the instructions be followed meticulously and judiciously.
16	The Examiners should acquaint themselves with the guidelines given in the "**Guidelines for spot Evaluation**" before starting the actual evaluation.
17	Every Examiner shall also ensure that all the answers are evaluated, marks carried over to the title page, correctly totalled and written in figures and words.
18	The candidates are entitled to obtain photocopy of the Answer Book on request on payment of the prescribed processing fee. All Examiners/Additional Head Examiners/Head Examiners are once again reminded that they must ensure that evaluation is carried out strictly as per value points for each answer as given in the Marking Scheme.

MARKING SCHEME

Senior School Certificate Examination 2025

ECONOMICS (Subject Code–030)

[Paper Code: 58/7/1]

Maximum Marks: 80

<table>
<tr><th>Q. No.</th><th>EXPECTED ANSWER / VALUE POINTS</th><th>Marks</th></tr>
<tr><td colspan="3">SECTION -A
(Macro Economics)</td></tr>
<tr><td>1.</td><td>Read the following statements carefully :
Statement 1: Keeping other things constant, there exists positive correlation between the price of foreign exchange and its demand.
Statement 2: The foreign exchange rate indicates a country’s purchasing power in international markets.
In the light of the given statements, choose the correct option from the following :
(A) Statement 1 is true and Statement 2 is false.
(B) Statement 1 is false and Statement 2 is true.
(C) Both Statements 1 and 2 are true.
(D) Both Statements 1 and 2 are false.
Ans. (B) Statement 1 is false and Statement 2 is true.</td><td>1</td></tr>
<tr><td>2.</td><td>Using the given information, complete the following table: (Choose the correct option)
<table>
<tr><td></td><td>2014-15</td><td>2016-17</td></tr>
<tr><td>Nominal GDP</td><td>6.5</td><td>9</td></tr>
<tr><td>Real GDP</td><td>…(i)…</td><td>7.2</td></tr>
<tr><td>GDP Deflator</td><td>100</td><td>…(ii)…</td></tr>
</table>
Options:
(A) 125, 100 (B)125,110
(C) 6.5, 125 (D) 100, 6.5
Ans. (C) 6.5, 125</td><td>1</td></tr>
<tr><td>3.</td><td>_____ releases data of money supply in India.
(Choose the correct option to fill in the blank)
(A) Corporation Bank
(B) Reserve Bank of India
(C) Commercial Banks
(D) State Bank of India
Ans. (B) Reserve Bank of India</td><td>1</td></tr>
<tr><td>4.</td><td>Read the following statements – Assertion (A) and Reason (R) carefully.
Choose the correct option from those given below:
Assertion (A): Shipping service provided by an Indian company to foreign companies will be recorded in the current account of Balance of Payments (BOP).
Reason (R): Current account of Balance of Payments (BOP) does not alter the status of the asset or liabilities of the residents of India.
Options:
(A) Both Assertion (A) and Reason (R) are true, and Reason (R) is the correct explanation of Assertion (A).
(B) Both Assertion (A) and Reason (R) are true, but Reason (R) is not the correct explanation of Assertion (A).</td><td></td></tr>
</table>

	(C) Assertion (A) is true, but Reason (R) is false. (D) Assertion (A) is false, but Reason (R) is true. **Ans. (A) Both Assertion (A) and Reason (R) are true and Reason (R) is the correct explanation of Assertion (A).**	**1**
5.	Commercial banks are regarded as money creators because: (Choose the correct option) (A) they purchase securities from the Central Bank. (B) loans provided by them create deposits. (C) they act as a banker to the government. (D) they regulate the lending rate in the economy **Ans. (B) loans provided by them create deposits.**	**1**
6.	Suppose, the consumption function is given as: C = 205 + 0.9 Y (where C = Total Consumption and Y = National Income) The value of Investment Multiplier (K) would be _____. (Choose the correct option to fill in the blank) (A) 0.09 (B) 10.0 (C) 0.9 (D) 9.0 **Ans. (B) 10.0**	**1**
7.	Marginal Propensity to Consume (MPC) exhibits the slope of _____ function. (Choose the correct option to fill in the blank) (A) Saving (B) Consumption (C) Production (D) Cost **Ans. (B) Consumption**	**1**
8.	Read the following statements carefully: *Statement 1:* Open Market Operations refers to purchase/sale of Government Securities (G-Sec) by the Central Bank. *Statement 2:* To decrease money supply, Central Bank will sell the Government Securities to commercial banks. In the light of the given statements, choose the correct option from the following: (A) Statement 1 is true and Statement 2 is false. (B) Statement 1 is false and Statement 2 is true. (C) Both Statements 1 and 2 are true. (D) Both Statements 1 and 2 are false. **Ans. (C) Both Statements 1 and 2 are true.**	**1**
9.	Aggregate expenditure in the economy during an accounting year is also known as _____. (Choose the correct option to fill in the blank) (A) Autonomous investment (B) Aggregate supply (C) Aggregate demand (D) Induced investment **Ans. (C) Aggregate demand**	**1**
10.	The 45° line in Keynesian economics indicates _____. (Choose the correct option to fill in the blank) (A) Income > Consumption (B) Savings > Investments (C) Consumption > Income (D) Income = Consumption **Ans. (D) Income = Consumption**	**1**

11. (a) Calculate the value of 'Sales' from the following data**:**

S. No.	Particulars	Amount (in ₹ lakh)
(i)	Subsidies	200
(ii)	Operating surplus	500
(iii)	Opening stock	100
(iv)	Closing stock	600
(v)	Intermediate consumption	3,000
(vi)	Consumption of fixed capital	700
(vii)	Profits	750
(viii)	Net Value Added at Factor Cost (NVA_{FC})	2,000

Ans. Value of Sales = (viii) – {(iv) – (iii)} + (v) – (i) + (vi) **1 ½**
= 2,000 – (600 – 100) + 3,000 – 200 + 700 **1**
= ₹ 5,000 lakh **½**

OR **3**

(b) State and explain any two precautions that must be taken while estimating national income by the income method.

Ans. Two precautions to be taken while estimating National Income by Income method are:

- **Transfer Income should not be included as they are unilateral in nature.** **1 ½**
- **Income from sale of second-hand goods should not be included as it does not add to the flow of goods and services in the economy in the current year.** **1 ½**

(Any other valid precaution to be awarded marks)

3

12. Identify and explain any one function of the Central Bank as indicated in the image given below:



Ans. One of the indicated functions of the Central Bank i.e. Reserve Bank of India (RBI) is the Banker's Bank and Supervisor. **1**

RBI accepts deposits from commercial banks and also advances loans to them as and when required. It maintains reserves of all commercial banks and utilizes it to settle inter-bank claims. Being the supreme authority of the banking system, it acts as the financier of last recourse to the commercial banks. RBI supervises, regulates and controls the commercial banks. **(Any other valid function to be awarded marks)** **2**

*Note: The following question is for the **Visually Impaired Candidates** only in lieu of **Q. No. 12.***

Explain any one function of the Central Bank.

Ans. Central Bank acts as the Banker's Bank and Supervisor. Central Bank accepts deposits from commercial banks and also advances loans to them as and when **3**

	required. It maintains reserves of all commercial banks and utilizes it to settle inter-bank claims. Being the supreme authority of the banking system, it acts as the financier of last recourse to the commercial banks. Central Bank supervises, regulates and controls the commercial banks. (Any other valid function to be awarded marks)	
13.	(i) "In an economy, ex-ante investment (I) exceeds ex-ante savings (S)." Explain the likely impact of the given situation on output, employment and income. **Ans. When ex-ante investment (I) exceeds ex-ante savings (S) it means households are planning to consume more than what the firms expected them to consume. This will lead to unintended decumulation of inventories. To restore the desired/intended level of inventories, producers may expand production in the economy which may increase the output, employment and income level. (To be marked as a whole)**	**3**
	(ii) Define excess demand. **Ans. Excess demand refers to a situation when Aggregate Demand (AD) exceeds Aggregate Supply (AS) corresponding to the full employment level of output.**	**1**
		4
14.	(i) Distinguish between Balance of Payments and Balance of Trade.	
(a)	**Ans. Balance of Payments (BoP) is an accounting statement that provides a systematic record of all economic transactions between residents of a country and the rest of the world over a givrn period of time. It includes transactions in goods, services and assets.**	**1 ½**
	Whereas,	
	Balance of Trade (BOT) is the difference between the value of exports and value of imports of goods of a country over a given period of time. It includes transactions in goods only.	**1 ½**
	(ii) Define Current Account Surplus. **Ans. Current Account Surplus (CAS) arises when receipts from exports of goods & services and unilateral transfers are greater than the payments for imports of goods & services and unilateral transfers.**	**1**
	OR	**4**
(b)	(i) Using suitable example, distinguish between Foreign Direct Investments (FDI) and Foreign Institutional Investments (FII). **Ans. Foreign Direct Investment (FDI) refers to direct investments from abroad in physical assets with a considerable degree of influence and control over the firm.**	**1 ½**
	Whereas;	
	Foreign Institutional Investment (FII) refers to investments from abroad in stocks, bonds or other financial assets and do not entail active management or control over the firm.	**1 ½**
	(ii) State one example of External Assistance as a component of capital account. **Ans. Bilateral loans (Any other valid example to be awarded marks)**	**1**
		4
15.	"Margin requirements are extremely helpful in correcting the situation of deflationary gap in an economy". Justify the given statement with valid arguments.	

	Ans. Margin requirement refers to the difference between the amount of the loan and the value of the security offered by the borrower against the loan. To correct the situation of the deflationary gap, the Central Bank may reduce the margin requirement. It may lead to an increase in the amount of loan available on the security offered. This will increase the availability of credit and consequently, the Aggregate Demand in the economy will increase. Thus, by altering the margin requirements, the Central Bank can alter the amount of loans made against securities by the banks. **(To be marked as a whole)**	**4**
16.	(i) "Domestic income is always less than national income."	
(a)	Do you agree with the given statement? Support your answer with valid arguments. **Ans. No. Net Factor Income from Abroad (NFIA) needs to be added to Domestic Income to arrive at the value of National Income. Domestic Income will be less than National Income, when NFIA is positive, i.e. factor income from abroad is greater than factor income to abroad. Whereas, Domestic Income will be more than National Income, when NFIA is negative i.e. factor income from abroad is less than factor income to abroad. On the other hand, if NFIA is zero, Domestic income will be equal to National Income.** **(To be marked as a whole)**	**3**
	(ii) Distinguish between positive externalities and negative externalities with suitable examples. **Ans. Positive externalities refer to benefits caused by one entity to another without being paid for it.**	**1**
	Example: Newly developed public park.	**½**
	Whereas;	
	Negative externalities refer to harms caused by one entity to another, without being penalised for it.	**1**
	Example: Smoke emitted by a factory.	**½**
	(Any other suitable example to be awarded marks)	
	OR	**6**
(b)	(i) "In a two-sector economy, consumption expenditure by households is always equal to aggregate expenditure on goods and services produced by the firms." Do you agree with the given statement ? Support your answer with a valid explanation. **Ans. Yes. In a two-sector economy model, households are the owners of factors of production (Land, Labour, Capital, Entrepreneur). Firms combine these factors of production to produce goods and services. They make factor payments (Rent, Wages, Interest, Profits) to households, which in turn, are completely spent by the households on the consumption of final goods and services.** **Thus, the income earned by the factors of production flows back to the production units in the form of aggregate consumption expenditure.** **(To be marked as a whole)**	**3**
	(ii) "Problem of Double Counting leads to overestimation of output in an economy." Justify the given statement with the help of suitable example. **Ans. Problem of double counting refers to counting the value of goods and services more than once. This leads to an overestimation of the output in the economy.**	**1½**
	Example: A farmer had produced ₹ 100 worth of wheat for which no inputs were required. The baker had to buy ₹ 50 worth of wheat to produce bread worth ₹ 200. To estimate the net contribution of the baker, the value of wheat (₹ 50) needs to be subtracted from the value of bread. Otherwise, ₹ 50 worth of wheat will be counted twice leading to the problem of double counting.	**1½**
		6

17.	Read the following text carefully : The Union Budget 2025-26 introduces a series of measures aimed at strengthening the Micro, Small, and Medium Enterprises (MSME) sector. It recognizes the role of MSMEs as one of the key engines in India's journey of development, along with agriculture, investment and exports. As a vital contributor to India's industrial landscape, the MSME sector plays a crucial role in manufacturing sector, exports and employment generation. The new budgetary provisions aim to build on this strong foundation by fostering innovation, enhancing competitiveness and ensuring better access to resources. Furthermore, the Government's ongoing initiatives like the Udyam registration portal, PM Vishwakarma, PMEGP, SFURTI, and the Public Procurement Policy continue to demonstrate a combined effort towards integrating and empowering MSMEs. On the basis of given text and common understanding, answer the following questions: (a) "MSMEs play a pivotal role in the India's journey of development" Do you agree with the given statement? Give valid reason in support of your answer. **Ans. Yes, Micro, Small, and Medium Enterprises (MSME) sector is one of the key engines in India's journey of development, along with agriculture, investment, and exports. The MSME sector plays a pivotal role in manufacturing sector, exports and employment generation. (To be marked as a whole)** (b) Explain key measures initiated by the Government for strengthening MSMEs. **Ans. The key measures initiated by the Government for strengthening MSMEs are supportive initiatives like Udyam registration portal, PM Vishwakarma, PMEGP, SFURTI, and the Public Procurement Policy to integrate and empower MSMEs. (To be marked as a whole)**	**3** **3** **6**
	SECTION – B **(Indian Economic Development)**	
18.	Identify, which of the following is ***not*** a feature of physical capital. (Choose the correct option) (i) Tangibility (ii) Tradability (iii) Immobility **Options:** (A) (i) and (ii) (B) (ii) and (iii) (C) (i) and (iii) (D) (i), (ii), and (iii) **Ans. (B) (ii) and (iii) or (C) (i) and (iii) or (D) (i), (ii) and (iii)**	**1**
19.	Prime beneficiary of the Minimum Support Price (MSP) fixed by the government is _____. (Choose the correct option to fill in the blank) (A) Labourer (B) Consumer (C) Trader (Buyer) (D) Farmer **Ans. (D) Farmer**	**1**
20.	Identify, the ***incorrect*** feature associated with the formal sector of employment in any economy. (Choose the correct option) (A) Job security (B) Social security benefits (C) Irregular payments (D) Fixed working hours **Ans. (C) Irregular payments**	**1**
21.	Read the following statements carefully :	

	Statement 1: In order to address the problem of water and air pollution in India, the Government of India had established the Central Pollution Control Board (CPCB). *Statement 2:* Deforestation leads to the permanent destruction of indigenous forests. In the light of the given statements, choose the correct option from the following: (A) Statement 1 is true and Statement 2 is false. (B) Statement 1 is false and Statement 2 is true. (C) Both Statements 1 and 2 are true. (D) Both Statements 1 and 2 are false. **Ans. (A) Statement 1 is true and Statement 2 is false.**	**1**
22.	Modernization is an important economic planning objective that focuses on _____. (Choose the correct option to fill in the blank) (i) Adoption of innovative technology (ii) Bringing positive change in social outlook (iii) Equal distribution of income and wealth (iv) Abolition of intermediaries **Options :** (A) (i) and (iv) (B) (i) and (iii) (C) (i), (iii) and (iv) (D) (i) and (ii) **Ans. (D) (i) and (ii)**	**1**
23.	Recently, India hosted and chaired the summit of _____ one of the regional and economic groupings. (Choose the correct option to fill in the blank) (A) SAARC (B) G8 (C) ASEAN (D) G20 **Ans. (D) G20**	**1**
24.	Under _____ unemployment the marginal productivity of a worker is equal to zero. (Choose the correct option to fill in the blank) (A) Seasonal (B) Structural (C) Involuntary (D) Disguised **Ans. (D) Disguised**	**1**
25.	_____ is one of the demographic indicators in which Pakistan is ahead of India and China. (Choose the correct option to fill in the blank) (A) Urbanisation (B) Fertility rate (C) Population density (D) Sex ratio **Ans. (B) Fertility rate**	**1**
26.	Outsourcing from India has become more intensified in recent times due to the expansion of the _____ sector. (Choose the correct option to fill in the blank) (A) Agriculture (B) Manufacturing (C) Information Technology (D) Construction **Ans. (C) Information Technology**	**1**
27.	Suppose the percentage of casual workers rises in an economy as compared to the regular workers. This situation may be known as _____ of workforce. (Choose the correct option to fill in the blank) (i) Formalisation (ii) Casualisation (iii) Unemployment **Options:** (A) (i) and (ii) (B) (ii) and (iii) (C) only (ii) (D) only (i) **Ans. (C) only (ii)**	**1**
28.	"Many economists believe that India paid a very heavy price for the British industrialisation, by becoming their feeder economy."	

(a)	Justify the given statement with any one valid argument. **Ans. During British rule, India was transformed into a mere exporter of raw materials for British industries, leading to a large export surplus. However, this came at a significant cost to India's economy, with essential commodities like food grains, clothes etc. becoming scarce in the domestic market. Policies like the commercialization of agriculture ensured maximum benefit for Britain. While India's exports grew, the benefits rarely reached the Indian population.** **(Any other valid argument to be awarded marks)**	**3**
	OR	
(b)	Critically appraise, infrastructural development in India during the British rule. **Ans. Under colonial rule, basic infrastructure facilities were developed in India. It enabled people to travel long distances thereby breaking geographical and cultural barriers. Moreover, it fostered commercialisation of Indian agriculture which adversely affected the self-sufficiency of the village economies in India. Furthermore, the colonial dispensation also took measures for developing the inland trade and sea lanes. Nevertheless, these measures were far from satisfactory.** **(To be marked as a whole)** **(Any other valid explanation to be awarded marks)**	**3**
29.	Some economists argue that : "Post-1991 economic reforms, globalisation played a major role in poor performance of the industrial sector." Present your arguments to justify the given statement. **Ans. With the onset of globalisation post-1991 economic reforms, developing countries are compelled to open up their economies to the greater flow of goods and capital from developed countries. Cheaper imports have, thus, replaced the demand for domestic goods. Domestic manufacturers are facing competition from foreign producers leading to a slowdown of industrial growth. Hence, Globalisation adversely affected the performance of the industrial sector. (To be marked as a whole)**	**3**
30.	Compare and analyse the following information related to distribution of employment in India : 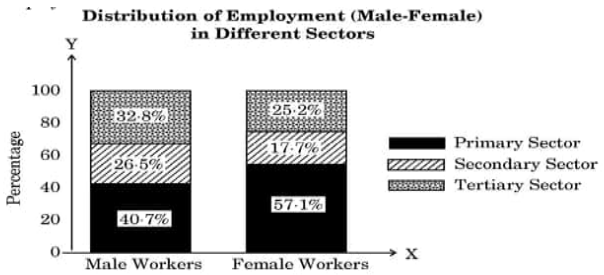 **Ans. In India, the Primary sector has emerged as a major source of employment with a greater concentration of female workers (57.1%) as compared to males (40.7%). The secondary sector accommodates 17·7% of female workers and 26·5% of male workers. The service sector consists of 32·8% of male and 25·2% of female workers. Thus, it can be concluded that men get more opportunities in both secondary and service sectors whereas females are mainly found working in the primary sector.** **(To be marked as a whole)**	**4**
	Note* : *The following question is for the* ***Visually Impaired Candidates *only, in lieu of Q. No. 30.*** "Compared to urban women, more rural women are found working." Justify the given statement with valid explanation. **Ans. Women in rural areas are more actively engaged in the economic activities as compared to their urban counterparts due to a paucity of resources. In rural areas,**	**4**

	women are compelled to work as their economic condition may force them to do so. Moreover, in urban areas, where men are able to earn high incomes, families discourage female members from taking up jobs. (To be marked as a whole)	
31. (a)	State and explain any two steps undertaken by the Government of India for the protection and promotion of Small-scale Industries between 1950 – 1990. **Ans. The steps initiated by Government of India for the protection and promotion of Small-scale Industries between 1950 – 1990 are:** • **Reservation of products: The production of several products was reserved for SSIs, depending upon their ability to manufacture these goods.** • **Financial Incentives: They were given concession such as lower excise duty and bank loans at lower interest rates.**	**½+1½** **½+1½**
	OR	**4**
(b)	Elaborate the role of land ceiling as an institutional reform in agricultural sector during the planning period of India. **Ans. After India attained independence, institutional reforms such as land ceiling were introduced to promote equity in the agricultural sector. Land ceiling refers to fixing the maximum size of agricultural land that could be owned by an individual. The purpose of the land ceiling was to reduce the concentration of land ownership in a few hands. By ensuring a more equitable distribution of land, the land ceiling was seen as a crucial measure to enhance agricultural productivity and contribute to overall growth in the sector. (To be marked as a whole)**	**4**
32.	Argue in favour of the need for different forms of government intervention in the education and health sectors. **Ans. Education and healthcare services play a vital role in socio-economic welfare for the masses. Government intervention is essential as spending on these sectors has long-term, irreversible impacts. Moreover, consumers often lack complete information about service quality and costs, leading to monopoly power and potential exploitation by private providers. To avoid this, the government must regulate these services, ensuring adherence to standards and fair pricing. Hence, it is imperative for the government to make these essential services accessible to all sections of society. (To be marked as a whole)**	**4**
33. (a)	(i) Explain any two similar developmental strategies followed by India and Pakistan in the post 1947 era. **Ans. Similar developmental strategies were adopted by India and Pakistan for their respective development paths as:** • **Both the nations have followed the path of mixed economic system involving the public as well as the private sector.** • **Both India and Pakistan adopted import substitution policy in order to protect their domestic industries from foreign competition.** **(Any other valid strategy to be awarded marks)** (ii) State and discuss any two reasons for slow economic growth in Pakistan. **Ans. The reasons for the slow growth in Pakistan are:** • **Volatile performance of agriculture sector: Pakistan experienced uneven agricultural growth, food supply situation which were dependent on good harvest and not on the institutional process of technical change.** • **Increasing dependence on foreign funds: Pakistan faced the problems of overdependence on remittances, rising foreign loans and increased difficulty in paying back the loans.** **(Any other valid reason to be awarded marks)**	**1 ½** **1 ½** **½ + 1** **½ + 1**
	OR	**6**

(b)	(i) "China used the tool of Special Economic Zones for its economic development very effectively." Justify the given statement with valid explanation. **Ans. The setting up of Special Economic Zones (SEZs) in China led to a substantial increase in Foreign Direct Investment (FDI) in the economy. With the massive inflow of foreign capital and technology, the productive capacity increased manifold, thereby contributing to the rapid economic development of China.** (ii) Mention and discuss any two indicators of human development, where China has performed well. **Ans. The two indicators of human development, where China has performed well are:** • **Maternal Mortality Rate: The Maternal Mortality Rate in China is low due to better public health facilities.** • **Poverty: The proportion of the population below the poverty line in China has reduced over time. (Any other valid indicator to be awarded marks)**	**3** **½+1** **½+1** **6**
34.	Read the following text carefully: The National-Level Multi-State Cooperative Society recently approved by the Union Cabinet for promoting organic production and exports, will help the farmers to increase their income manifold. The arrangements for testing of land and selection of natural form of products will be set up in each district in the coming five years. Government has also decided to set up a cooperative society in all Panchayats, which will ensure that the Central Government's schemes reach the farmers. Wide use of urea has spoiled farmland, and lakhs of farmers have moved towards organic farming. To get better prices, there is a need for marketing and certification of such produce. Furthermore, steps must be taken to ensure that fake organic products do not hit the market. On the basis of the given text and common understanding, answer the following questions: (a) Define organic farming. **Ans. Organic farming is a whole system of farming that restores, maintains and enhances the ecological balance.** (b) State any two benefits of organic farming. **Ans. Advantages of Organic farming are:** • **Soil conservation.** • **Nutritional food. (Any other valid benefit to be awarded marks)** (c) Explain the steps taken by the government to promote organic products. **Ans. The steps taken by the government to promote organic products are:** • **Testing of land and selection of natural form of products will be set up in each district in the coming five years.** • **Set up a cooperative society in all Panchayats, which will ensure that the Central Government's schemes reach the farmers.** **(Any other valid step to be awarded marks)**	**1** **1** **1** **1 ½** **1 ½** **6**

* * *

Marking Scheme Hindi Medium
Strictly Confidential
(For Internal and Restricted use only)
Senior School Certificate Examination,2025

ECONOMICS (SUBJECT CODE – 030)

(PAPER CODE – 58/7/1)

General Instructions: -

1	You are aware that evaluation is the most important process in the actual and correct assessment of the candidates. A small mistake in evaluation may lead to serious problems which may affect the future of the candidates, education system and teaching profession. To avoid mistakes, it is requested that before starting evaluation, you must read and understand the spot evaluation guidelines carefully.
2	**"Evaluation policy is a confidential policy as it is related to the confidentiality of the examinations conducted, Evaluation done and several other aspects. Its' leakage to public in any manner could lead to derailment of the examination system and affect the life and future of millions of candidates. Sharing this policy/document to anyone, publishing in any magazine and printing in News Paper/Website etc may invite action under various rules of the Board and IPC."**
3	Evaluation is to be done as per instructions provided in the Marking Scheme. It should not be done according to one's own interpretation or any other consideration. Marking Scheme should be strictly adhered to and religiously followed. **However, while evaluating, answers which are based on latest information or knowledge and/or are innovative, they may be assessed for their correctness otherwise and due marks be awarded to them. In Class XII, while evaluating competency-based questions, please try to understand given answer and even if reply is not from marking scheme but correct competency is enumerated by the candidate, due marks should be awarded.**
4	The Marking scheme carries only suggested value points for the answers.These are in the nature of Guidelines only and do not constitute the complete answer. The students can have their own expression and if the expression is correct, the due marks should be awarded accordingly.
5	The Head-Examiner must go through the first five answer books evaluated by each evaluator on the first day, to ensure that evaluation has been carried out as per the instructions given in the Marking Scheme. If there is any variation, the same should be zero after delibration and discussion. The remaining answer books meant for evaluation shall be given only after ensuring that there is no significant variation in the marking of individual evaluators.
6	Evaluators will mark(√) wherever answer is correct. For wrong answer CROSS 'X" be marked. Evaluators will not put right (✓)while evaluating which gives an impression that answer is correct and no marks are awarded. **This is most common mistake which evaluators are committing.**
7	If a question has parts, please award marks on the right-hand side for each part. Marks awarded for different parts of the question should then be totaled up and written in the left-hand margin and encircled. This may be followed strictly.

8	If a question does not have any parts, marks must be awarded in the left-hand margin and encircled. This may also be followed strictly.
9	If a student has attempted an extra question, answer of the question deserving more marks should be retained and the other answer scored out with a note **"Extra Question"**.
10	No marks to be deducted for the cumulative effect of an error. It should be penalized only once.
11	A full scale of marks 80 has to be used. Please do not hesitate to award full marks if the answer deserves it.
12	Every examiner has to necessarily do evaluation work for full working hours i.e., 8 hours every day and evaluate 20 answer books per day in main subjects and 25 answer books per day in other subjects (Details are given in Spot Guidelines).
13	Ensure that you do not make the following common types of errors committed by the Examiner in the past:- Giving more marks for an answer than assigned to it. ● Wrong totaling of marks awarded on an answer. ● Wrong transfer of marks from the inside pages of the answer book to the title page. ● Wrong question wise totaling on the title page. ● Leaving answer or part thereof unassessed in an answer book. ● Wrong totaling of marks of the two columns on the title page. ● Wrong grand total. ● Marks in words and figures not tallying/not same. ● Wrong transfer of marks from the answer book to online award list. ● Answers marked as correct, but marks not awarded. (Ensure that the right tick mark is correctly and clearly indicated. It should merely be a line. Same is with the X for incorrect answer.) ● Half or a part of answer marked correct and the rest as wrong, but no marks awarded.
14	While evaluating the answer books if the answer is found to be totally incorrect, it should be marked as cross (X) and awarded zero (0)Marks.
15	Any un assessed portion, non-carrying over of marks to the title page, or totaling error detected by the candidate shall damage the prestige of all the personnel engaged in the evaluation work as also of the Board. Hence, in order to uphold the prestige of all concerned, it is again reiterated that the instructions be followed meticulously and judiciously.
16	The Examiners should acquaint themselves with the guidelines given in the "**Guidelines for spot Evaluation**" before starting the actual evaluation.
17	Every Examiner shall also ensure that all the answers are evaluated, marks carried over to the title page, correctly totaled and written in figures and words.
18	The candidates are entitled to obtain photocopy of the Answer Book on request on payment of the prescribed processing fee. All Examiners/Additional Head Examiners/Head Examiners are once again reminded that they must ensure that evaluation is carried out strictly as per value points for each answer as given in the Marking Scheme.

अंकन योजना हिन्दी माध्यम
सीनियर स्कूल सर्टिफिकेट परीक्षा, 2025
अर्थशास्त्र (विषय कोड – 030)
[प्रश्न-पत्र कोड : 58/7/1]

अधिकतम अंक : 80

<table>
<tr><th>प्र.सं</th><th>अपेक्षित उत्तर/मूल्य बिंदु</th><th>अंक</th></tr>
<tr><td colspan="3">खण्ड - क
(समष्टि अर्थशास्त्र)</td></tr>
<tr><td>1.</td><td>निम्नलिखित कथनों का ध्यानपूर्वक अध्ययन कीजिए :
कथन 1: अन्य बातें समान रहने पर, विदेशी मुद्रा की कीमत और इसकी माँग के बीच सकारात्मक संबंध है।
कथन 2: विदेशी विनिमय दर एक देश की अंतर्राष्ट्रीय बाज़ारों में क्रय शक्ति को दर्शाती है।
दिए गए कथनों के आलोक में, निम्नलिखित में से सही विकल्प का चयन कीजिए :
(A) कथन 1 सत्य है और कथन 2 असत्य है।
(B) कथन 1 असत्य है और कथन 2 सत्य है।
(C) कथन 1 और 2 दोनों सत्य हैं।
(D) कथन 1 और 2 दोनों असत्य हैं।
उत्तर - (B) कथन 1 असत्य है और कथन 2 सत्य है।</td><td>1</td></tr>
<tr><td>2.</td><td>उपलब्ध सूचना का उपयोग करते हुए, निम्नलिखित तालिका को पूरा कीजिए : (सही विकल्प का चयन कीजिए)
<table>
<tr><td></td><td>2014 - 2015</td><td>2015 - 2016</td></tr>
<tr><td>मौद्रिक GDP</td><td>6.5</td><td>9</td></tr>
<tr><td>वास्तविक GDP</td><td>.....(i).....</td><td>7.2</td></tr>
<tr><td>GDP अपस्फीतिकारक</td><td>100</td><td>.....(ii).....</td></tr>
</table>
विकल्प :
(A) 125, 100 (B) 125, 110
(C) 6.5, 125 (D) 100, 6.5
उत्तर - (C) 6.5, 125</td><td>1</td></tr>
<tr><td>3.</td><td>भारत में _____ मुद्रा आपूर्ति के आँकड़े जारी करता है।
(रिक्त स्थान भरने के लिए सही विकल्प का चयन कीजिए)
(A) कॉर्पोरेशन बैंक
(B) भारतीय रिज़र्व बैंक
(C) वाणिज्यिक बैंक
(D) भारतीय स्टेट बैंक
उत्तर - (B) भारतीय रिज़र्व बैंक</td><td>1</td></tr>
<tr><td>4.</td><td>निम्लिखित कथनों – अभिकथन (A) और कारण (R) का ध्यानपूर्वक अध्ययन कीजिए। नीचे दिए गए विकल्पों में से सही विकल्प का चयन कीजिए :
अभिकथन (A) : किसी भारतीय कंपनी द्वारा विदेशी कंपनियों को प्रदान की जाने वाली नौवहन (shipping) सेवाओं को भुगतान संतुलन (BOP) के चालू खाते में दर्ज किया जाएगा।
कारण (R) : भुगतान संतुलन (BOP) का चालू खाता भारत के निवासियों की परिसंपत्तियों या देयताओं की स्थिति में परिवर्तन नहीं करता है।
विकल्प :
(A) अभिकथन (A) एवं कारण (R) दोनों सत्य हैं और कारण (R), अभिकथन (A) की सही व्याख्या है।
(B) अभिकथन (A) और कारण (R) दोनों सत्य हैं, लेकिन कारण (R), अभिकथन (A) की सही व्याख्या नहीं है।
(C) अभिकथन (A) सत्य है, लेकिन कारण (R) असत्य है।
(D) अभिकथन (A) असत्य है, लेकिन कारण (R) सत्य है।</td><td></td></tr>
</table>

	उत्तर - (A) अभिकथन (A) एवं कारण (R) दोनों सत्य हैं और कारण (R), अभिकथन (A) की सही व्याख्या है।	**1**
5.	वाणिज्यिक बैंकों को साख सृजक कहा जाता है, क्योंकि : (सही विकल्प का चयन कीजिए) (A) वे केंद्रीय बैंक से प्रतिभूतियाँ क्रय करते हैं। (B) उनके द्वारा प्रदत्त ऋण जमा राशि उत्पन्न करते हैं। (C) वे सरकार के बैंकर के रूप में कार्य करते हैं। (D) वे अर्थव्यवस्था में ऋण दर को विनियमित करते हैं। **उत्तर - (B) उनके द्वारा प्रदत्त ऋण जमा राशि उत्पन्न करते हैं।**	**1**
6.	मान लीजिए, उपयोग फलन दिया गया है : C = 205 + 0.9Y है। (जहाँ C = कुल उपभोग और Y = राष्ट्रीय आय) निवेश गुणक (K) का मूल्य _____ होगा। (रिक्त स्थान भरने के लिए सही विकल्प का चयन कीजिए) (A) 0.09 (B) 10.0 (C) 0.9 (D) 9.0 **उत्तर - (B) 10.0**	**1**
7.	सीमांत उपभोग प्रवृत्ति (MPC) को _____ फलन के ढलान द्वारा दर्शाया जाता है। (रिक्त स्थान भरने के लिए सही विकल्प का चयन कीजिए) (A) बचत (B) उपभोग (C) उत्पादन (D) लागत **उत्तर - (B) उपभोग**	**1**
8.	निम्नलिखित कथनों का ध्यानपूर्वक अध्ययन कीजिए : कथन 1 : खुले बाज़ार संचालन से तात्पर्य, केंद्रीय बैंक द्वारा सरकारी प्रतिभूतियों (G-Sec) के क्रय/विक्रय से है। कथन 2 : मुद्रा आपूर्ति को कम करने के लिए, केंद्रीय बैंक वाणिज्यिक बैंकों को सरकारी प्रतिभूतियाँ विक्रय करेगा। दिए गए कथनों के आलोक में, निम्नलिखित में से सही विकल्प का चयन कीजिए : (A) कथन 1 सत्य है और कथन 2 असत्य है। (B) कथन 1 असत्य है और कथन 2 सत्य है। (C) कथन 1 और 2 दोनों सत्य हैं। (D) कथन 1 और 2 दोनों असत्य हैं। **उत्तर - (C) कथन 1 और 2 दोनों सत्य हैं।**	**1**
9.	एक लेखांकन वर्ष के दौरान, अर्थव्यवस्था में समग्र व्यय को _____ के रूप में भी जाना जाता है। (रिक्त स्थान भरने के लिए सही विकल्प का चयन कीजिए) (A) स्वायत्त निवेश (B) समग्र पूर्ति (C) समग्र माँग (D) प्रेरित निवेश **उत्तर - (C) समग्र माँग**	**1**
10.	कीनेसियन अर्थशास्त्र में 45° रेखा _____ की ओर इंगित करती है। (रिक्त स्थान भरने के लिए सही विकल्प का चयन कीजिए) (A) आय > उपभोग (B) बचत > निवेश (C) उपभोग > आय (D) आय = उपभोग **उत्तर - (D) आय = उपभोग**	**1**
11. (क)	निम्नलिखित आँकड़ों से 'बिक्री' के मूल्य की गणना कीजिए :	

क्रम संख्या	विवरण	राशि (₹ लाख में)
(i)	उपदान	200
(ii)	प्रचालन अधिशेष	500
(iii)	प्रारंभिक स्टॉक	100
(iv)	अंतिम स्टॉक	600
(v)	मध्यवर्ती उपभोग	3,000
(vi)	स्थिर पूंजी का उपभोग	700
(vii)	लाभ	750
(viii)	साधन लागत पर शुद्ध मूल्य वृद्धि (NVA_{FC})	2,000

उत्तर - बिक्री का मूल्य = (viii) – {(iv) – (iii)} + (v) – (i) + (vi) **1 ½**

= 2,000 – (600 – 100) + 3,000 – 200 + 700 **1**

= ₹ 5,000 लाख **½**

3

अथवा

(ख) आय विधि द्वारा राष्ट्रीय आय का आकलन करते समय बरती जाने वाली किन्हीं दो सावधानियों को उल्लेखित कीजिए व समझाइए।

उत्तर: आय विधि द्वारा राष्ट्रीय आय का अनुमान लगाते समय निम्न दो सावधानियाँ बरती जानी चाहिए:

- **हस्तांतरण आय को सम्मिलित नहीं किया जाना चाहिए क्योंकि वे एकतरफा प्रकृति की होती हैं।** **1 ½**
- **पुरानी वस्तुओं की बिक्री से होने वाली आय को सम्मिलित नहीं किया जाना चाहिए क्योंकि यह चालू वर्ष में अर्थव्यवस्था में वस्तुओं और सेवाओं के प्रवाह में वृद्धि नहीं करती है।** **1 ½**

(कोई अन्य मान्य सावधानी के लिए भी अंक प्रदान किए जाएं)

3

12. नीचे दिए गए चित्र में दर्शाए गए, केंद्रीय बैंक के किसी एक कार्य की पहचान कीजिए व समझाइए :



उत्तर - केंद्रीय बैंक अर्थात भारतीय रिजर्व बैंक (RBI) के निर्दिष्ट कार्यों में से एक ' बैंकों का बैंक और पर्यवेक्षक' है। **1**

RBI वाणिज्यिक बैंकों से जमा स्वीकार करता है और आवश्यकता पड़ने पर उन्हें ऋण भी देता है। यह सभी वाणिज्यिक बैंकों के भंडार को बनाए रखता है और इसका उपयोग अंतर-बैंकीय दावों को निपटाने के लिए करता है। बैंकिंग प्रणाली का सर्वोच्च प्राधिकरण होने के नाते, यह वाणिज्यिक बैंकों के लिए अंतिम ऋणदाता के रूप में वित्तपोषक का कार्य करता है। RBI वाणिज्यिक बैंकों का पर्यवेक्षण, विनियमन और नियंत्रण करता है। **2**

(किसी अन्य प्रासंगिक कार्य के लिए भी अंक प्रदान किए जाएं)

3

	नोट: निम्नलिखित प्रश्न केवल **दृष्टिबाधित परीक्षार्थियों** के लिए प्रश्न संख्या **12** के स्थान पर है। केंद्रीय बैंक के किसी एक कार्य की व्याख्या कीजिए। **उत्तर - केंद्रीय बैंक ' बैंकों का बैंक और पर्यवेक्षक' के रूप में कार्य करता है। केंद्रीय बैंक वाणिज्यिक बैंकों से जमा स्वीकार करता है और आवश्यकता पड़ने पर उन्हें ऋण भी देता है। यह सभी वाणिज्यिक बैंकों के भंडार को बनाए रखता है और इसका उपयोग अंतर-बैंकीय दावों को निपटाने के लिए करता है। बैंकिंग प्रणाली का सर्वोच्च प्राधिकरण होने के नाते, यह वाणिज्यिक बैंकों के लिए अंतिम ऋणदाता के रूप में वित्तपोषक का कार्य करता है। केंद्रीय बैंक, वाणिज्यिक बैंकों का पर्यवेक्षण, विनियमन और नियंत्रण करता है। (किसी अन्य प्रासंगिक कार्य के लिए भी अंक प्रदान किए जाएं)**	**3**
13.	(i) "किसी अर्थव्यवस्था में, प्रत्याशित निवेश (I) प्रत्याशित बचत (S) से अधिक है।" दी गई स्थिति का उत्पाद, रोजगार व आय पर संभावित प्रभावों की व्याख्या कीजिए। **उत्तर - जब प्रत्याशित निवेश (I), प्रत्याशित बचत (S) से अधिक होता है, तो इसका अर्थ है कि गृहस्थ, फर्मों द्वारा अपेक्षित उपभोग से अधिक उपभोग करने की योजना बना रहे हैं। इससे मालसूची का अनपेक्षित विसंचय होगा। मालसूची के वांछित स्तर को बनाए रखने के लिए, उत्पादक अर्थव्यवस्था में उत्पादन में वृद्धि कर सकते हैं जिससे उत्पादन, रोजगार और आय के स्तर में वृद्धि हो सकती है।** **(पूरे उत्तर को एक साथ अंकित किया जाए)**	**3**
	(ii) अधिमांग को परिभाषित कीजिए। **उत्तर - अधिमांग से तात्पर्य उस स्थिति से है, जब उत्पादन के पूर्ण रोजगार स्तर के अनुरूप समग्र मांग (AD), समग्र पूर्ति (AS) से अधिक हो जाती है।**	**1**
		4
14. **(क)**	(i) भुगतान संतुलन व व्यापार संतुलन में विभेद स्पष्ट कीजिए। **उत्तर - भुगतान संतुलन (BoP) एक लेखा विवरण है जो, किसी एक राष्ट्र के निवासियों और शेष विश्व के मध्य एक निश्चित समयावधि में होने वाले सभी आर्थिक लेन-देन को अंकित करता है। इसमें वस्तुओं, सेवाओं और परिसंपत्तियों का लेन-देन सम्मिलित होता है।**	**1 ½**
	जबकि, **व्यापार संतुलन (BOT) किसी निश्चित अवधि में किसी राष्ट्र के लिए वस्तुओं के निर्यात के मूल्य और आयात के मूल्य के मध्य का अंतर है। इसमें केवल वस्तुओं में लेन-देन सम्मिलित होता है।**	**1 ½**
	(ii) चालू खाता अधिशेष को परिभाषित कीजिए। **उत्तर - चालू खाता अधिशेष (CAS) तब उत्पन्न होता है, जब वस्तुओं एवं सेवाओं के निर्यात और एकतरफा हस्तांतरण से प्राप्तियां, वस्तुओं एवं सेवाओं के आयात और एकतरफा हस्तांतरण के लिए भुगतान से अधिक होती हैं।**	**1**
	अथवा	**4**
(ख)	(i) उपयुक्त उदाहरण का उपयोग करते हुए, प्रत्यक्ष विदेशी निवेश (FDI) व विदेशी संस्थागत निवेश (FII) में अंतर स्पष्ट कीजिए। **उत्तर - प्रत्यक्ष विदेशी निवेश (FDI) का तात्पर्य भौतिक परिसंपत्तियों में प्रत्यक्ष विदेशी निवेश से है, जिसमें फर्म पर काफी हद तक प्रभाव और नियंत्रण होता है।**	**1 ½**
	जबकि; **विदेशी संस्थागत निवेश (FII) का तात्पर्य स्टॉक, बॉन्ड या अन्य वित्तीय परिसंपत्तियों में विदेशी निवेश से है। इसमें फर्म पर सक्रिय प्रबंधन या नियंत्रण शामिल नहीं होता है।**	**1 ½**
	(ii) पूंजी खाते के घटक के रूप में विदेशी सहायता (External Assistance) के किसी एक उदाहरण का उल्लेख कीजिए। **उत्तर - द्विपक्षीय ऋण (किसी अन्य प्रासंगिक उदाहरण के लिए भी अंक प्रदान किए जाएं)**	**1**
		4
15.	"किसी अर्थव्यवस्था में अपस्फीतिकारी अंतराल की स्थिति को सही करने में मार्जिन आवश्यकताएँ अत्यंत सहायक होती हैं।" दिए गए कथन का, मान्य तर्कों सहित औचित्य सिद्ध कीजिए। **उत्तर - मार्जिन आवश्यकता से तात्पर्य ऋण की राशि और ऋण के विरुद्ध उधार प्राप्तकर्ता द्वारा दिए गए ऋणधार के मूल्य के मध्य के अंतर से है। अपस्फीतिकारी अंतराल की स्थिति को ठीक करने के लिए, केंद्रीय बैंक मार्जिन आवश्यकता को कम कर सकता है। इससे दिए गए ऋणाधार पर उपलब्ध ऋण की मात्रा में वृद्धि हो सकती है।**	**4**

	इससे ऋण की उपलब्धता बढ़ेगी तथा इसके परिणामस्वरूप, अर्थव्यवस्था में समग्र मांग बढ़ेगी। **इस प्रकार, मार्जिन आवश्यकताओं को बदलकर, केंद्रीय बैंक, बैंकों द्वारा ऋणाधार के विरुद्ध दिए गए ऋण की राशि को परिवर्तित कर सकता है। (पूरे उत्तर को एक साथ अंकित किया जाए)**	
16. **(क)**	(i) "घरेलू आय सदैव राष्ट्रीय आय से कम होती है।" क्या आप दिए गए कथन से सहमत हैं? अपने उत्तर के समर्थन में मान्य तर्क प्रस्तुत कीजिए। **उत्तर - नहीं। राष्ट्रीय आय का मूल्य जानने के लिए विदेशों से शुद्ध कारक आय (NFIA) को घरेलू आय में जोड़ना होगा। जब NFIA सकारात्मक होगी अर्थात विदेश से कारक आय, विदेश को कारक आय से अधिक होगी तो घरेलू आय, राष्ट्रीय आय से कम होगी। जबकि, जब NFIA नकारात्मक होगी अर्थात विदेश से कारक आय, विदेश को कारक आय से कम होगी तो घरेलू आय, राष्ट्रीय आय से अधिक होगी, दूसरी ओर, यदि NFIA शून्य है, तो घरेलू आय, राष्ट्रीय आय के बराबर होगी।** **(पूरे उत्तर को एक साथ अंकित किया जाए)** (ii) उपयुक्त उदाहरणों सहित, धनात्मक बाह्यताओं व ऋणात्मक बाह्यताओं के अंतर स्पष्ट कीजिए। **उत्तर - सकारात्मक बाह्यताएँ एक इकाई द्वारा दूसरी इकाई को पहुँचाए जाने वाले उन लाभों को संदर्भित करती हैं जिनके लिए कोई भुगतान नहीं किया जाता।** **उदाहरण: नव विकसित सार्वजनिक पार्क।** **जबकि;** **नकारात्मक बाह्यताएँ एक इकाई द्वारा दूसरी इकाई को पहुंचाई जाने वाली हानि को संदर्भित करती हैं, जिसके लिए कोई अर्थदंड नहीं दिया जाता।** **उदाहरण: किसी कारखाने से निकलने वाला धुआँ।** **(किसी अन्य प्रासंगिक उदाहरण के लिए भी अंक प्रदान किए जाएं)** **अथवा**	**3** **1** **½** **1** **½** **6**
(ख)	(i) "एक द्वि-क्षेत्रक अर्थव्यवस्था में, गृहस्थों द्वारा किया गया उपभोग व्यय सदैव फर्मों द्वारा उत्पादित वस्तुओं व सेवाओं पर हुए समग्र व्यय के बराबर होता है।" क्या आप दिए गए कथन से सहमत हैं? अपने उत्तर के समर्थन में वैध व्याख्या दीजिए। **उत्तर - हाँ। एक द्वि-क्षेत्रीय अर्थव्यवस्था में, गृहस्थ उत्पादन के कारकों (भूमि, श्रम, पूंजी, उद्यमवृत्ति) के स्वामी होते हैं। फर्म, उत्पादन के इन कारकों की सहायता से वस्तुओं और सेवाओं का उत्पादन करती हैं और इसके लिए गृहस्थों को कारक भुगतान (किराया, मजदूरी, ब्याज, लाभ) करती हैं। बदले में, गृहस्थों द्वारा प्राप्त यह आय अंतिम वस्तुओं और सेवाओं के उपभोग पर पूरी तरह से व्यय कर दी जाती है। इस प्रकार, उत्पादन के कारकों द्वारा अर्जित आय, कुल उपभोग व्यय के रूप में उत्पादन इकाइयों को वापस प्रवाहित हो जाती है। (पूरे उत्तर को एक साथ अंकित किया जाए)** (ii) "दोहरी गणना समस्या के कारण किसी अर्थव्यवस्था में उत्पादन का अनुमान अधिक लग जाता है।" उपयुक्त उदाहरणों की सहायता से, दिए गए कथन का औचित्य सिद्ध कीजिए। **उत्तर - दोहरी गणना की समस्या से तात्पर्य, उत्पादन प्रक्रिया में वस्तुओं और सेवाओं के मूल्य की एक से अधिक बार गणना करने से है। इससे अर्थव्यवस्था में उत्पादन का अधिमूल्यांकन हो जाता है।** **उदाहरण: माना एक किसान ₹ 100 मूल्य के गेहूं का उत्पादन करता है जिसके लिए उसे किसी प्रकार के आगत की आवश्यकता नहीं थी। एक बेकर इस किसान से ₹ 50 के मूल्य का गेहूं खरीदकर ₹ 200 की ब्रेड बनाता है। इसमें बेकर के सकल योगदान का अनुमान लगाने के लिए ब्रेड के मूल्य (₹ 200) में से, गेहूं के मूल्य (₹ 50) को घटाया जाना चाहिए। अन्यथा गेहूं का मूल्य (₹ 50) दो बार गिना जाएगा। जिससे दोहरी गणना की समस्या उत्पन्न होगी।**	**3** **1½** **1½** **6**
17.	निम्नलिखित गद्य का ध्यानपूर्वक अध्ययन करें: केंद्रीय बजट 2025-26 में सूक्ष्म, लघु व मध्यम उद्यम (MSME) क्षेत्र को सुदृढ़ बनाने के उद्देश्य से कई उपाय प्रस्तुत किए गए हैं। यह कृषि, निवेश व निर्यात के साथ-साथ भारत की विकास यात्रा में MSME की भूमिका को एक प्रमुख इंजन के रूप में मान्यता देता है। भारत के औद्योगिक परिदृश्य में एक महत्वपूर्ण योगदानकर्ता के रूप में MSME क्षेत्र, विनिर्माण क्षेत्र, निर्यात व रोजगार सृजन में महत्वपूर्ण भूमिका निभाता है। नए बजटीय प्रावधानों का उद्देश्य नवाचार को प्रोत्साहित करके, प्रतिस्पर्धात्मकता में वृद्धि करके तथा संसाधनों तक बेहतर पहुँच सुनिश्चित करके, एक सुदृढ़ नींव का निर्माण करना है।	

	इसके अलावा उद्यम पंजीकरण पोर्टल, PM विश्वकर्मा, PMEGP, SFURTI तथा सार्वजनिक क्रय नीति जैसी सरकार की विद्यमान पहलों ने MSMEs को एकीकृत व सशक्त बनाने की दिशा में एक संयुक्त प्रयास को प्रदर्शित करना जारी रखा हैं। दिए गए गद्य व सामान्य ज्ञान के आधार पर निम्नलिखित प्रश्नों के उत्तर दीजिए: (क) "MSMEs भारत की विकास यात्रा में महत्वपूर्ण भूमिका निभाते हैं।" क्या आप दिए गए कथन से सहमत हैं? अपने उत्तर के समर्थन में मान्य तर्क प्रस्तुत कीजिए। **उत्तर - इस कथन से सहमत हुआ जा सकता है।** **सूक्ष्म, लघु व मध्यम उद्यम (MSME) क्षेत्र भारत की विकास यात्रा में कृषि, निवेश और निर्यात के साथ-साथ प्रमुख इंजनों में से एक है। MSME क्षेत्र विनिर्माण क्षेत्र, निर्यात और रोजगार सृजन में महत्वपूर्ण भूमिका निभाता है। (पूरे उत्तर को एक साथ अंकित किया जाए)**	**3**
	(ख) MSMEs को सशक्त करने के लिए सरकार द्वारा उठाए गए प्रमुख उपायों की व्याख्या कीजिए। **उत्तर - MSMEs को सशक्त करने के लिए सरकार द्वारा उठाए गए प्रमुख उपायों में उद्यम पंजीकरण पोर्टल, PM विश्वकर्मा, PMEGP, SFURTI और MSMEs को एकीकृत और सशक्त बनाने के लिए सार्वजनिक खरीद नीति जैसी सहायक पहल सम्मिलित हैं।** **(पूरे उत्तर को एक साथ अंकित किया जाए)**	**3** **6**
	खंड – ख **(भारतीय आर्थिक विकास)**	
18.	पहचान कीजिए कि, निम्नलिखित में से कौन-सी भौतिक पूँजी की एक विशेषता **नहीं** है। (सही विकल्प का चयन कीजिए) (i) मूर्तता (Tangibility) (ii) व्यापार योग्यता (Tradability) (iii) स्थिरता (Immobility) **विकल्प**: (A) (i) व (ii) (B) (ii) व (iii) (C) (i) व (iii) (D) (i), (ii) व (iii) **उत्तर - (B) (ii) व (iii) अथवा (C) (i) व (iii) अथवा (D) (i), (ii) व (iii)**	**1**
19.	सरकार द्वारा निर्धारित न्यूनतम समर्थन मूल्य (MSP) का मुख्य लाभार्थी _____ होता है। (रिक्त स्थान भरने के लिए सही विकल्प का चयन कीजिए) (A) मजदूर (B) उपभोक्ता (C) व्यापारी (क्रेता) (D) कृषक **उत्तर - (D) कृषक**	**1**
20.	किसी भी अर्थव्यवस्था में रोजगार के औपचारिक क्षेत्र से संबंधित **असत्य** विशेषता की पहचान कीजिए। (सही विकल्प का चयन कीजिए) (A) रोजगार सुरक्षा (B) सामाजिक सुरक्षा लाभ (C) अनियमित भुगतान (D) निश्चित कार्य घंटे **उत्तर - (C) अनियमित भुगतान**	**1**
21.	निम्नलिखित कथनों का ध्यानपूर्वक अध्ययन कीजिए: कथन 1: भारत में जल व वायु प्रदूषण की समस्या के समाधान हेतु भारत सरकार ने केंद्रीय प्रदूषण नियंत्रण बोर्ड (CPCB) की स्थापना की थी। कथन 2: वनों की कटाई से स्वदेशी वनों (Indigenous Forests) का स्थायी विनाश होता है। दिए गए कथनों के आलोक में, निम्नलिखित में से सही विकल्प का चयन कीजिए: (A) कथन 1 सत्य है और कथन 2 असत्य है। (B) कथन 1 असत्य है और कथन 2 सत्य है। (C) कथन 1 व 2 दोनों सत्य हैं। (D) कथन 1 व 2 दोनों असत्य हैं। **उत्तर - (A) कथन 1 सत्य है और कथन 2 असत्य है।**	**1**

22.	आधुनिकीकरण एक महत्वपूर्ण आर्थिक नियोजन उद्देश्य है, जो _____ पर केंद्रित होता है। (रिक्त स्थान भरने के लिए सही विकल्प का चयन कीजिए) (i) नवीन प्रौद्योगिकी को अपनाने (ii) सामाजिक दृष्टिकोण में सकारात्मक परिवर्तन लाने (iii) आय व संपत्ति के समान वितरण (iv) बिचौलियों के उन्मूलन **विकल्प**: (A) (i) और (iv) (B) (i) और (iii) (C) (i), (iii) और (iv) (D) (i) और (ii) **उत्तर - (D) (i) और (ii)**	**1**
23.	हाल में, भारत ने क्षेत्रीय व आर्थिक समूहों में से एक _____ के शिखर सम्मेलन की मेजबानी व अध्यक्षता की थी। (रिक्त स्थान भरने के लिए सही विकल्प का चयन कीजिए) (A) SAARC (B) G8 (C) ASEAN (D) G20 **उत्तर - (D) G20**	**1**
24.	_____ बेरोजगारी में किसी श्रमिक की सीमांत उत्पादकता शून्य के बराबर होती है। (रिक्त स्थान भरने के लिए सही विकल्प का चयन कीजिए) (A) मौसमी (B) संरचनात्मक (C) अनेच्छिक (D) प्रच्छन्न **उत्तर - (D) प्रच्छन्न**	**1**
25.	_____ जनसांख्यकीय सूचकों में से एक है, जिसमें पाकिस्तान, भारत व चीन से अग्रणी है। (रिक्त स्थान भरने के लिए सही विकल्प का चयन कीजिए) (A) शहरीकरण (B) प्रजनन दर (C) जनसंख्या घनत्व (D) लैंगिक अनुपात **उत्तर - (B) प्रजनन दर**	**1**
26.	_____ क्षेत्र के विस्तार के कारण, हाल के दिनों में, भारत से बाह्य प्रापण बहुत सशक्त हो गई है। (रिक्त स्थान भरने के लिए सही विकल्प का चयन कीजिए) (A) कृषि (B) उत्पादन (C) सूचना प्रौद्योगिकी (D) निर्माण **उत्तर - (C) सूचना प्रौद्योगिकी**	**1**
27.	मान लीजिए कि, किसी अर्थव्यवस्था में नियमित श्रमिकों की तुलना में आकस्मिक श्रमिकों के प्रतिशत में वृद्धि होती है। इस स्थिति को कार्यबल _____ के रूप में जाना जा सकता है। (i) औपचारिकीकरण (रिक्त स्थान भरने के लिए सही विकल्प का चयन कीजिए) (ii) अनियमितकरण (casualisation) (iii) बेरोजगारी **विकल्प**: (A) (i) और (ii) (B) (ii) और (iii) (C) केवल (ii) (D) केवल (i) **उत्तर - (C) केवल (ii)**	**1**
28. (क)	"कई अर्थशास्त्रियों का मानना है कि, भारत ने ब्रिटिश औद्योगीकरण के लिए उनकी पोषक अर्थव्यवस्था बनकर बहुत भारी कीमत चुकाई है।" किसी एक वैध तर्क द्वारा दिए गए कथन का औचित्य सिद्ध कीजिए। **उत्तर - ब्रिटिश शासन के दौरान, भारत ब्रिटिश उद्योगों के लिए कच्चे माल का निर्यातक बनकर रह गया, जिससे निर्यात अधिशेष में वृद्धि हुई। हालाँकि, इससे भारत की अर्थव्यवस्था को भारी नुकसान उठाना पड़ा, क्योंकि घरेलू बाजार में खाद्यान्न, कपड़े आदि जैसी आवश्यक वस्तुएँ दुर्लभ हो गईं। कृषि के व्यावसायीकरण जैसी नीतियों ने ब्रिटेन के लिए अधिकतम लाभ सुनिश्चित किया। जबकि, भारत के निर्यात में वृद्धि हुई, लेकिन इसका लाभ भारतीय लोगों तक शायद ही कभी पहुँच पाया।** **(किसी अन्य प्रासंगिक तर्क के लिए भी अंक प्रदान किए जाएं)**	**3**

	अथवा	
(ख)	ब्रिटिश शासन के दौरान भारत में बुनियादी ढांचे के विकास का आलोचनात्मक मूल्यांकन कीजिए। **उत्तर - औपनिवेशिक शासन के दौरान भारत में बुनियादी ढाँचे की सुविधाएँ विकसित की गईं। इसने लोगों को लंबी दूरी की यात्रा करने में सक्षम बनाया, जिससे भौगोलिक और सांस्कृतिक बाधाएँ टूट गईं। इसके अतिरिक्त, इसने भारतीय कृषि के व्यावसायीकरण को बढ़ावा दिया, जिसने भारत में ग्रामीण अर्थव्यवस्थाओं की आत्मनिर्भरता पर प्रतिकूल प्रभाव डाला। इसके साथ साथ, औपनिवेशिक शासन ने अंतर्देशीय व्यापार और समुद्री मार्गों के विकास के लिए भी कदम उठाए। फिर भी, ये उपाय संतोषजनक नहीं थे।** **(पूरे उत्तर को एक साथ अंकित किया जाए)** **(किसी अन्य प्रासंगिक स्पष्टीकरण के लिया भी अंक प्रदान किए जाएं)**	**3**
29.	कुछ अर्थशास्त्रियों का तर्क है कि: "1991 के आर्थिक सुधारों के उपरांत औद्योगिक क्षेत्र के खराब प्रदर्शन के लिए वैश्वीकरण ने एक प्रमुख भूमिका निभाई।" दिए गए कथन का औचित्य सिद्ध करने के लिए अपने तर्क प्रस्तुत कीजिए। **उत्तर - 1991 के आर्थिक सुधारों के उपरांत वैश्वीकरण के आरम्भ के साथ, विकासशील देशों को, विकसित देशों से वस्तुओं और पूंजी के अधिक प्रवाह के लिए अपनी अर्थव्यवस्थाओं को खोलने के लिए मजबूर होना पड़ा। इस प्रकार, सस्ते आयात ने घरेलू वस्तुओं की मांग को परिवर्तित कर दिया है। घरेलू निर्माताओं को विदेशी उत्पादकों से प्रतिस्पर्धा का सामना करना पड़ रहा है जिससे औद्योगिक विकास में मंदी आ रही है। इसलिए, वैश्वीकरण ने औद्योगिक क्षेत्र के प्रदर्शन को प्रतिकूल रूप से प्रभावित किया है।** **(पूरे उत्तर को एक साथ अंकित किया जाए)**	**3**
30.	भारत में रोजगार के वितरण से संबंधित निम्नलिखित जानकारी की तुलना व विश्लेषण कीजिए। **विभिन्न क्षेत्रों में रोजगार का वितरण (पुरुष-महिला)** 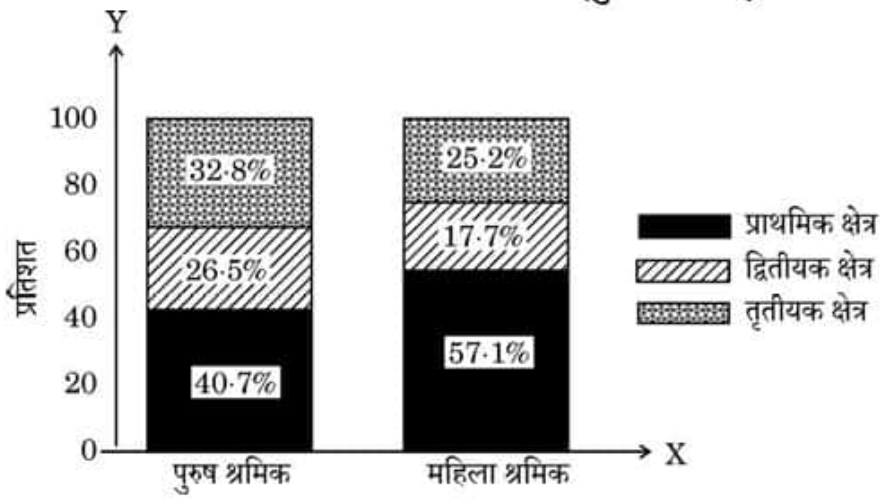 **उत्तर - भारत में, प्राथमिक क्षेत्र रोजगार के एक प्रमुख स्रोत के रूप में उभरा है, जिसमें पुरुषों (40.7%) की तुलना में महिला श्रमिकों (57.1%) की अधिक संख्या है। द्वितीयक क्षेत्र में 17·7% महिला श्रमिक और 26·5% पुरुष श्रमिक कार्यरत हैं। सेवा क्षेत्र में 32·8% पुरुष और 25·2% महिला श्रमिक हैं। इस प्रकार, यह निष्कर्ष निकाला जा सकता है कि पुरुषों को द्वितीयक और सेवा दोनों क्षेत्रों में अधिक अवसर मिलते हैं, जबकि महिलाएँ मुख्य रूप से प्राथमिक क्षेत्र में काम करती पाई जाती हैं।** **(पूरे उत्तर को एक साथ अंकित किया जाए)**	**4**
	नोट: निम्नलिखित प्रश्न केवल **दृष्टिबाधित परीक्षार्थियों** के लिए प्रश्न संख्या **30** के स्थान पर है। "शहरी महिलाओं की तुलना में, ग्रामीण महिलाएँ अधिक कार्यरत पाई जाती हैं।" वैध स्पष्टिकरण द्वारा दिए गए कथन की पुष्टि कीजिए। **उत्तर - ग्रामीण क्षेत्रों में महिलाएँ संसाधनों की कमी के कारण शहरी समकक्षों की तुलना में आर्थिक गतिविधियों में अधिक सक्रिय रूप से शामिल हैं। ग्रामीण क्षेत्रों में, महिलाओं को काम करने के लिए मजबूर किया जाता है क्योंकि उनकी आर्थिक स्थिति उन्हें ऐसा करने के लिए मजबूर करती है। इसके अतिरिक्त, शहरी क्षेत्रों में, जहाँ पुरुष उच्च आय अर्जित करने में सक्षम हैं, उनके परिवार, महिला सदस्यों को नौकरी करने से हतोत्साहित करते हैं।** **(पूरे उत्तर को एक साथ अंकित किया जाए)**	**4**

31. **(क)**	1950 – 1990 के मध्य लघु उद्योगों के संरक्षण व संवर्धन के लिए भारत सरकार द्वारा उठाए गए किन्हीं दो कदमों का उल्लेख व व्याख्या कीजिए। **उत्तर - 1950 से 1990 के मध्य लघु उद्योगों के संरक्षण व संवर्धन के लिए भारत सरकार द्वारा शुरू किए गए कदम इस प्रकार हैं:** • **उत्पादों का आरक्षण: कई उत्पादों का उत्पादन लघु उद्योगों के लिए आरक्षित किया गया था, जो इन वस्तुओं के निर्माण की उनकी क्षमता पर निर्भर करता था।** • **वित्तीय प्रोत्साहन: उन्हें कम उत्पाद शुल्क और कम ब्याज दरों पर बैंक ऋण जैसी सुविधाएं दी गईं।** **अथवा**	**½+1½** **½+1½** **4**
(ख)	भारत की योजना अवधि के दौरान कृषि क्षेत्र में संस्थागत सुधार के रूप में भूमि परिसीमन की भूमिका का विस्तार से वर्णन कीजिए। **उत्तर - भारत को स्वतंत्रता प्राप्ति के उपरांत, कृषि क्षेत्र में समानता को प्रोत्साहित करने के लिए भूमि परिसीमन (अधिकतम भूमि सीमा निर्धारण) जैसे संस्थागत सुधार शुरू किए गए। भूमि परिसीमन अर्थ है किसी व्यक्ति के स्वामित्व वाली कृषि भूमि का अधिकतम आकार तय करना। इसका उद्देश्य कुछ ही हाथों में भूमि स्वामित्व की एकाग्रता को कम करना था। भूमि परिसीमन को भूमि के अधिक न्यायसंगत वितरण को सुनिश्चित करके, कृषि उत्पादकता बढ़ाने और क्षेत्र में समग्र विकास में योगदान देने के लिए एक महत्वपूर्ण उपाय के रूप में देखा गया। (पूरे उत्तर को एक साथ अंकित किया जाए)**	**4**
32.	शिक्षा व स्वास्थ्य क्षेत्रों में विभिन्न प्रकार के सरकारी हस्तक्षेप की आवश्यकता के पक्ष में तर्क प्रस्तुत कीजिए। **उत्तर - शिक्षा और स्वास्थ्य सेवाएँ जन समुदाय के सामाजिक-आर्थिक कल्याण में महत्वपूर्ण भूमिका निभाती हैं। सरकार का इनमें हस्तक्षेप आवश्यक है क्योंकि इन क्षेत्रों पर व्यय करने से दीर्घकालिक, अनुतक्रमणीय प्रभाव पड़ते हैं। इसके अतिरिक्त, उपभोक्ताओं को अक्सर सेवा की गुणवत्ता और उसकी लागत के बारे में पूरी जानकारी नहीं होती है, जिससे निजी प्रदाताओं द्वारा एकाधिकार शक्ति और संभावित शोषण को प्रोत्साहन मिलता है। इससे बचने के लिए, सरकार को इन सेवाओं को विनियमित करना चाहिए, मानकों और उचित मूल्य निर्धारण का पालन सुनिश्चित करना चाहिए। इसलिए, सरकार के लिए इन आवश्यक सेवाओं को समाज के सभी वर्गों के लिए सुलभ बनाना अनिवार्य है।** **(पूरे उत्तर को एक साथ अंकित किया जाए)**	**4**
33. **(क)**	(i)1947 के उपरांत, भारत व पाकिस्तान द्वारा अपनाई गई किन्हीं दो समान विकास रणनीतियों की व्याख्या कीजिए। **उत्तर - भारत और पाकिस्तान ने अपने-अपने विकास पथों के लिए समान विकासात्मक रणनीतियाँ अपनाईं:** • **दोनों राष्ट्रों ने सार्वजनिक और निजी क्षेत्र को शामिल करते हुए मिश्रित अर्थव्यवस्था का मार्ग अपनाया है।** • **भारत और पाकिस्तान दोनों ने अपने घरेलू उद्योगों को विदेशी प्रतिस्पर्धा से बचाने के लिए आयात प्रतिस्थापन नीति अपनाई।** **(किसी अन्य प्रासंगिक रणनीति के लिया भी अंक प्रदान किए जाएं)** (ii) पाकिस्तान में धीमी आर्थिक वृद्धि के किन्हीं दो कारणों का उल्लेख व चर्चा कीजिए। **उत्तर - पाकिस्तान में विकास की धीमी गति के कारण हैं:** • **कृषि क्षेत्र का अस्थिर प्रदर्शन: पाकिस्तान में कृषि संवृद्धि और खाद्य आपूर्ति की स्थिति, तकनीकी परिवर्तन की संस्थागत प्रक्रिया पर आधारित ना होकर अच्छी फसल पर निर्भर थी जिसके कारण लगातार अस्थिरता का अनुभव किया गया।** • **विदेशी कोषों पर बढ़ती निर्भरता: पाकिस्तान की प्रेषण पर अत्यधिक निर्भरता, विदेशी ऋणों में वृद्धि और ऋणों को वापस चुकाने में बढ़ती कठिनाई की समस्याओं का सामना करना पड़ा।** **(किसी अन्य प्रासंगिक कारण के लिया भी अंक प्रदान किए जाएं)** **अथवा**	**1 ½** **1 ½** **½ + 1** **½ + 1** **6**
(ख)	"चीन ने आर्थिक विकास के लिए विशेष आर्थिक क्षेत्रों (Special Economic Zones) के उपकरण का अत्यंत प्रभावी रूप से उपयोग किया था।" दिए गए कथन का औचित्य मान्य व्याख्या द्वारा सिद्ध कीजिए।	

	उत्तर - चीन में विशेष आर्थिक क्षेत्रों (SEZs) की स्थापना से अर्थव्यवस्था में प्रत्यक्ष विदेशी निवेश (FDI) में पर्याप्त वृद्धि हुई है। विदेशी पूंजी और प्रौद्योगिकी के बड़े पैमाने पर अंतर्वाह के साथ, उत्पादक क्षमता कई गुना बढ़ गई, जिससे चीन के तेज़ आर्थिक विकास में योगदान मिला। (ii) मानव विकास के ऐसे किन्हीं दो संकेतकों का उल्लेख व चर्चा कीजिए, जहाँ चीन ने उल्लेखनीय प्रदर्शन किया है। **उत्तर - मानव विकास के दो संकेतक, जहां चीन ने अच्छा प्रदर्शन किया है:** • **मातृ मृत्यु दर: बेहतर सार्वजनिक स्वास्थ्य सुविधाओं के कारण चीन में मातृ मृत्यु दर कम है।** • **निर्धनता: चीन में निर्धनता रेखा से नीचे की जनसंख्या का अनुपात समय के साथ कम हुआ है।** **(किसी अन्य प्रासंगिक संकेतक के लिया भी अंक प्रदान किए जाएं)**	**3** **½+1** **½+1** **6**
34.	निम्नलिखित गद्य को ध्यानपूर्वक पढ़िए: हाल ही में, केंद्रीय मंत्रिमंडल द्वारा एक राष्ट्रीय स्तर की बहुराज्यीय सहकारी समिति के गठन को मंजूरी दी गई है। यह समिति जैविक उत्पादन व निर्यात को प्रोत्साहित कर कृषकों की आय में कई गुना वृद्धि करने में सहायता करेगी। आगामी पाँच वर्षों में, प्रत्येक जिले में भूमि परीक्षण व उत्पादों के प्राकृतिक स्वरूप के चयन की व्यवस्था स्थापित की जाएगी। सरकार ने सभी पंचायतों में एक सहकारी समिति स्थापित करने का भी निर्णय लिया है, जो यह सुनिश्चित करेगी कि केंद्र सरकार की योजनाएँ कृषकों तक पहुँचें। यूरिया के व्यापक उपयोग ने कृषि भूमि को हानि पहुँचाई है, तथा लाखों कृषक जैविक खेती की ओर अग्रसर हुए हैं। बेहतर मूल्य पाने के लिए ऐसे उत्पादों के विपणन और प्रमाणीकरण की आवश्यकता है। इसके अलावा, यह भी सुनिश्चित करना है कि नकली जैविक उत्पाद बाजार में न आएँ। दिए गए गद्य पर सामान्य ज्ञान के आधार पर निम्नलिखित प्रश्नों के उत्तर दीजिए: (क) जैविक कृषि को परिभाषित कीजिए। **उत्तर - जैविक कृषि, खेती करने की वह संपूर्ण पद्धति है जो पर्यावरणीय संतुलन को पुनः स्थापित करके उसका संरक्षण और संवर्धन करती है।** (ख) जैविक कृषि के किन्हीं दो लाभों का उल्लेख कीजिए। **जैविक कृषि के लाभ हैं:** • **मृदा संरक्षण।** • **पोषणयुक्त आहार।** **(किसी अन्य प्रासंगिक लाभ के लिया भी अंक प्रदान किए जाएं)** (ग) जैविक उत्पादों को प्रोत्साहित करने के लिए सरकार द्वारा उठाए गए कदमों की व्याख्या कीजिए। **उत्तर - जैविक उत्पादों को प्रोत्साहित करने के लिए सरकार द्वारा उठाए गए कदम हैं:** • **आगामी पाँच वर्षों में प्रत्येक जिले में भूमि परीक्षण और उत्पादों के प्राकृतिक स्वरूप के चयन की व्यवस्था की जाएगी।** • **सभी पंचायतों में एक सहकारी समिति स्थापित की जाएगी, जो यह सुनिश्चित करेगी कि केंद्र सरकार की योजनाएँ कृषकों तक पहुँचें।** **(किसी अन्य प्रासंगिक कदम के लिया भी अंक प्रदान किए जाएं)**	 <