Series : Z5YWX

SET~3

रोल नं.
Roll No.

प्रश्न-पत्र कोड
Q.P. Code 58/5/3

परीक्षार्थी प्रश्न-पत्र कोड को उत्तर-पुस्तिका के मुख-पृष्ठ पर अवश्य लिखें।
Candidates must write the Q.P. Code on the title page of the answer-book.

• • •

नोट

(I) कृपया जाँच कर लें कि इस प्रश्न-पत्र में मुद्रित पृष्ठ **27** हैं।

(II) प्रश्न-पत्र में दाहिने हाथ की ओर दिए गए प्रश्न-पत्र कोड को परीक्षार्थी उत्तर-पुस्तिका के मुख-पृष्ठ पर लिखें।

(III) कृपया जाँच कर लें कि इस प्रश्न-पत्र में **34** प्रश्न हैं।

(IV) **कृपया प्रश्न का उत्तर लिखना शुरू करने से पहले, उत्तर-पुस्तिका में यथा स्थान पर प्रश्न का क्रमांक अवश्य लिखें।**

(V) इस प्रश्न-पत्र को पढ़ने के लिए 15 मिनट का समय दिया गया है । प्रश्न-पत्र का वितरण पूर्वाह्न में 10.15 बजे किया जाएगा । 10.15 बजे से 10.30 बजे तक परीक्षार्थी केवल प्रश्न-पत्र को पढ़ेंगे और इस अवधि के दौरान वे उत्तर-पुस्तिका पर कोई उत्तर नहीं लिखेंगे।

NOTE

(I) Please check that this question paper contains **27** printed pages.

(II) Q.P. Code given on the right hand side of the question paper should be written on the title page of the answer-book by the candidate.

(III) Please check that this question paper contains **34** questions.

(IV) **Please write down the Serial Number of the question in the answer-book at the given place before attempting it.**

(V) 15 minute time has been allotted to read this question paper. The question paper will be distributed at 10.15 a.m. From 10.15 a.m. to 10.30 a.m., the candidates will read the question paper only and will not write any answer on the answer-book during this period.

#

• • •

अर्थशास्त्र

ECONOMICS

*निर्धारित समय : **3** घण्टे*
*Time allowed : **3** hours*

*अधिकतम अंक : **80***
*Maximum Marks : **80***

• • •

सामान्य निर्देश :

निम्नलिखित निर्देशों को ध्यानपूर्वक पढ़िए और उनका पालन कीजिए :

(i) *इस प्रश्न-पत्र में **34** प्रश्न हैं। **सभी** प्रश्न **अनिवार्य** हैं।*

(ii) *यह प्रश्न-पत्र **दो** खण्डों में विभाजित है :*
***खण्ड क** – समष्टि अर्थशास्त्र*
***खण्ड ख** – भारतीय आर्थिक विकास*

(iii) *इस प्रश्न-पत्र में **20** बहुविकल्पीय प्रकार के प्रश्न हैं। प्रत्येक प्रश्न **1** अंक का है।*

(iv) *इस प्रश्न-पत्र में **4** लघु-उत्तरीय प्रकार-I के प्रश्न हैं। प्रत्येक प्रश्न **3** अंकों का है। इन प्रश्नों के उत्तर 60 से 80 शब्दों में लिखे जाने चाहिए।*

(v) *इस प्रश्न-पत्र में **6** लघु-उत्तरीय प्रकार-II के प्रश्न हैं। प्रत्येक प्रश्न **4** अंकों का है। इन प्रश्नों के उत्तर 80 से 100 शब्दों में लिखे जाने चाहिए।*

(vi) *इस प्रश्न-पत्र में **4** दीर्घ-उत्तरीय प्रकार के प्रश्न हैं। प्रत्येक प्रश्न **6** अंकों का है। इन प्रश्नों के उत्तर 100 से 150 शब्दों में लिखे जाने चाहिए।*

(vii) *प्रत्येक प्रश्न के **सभी** भागों के उत्तर एक साथ लिखे जाने चाहिए।*

(viii) *इसके अतिरिक्त, ध्यान दें कि दृष्टिबाधित परीक्षार्थियों के लिए फोटो तथा मानचित्र, आदि आधारित प्रश्नों के स्थान पर एक अन्य प्रश्न दिया गया है। इन प्रश्नों के उत्तर केवल दृष्टिबाधित परीक्षार्थी ही लिखें।*

(ix) *प्रश्न-पत्र में कोई समग्र विकल्प नहीं है। यद्यपि, कुछ प्रश्नों में आंतरिक विकल्प का प्रावधान दिया गया है। इन प्रश्नों में से केवल एक ही प्रश्न का उत्तर लिखा जाए।*

खण्ड क

समष्टि अर्थशास्त्र

1. कीन्स के सिद्धांत के अंतर्गत, 'संदर्भ रेखा' (Reference line) मूल बिंदु से _____ कोण पर खींची जाने वाली एक सीधी रेखा है।

(रिक्त स्थान की पूर्ति के लिए सही विकल्प का चयन कीजिए) *1*

(A) 25°

(B) 45°

(C) 55°

(D) 75°

• • •

General Instructions :

Read the following instructions carefully and follow them :

(i) *This question paper contains **34** questions. **All** questions are **compulsory**.*

(ii) *This question paper contains **two** sections :*

***Section A** – Macro Economics*

***Section B** – Indian Economic Development*

(iii) *This question paper contains **20** Multiple Choice type questions. Each question carries **1** mark.*

(iv) *This question paper contains **4** Short Answer Type-I questions. Each question carries **3** marks. Answer these questions in 60 to 80 words.*

(v) *This question paper contains **6** Short Answer Type-II questions. Each question carries **4** marks. Answer these questions in 80 to 100 words.*

(vi) *This question paper contains **4** Long Answer type questions. Each question carries **6** marks. Answer these questions in 100 to 150 words.*

(vii) *Attempt **all** parts of a question together.*

(viii) *In addition to this, note that a separate question has been provided for Visually Impaired candidates in lieu of questions having visual inputs, map etc. Such questions are to be attempted by Visually Impaired candidates only.*

(ix) *There is no overall choice in the question paper. However, an internal choice has been provided in few questions. Only one of the choices in such questions has to be attempted.*

SECTION A
Macro Economics

1. Under the Keynesian theory, 'Reference Line' is a straight line passing through the origin drawn at an angle of _____.

(Choose the correct option to fill in the blank) *1*

(A) 25°

(B) 45°

(C) 55°

(D) 75°

• • •

2. 2023 – 24 के केन्द्रीय बज़ट में प्रस्तुत आँकड़ों के अनुसार, सरकार की कुल प्राप्तियाँ (ऋण के अतिरिक्त) तथा कुल व्यय क्रमश: ₹ 20 लाख करोड़ तथा ₹ 45 लाख करोड़ अनुमानित हैं। अत: _____ घाटे का मूल्य ₹ 25 लाख करोड़ होगा।

(रिक्त स्थान की पूर्ति के लिए सही विकल्प का चयन कीजिए) *1*

(A) राजस्व

(B) राजकोषीय

(C) व्यापार

(D) प्राथमिक

3. निम्नलिखित कथनों को ध्यानपूर्वक पढ़िए : *1*

कथन 1 : सीमांत उपभोग प्रवृत्ति (MPC) प्रति आय इकाई उपभोग को प्रदर्शित करता है।

कथन 2 : जैसे-जैसे किसी देश की राष्ट्रीय आय में वृद्धि होती है, उपभोग में आनुपातिक वृद्धि सदैव आय में वृद्धि से अधिक होती है।

दिए गए कथनों के आलोक में, निम्नलिखित में से सही विकल्प का चयन कीजिए :

(A) कथन 1 सत्य है और कथन 2 असत्य है।

(B) कथन 1 असत्य है और कथन 2 सत्य है।

(C) कथन 1 और 2 दोनों सत्य हैं।

(D) कथन 1 और 2 दोनों असत्य हैं।

4. किसी द्वि-क्षेत्रीय अर्थव्यवस्था में, _____ व _____ को जोड़कर समग्र पूर्ति का निर्धारण किया जा सकता है। (रिक्त स्थानों की पूर्ति के लिए सही विकल्प का चयन कीजिए) *1*

(A) उपभोग, निवेश

(B) निवेश, बचत

(C) उपभोग, बचत

(D) बचत, निर्यात

• • •

2. According to the data presented in the Union Budget 2023 – 24, the total receipts of the government (other than borrowings), and the total expenditure are estimated as ₹ 20 lakh crore and ₹ 45 lakh crore respectively. Therefore, the value of _____ deficit would be ₹ 25 lakh crore. (Choose the correct option to fill in the blank) *1*

(A) revenue

(B) fiscal

(C) trade

(D) primary

3. Read the following statements carefully : *1*

Statement 1 : Marginal Propensity to Consume (MPC) exhibits the consumption per unit of income.

Statement 2 : As the national income of a country rises, the proportionate increase in the consumption is always more than the increase in the income.

In the light of the given statements, choose the correct option from the following :

(A) Statement 1 is true and Statement 2 is false.

(B) Statement 1 is false and Statement 2 is true.

(C) Both Statements 1 and 2 are true.

(D) Both Statements 1 and 2 are false.

4. In a two-sector economy, Aggregate Supply can be determined by adding _____ and _____.

(Choose the correct option to fill in the blanks) *1*

(A) consumption, investments

(B) investments, savings

(C) consumption, savings

(D) savings, exports

• • •

5. निम्नलिखित कथनों को ध्यानपूर्वक पढ़िए : *1*

कथन 1 : किसी सरकार के लिए विदेशी सहायता (Foreign aids) पूँजीगत प्राप्तियाँ होती हैं।

कथन 2 : विनिवेश से सरकार की परिसम्पत्तियों में कमी आ सकती है।

दिए गए कथनों के आलोक में, निम्नलिखित में से सही विकल्प का चयन कीजिए :

(A) कथन 1 सत्य है और कथन 2 असत्य है।

(B) कथन 1 असत्य है और कथन 2 सत्य है।

(C) कथन 1 और 2 दोनों सत्य हैं।

(D) कथन 1 और 2 दोनों असत्य हैं।

6. निम्नलिखित में से उस स्थिति को पहचानिए, जो किसी राष्ट्र के भुगतान संतुलन (BOP) खाते में चालू खाते अधिशेष (CAS) को इंगित करती है। (सही विकल्प का चयन कीजिए) *1*

(A) चालू खाते की प्राप्तियों का चालू खाते के भुगतानों पर आधिक्य

(B) चालू खाते की प्राप्तियों व चालू खाते के भुगतानों में समानता

(C) चालू खाते के भुगतानों का चालू खाते की प्राप्तियों पर आधिक्य

(D) चालू खाते के भुगतानों का पूँजी खाते की प्राप्तियों पर आधिक्य

7. बाज़ार मूल्य पर शुद्ध मूल्य वृद्धि (NVA_{MP}) का मूल्य प्राप्त करने के लिए, बाज़ार मूल्य पर सकल वर्धित मूल्य (GVA_{MP}) में/में से _____ को _____ जाना चाहिए।

(रिक्त स्थानों की पूर्ति के लिए सही विकल्प का चयन कीजिए) *1*

(A) मूल्यह्रास, जोड़ा (B) मूल्यह्रास, घटाया

(C) शुद्ध अप्रत्यक्ष कर, घटाया (D) शुद्ध अप्रत्यक्ष कर, जोड़ा

8. पहचान कीजिए कि, निम्नलिखित में से कौन-सा एक सार्वजनिक वस्तु को वर्णित ***नहीं*** करता है। *1*

(सही विकल्प का चयन कीजिए)

(A) सरकार द्वारा उपलब्ध कराए गए नि:शुल्क टीके (वैक्सीन)

(B) सेना द्वारा प्रदत्त रक्षा सेवाएँ

(C) किसी व्यक्ति द्वारा रेलवे टिकट का क्रय

(D) किसी शहर की नगरपालिका द्वारा स्थापित स्ट्रीट लाइट (Street light)

• • •

5. Read the following statements carefully : *1*

Statement 1 : Foreign aids are the capital receipts for the government.

Statement 2 : Disinvestments may lead to a decrease in the assets of the government.

In the light of the given statements, choose the correct option from the following :

(A) Statement 1 is true and Statement 2 is false.

(B) Statement 1 is false and Statement 2 is true.

(C) Both Statements 1 and 2 are true.

(D) Both Statements 1 and 2 are false.

6. From the following, identify the situation which indicates the Current Account Surplus (CAS) in Balance of Payments (BOP) account of a nation. *1*

(A) Excess of receipts on current account over the payments on current account.

(B) Equality of receipts on current account and payments on current account.

(C) Excess of payments on current account over receipts on current account.

(D) Excess of payments on current account over receipts on capital account.

7. To arrive at the value of Net Value Added at Market Price (NVA_{MP}), _____ must be _____ to/from Gross Value Added at Market Price (GVA_{MP}). (Choose the correct option to fill in the blanks) *1*

(A) depreciation, added (B) depreciation, subtracted

(C) net indirect taxes, subtracted (D) net indirect taxes, added

8. Identify, which of the following does ***not*** represent a public good. *1*

(Choose the correct option)

(A) Free vaccines provided by the government

(B) Defence services provided by the military

(C) Purchase of railway ticket by an individual

(D) Street light installed by a city municipality

• • •

9. विदेशी विनिमय दर निर्धारण में माँग व पूर्ति की बाज़ार शक्तियाँ _____ विनिमय दर प्रणाली के अंतर्गत सक्रिय रूप से परस्पर क्रिया करती हैं।

(रिक्त स्थान की पूर्ति के लिए सही विकल्प का चयन कीजिए) *1*

(A) स्थिर (B) नम्य

(C) प्रबंधित तिरती (D) स्थिर तिरती

10. निम्नलिखित कथनों को ध्यानपूर्वक पढ़िए : *1*

कथन 1 : अवस्फीतिकारी अंतराल के दौरान, किसी राष्ट्र का केन्द्रीय बैंक रेपो (Repo) दर में वृद्धि कर सकता है।

कथन 2 : सरकार खुले बाज़ार में सरकारी प्रतिभूतियों (G-Sec) के क्रय द्वारा अवस्फीतिकारी अंतराल को कम कर सकती है।

दिए गए कथनों के आलोक में, निम्नलिखित में से सही विकल्प का चयन कीजिए :

(A) कथन 1 सत्य है और कथन 2 असत्य है।

(B) कथन 1 असत्य है और कथन 2 सत्य है।

(C) कथन 1 और 2 दोनों सत्य हैं।

(D) कथन 1 और 2 दोनों असत्य हैं।

11. "भारत के आर्थिक सर्वेक्षण 2022 – 23 के अनुसार, भू-राजनीतिक संघर्ष के प्रादुर्भाव के कारण उर्वरक व ईंधन के अंतर्राष्ट्रीय मूल्यों में वृद्धि हुई थी। अत: लोगों की सहायता सुनिश्चित करने के लिए ईंधन व उर्वरक उपदान की आवश्यकता में बढ़ोतरी हुई थी।"

दिए गए गद्य के आधार पर, सरकार के इंगित बजट उद्देश्य की पहचान व व्याख्या कीजिए। *3*

12. (क) मूल्य वृद्धि विधि के अंतर्गत, राष्ट्रीय आय के आकलन से संबंधित चरणों का उल्लेख कीजिए। *3*

अथवा

(ख) निम्नलिखित काल्पनिक आँकड़ों के आधार पर, 2020 – 21 को आधार वर्ष मानते हुए, वर्ष 2022 – 23 में वास्तविक सकल घरेलू उत्पाद (GDP) में प्रतिशत परिवर्तन की गणना कीजिए। *3*

(सभी आँकड़े ₹ करोड़ में)

वर्ष	*नाममात्र सकल घरेलू उत्पाद*	*नाममात्र सकल घरेलू उत्पाद (आधार वर्ष के मूल्यों के अनुसार समायोजित)*
2020 – 21	3,000	5,000
2022 – 23	4,000	6,000

• • •

9. Market forces of demand and supply, actively interact under _____ exchange rate system to determine the foreign exchange rate.

(Choose the correct option to fill in the blank) *1*

(A) fixed (B) flexible

(C) managed floating (D) fixed floating

10. Read the following statements carefully : *1*

Statement 1 : During deflationary gap, the Central Bank of a country may increase the repo rate.

Statement 2 : The government can reduce the deflationary gap by purchasing Government Securities (G-Sec) in the open market.

In the light of the given statements, choose the correct option from the following :

(A) Statement 1 is true and Statement 2 is false.

(B) Statement 1 is false and Statement 2 is true.

(C) Both Statements 1 and 2 are true.

(D) Both Statements 1 and 2 are false.

11. "As per the Economic Survey of India 2022 – 23, due to the outbreak of geopolitical conflict, the result was higher international prices for fertilizer and fuel. Thus, there was a higher fuel and fertilizer subsidy requirement for supporting the people."

On the basis of given text, identify and explain the indicated objective of the government budget. *3*

12. (a) State the steps pertaining to the estimation of National Income, under the Value Added Method. *3*

OR

(b) On the basis of the following hypothetical data, calculate the percentage change in Real Gross Domestic Product (GDP) in the year 2022 – 23, using 2020 – 21 as the base year. *3*

(All figures in ₹ crore)

Year	*Nominal GDP*	*Nominal GDP (Adjusted to Base Year Price)*
2020 – 21	3,000	5,000
2022 – 23	4,000	6,000

• • •

13. निम्नलिखित गद्य का ध्यानपूर्वक अध्ययन कीजिए :

एक अर्थव्यवस्था में, समग्र माँग में उल्लेखनीय कमी ने, देश के भविष्य की विकास संभावनाओं के बारे में चिंताएँ उत्पन्न कर दी हैं । यह आर्थिक मंदी, गृहस्थों के विश्वास में वृद्धि करने तथा आर्थिक गतिविधि को प्रोत्साहित करने के लिए रणनीतिक उपायों की तत्काल आवश्यकता को रेखांकित करती है।

उपर्युक्त गद्य तथा सामान्य ज्ञान के आधार पर, उन उपायों की व्याख्या कीजिए जिन्हें सरकार निर्दिष्ट स्थिति को स्थिर करने के लिए कर सकती है। *4*

14. (क) "2023 – 24 के दौरान, US $ 70·9 Bn के प्रत्यक्ष विदेशी निवेश (FDI) अंतर्वाह व US $ 32·4 Bn के शुद्ध विदेशी पोर्टफोलियो निवेश (FDI) अंतर्वाह के साथ भारतीय अर्थव्यवस्था में तीव्र परिवर्तन का अनुभव किया गया है।"

(i) उपर्युक्त आर्थिक चरों के मध्य अंतर स्पष्ट कीजिए। *2*

(ii) भुगतान संतुलन के किस खाते में उपर्युक्त मदों को दर्ज किया जाएगा व क्यों ? *2*

अथवा

(ख) व्याख्या कीजिए कि, स्वायत्त लेन-देन किस प्रकार समायोजन लेन-देन से भिन्न होते हैं। *4*

15. मान लीजिए कि दो काल्पनिक अर्थव्यवस्थाओं A व B के लिए, सीमांत उपभोग प्रवृत्ति (MPC) का मान क्रमश: 0·5 तथा 0·8 है।

दोनों अर्थव्यस्थाओं के लिए, स्वायत्त उपभोग ($\overline{c}$) = ₹ 400 करोड़ है तथा निवेश व्यय (I) = ₹ 2,000 करोड़ है।

निम्नलिखित की गणना कीजिए :

(क) अर्थव्यवस्था A के लिए आय का सम स्तर (Break-even level)। *2*

(ख) अर्थव्यवस्था B के लिए आय का संतुलन स्तर। *2*

16. (क) "किसी राष्ट्र में, नियमित आर्थिक संचालन, सुचारु आर्थिक गतिविधियाँ लेनदेन को सुविधाजनक बनाने के लिए विनिमय के एक स्थिर माध्यम पर निर्भर करता है।"

मुद्रा के निर्दिष्ट कार्य पर संक्षेप में चर्चा कीजिए। *3*

(ख) मुद्रा आपूर्ति के M_1 माप का अर्थ व घटकों का उल्लेख कीजिए। *2*

(ग) साख गुणक की गणना करने का सूत्र लिखिए। *1*

• • •

13. Read the following text carefully :

In an economy, a significant reduction in Aggregate demand raised concerns about future growth prospects of the country. This economic downturn underscores the urgent need for strategic measures to boost confidence of households and stimulate economic activities.

Based on the above text and common understanding, explain the measures which the government may take to stabilise the indicated situation. *4*

14. (a) "The Indian economy has witnessed a sharp turnaround during 2023 – 24 with Foreign Direct Investments (FDI) inflows of US $ 70·9 Bn and net Foreign Portfolio Investments (FPI) inflows of US $ 32·4 Bn."

(i) Distinguish between the above mentioned economic variables. *2*

(ii) In which account of Balance of Payments will the given variables be entered and why ? *2*

OR

(b) Explain how Accommodating Transactions differ from Autonomous Transactions. *4*

15. Suppose for two imaginary economies A and B, the value of Marginal Propensity to Consume (MPC) stands at 0·5 and 0·8 respectively.

For both the economies, Autonomous Consumption ($\overline{c}$) = ₹ 400 crore and Investment Expenditure (I) = ₹ 2,000 crore.

Calculate the following :

(a) Break-even level of income for Economy A. *2*

(b) Equilibrium level of income for Economy B. *2*

16. (a) "In a country, routine economic operations rely on a stable medium, to facilitate transactions for maintaining smooth economic activities."

Discuss briefly the indicated function of money. *3*

(b) State the meaning and components of M_1 measure of money supply. *2*

(c) State the formula to compute Credit Multiplier. *1*

• • •

17. (क) (i) किसी राष्ट्र में 20 नए उपरिगामी (flyovers) के निर्माण से अर्थव्यवस्था में सकल घरेलू उत्पाद (GDP) व कल्याण पर संभावित प्रभावों की व्याख्या कीजिए। *2*

(ii) मान लीजिए कि, एक काल्पनिक अर्थव्यवस्था में केवल तीन फर्में A, B और C हैं। एक निश्चित समयावधि के दौरान, उनके द्वारा निम्नलिखित लेनदेन किए गए हैं :

(I) फर्म A ने फर्म B को ₹ 2,000 तथा फर्म C को ₹ 1,200 के मूल्य का माल विक्रय किया।

(II) फर्म B ने फर्म A को ₹ 1,100 तथा फर्म C को ₹ 3,500 के मूल्य का माल विक्रय किया।

(III) फर्म C ने गृहस्थों को ₹ 5,700 के मूल्य के माल का अंतिम उपभोग के लिए विक्रय किया।

शुद्ध अप्रत्यक्ष करों का मूल्य ₹ 200 मानते हुए, साधन लागत पर सकल घरेलू उत्पाद (GDP_{FC}) के मूल्य का अनुमान लगाइए। *4*

अथवा

(ख) (i) "सभी उपभोग वस्तुएँ टिकाऊ प्रकृति की होती हैं।"
वैध तर्क से दिए गए कथन का समर्थन या खंडन कीजिए। *3*

(ii) दिए गए आँकड़ों के आधार पर, राष्ट्रीय आय (NNP_{FC}) के मूल्य का अनुमान लगाइए : *3*

क्र.सं.	*मदें*	*राशि (₹ करोड़ में)*
(i)	घरेलू उपभोग व्यय	1,800
(ii)	सकल व्यापारिक स्थायी पूँजी निर्माण	1,150
(iii)	सकल आवासीय निर्माण व्यय	1,020
(iv)	सरकारी अंतिम उपभोग व्यय	2,170
(v)	निर्यात पर आयात का आधिक्य	720
(vi)	मालसूची (Inventory) निवेश	540
(vii)	सकल सार्वजनिक निवेश	1,300
(viii)	शुद्ध अप्रत्यक्ष कर	240
(ix)	विदेशों से प्राप्त शुद्ध कारक आय	(–) 250
(x)	स्थायी पूँजी का उपभोग	440

• • •

17. (a) (i) Explain the likely impact of construction of 20 new flyovers in a nation on Gross Domestic Product (GDP) and welfare in the economy. *2*

(ii) Suppose, there are only three firms in a hypothetical economy, viz. A, B and C. During a given period of time, the following transactions were undertaken by them :

(I) Firm A sold goods worth ₹ 2,000 to Firm B and ₹ 1,200 to Firm C.

(II) Firm B sold goods worth ₹ 1,100 to Firm A and ₹ 3,500 to Firm C.

(III) Firm C sold to households for final consumption, goods worth ₹ 5,700.

Estimate the value of Gross Domestic Product at Factor Cost (GDP_{FC}), assuming the value of Net Indirect Taxes to be ₹ 200. *4*

OR

(b) (i) "All consumption goods are durable in nature."
Defend or refute the given statement with a valid argument. *3*

(ii) On the basis of the given data, estimate the value of National Income (NNP_{FC}) : *3*

S.No.	*Items*	*Amount (in ₹ Crore)*
(i)	Household Consumption Expenditure	1,800
(ii)	Gross Business Fixed Capital Formation	1,150
(iii)	Gross Residential Construction Expenditure	1,020
(iv)	Government Final Consumption Expenditure	2,170
(v)	Excess of Imports over Exports	720
(vi)	Inventory Investments	540
(vii)	Gross Public Investments	1,300
(viii)	Net Indirect Taxes	240
(ix)	Net Factor Income from Abroad	(–) 250
(x)	Consumption of Fixed Capital	440

• • •

खण्ड ख

भारतीय आर्थिक विकास

18. पहचान कीजिए कि, पर्यावरण के कार्यों के संदर्भ में निम्नलिखित में से कौन-सा कथन ***असत्य*** है ?

(सही विकल्प का चयन कीजिए) *1*

(A) पर्यावरण संसाधन उपलब्ध कराता है।

(B) पर्यावरण अपव्यय को अवशोषित करता है।

(C) पर्यावरण जीवन का पोषण करता है।

(D) पर्यावरण जीवन की गुणवत्ता का क्षय करता है।

19. निम्नलिखित कथनों – अभिकथन (A) और कारण (R) का अध्ययन कीजिए।
नीचे दिए गए विकल्पों में से सही विकल्प का चयन कीजिए : *1*

अभिकथन (A) : 1991 में प्रारंभ किए गए वित्तीय क्षेत्र सुधारों के अंतर्गत, बैंकों में विदेशी निवेश की सीमा लगभग 74% तक बढ़ा दी गई थी।

कारण (R) : 1991 के उपरांत, विदेशी संस्थागत निवेशकों (FIIs) को भारतीय वित्तीय बाज़ारों में निवेश करने की अनुमति दे दी गई थी।

विकल्प :

(A) अभिकथन (A) और कारण (R) दोनों सत्य हैं तथा कारण (R), अभिकथन (A) की सही व्याख्या करता है।

(B) अभिकथन (A) और कारण (R) दोनों सत्य हैं लेकिन कारण (R), अभिकथन (A) की सही व्याख्या ***नहीं*** करता है।

(C) अभिकथन (A) सत्य है, लेकिन कारण (R) असत्य है।

(D) अभिकथन (A) असत्य है, लेकिन कारण (R) सत्य है।

20. "मान लीजिए कि, एक काल्पनिक अर्थव्यवस्था वास्तविक सकल घरेलू उत्पाद (GDP) में वृद्धि की स्थिति का अनुभव कर रही है, जबकि अर्थव्यवस्था में रोज़गार के अवसरों में पर्याप्त वृद्धि नहीं हो रही है।" *1*

ऐसी स्थिति को, आर्थिक भाषा शैली में _____ वृद्धि कहा जाता है।

(रिक्त स्थान की पूर्ति के लिए सही विकल्प का चयन कीजिए)

(A) अनियत (Casual)
(B) अनौपचारिक
(C) औपचारिक
(D) रोज़गार विहीन

• • •

SECTION B
Indian Economic Development

18. Identify, which of the following statements is ***incorrect*** about the functions of environment. (Choose the correct option) *1*

(A) Environment provides resources.

(B) Environment absorbs wastage.

(C) Environment sustains life.

(D) Environment deteriorates quality of life.

19. Read the following statements – Assertion (A) and Reason (R).

Choose the correct alternative from the options given below : *1*

Assertion (A) : Under the financial sector reforms introduced in 1991, foreign investment limit in banks was raised up to around 74%.

Reason (R) : Foreign Institutional Investors (FIIs) were allowed to invest in Indian financial markets, post-1991.

Options :

(A) Both Assertion (A) and Reason (R) are true and Reason (R) is the correct explanation of Assertion (A).

(B) Both Assertion (A) and Reason (R) are true, but Reason (R) is ***not*** the correct explanation of Assertion (A).

(C) Assertion (A) is true, but Reason (R) is false.

(D) Assertion (A) is false, but Reason (R) is true.

20. "Suppose an imaginary economy is experiencing a situation of rise in Real Gross Domestic Product (GDP), without any corresponding adequate rise in the employment opportunities in the economy."

In economic parlance, such a situation is termed as _____ growth.

(Choose the correct option to fill in the blank) *1*

(A) Casual (B) Informal

(C) Formal (D) Jobless

• • •

21. निम्नलिखित कथनों को ध्यानपूर्वक पढ़िए : *1*

कथन 1 : ब्रिटिश नीतियों के कारण भारतीय अर्थव्यवस्था के द्वितीयक व तृतीयक क्षेत्रों में प्रचुर मात्रा में रोज़गार सृजन हुआ था।

कथन 2 : औपनिवेशिक सरकार के संरचनात्मक ढाँचे के विकास का वास्तविक उद्देश्य भारतीय हितों को लाभान्वित करना था।

दिए गए कथनों के आलोक में, निम्नलिखित में से सही विकल्प का चयन कीजिए :

(A) कथन 1 सत्य है और कथन 2 असत्य है।
(B) कथन 1 असत्य है और कथन 2 सत्य है।
(C) कथन 1 और 2 दोनों सत्य हैं।
(D) कथन 1 और 2 दोनों असत्य हैं।

22. निम्नलिखित कथनों को ध्यानपूर्वक पढ़िए : *1*

कथन 1 : सरकार द्वारा न्यूनतम समर्थन मूल्य (MSP) पर किए गए खाद्यान्न के क्रय को बफ़र स्टॉक के रूप में रखा जाता है।

कथन 2 : न्यूनतम समर्थन मूल्य (MSP) कृषि उत्पाद मूल्यों में किसी भी तीव्र गिरावट के विरुद्ध, कृषकों को सुरक्षा प्रदान करता है।

दिए गए कथनों के आलोक में, निम्नलिखित में से सही विकल्प का चयन कीजिए :

(A) कथन 1 सत्य है और कथन 2 असत्य है।
(B) कथन 1 असत्य है और कथन 2 सत्य है।
(C) कथन 1 और 2 दोनों सत्य हैं।
(D) कथन 1 और 2 दोनों असत्य हैं।

23. निम्नलिखित चित्र का ध्यानपूर्वक अध्ययन कीजिए : *1*

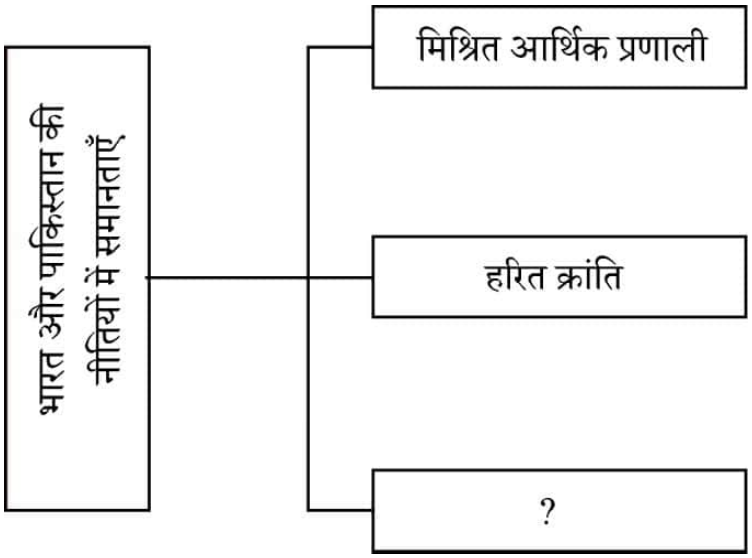

निम्नलिखित में से उस सही विकल्प का चयन कीजिए, जो 1947 की अवधि के उपरांत भारत व पाकिस्तान की नीतियों में समानताओं को इंगित करता है : (सही विकल्प का चयन कीजिए)

(A) दोहरी कीमत-निर्धारण नीति
(B) कम्यून प्रणाली
(C) आयात प्रतिस्थापन
(D) महान सर्वहारा सांस्कृतिक क्रांति

• • •

21. Read the following statements carefully : *1*

Statement 1 : The British policies led to huge employment generation in the secondary and tertiary sectors of the Indian Economy.

Statement 2 : The real motive of the colonial government's infrastructural development was to benefit interests of India.

In the light of the given statements, choose the correct alternative from the following :

(A) Statement 1 is true and Statement 2 is false.
(B) Statement 1 is false and Statement 2 is true.
(C) Both Statements 1 and 2 are true.
(D) Both Statements 1 and 2 are false.

22. Read the following statements carefully : *1*

Statement 1 : The purchase of food grains, made by the government on the Minimum Support Price (MSP), is maintained as buffer stock.

Statement 2 : Minimum Support Price (MSP) safeguards the farmers against any sharp fall in farm product prices.

In the light of the given statements, choose the correct option from the following :

(A) Statement 1 is true and Statement 2 is false.
(B) Statement 1 is false and Statement 2 is true.
(C) Both Statements 1 and 2 are true.
(D) Both Statements 1 and 2 are false.

23. Study the following image carefully : *1*

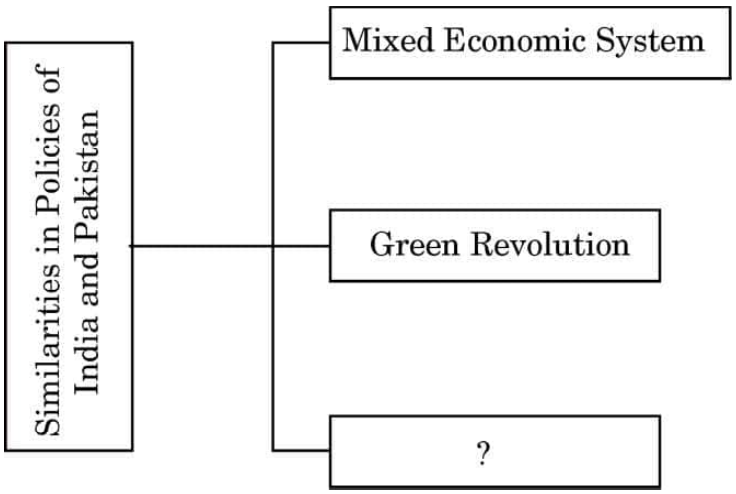

From the following, choose the correct option which indicates similarities in the policies of India and Pakistan, in the post-1947 period :

(Choose the correct option)

(A) Dual pricing policy (B) Commune system
(C) Import substitution (D) Great Proletarian Cultural Revolution

• • •

24. एक विशिष्ट फसल के स्थान पर, विभिन्न प्रकार की फसलों का उत्पादन _____ के विविधीकरण के रूप में जाना जाता है। (रिक्त स्थान की पूर्ति के लिए सही विकल्प का चयन कीजिए) *1*

(A) फसलों

(B) कृषि उत्पादन

(C) क्षेत्रीय संरचना

(D) रोज़गार

25. निम्नलिखित कथनों – अभिकथन (A) और कारण (R) का अध्ययन कीजिए।
नीचे दिए गए विकल्पों में से सही विकल्प का चयन कीजिए : *1*

अभिकथन (A) : लोग श्रम व अन्य बाज़ारों (जैसे कि शिक्षा व स्वास्थ्य) से संबंधित सूचना प्राप्त करने के लिए व्यय करते हैं।

कारण (R) : मानव पूँजी स्टॉक के कुशलतम प्रयोग के लिए सूचना पर व्यय आवश्यक है।

विकल्प :

(A) अभिकथन (A) और कारण (R) दोनों सत्य हैं तथा कारण (R), अभिकथन (A) की सही व्याख्या करता है।

(B) अभिकथन (A) और कारण (R) दोनों सत्य हैं, लेकिन कारण (R), अभिकथन (A) की सही व्याख्या ***नहीं*** करता है।

(C) अभिकथन (A) सत्य है, लेकिन कारण (R) असत्य है।

(D) अभिकथन (A) असत्य है, लेकिन कारण (R) सत्य है।

26. स्वतंत्रता उपरांत युग में, भारत के नीति निर्माताओं ने प्रथम _____ पंचवर्षीय योजनाओं के लिए 'आत्मनिर्भरता' पर जोर दिया था।

(रिक्त स्थान की पूर्ति के लिए सही विकल्प का चयन कीजिए) *1*

(A) 6

(B) 7

(C) 8

(D) 9

• • •

24. Production of diverse varieties of crops, rather than one specialised crop, is known as diversification of _____.

(Choose the correct option to fill in the blank) *1*

(A) Crops

(B) Agricultural Production

(C) Sectoral Composition

(D) Employment

25. Read the following statements – Assertion (A) and Reason (R).
Choose the correct option from the options given below : *1*

Assertion (A) : People spend to acquire information related to labour and other markets (like, education and health).

Reason (R) : Expenditure on information is necessary for efficient utilisation of the human capital stock.

Options :

(A) Both Assertion (A) and Reason (R) are true and Reason (R) is the correct explanation of Assertion (A).

(B) Both Assertion (A) and Reason (R) are true, but Reason (R) is ***not*** the correct explanation of Assertion (A).

(C) Assertion (A) is true, but Reason (R) is false.

(D) Assertion (A) is false, but Reason (R) is true.

26. In the post-independence era, the policy makers of India emphasised on 'self-reliance' for the first _____ Five Year Plans.

(Choose the correct option to fill in the blank) *1*

(A) 6

(B) 7

(C) 8

(D) 9

• • •

27. पहचान कीजिए कि, भारत में ग्रामीण बैंकिंग प्रणाली के संदर्भ में निम्नलिखित में से कौन-सा कथन ***असत्य*** है ? (सही विकल्प का चयन कीजिए) *1*

(A) भारत में ग्रामीण बैंकिंग प्रणाली में बहु-ऐजेंसी संस्थानों का एक समूह सम्मिलित है।

(B) स्वतंत्रता उपरांत अवधि में, भारत में एक सुचारु रूप से संरचित ग्रामीण बैंकिंग प्रणाली का निर्माण किया गया था।

(C) क्षेत्रीय ग्रामीण बैंक, सहकारी व भूमि विकास बैंक भारत में ग्रामीण बैंकिंग प्रणाली के घटक हैं।

(D) भारत में ग्रामीण बैंकिंग प्रणाली भारतीय स्टेट बैंक के मार्गदर्शन, निर्देशन व पर्यवेक्षण के अंतर्गत कार्य करती है।

28. निम्नलिखित आँकड़ों का उपयोग करते हुए, सकल वर्धित मूल्य (GVA) में भारत व पाकिस्तान के क्षेत्रीय योगदान का विश्लेषण कीजिए। *3*

2018 – 19 में रोज़गार एवं सकल वर्धित मूल्य (%) के क्षेत्रीय अंश

क्षेत्र	*सकल वर्धित मूल्य में योगदान*			*कार्यबल का वितरण*		
	भारत	*चीन*	*पाकिस्तान*	*भारत*	*चीन*	*पाकिस्तान*
कृषि	16	7	24	43	26	41
उद्योग	30	41	19	25	28	24
सेवा	54	52	57	32	46	35
योग	100	100	100	100	100	100

• • •

27. Identify, which of the following statements is ***incorrect*** about the Rural Banking system in India. (Choose the correct option) *1*

(A) The Rural Banking system in India consists of a set of multi-agency institutions.

(B) In the post-independence period, a well-structured Rural Banking system was formulated in India.

(C) Regional Rural Banks, Cooperative and Land Development Banks are components of the Rural Banking system in India.

(D) The Rural Banking system in India works under the guidance, instruction and supervision of the State Bank of India.

28. Using the following data, analyse the sectoral contribution of India and Pakistan towards Gross Value Added (GVA). *3*

Sectoral Share of Employment and GVA (%) in 2018 – 19

Sector	*Contribution to GVA*			*Distribution of Workforce*		
	India	*China*	*Pakistan*	*India*	*China*	*Pakistan*
Agriculture	16	7	24	43	26	41
Industry	30	41	19	25	28	24
Services	54	52	57	32	46	35
Total	100	100	100	100	100	100

• • •

29. (क) "भारत में ब्रिटिश औपनिवेशिक शासन के परिणामस्वरूप भारतीय स्वदेशी उद्योगों का व्यवस्थित रूप से विऔद्योगीकरण हुआ था।"

वैध तर्कों द्वारा अंग्रेजों के दोहरे उद्देश्यों की व्याख्या कीजिए। *3*

अथवा

(ख) "1991 के आर्थिक सुधारों के दौरान भारत सरकार द्वारा प्रारंभ की गई व्यापार और निवेश नीति में स्थानीय उद्योगों के संदर्भ में कुछ प्रमुख निर्णय सम्मिलित थे।"

किन्हीं दो प्रमुख निर्णयों और भारतीय अर्थव्यवस्था पर उनके प्रभावों पर विस्तार से चर्चा कीजिए। *3*

30. (क) (i) मानव पूँजी व भौतिक पूँजी के मध्य अंतर स्पष्ट कीजिए। *3*

(ii) धारणीय विकास को परिभाषित कीजिए। *1*

अथवा

(ख) (i) ग्रामीण भारत में सूक्ष्म-साख कार्यक्रम के महत्त्व पर संक्षेप में वर्णन कीजिए। *3*

(ii) भारत में धारणीय विकास प्राप्त करने में सम्मिलित किसी एक रणनीति का उल्लेख कीजिए। *1*

31. निम्नलिखित गद्य को ध्यानपूर्वक पढ़िए :

चीन ने अपनी अर्थव्यवस्था को प्रोत्साहित करने के लिए कई नीतिगत परिवर्तन किए थे।

1970 के दशक के अंत में विभिन्न क्षेत्रों में चीन की आर्थिक वृद्धि तीव्र रही थी। हालाँकि, भारत को अपने आर्थिक परिवर्तन के लिए बहुत प्रतीक्षा करनी पड़ी थी। भारत की महत्त्वपूर्ण आर्थिक प्रगति 1991 के आर्थिक सुधारों के उपरांत ही प्राप्त की गई थी, जिन्हें मज़बूरी के कारण लागू किया गया था।

दिए गए गद्य व सामान्य ज्ञान के आधार पर, चीन व भारत द्वारा आरंभ किए गए सुधारों के प्रभावों की तुलना कीजिए। *4*

• • •

29. (a) "British colonial rule in India resulted into systematic deindustrialisation of Indian indigenous industries."

Explain the two-fold motive of the British with valid arguments. *3*

OR

(b) "The trade and investment policy initiated by the Indian Government during 1991 economic reforms involved some major decision-making with respect to local industries."

Elaborate any two major decisions and their respective impacts on the Indian economy. *3*

30. (a) (i) Distinguish between human capital and physical capital. *3*

(ii) Define Sustainable Development. *1*

OR

(b) (i) Describe briefly the importance of micro-credit programmes in Rural India. *3*

(ii) State any one strategy involved in attaining sustainable development in India. *1*

31. Read the following text carefully :

China underwent substantial policy changes to stimulate their economy.

China's economic growth was rapid in the late 1970s across various sectors. However, India had to wait much longer for its economic transformation. India's significant economic progress was only realised after the economic reforms of 1991, which were implemented out of compulsion.

On the basis of given text and common understanding, compare the impact of subsequent reforms initiated by China and India. *4*

• • •

32. मान्य तर्कों द्वारा, उल्लेख व विस्तृत व्याख्या कीजिए कि निम्नलिखित कथन सत्य हैं या असत्य :

(क) स्वर्ण क्रांति के तहत बागवानी में जबरदस्त वृद्धि हुई, जिससे भारत इस क्षेत्र में विश्व में अग्रणी बन गया। *2*

(ख) छोटे और सीमांत कृषकों को क्षेत्रीय ग्रामीण बैंक, सहकारी बैंक आदि जैसे ग़ैर-संस्थागत स्रोतों से ऋण प्राप्त करने में प्राथमिकता दी जाती है। *2*

33. (क) (i) "आयात प्रतिस्थापन नीति को, यदि सावधानी से लागू नहीं किया गया, तो यह किसी भी अर्थव्यवस्था के लिए दुधारी तलवार साबित हो सकती है।"

क्या आप दिए गए कथन से सहमत हैं ? मान्य तर्कों द्वारा अपने उत्तर की पुष्टि कीजिए। *4*

(ii) उल्लेख कीजिए कि बहुपक्षीय व्यापार किस प्रकार द्विपक्षीय व्यापार से भिन्न है। *2*

अथवा

(ख) (i) भारत में आर्थिक सुधारों के दौरान प्रारंभ किए गए कर सुधारों के कारणों व परिणामों पर संक्षेप में चर्चा कीजिए। *4*

(ii) भारत में सार्वजनिक क्षेत्र की महारत्न व मिनीरत्न कंपनी का एक-एक उदाहरण दीजिए। *2*

34. निम्नलिखित गद्य को ध्यानपूर्वक पढ़िए :

श्रम बल भागीदारी दर (LFPR) किसी राष्ट्र में कार्यरत अथवा सक्रिय रूप से रोज़गार की तलाश कर रहे व्यक्तियों के प्रतिशत को मापती है। भारत में, 2000 – 2019 के मध्य श्रम बल में 99·2 मिलियन व्यक्तियों की वृद्धि हुई थी। श्रम बल 396·3 मिलियन से बढ़कर 495·5 मिलियन हो गया था।

2012 – 2019 के दौरान, रोज़गार में समान वृद्धि के बिना श्रम बल में हुई वृद्धि से बेरोज़गारी में बढ़ोतरी हुई थी।

• • •

32. State and elaborate, whether the following statements are true/false, with valid arguments :

(a) Under the Golden Revolution there was tremendous growth in horticulture, making India the world leader in this field. *2*

(b) Small and marginal farmers are given preference in getting credit from non-institutional sources like Regional Rural Banks, Cooperative Banks, etc. *2*

33. (a) (i) "Import substitution policy, if not applied carefully, can be a double-edged sword for any economy."

Do you agree with the given statement ? Justify your answer with valid arguments. *4*

(ii) State how multilateral trade is different from bilateral trade. *2*

OR

(b) (i) Discuss briefly, causes and consequences of the tax reforms initiated during economic reforms in India. *4*

(ii) State one example each of a Maharatna and a Miniratna company in the public sector in India. *2*

34. Read the following text carefully :

The Labour Force Participation Rate (LFPR) measures the percentage of the population either employed or actively seeking employment in a nation. In India, the labour force grew by 99·2 million persons between 2000 – 2019. The labour force grew from 396·3 million to 495·5 million.

During 2012 – 2019, the labour force grew without a matching increase in employment, leading to higher unemployment.

• • •

भारत के श्रम बाज़ार में लैंगिक असमानता उल्लेखनीय है, 2022 में महिलाओं की श्रम बल भागीदारी दर (LFPR) 32·8% है, जो कि पुरुषों की श्रम बल भागीदारी दर (LFPR) 77·2%, से काफी कम है। यह भारत की समग्र अल्प श्रम बल भागीदारी दर (LFPR) का एक प्रमुख कारण है, जो कि वैश्विक औसत श्रम बल भागीदारी दर (LFPR) 47·3% से कम है।

2000 – 2019 के दौरान, ग्रामीण श्रम बल भागीदारी दर (LFPR) में 14·1% की गिरावट आई है, जबकि शहरी क्षेत्रों में 3·5% की गिरावट आई थी। 2019 – 2022 के मध्य यह प्रवृत्ति पलट गई, ग्रामीण श्रम बल भागीदारी दर (LFPR) में 6% (विशेषकर ग्रामीण महिलाओं में) और शहरी श्रम बल भागीदारी दर (LFPR) में 2·1% वृद्धि हुई। ये परिवर्तन दर्शाते हैं कि महिलाओं की श्रम बाज़ार भागीदारी में उतार-चढ़ाव होता है, विशेषकर ग्रामीण क्षेत्रों में।

इसने समग्र श्रम बल भागीदारी दर (LFPR) को काफी प्रभावित किया है। महिलाएँ आर्थिक कठिनाइयों के दौरान कार्यबल में शामिल होती हैं, तथा जब परिस्थितियों में सुधार होता है, तो वे कार्यबल से निकल जाती हैं।

दिए गए गद्य व सामान्य ज्ञान के आधार पर, निम्नलिखित प्रश्नों के उत्तर दीजिए :

(क) बेरोज़गारी को परिभाषित कीजिए। *1*

(ख) श्रम बल भागीदारी दर (LFPR) का अर्थ लिखिए। *2*

(ग) 2000 – 2019 के दौरान ग्रामीण व शहरी श्रम बल भागीदारी दर (LFPR) में लैंगिक असमानताओं पर टिप्पणी कीजिए। *3*

• • •

The gender disparity in India's labour market is notable with women's LFPR at 32·8% in 2022, significantly lower than men's LFPR at 77·2%. This is a major reason for India's overall low LFPR, which is lower than the global average of 47·3%.

During 2000 – 2019, rural LFPR declined by 14·1%, compared to a 3·5% decline in urban areas. This trend reversed between 2019 – 2022, with rural LFPR increasing by 6% (especially among rural women) and urban LFPR by 2·1%. These shifts suggest that fluctuations occur in women's labour market participation, particularly in rural areas.

This significantly affected the overall LFPR. Women join the workforce during economic hardships and move out when conditions improve.

On the basis of the given text and common understanding, answer the following questions :

(a) Define unemployment. *1*

(b) Write the meaning of Labour Force Participation Rate (LFPR). *2*

(c) Comment upon the gender disparities in rural and urban Labour Force Participation Rate (LFPR) during 2000 – 2019. *3*

Marking Scheme
Strictly Confidential
(For Internal and Restricted use only)
Senior School Certificate Examination,2025

ECONOMICS (SUBJECT CODE – 030)

(PAPER CODE – 58/5/3)

General Instructions: -

1	You are aware that evaluation is the most important process in the actual and correct assessment of the candidates. A small mistake in evaluation may lead to serious problems which may affect the future of the candidates, education system and teaching profession. To avoid mistakes, it is requested that before starting evaluation, you must read and understand the spot evaluation guidelines carefully.
2	**"Evaluation policy is a confidential policy as it is related to the confidentiality of the examinations conducted, Evaluation done and several other aspects. Its' leakage to public in any manner could lead to derailment of the examination system and affect the life and future of millions of candidates. Sharing this policy/document to anyone, publishing in any magazine and printing in News Paper/Website etc may invite action under various rules of the Board and IPC."**
3	Evaluation is to be done as per instructions provided in the Marking Scheme. It should not be done according to one's own interpretation or any other consideration. Marking Scheme should be strictly adhered to and religiously followed. **However, while evaluating, answers which are based on latest information or knowledge and/or are innovative, they may be assessed for their correctness otherwise and due marks be awarded to them. In Class XII, while evaluating competency-based questions, please try to understand given answer and even if reply is not from marking scheme but correct competency is enumerated by the candidate, due marks should be awarded.**
4	The Marking scheme carries only suggested value points for the answers. These are in the nature of Guidelines only and do not constitute the complete answer. The students can have their own expression and if the expression is correct, the due marks should be awarded accordingly.
5	The Head-Examiner must go through the first five answer books evaluated by each evaluator on the first day, to ensure that evaluation has been carried out as per the instructions given in the Marking Scheme. If there is any variation, the same should be zero after delibration and discussion. The remaining answer books meant for evaluation shall be given only after ensuring that there is no significant variation in the marking of individual evaluators.
6	Evaluators will mark(√) wherever answer is correct. For wrong answer CROSS 'X" be marked. Evaluators will not put right (✓)while evaluating which gives an impression that answer is correct and no marks are awarded. **This is most common mistake which evaluators are committing.**
7	If a question has parts, please award marks on the right-hand side for each part. Marks awarded for different parts of the question should then be totalled up and written in the left-hand margin and encircled. This may be followed strictly.

8	If a question does not have any parts, marks must be awarded in the left-hand margin and encircled. This may also be followed strictly.
9	If a student has attempted an extra question, answer of the question deserving more marks should be retained and the other answer scored out with a note **"Extra Question"**.
10	No marks to be deducted for the cumulative effect of an error. It should be penalized only once.
11	A full scale of marks 80 has to be used. Please do not hesitate to award full marks if the answer deserves it.
12	Every examiner has to necessarily do evaluation work for full working hours i.e., 8 hours every day and evaluate 20 answer books per day in main subjects and 25 answer books per day in other subjects (Details are given in Spot Evaluation Guidelines). This is in view of the reduced syllabus and number of questions in question paper.
13	Ensure that you do not make the following common types of errors committed by the Examiner in the past:- ● Leaving answer or part thereof unassessed in an answer book. ● Giving more marks for an answer than assigned to it. ● Wrong totaling of marks awarded on an answer. ● Wrong transfer of marks from the inside pages of the answer book to the title page. ● Wrong question wise totaling on the title page. ● Wrong totaling of marks of the two columns on the title page. ● Wrong grand total. ● Marks in words and figures not tallying/not same. ● Wrong transfer of marks from the answer book to online award list. ● Answers marked as correct, but marks not awarded. (Ensure that the right tick mark is correctly and clearly indicated. It should merely be a line. Same is with the X for incorrect answer.) ● Half or a part of answer marked correct and the rest as wrong, but no marks awarded.
14	While evaluating the answer books if the answer is found to be totally incorrect, it should be marked as cross (X) and awarded zero (0)Marks.
15	Any un assessed portion, non-carrying over of marks to the title page, or totaling error detected by the candidate shall damage the prestige of all the personnel engaged in the evaluation work as also of the Board. Hence, in order to uphold the prestige of all concerned, it is again reiterated that the instructions be followed meticulously and judiciously.
16	The Examiners should acquaint themselves with the guidelines given in the "**Guidelines for spot Evaluation**" before starting the actual evaluation.
17	Every Examiner shall also ensure that all the answers are evaluated, marks carried over to the title page, correctly totalled and written in figures and words.
18	The candidates are entitled to obtain photocopy of the Answer Book on request on payment of the prescribed processing fee. All Examiners/Additional Head Examiners/Head Examiners are once again reminded that they must ensure that evaluation is carried out strictly as per value points for each answer as given in the Marking Scheme.

MARKING SCHEME

Senior School Certificate Examination 2025

ECONOMICS (Subject Code–030)

[Paper Code: 58/5/3]

Maximum Marks: 80

Q. No.	EXPECTED ANSWER / VALUE POINTS	Marks
	SECTION -A **(Macro Economics)**	
1.	Under the Keynesian theory, 'Reference Line' is a straight line passing through the origin drawn at an angle of _____. (Choose the correct option to fill in the blank) (A) 25˚ (B) 45˚ (C) 55˚ (D) 75˚ **Ans. (B) 45 ˚**	**1**
2.	According to the data presented in the Union Budget 2023-24, the total receipts of the government (other than borrowings), and the total expenditure are estimated as ₹ 20 lakh crore and ₹ 45 lakh crore respectively. Therefore, the value of _____deficit would be ₹ 25 lakh crore. (Choose the correct option to fill in the blank) (A) revenue (B) fiscal (C) trade (D) primary **Ans. (B) fiscal**	**1**
3.	Read the following statements carefully : *Statement 1*: Marginal Propensity to Consume (MPC) exhibits the consumption per unit of income. *Statement 2:* As the national income of a country rises, the proportionate increase in the consumption is always more than the increase in the income. In the light of the given statements, choose the correct option from the following: (A) Statement 1 is true and Statement 2 is false. (B) Statement 1 is false and Statement 2 is true. (C) Both Statements 1 and 2 are true. (D) Both Statements 1 and 2 are false. **Ans. (D) Both Statements 1 and 2 are false.**	**1**
4.	In a two-sector economy, Aggregate Supply can be determined by adding _____ and _____. (Choose the correct option to fill in the blanks) (A) consumption, investments (B) investments, savings (C) consumption, savings (D) savings, exports **Ans. (C) consumption, savings**	**1**
5.	Read the following statements carefully : *Statement 1:* Foreign aids are the capital receipts for the government. *Statement 2:* Disinvestments may lead to a decrease in the assets of the government. In the light of the given statements, choose the correct option from the following: (A) Statement 1 is true and Statement 2 is false. (B) Statement 1 is false and Statement 2 is true. (C) Both Statements 1 and 2 are true.	

	(D) Both Statements 1 and 2 are false. **Ans. (C) Both Statements 1 and 2 are true.**	**1**
6.	From the following, identify the situation which indicates the Current Account Surplus (CAS) in Balance of Payments (BOP) account of a nation. (A) Excess of receipts on current account over the payments on current account. (B) Equality of receipts on current account and payments on current account. (C) Excess of payments on current account over receipts on current account. (D) Excess of payments on current account over receipts on capital account. **Ans. (A) Excess of receipts on current account over the payments on current account.**	**1**
7.	To arrive at the value of Net Value Added at Market Price (NVA_{MP}), _____must be _____to/from Gross Value Added at Market Price (GVA_{MP}). (Choose the correct option to fill in the blanks) (A) depreciation, added (B) depreciation, subtracted (C) net indirect taxes, subtracted (D) net indirect taxes, added **Ans. (B) depreciation, subtracted**	**1**
8.	Identify, which of the following does ***not*** represent a public good. (Choose the correct option) (A) Free vaccines provided by the government (B) Defence services provided by the military (C) Purchase of railway ticket by an individual (D) Street light installed by a city municipality **Ans. (C) Purchase of railway ticket by an individual**	**1**
9.	Market forces of demand and supply, actively interact under _____exchange rate system to determine the foreign exchange rate. (Choose the correct option to fill in the blank) (A) fixed (B) flexible (C) managed floating (D) fixed floating **Ans. (B) flexible**	**1**
10.	Read the following statements carefully : *Statement 1*: During deflationary gap, the Central Bank of a country may increase the repo rate. *Statement 2*: The government can reduce the deflationary gap by purchasing Government Securities (G-Sec) in the open market. In the light of the given statements, choose the correct option from the following: (A) Statement 1 is true and Statement 2 is false. (B) Statement 1 is false and Statement 2 is true. (C) Both Statements 1 and 2 are true. (D) Both Statements 1 and 2 are false. **Ans. (D) Both Statements 1 and 2 are false.**	**1**
11.	"As per the Economic Survey of India 2022-23, due to the outbreak of geopolitical conflict, the result was higher international prices for fertilizer and fuel. Thus, there was a higher fuel and fertilizer subsidy requirement for supporting the people." On the basis of given text, identify and explain the indicated objective of the government budget. **Ans. The indicated government budget objective is the 'stabilisation function'.**	**1**

	The stabilisation function aims at controlling large-scale fluctuation in prices through the government's taxation and expenditure policy. The government may incur expenditure on providing fuel and fertilizer subsidy in order to ensure price stability.	**2**
		3
12. (a)	State the steps pertaining to the estimation of National Income, under the Value Added Method. **Ans. Steps pertaining to the estimation of National Income under the Value Added method:** **1. Identify and classify production units into distinct heads namely primary, secondary, and tertiary sector.** **2. Estimate the Gross Value Added of each sector by subtracting the value of Intermediate Consumption from the Value of Output and add Gross Value Added of each sector to arrive at Gross Domestic Product at Market Price.** **3. Finally, estimate and deduct the value of Depreciation, Net Indirect Taxes and add Net Factor Income from Abroad to arrive at National Income (NNP_{FC}).**	**1** **1** **1**
	OR	**3**
(b)	On the basis of the following hypothetical data, calculate the percentage change in Real Gross Domestic Product (GDP) in the year 2022-23, using 2020-21 as the base year. (All figures in ₹ crore) *Year* | *Nominal GDP* | *Nominal GDP (Adjusted to Base Year Price)* 2020-21 | 3,000 | 5,000 2022-23 | 4,000 | 6,000 **Ans.** **Percentage change in Real Gross Domestic Product (GDP) in the year 2022-23** $= \frac{\text{Change in Real GDP}}{\text{Real GDP}} \times 100$ $= \frac{6000-5000}{5000} \times 100$ $= 20\%$	**1½** **1** **½**
		3
13.	Read the following text carefully: In an economy, a significant reduction in Aggregate demand raised concerns about future growth prospects of the country. This economic downturn underscores the urgent need for strategic measures to boost confidence of households and stimulate economic activities. Based on the above text and common understanding, explain the measures which the government may take to stabilise the indicated situation. **Ans. The highlighted issue is deflation. To control deflation, the government may:** • **decrease the tax rates which may increase the disposable income (purchasing power) in the hands of the general public. Consequently, it may lead to a rise in Aggregate Demand, thereby correcting the situation of deflation.** • **increase the public expenditure which may increase the level of income in the economy. Consequently, it may lead to a rise in Aggregate Demand, thereby correcting the situation of deflation.**	**2** **2**
		4

14. (a)	"The Indian economy has witnessed a sharp turnaround during 2023-24 with Foreign Direct Investments (FDI) inflows of US $ 70·9 Bn and net Foreign Portfolio Investments (FPI) inflows of US $ 32.4 Bn." (i) Distinguish between the above mentioned economic variables. **Ans.** **Foreign Direct Investment (FDI) refers to direct investment from abroad in physical assets with a considerable degree of influence and control over the firm.** **Whereas;** **Foreign Portfolio Investment (FPI) refers to investment from abroad in stocks, bonds or other financial assets and do not entail active management or control over the firm.** (ii) In which account of Balance of Payments will the given variables be entered and why? **Ans. The given variables will be entered in the Capital account of the Balance of Payments.** **Capital Account records all international transactions of assets.**	**1** **1** **1** **1**
	OR	**4**
(b)	Explain how Accommodating Transactions differ from Autonomous Transactions. **Ans. Accommodating transactions are those international economic transactions which are undertaken (by competent authorities) to cover the surplus or deficit in Balance of Payments (BoP). These transactions are independent of any economic motive. Such transactions are called 'below the line' items in the BoP account.** **Whereas;** **Autonomous transactions are those international economic transactions which are independent of the state of Balance of Payments (BoP). These transactions are generally undertaken with an 'economic motive'. Such transactions are called 'above the line' items in the BoP account.**	**2** **2**
		4
15.	Suppose for two imaginary economies A and B, the value of Marginal Propensity to Consume (MPC) stands at 0·5 and 0·8 respectively. For both the economies, Autonomous Consumption ($\bar{c}$) = ₹ 400 crore and Investment Expenditure (I) = ₹ 2,000 crore. Calculate the following : (a) Break-even level of income for Economy A. (b) Equilibrium level of income for Economy B. **Ans. Given,** **Autonomous Consumption ($\bar{c}$) = ₹ 400 crore** **Investment expenditure (I) = ₹ 2000 crore** **For economy A, Marginal Propensity to Consume (MPC) = 0.5** **For economy B, Marginal Propensity to Consume (MPC) = 0.8** **(a) As we know, at break-even level for economy A; Y = C** **$Y = \bar{c}$ + (MPC) Y** **Y = 400 + 0.5Y** **Y = ₹ 800 crore** **(b) Equilibrium level of income for economy B; Y = C + I** **$Y = \bar{c}$ + (MPC) Y + I** **Y = 400 + 0.8Y + 2000** **Y = ₹ 12,000 crore**	 **1** **½** **½** **1** **½** **½**
		4

16. (a) "In a country, routine economic operations rely on a stable medium, to facilitate transactions for maintaining smooth economic activities."

Discuss briefly the indicated function of money.

Ans. The indicated function of money is 'medium of exchange'. — **1**

Money acts as a universally acceptable medium for any transaction. Money serves as a medium for buying/selling goods and services. It eliminates the limitation of lack of double coincidence of wants by facilitating exchange in the market. — **2**

(b) State the meaning and components of M_1 measure of money supply.

Ans. M_1 measure of money supply refers to the total volume of money held by the public at a particular point of time in the economy. — **1**

The two components of M_1 measure of money supply are:

- **Currency (notes and coins) held by the public.** — **½**
- **Net demand deposits held by commercial banks.** — **½**

(c) State the formula to compute Credit Multiplier.

Ans. Credit Multiplier = $\frac{1}{\text{Reserve Ratio}}$ — **1**

6

17. (a) (i) Elaborate the likely impact of construction of 20 new flyovers on the Gross Domestic Product (GDP) and Welfare in the economy.

Ans. The construction of 20 new flyovers may impact the Gross Domestic Product (GDP) positively as improved infrastructure generally attracts higher investments in an economy and may lead to an increase in employment opportunities. It may also reduce travel time and average transportation costs. Consequently, increasing the well-being of citizens. (To be marked as a whole) — **2**

(ii) Suppose, there are only three firms in a hypothetical economy, viz. A, B and C. During a given period of time, the following transactions were undertaken by them:

(I) Firm A sold goods worth ₹ 2,000 to Firm B and ₹ 1,200 to Firm C.
(II) Firm B sold goods worth ₹ 1,100 to Firm A and ₹ 3,500 to Firm C.
(III) Firm C sold to households for final consumption, goods worth ₹ 5,700.

Estimate the value of Gross Domestic Product at Factor Cost (GDP_{FC}), assuming the value of Net Indirect Taxes to be ₹ 200.

Ans.

Firms	**Value of Output (in ₹) (i)**	**Intermediate Consumption (in ₹) (ii)**	**Gross Value Added (in ₹) {(i)-(ii)}**	
A	**2,000 + 1,200**	**1,100**	**2,100**	**½**
B	**1,100 + 3,500**	**2,000**	**2,600**	**½**
C	**5,700**	**1,200 + 3,500**	**1,000**	**½**
	13,500	**7,800**	**5,700**	**½**
Gross Domestic Product at Market Price (GDP_{MP})				

Gross Domestic Product at Factor Cost (GDP_{FC}) = GDP_{MP} – Net Indirect Taxes — **1**

= 5,700 – 200 — **½**

= ₹ 5,500 — **½**

(Any other valid method to be awarded marks)

OR

6

(b) (i) "All consumption goods are durable in nature."

Defend or refute the given statement with a valid argument.

Ans. The given statement is refuted. Consumption goods can be categorised as durable and non-durable. Non-durable consumption goods, such as food, have a shorter lifespan. Whereas durable consumption goods, like cars and home appliances, can be used over an extended period usually more than one year. Hence, not all consumption goods are durable in nature. (To be marked as a whole) **3**

(ii) On the basis of the given data, estimate the value of National Income (NNP_{FC}):

S.No.	*Items*	*Amount (in ₹ Crore)*
(i)	Household Consumption Expenditure	1,800
(ii)	Gross Business Fixed Capital Formation	1,150
(iii)	Gross Residential Construction Expenditure	1,020
(iv)	Government Final Consumption Expenditure	2,170
(v)	Excess of Imports over Exports	720
(vi)	Inventory Investments	540
(vii)	Gross Public Investments	1,300
(viii)	Net Indirect Taxes	240
(ix)	Net Factor Income from Abroad	(-) 250
(x)	Consumption of Fixed Capital	440

Ans.

National Income (NNP_{FC}) =(i) + (iv) + (ii) + (iii) + (vii) + (vi) – (v) – (x) + (ix) – (viii) **1½**

=1,800+2,170+1,150+1,020+1,300+540–720–440+(-250) – 240 **1**

= ₹ 6,330 crore **½**

6

SECTION – B
(Indian Economic Development)

18. Identify, which of the following statements is ***incorrect*** about the functions of environment.

(Choose the correct option)

(A) Environment provides resources.

(B) Environment absorbs wastage.

(C) Environment sustains life.

(D) Environment deteriorates quality of life.

Ans. (D) Environment deteriorates quality of life. **1**

19. Read the following statements Assertion (A) and Reason (R).

Choose the correct alternative from the options given below:

Assertion (A): Under the financial sector reforms introduced in 1991, foreign investment limit in banks was raised up to around 74%.

Reason (R): Foreign Institutional Investors (FIIs) were allowed to invest in Indian financial markets, post-1991.

Options :

(A) Both Assertion (A) and Reason (R) are true and Reason (R) is the correct explanation of Assertion (A).

(B) Both Assertion (A) and Reason (R) are true, but Reason (R) is ***not*** the correct explanation of Assertion (A).

(C) Assertion (A) is true, but Reason (R) is false.

(D) Assertion (A) is false, but Reason (R) is true.

	Ans. (B) Both Assertion (A) and Reason (R) are true, but Reason (R) is *not* the correct explanation of Assertion (A).	**1**
20.	"Suppose an imaginary economy is experiencing a situation of rise in Real Gross Domestic Product (GDP), without any corresponding adequate rise in the employment opportunities in the economy." In economic parlance, such a situation is termed as _____ growth. (Choose the correct option to fill in the blank) (A) Casual (B) Informal (C) Formal (D) Jobless **Ans. (D) Jobless**	**1**
21.	Read the following statements carefully : *Statement 1 :* The British policies led to huge employment generation in the secondary and tertiary sectors of the Indian Economy. *Statement 2 :* The real motive of the colonial government's infrastructural development was to benefit interests of India. In the light of the given statements, choose the correct alternative from the following : (A) Statement 1 is true and Statement 2 is false. (B) Statement 1 is false and Statement 2 is true. (C) Both Statements 1 and 2 are true. (D) Both Statements 1 and 2 are false. **Ans. (D) Both Statements 1 and 2 are false.**	**1**
22.	Read the following statements carefully : *Statement 1 :* The purchase of food grains, made by the government on the Minimum Support Price (MSP), is maintained as buffer stock. *Statement 2 :* Minimum Support Price (MSP) safeguards the farmers against any sharp fall in farm product prices. In the light of the given statements, choose the correct option from the following : (A) Statement 1 is true and Statement 2 is false. (B) Statement 1 is false and Statement 2 is true. (C) Both Statements 1 and 2 are true. (D) Both Statements 1 and 2 are false. **Ans. (C) Both Statements 1 and 2 are true.**	**1**
23.	Study the following image carefully : 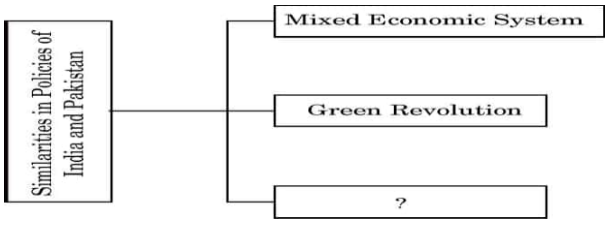 From the following, choose the correct option which indicates similarities in the policies of India and Pakistan, in the post-1947 period : (Choose the correct option) (A) Dual pricing policy (B) Commune system (C) Import substitution (D) Great Proletarian Cultural Revolution **Ans. (C) Import substitution**	**1**
24.	Production of diverse varieties of crops, rather than one specialised crop, is known as diversification of _____. (Choose the correct option to fill in the blank)	

	(A) Crops (B) Agricultural Production (C) Sectoral Composition (D) Employment **Ans. (A) Crops**	**1**
25.	Read the following statements - Assertion (A) and Reason (R). Choose the correct option from the options given below : *Assertion (A) :* People spend to acquire information related to labour and other markets (like, education and health). *Reason (R) :* Expenditure on information is necessary for efficient utilisation of the human capital stock. Options : (A) Both Assertion (A) and Reason (R) are true and Reason (R) is the correct explanation of Assertion (A). (B) Both Assertion (A) and Reason (R) are true, but Reason (R) is ***not*** the correct explanation of Assertion (A). (C) Assertion (A) is true, but Reason (R) is false. (D) Assertion (A) is false, but Reason (R) is true. **Ans. (A) Both Assertion (A) and Reason (R) are true and Reason (R) is the correct explanation of Assertion (A).**	**1**
26.	In the post-independence era, the policy makers of India emphasised on 'self-reliance' for the first ____ Five Year Plans. (Choose the correct option to fill in the blank) (A) 6 (B) 7 (C) 8 (D) 9 **Ans. (B) 7**	**1**
27.	Identify, which of the following statements is ***incorrect*** about the Rural Banking system in India. (Choose the correct option) (A) The Rural Banking system in India consists of a set of multi-agency institutions. (B) In the post-independence period, a well-structured Rural Banking system was formulated in India. (C) Regional Rural Banks, Cooperative and Land Development Banks are components of the Rural Banking system in India. (D) The Rural Banking system in India works under the guidance, instruction and supervision of the State Bank of India. **Ans. (D) The Rural Banking system in India works under the guidance, instruction and supervision of the State Bank of India.**	**1**
28.	Using the following data, analyse the sectoral contribution of India and Pakistan towards Gross Value Added (GVA). *Sectoral Share of Employment and GVA (%) in 2018-19*	

Sector	*Contribution to GVA*			*Distribution of Workforce*		
	India	*China*	*Pakistan*	*India*	*China*	*Pakistan*
Agriculture	16	7	24	43	26	41
Industry	30	41	19	25	28	24
Services	54	52	57	32	46	35
Total	100	100	100	100	100	100

	Ans. The given data pertains to the sectoral share of Gross Value Added (GVA) of India and Pakistan. According to the given data, the contribution of the agricultural sector to GVA in India is 16% whereas, in Pakistan it is 24%. In India, the Industrial sector contributed 30% to GVA whereas this contribution stands at 19% in Pakistan. In India and Pakistan, the contribution of service sector to GVA is the highest, 54% and 57% respectively. Thus, in both the countries, service sector has emerged as a key contributor to growth. (To be marked as a whole)	**3**
29.	"British colonial rule in India resulted into systematic deindustrialisation of Indian	
(a)	indigenous industries." Explain the two-fold motive of the British with valid arguments.	
	Ans. The two-fold motive of the British colonial rule in India was to:	
	• **reduce India to the status of a mere exporter of important raw materials for the upcoming modern industries in Britain.**	**1 ½**
	• **turn India into a sprawling market for their finished products to ensure the maximum advantage of their home country.**	**1 ½**
	OR	**3**
(b)	"The trade and investment policy initiative by the Indian Government during 1991 economic reforms involved some major decision making with respect to local industries." Elaborate any two major decisions and their respective impacts on the Indian economy.	
	Ans. The trade and investment policy reforms initiated by the Indian Government during 1991 aimed at dismantling the structure of quantitative restrictions and reduction of tariff rates.	**1 ½**
	Liberalisation of this policy led to an increase in competitive position of Indian goods in the international markets and inflow of foreign investments and technology.	**1 ½**
		3
30.	(i) Distinguish between human capital and physical capital.	
(a)	**Ans. Human capital refers to the stock of knowledge, skill and ability imbibed in the owner of the same, i.e., human capital is inseparable from its owner. It cannot be sold in the market, only its services can be sold in the market.**	**1½**
	Whereas;	
	Physical capital are the assets (plant and machinery, building etc.), which are tangible in nature. It is separable from its owner. It can be transacted in the market.	**1½**
	(ii) Define Sustainable Development.	
	Ans. Sustainable Development is the development that meets the need of the present generation without compromising the ability of the future generation to meet their own needs.	**1**
	OR	**4**
(b)	(i) Describe briefly the importance of micro-credit programmes in Rural India.	
	Ans. Micro-credit programmes have emerged to fill the gap in the formal credit system. The formal credit delivery mechanism has not been fully integrated into the rural social structure. Due to non-availability of collateral, a vast proportion of poor rural households go out of the credit network. Micro-credit system has brought these poor households in the ambit of formal credit system by providing them loans at a concessional rate of interest. (To be marked as a whole)	**3**
	(ii) State any one strategy involved in attaining sustainable development in India.	
	Ans. Use of wind energy. (Any other valid strategy to be awarded marks)	**1**
		4
31.	Read the following text carefully:	
	China underwent substantial policy changes to stimulate their economy. China's economic growth was rapid in the late 1970s across various sectors. However, India had to wait much	

	longer for its economic transformation. India's significant economic progress was only realised after the economic reforms of 1991, which were implemented out of compulsion. On the basis of given text and common understanding, compare the impact of subsequent reforms initiated by China and India. **Ans. China's rapid economic growth can be traced back to the voluntarily initiated reforms in 1978. China was able to maintain near double-digit growth during 1980s which paved the strategic shift towards a manufacturing-driven economy. Moreover, agricultural reforms brought prosperity to a vast number of poor people. It fostered industrial expansion and strengthening support for further reforms.** **In contrast, India was compelled to introduce economic reforms in 1991. The industrial sector reported fluctuation, the growth of the service sector has gone up. This indicates that GDP growth is mainly driven by growth in the service sector.** **(To be marked as a whole)** **(Any other valid explanation to be awarded marks)**	**4**
32.	State and elaborate, whether the following statements are true/false, with valid arguments: (a) Under the Golden Revolution, there was tremendous growth in horticulture, making India the world leader in this field. **Ans. True. India has emerged as a world leader in producing a variety of fruits like mangoes, bananas, etc. and is the second largest producer of fruits and vegetables.** (b) Small and marginal farmers are given preference in getting credit from non-institutional sources like Regional Rural Banks, Cooperative Banks, etc. **Ans. False. Regional Rural Banks, Cooperative Banks etc. are the institutional sources set up by the government to adequately meet the needs of rural credit.**	**2** **2** **4**
33. **(a)**	(i) "Import substitution policy, if not applied carefully, can be a double-edged sword for any economy." Do you agree with the given statement? Justify your answer with valid arguments. **Ans. Yes. Import-substitution policy aimed at replacing imports with domestic production to protect domestic industries from foreign competition and to save foreign exchange.** **However, protection from foreign competition may do more harm than good. The domestic producers in the absence of a competitive market won't have any incentive to improve the quality of their goods. In turn, consumers may have to purchase low quality items at a higher price. Hence, import substitution policy, if not applied carefully, can prove to be a double-edged sword for any economy. (To be marked as a whole)** (ii) State how multilateral trade is different from bilateral trade. **Ans. Multilateral trade is the trade by a country with more than two nations to exchange goods and services.** **Whereas, bilateral trade refers to the exchange of goods or services between two countries.**	**4** **1** **1**
	OR	**6**
(b)	(i) Discuss briefly, causes and consequences of the tax reforms initiated during economic reforms in India. **Ans. The causes of the tax reforms initiated during economic reforms in India were to curb tax evasion, encourage savings and voluntary disclosure of income. Additionally, indirect tax reforms were necessitated to facilitate the establishment of a common national market for commodities.**	**2**

	The tax rate rationalisation during the reform period, aimed at yielding larger tax revenue but did not result in an increase in the tax revenue. Moreover, tax incentives provided to foreign investors further reduced the scope for raising tax revenues which adversely impacted developmental and welfare expenditures. **(Any other valid cause or consequence to be awarded marks)**	**2**
	(ii) State one example each of a Maharatna and a Miniratna company in the public sector in India. **Ans. Example of Maharatna Company –Indian Oil Corporation Limited.** **Example of Miniratna Company – Bharat Sanchar Nigam Limited.** **(Any other valid example to be awarded marks)**	**1** **1**
		6
34.	Read the following text carefully: The Labour Force Participation Rate (LFPR) measures the percentage of the population either employed or actively seeking employment in a nation. In India, the labour force grew by 99·2 million persons between 2000-2019. The labour force grew from 396·3 million to 495·5 million. During 2012-2019, the labour force grew without a matching increase in employment, leading to higher unemployment. The gender disparity in India's labour market is notable with women's LFPR at 32.8% in 2022, significantly lower than men's LFPR at 77.2%. This is a major reason for India's overall low LFPR, which is lower than the global average of 47·3%. During 2000-2019, rural LFPR declined by 14·1%, compared to a 3·5% decline in urban areas. This trend reversed between 2019-2022, with rural LFPR increasing by 6% (especially among rural women) and urban LFPR by 2.1%. These shifts suggest that fluctuations occur in women's labour market participation, particularly in rural areas. This significantly affected the overall LFPR. Women join the workforce during economic hardships and move out when conditions improve. On the basis of the given text and common understanding, answer the following questions: (a) Define unemployment. **Ans. Unemployment refers to a situation in which all those persons who are willing and able to work do not get work at the prevailing wage rate.** (b) Write the meaning of Labour Force Participation Rate (LFPR). Ans. **The Labour Force Participation Rate (LFPR) measures the percentage of the population either employed or actively seeking employment in a nation.** (c) Comment upon the gender disparities in rural and urban Labour Force Participation Rate (LFPR) during 2000-2019. **Ans. The gender disparities in India's labour market is notable with women's LFPR at 32.8% in 2022, significantly lower than men's LFPR at 77.2%. During 2000 – 2019, rural LFPR declined by 14.1%, compared to a 3.5% decline in urban areas.** **(To be marked as a whole)**	**1** **2** **3**
		6

* * *

Marking Scheme Hindi Medium
Strictly Confidential
(For Internal and Restricted use only)
Senior School Certificate Examination,2025

ECONOMICS (SUBJECT CODE – 030)

(PAPER CODE – 58/5/3)

General Instructions: -

1	You are aware that evaluation is the most important process in the actual and correct assessment of the candidates. A small mistake in evaluation may lead to serious problems which may affect the future of the candidates, education system and teaching profession. To avoid mistakes, it is requested that before starting evaluation, you must read and understand the spot evaluation guidelines carefully.
2	**"Evaluation policy is a confidential policy as it is related to the confidentiality of the examinations conducted, Evaluation done and several other aspects. Its' leakage to public in any manner could lead to derailment of the examination system and affect the life and future of millions of candidates. Sharing this policy/document to anyone, publishing in any magazine and printing in News Paper/Website etc may invite action under various rules of the Board and IPC."**
3	Evaluation is to be done as per instructions provided in the Marking Scheme. It should not be done according to one's own interpretation or any other consideration. Marking Scheme should be strictly adhered to and religiously followed. **However, while evaluating, answers which are based on latest information or knowledge and/or are innovative, they may be assessed for their correctness otherwise and due marks be awarded to them. In Class XII, while evaluating competency-based questions, please try to understand given answer and even if reply is not from marking scheme but correct competency is enumerated by the candidate, due marks should be awarded.**
4	The Marking scheme carries only suggested value points for the answers. These are in the nature of Guidelines only and do not constitute the complete answer. The students can have their own expression and if the expression is correct, the due marks should be awarded accordingly.
5	The Head-Examiner must go through the first five answer books evaluated by each evaluator on the first day, to ensure that evaluation has been carried out as per the instructions given in the Marking Scheme. If there is any variation, the same should be zero after delibration and discussion. The remaining answer books meant for evaluation shall be given only after ensuring that there is no significant variation in the marking of individual evaluators.
6	Evaluators will mark(√) wherever answer is correct. For wrong answer CROSS 'X" be marked. Evaluators will not put right (✓)while evaluating which gives an impression that answer is correct and no marks are awarded. **This is most common mistake which evaluators are committing.**
7	If a question has parts, please award marks on the right-hand side for each part. Marks awarded for different parts of the question should then be totalled up and written in the left-hand margin and encircled. This may be followed strictly.

8	If a question does not have any parts, marks must be awarded in the left-hand margin and encircled. This may also be followed strictly.
9	If a student has attempted an extra question, answer of the question deserving more marks should be retained and the other answer scored out with a note **"Extra Question"**.
10	No marks to be deducted for the cumulative effect of an error. It should be penalized only once.
11	A full scale of marks 80 has to be used. Please do not hesitate to award full marks if the answer deserves it.
12	Every examiner has to necessarily do evaluation work for full working hours i.e., 8 hours every day and evaluate 20 answer books per day in main subjects and 25 answer books per day in other subjects (Details are given in Spot Evaluation Guidelines). This is in view of the reduced syllabus and number of questions in question paper.
13	Ensure that you do not make the following common types of errors committed by the Examiner in the past:- ● Leaving answer or part thereof unassessed in an answer book. ● Giving more marks for an answer than assigned to it. ● Wrong totaling of marks awarded on an answer. ● Wrong transfer of marks from the inside pages of the answer book to the title page. ● Wrong question wise totaling on the title page. ● Wrong totaling of marks of the two columns on the title page. ● Wrong grand total. ● Marks in words and figures not tallying/not same. ● Wrong transfer of marks from the answer book to online award list. ● Answers marked as correct, but marks not awarded. (Ensure that the right tick mark is correctly and clearly indicated. It should merely be a line. Same is with the X for incorrect answer.) ● Half or a part of answer marked correct and the rest as wrong, but no marks awarded.
14	While evaluating the answer books if the answer is found to be totally incorrect, it should be marked as cross (X) and awarded zero (0)Marks.
15	Any un assessed portion, non-carrying over of marks to the title page, or totaling error detected by the candidate shall damage the prestige of all the personnel engaged in the evaluation work as also of the Board. Hence, in order to uphold the prestige of all concerned, it is again reiterated that the instructions be followed meticulously and judiciously.
16	The Examiners should acquaint themselves with the guidelines given in the "**Guidelines for spot Evaluation**" before starting the actual evaluation.
17	Every Examiner shall also ensure that all the answers are evaluated, marks carried over to the title page, correctly totalled and written in figures and words.
18	The candidates are entitled to obtain photocopy of the Answer Book on request on payment of the prescribed processing fee. All Examiners/Additional Head Examiners/Head Examiners are once again reminded that they must ensure that evaluation is carried out strictly as per value points for each answer as given in the Marking Scheme.

अंकन योजना हिन्दी माध्यम

सीनियर स्कूल सर्टिफिकेट परीक्षा, 2025

अर्थशास्त्र (विषय कोड – 030)

[प्रश्न-पत्र कोड : 58/5/3]

अधिकतम अंक : 80

प्र.सं	अपेक्षित उत्तर/ मूल्य बिंदु	अंक
	खण्ड - क **(समष्टि अर्थशास्त्र)**	
1.	कीन्स के सिद्धांत के अंतर्गत, 'संदर्भ रेखा' (Reference line) मूल बिंदु से _____ कोण पर खींची जाने वाली एक सीधी रेखा है। (रिक्त स्थान की पूर्ति के लिए सही विकल्प का चयन कीजिए) (A) 25° (B) 45° (C) 55° (D) 75° **उत्तर - (B) 45°**	**1**
2.	2023 – 24 के केंद्रीय बजट में प्रस्तुत आँकड़ों के अनुसार, सरकार की कुल प्राप्तियाँ (ऋण के अतिरिक्त) तथा कुल व्यय क्रमशः ₹ 20 लाख करोड़ तथा ₹ 45 लाख करोड़ अनुमानित हैं। अतः _____ घाटे का मूल्य ₹ 25 लाख करोड़ होगा। (रिक्त स्थान की पूर्ति के लिए सही विकल्प का चयन कीजिए) (A) राजस्व (B) राजकोषीय (C) व्यापार (D) प्राथमिक **उत्तर - (B) राजकोषीय**	**1**
3.	निम्नलिखित कथनों को ध्यानपूर्वक पढ़िए : कथन 1: सीमांत उपभोग प्रवृत्ति (MPC) प्रति आय इकाई उपभोग को प्रदर्शित करता है। कथन 2: जैसे-जैसे किसी देश की राष्ट्रीय आय में वृद्धि होती है, उपभोग में आनुपातिक वृद्धि सदैव आय में वृद्धि से अधिक होती है। दिए गए कथनों के आलोक में, निम्नलिखित में से सही विकल्प का चयन कीजिए : (A) कथन 1 सत्य है और कथन 2 असत्य है। (B) कथन 1 असत्य है और कथन 2 सत्य है। (C) कथन 1 और 2 दोनों सत्य हैं। (D) कथन 1 और 2 दोनों असत्य हैं। **उत्तर - (D) कथन 1 और 2 दोनों असत्य हैं।**	**1**
4.	किसी द्वि-क्षेत्रीय अर्थव्यवस्था में, _____ व _____ को जोड़कर समग्र पूर्ति का निर्धारण किया जा सकता है। (रिक्त स्थानों की पूर्ति के लिए सही विकल्प का चयन कीजिए) (A) उपभोग, निवेश (B) निवेश, बचत (C) उपभोग, बचत (D) बचत, निर्यात **उत्तर - (C) उपभोग, बचत**	**1**
5.	निम्नलिखित कथनों को ध्यानपूर्वक पढ़िए : कथन 1: किसी सरकार के लिए विदेशी सहायता (Foreign aids) पूंजीगत प्राप्तियाँ होती हैं। कथन 2: विनिवेश से सरकार की परिसंपत्तियों में कमी आ सकती है। दिए गए कथनों के आलोक में, निम्नलिखित में से सही विकल्प का चयन कीजिए : (A) कथन 1 सत्य है और कथन 2 असत्य है। (B) कथन 1 असत्य है और कथन 2 सत्य है।	

	(C) कथन 1 और 2 दोनों सत्य हैं। (D) कथन 1 और 2 दोनों असत्य हैं। **उत्तर - (C) कथन 1 और 2 दोनों सत्य हैं।**	**1**
6.	निम्नलिखित में से उस स्थिति को पहचानिए, जो किसी राष्ट्र के भुगतान संतुलन (BOP) खाते में चालू खाते अधिशेष (CAS) को इंगित करती है। (सही विकल्प का चयन कीजिए) (A) चालू खाते की प्राप्तियों का चालू खाते के भुगतानों पर आधिक्य। (B) चालू खाते की प्राप्तियों व चालू खाते के भुगतानों में समानता। (C) चालू खाते के भुगतानों का चालू खाते की प्राप्तियों पर अधिक्य। (D) चालू खाते के भुगतानों का पूँजी खाते की प्राप्तियों पर अधिक्य। **उत्तर - (A) चालू खाते की प्राप्तियों का चालू खाते के भुगतानों पर आधिक्य।**	**1**
7.	बाज़ार मूल्य पर शुद्ध मूल्य वृद्धि (NVA_{MP}) का मूल्य प्राप्त करने के लिए, बाज़ार मूल्य पर सकल वर्धित मूल्य (GVA_{MP}) में/से _____ को _____ जाना चाहिए। (रिक्त स्थानों की पूर्ति के लिए सही विकल्प का चयन कीजिए) (A) मूल्यह्रास, जोडा (B) मूल्यह्रास, घटाया (C) शुद्ध अप्रत्यक्ष कर, घटाया (D) शुद्ध अप्रत्यक्ष कर, जोडा **उत्तर - (B) मूल्यह्रास, घटाया**	**1**
8.	पहचान कीजिए कि, निम्नलिखित में से कौन-सा एक सार्वजनिक वस्तु को वर्णित **नहीं** करता है। (सही विकल्प का चयन कीजिए) (A) सरकार द्वारा उपलब्ध कराए गए निःशुल्क टीके (वैक्सीन) (B) सेना द्वारा प्रदत्त रक्षा सेवाएँ (C) किसी व्यक्ति द्वारा रेलवे टिकट का क्रय (D) किसी शहर की नगरपालिका द्वारा स्थापित स्ट्रीट लाइट (Street light) **उत्तर - (C) किसी व्यक्ति द्वारा रेलवे टिकट का क्रय**	**1**
9.	विदेशी विनिमय दर निर्धारण में माँग व पूर्ति की बाजार शक्तियाँ _____ विनिमय दर प्रणाली के अंतर्गत सक्रिय रूप से परस्पर क्रिया करती हैं। (रिक्त स्थान की पूर्ति के लिए सही विकल्प का चयन कीजिए) (A) स्थिर (B) नम्य (C) प्रबंधित तिरती (D) स्थिर तिरती **उत्तर - (B) नम्य**	**1**
10.	निम्नलिखित कथनों को ध्यानपूर्वक पढ़िए : कथन 1: अवस्फीतिकारी अंतराल के दौरान, किसी राष्ट्र का केंद्रीय बैंक रेपो (Repo) दर में वृद्धि कर सकता है। कथन 2: सरकार खुले बाजार में सरकारी प्रतिभूतियों (G-Sec) के क्रय द्वारा अवस्फीतिकारी अंतराल को कम कर सकती है। दिए गए कथनों के आलोक में, निम्नलिखित में से सही विकल्प का चयन कीजिए : (A) कथन 1 सत्य है और कथन 2 असत्य है। (B) कथन 1 असत्य है और कथन 2 सत्य है। (C) कथन 1 और 2 दोनों सत्य हैं। (D) कथन 1 और 2 दोनों असत्य हैं। **उत्तर - (D) कथन 1 और 2 दोनों असत्य हैं।**	**1**
11.	"भारत के आर्थिक सर्वेक्षण 2022 – 23 के अनुसार, भू-राजनीतिक संघर्ष के प्रादुर्भाव के कारण उर्वरक व ईंधन के अंतरराष्ट्रीय मूल्यों में वृद्धि हुई थी। अतः लोगों की सहायता सुनिश्चित करने के लिए ईंधन व उर्वरक उपदान की आवश्यकताओं में बढ़ोतरी हुई थी।" दिए गए गद्य के आधार पर, सरकार की इंगित बजट उद्देश्य की पहचान व व्याख्या कीजिए। **उत्तर - सरकार के इंगित बजट का उद्देश्य 'स्थिरीकरण कार्य' है।**	**1**

	स्थिरीकरण कार्य का उद्देश्य सरकार की कराधान और व्यय नीति के माध्यम से वस्तुओं और सेवाओं के मूल्यों में बड़े पैमाने पर उतार-चढ़ाव को नियंत्रित करना है। सरकार मूल्य स्थिरता सुनिश्चित करने के लिए ईंधन और उर्वरक उपदान प्रदान करने पर व्यय कर सकती है।	**2**
		3
12.	मूल्य वृद्धि विधि के अंतर्गत, राष्ट्रीय आय के आकलन से संबंधित चरणों का उल्लेख कीजिए।	
(क)	**उत्तर - मूल्य वर्धित विधि के अन्तर्गत राष्ट्रीय आय के आकलन से संबंधित चरण:**	
	1. उत्पादन इकाइयों को अलग-अलग क्षेत्रकों अर्थात् प्राथमिक, द्वितीयक और तृतीयक क्षेत्र में पहचानें और वर्गीकृत करें।	**1**
	2. उत्पादन के मूल्य में से मध्यवर्ती उपभोग के मूल्य को घटाकर प्रत्येक क्षेत्र के सकल मूल्य वर्धित का अनुमान लगाएं और बाजार मूल्य पर सकल घरेलू उत्पाद पर पहुंचने के लिए प्रत्येक क्षेत्र के सकल मूल्य वर्धित को जोड़ें।	**1**
	3. अंत में, मूल्यह्रास, शुद्ध अप्रत्यक्ष करों के मूल्य का अनुमान लगाकर उन्हें घटाएं और राष्ट्रीय आय (NNP_{FC}) पर पहुंचने के लिए विदेश से शुद्ध कारक आय जोड़ें।	**1**
	अथवा	**3**
(ख)	निम्नलिखित काल्पनिक आँकड़ों के आधार पर, 2020 – 21 को आधार वर्ष मानते हुए, वर्ष 2022 – 23 में वास्तविक सकल घरेलू उत्पाद (GDP) में प्रतिशत परिवर्तन की गणना कीजिए।	

(सभी आँकड़े ₹ करोड़ में)

वर्ष	नाममात्र सकल घरेलू उत्पाद	नाममात्र सकल घरेलू उत्पाद (आधार वर्ष के मूल्यों के अनुसार समायोजित)
2020 – 21	3,000	5,000
2022 – 23	4,000	6,000

उत्तर: वर्ष 2022-23 के दौरान वास्तविक सकल घरेलु उत्पाद (GDP) में प्रतिशत परिवर्तन

$$= \frac{\text{वास्तविक } GDP \text{ में परिवर्तन}}{\text{वास्तविक } GDP} \times 100$$

$$= \frac{6000-5000}{5000} \times 100$$

$$= 20\%$$

1½
1
½

3

13.	निम्नलिखित गद्य का ध्यानपूर्वक अध्ययन कीजिए : "एक अर्थव्यवस्था में, समग्र माँग में उल्लेखनीय कमी ने, देश के भविष्य की विकास संभावनाओं के बारे में चिंताएँ उत्पन्न कर दी हैं। यह आर्थिक मंदी, गृहस्थों के विश्वास में वृद्धि करने तथा आर्थिक गतिविधियों को प्रोत्साहित करने के लिए रणनीतिक उपायों की तत्काल आवश्यकता को रेखांकित करती है।" उपर्युक्त गद्य तथा सामान्य ज्ञान के आधार पर, उन उपायों की व्याख्या कीजिए जिन्हें सरकार निर्दिष्ट स्थिति को स्थिर करने के लिए कर सकती है।	
	उत्तर: उपरोक्त इंगित की गई स्थिति 'अपस्फीति' है जो अर्थव्यवस्था में समग्र मांग में कमी का परिणाम है। अपस्फीति को नियंत्रित करने के लिए, सरकार निम्न उपाय कर सकती है - • **करों की दरों को कम कर सकती है जिससे आम जनता के हाथों में प्रयोज्य आय (क्रय शक्ति) बढ़ सकती है। परिणामस्वरूप, इससे समग्र मांग में वृद्धि हो सकती है, जिससे अपस्फीति की स्थिति ठीक हो सकती है।** • **सार्वजनिक व्यय में वृद्धि कर सकती है जिससे अर्थव्यवस्था में आय का स्तर बढ़ सकता है। परिणामस्वरूप, इससे समग्र मांग में वृद्धि हो सकती है, जिससे अपस्फीति की स्थिति ठीक हो सकती है।**	**2** **2**
		4
14.	"2023 – 24 के दौरान, US $ 70.9 Bn के प्रत्यक्ष विदेशी निवेश (FDI) अंतर्वाह व US $ 32.4 Bn के शुद्ध विदेशी पोर्टफोलियो निवेश अंतर्वाह के साथ भारतीय अर्थव्यवस्था में तीव्र परिवर्तन का अनुभव किया गया है।"	
(क)	(i) उपर्युक्त आर्थिक चरों के मध्य अंतर स्पष्ट कीजिए।	

	उत्तर - प्रत्यक्ष विदेशी निवेश (FDI) का तात्पर्य भौतिक परिसंपत्तियों में प्रत्यक्ष विदेशी निवेश से है, जिसमें फर्म पर काफी हद तक प्रभाव और नियंत्रण होता है।	**1**
	जबकि;	
	विदेशी पोर्टफोलियो निवेश (FPI) का तात्पर्य स्टॉक, बॉन्ड या अन्य वित्तीय परिसंपत्तियों में विदेशी निवेश से है और इसमें फर्म पर सक्रिय प्रबंधन या नियंत्रण शामिल नहीं होता है।	**1**
	(ii) भुगतान संतुलन के किस खाते में उपर्युक्त मदों को दर्ज किया जाएगा व क्यों?	
	उत्तर - उपर्युक्त मदों को भुगतान संतुलन के पूंजी खाते में दर्ज किया जाएगा।	**1**
	पूंजी खाते में परिसंपत्तियों के सभी अंतरराष्ट्रीय लेनदेन को शामिल किया जाता है।	**1**
	अथवा	**4**
(ख)	व्याख्या कीजिए कि, स्वायत्त लेन-देन किस प्रकार समायोजन लेन-देन से भिन्न होते हैं।	
	उत्तर: स्वायत्त लेन-देन वे अंतर्राष्ट्रीय आर्थिक लेन-देन हैं जो भुगतान संतुलन (BOP) की स्थिति से स्वतंत्र होते हैं। ये लेन-देन सामान्यतः 'आर्थिक उद्देश्य' से किए जाते हैं। ऐसे लेन-देन को बीओपी खाते में 'रेखा से ऊपर' की मदें कहा जाता है।	**2**
	जबकि;	
	समायोजन लेन-देन वे अंतर्राष्ट्रीय आर्थिक लेन-देन हैं जो भुगतान संतुलन (BOP) में अधिशेष या घाटे को पूरा करने के लिए (सक्षम अधिकारियों द्वारा) किए जाते हैं। ये लेन-देन किसी भी आर्थिक उद्देश्य से स्वतंत्र होते हैं। ऐसे लेन-देन को बीओपी खाते में 'रेखा से नीचे' की मदें कहा जाता है।	**2**
		4
15.	मान लीजिए कि दो काल्पनिक अर्थव्यवस्थाओं A व B के लिए, सीमांत उपभोग प्रवृत्ति (MPC) का मान क्रमशः 0.5 तथा 0.8 है। दोनों अर्थव्यस्थाओं के लिए, स्वायत्त उपभोग ($\bar{c}$) = ₹ 400 करोड़ है तथा निवेश व्यय (I) = ₹2,000 करोड़ है। निम्नलिखित की गणना कीजिए : (क) अर्थव्यवस्था A के लिए आय का सम स्तर (Break-even level)। (ख) अर्थव्यवस्था B के लिए आय का संतुलन स्तर।	
	उत्तर: दिया गया है, **स्वायत्त उपभोग ($\bar{c}$) = ₹ 400 करोड़** **निवेश व्यय (I) = ₹ 2000 करोड़** **अर्थव्यवस्था A के लिए, सीमांत उपभोग प्रवृत्ति (MPC) = 0.5** **अर्थव्यवस्था B के लिए, सीमांत उपभोग प्रवृत्ति (MPC) = 0.8**	
	(a) जैसा कि हम जानते हैं, अर्थव्यवस्था A के लिए आय का सम-स्तर; Y = C	**1**
	$Y = \bar{c}$ + (MPC) Y	
	Y = 400 + 0.5Y	**½**
	Y= ₹ 800 करोड़	**½**
	(b) अर्थव्यवस्था B के लिए आय का संतुलन स्तर; Y= C + I	**1**
	Y= $\bar{c}$ + (MPC) Y + I	
	Y= 400 + 0.8Y + 2000	**½**
	Y= ₹ 12,000 करोड़	**½**
		4
16.	(क) "किसी राष्ट्र में, नियमित आर्थिक संचालन, सुचारु आर्थिक गतिविधियां लेनदेन को सुविधाजनक बनाने के लिए विनियम के एक स्थिर माध्यम पर निर्भर करता है।" मुद्रा के निर्दिष्ट कार्य पर संक्षेप में चर्चा कीजिए।	
	उत्तर - मुद्रा का निर्दिष्ट कार्य 'विनिमय का माध्यम' है।	**1**
	किसी भी लेन-देन के लिए मुद्रा एक सार्वभौमिक रूप से स्वीकार्य माध्यम के रूप में कार्य करती है। मुद्रा वस्तुओं और सेवाओं के क्रय/विक्रय के लिए एक माध्यम के रूप में कार्य करती है। यह बाज़ार में विनिमय को सुविधाजनक बनाकर आवश्यकताओं के दोहरे संयोग की सीमा को समाप्त करती है।	**2**
	(ख) मुद्रा आपूर्ति के M1 माप का अर्थ व घटकों का उल्लेख कीजिए।	
	उत्तर: मुद्रा आपूर्ति का M1 माप, अर्थव्यवस्था में किसी विशेष समय पर जनता के पास रखी गई मुद्रा की कुल मात्रा को संदर्भित करती है।	**1**

मुद्रा आपूर्ति के M1 माप के दो घटक हैं:

- **जनता द्वारा रखी गई करेंसी (नोट और सिक्के)।** ½
- **वाणिज्यिक बैंकों द्वारा रखी गई शुद्ध मांग जमा।** ½

(ग) साख गुणक की गणना करने का सूत्र लिखिए।

उत्तर – साख गुणक $= \frac{1}{\text{आरक्षित अनुपात}}$ **1**

6

17. (क) (i) किसी राष्ट्र में 20 नए उपरिगामी (flyovers) के निर्माण से अर्थव्यवस्था में सकल घरेलू उत्पाद (GDP) व कल्याण पर संभावित प्रभावों की व्याख्या कीजिए।

उत्तर: 20 नए उपरिगामी (flyovers) के निर्माण से सकल घरेलू उत्पाद (GDP) पर सकारात्मक प्रभाव पड़ सकता है क्योंकि साधारणतया बेहतर आधारिक संरचना अर्थव्यवस्था में अधिक निवेश को आकर्षित करती है और इससे रोज़गार के अवसरों में वृद्धि हो सकती है। इससे यात्रा का समय और औसत परिवहन लागत भी कम हो सकती है। परिणामस्वरूप, नागरिकों के कल्याण में सुधार हो सकता है। **2**

(पूरे उत्तर को एक साथ अंकित किया जाए)

(ii) मान लीजिए कि, एक काल्पनिक अर्थव्यवस्था में केवल तीन फर्में A, B और C हैं। एक निश्चित समयावधि के दौरान, उनके द्वारा निम्नलिखित लेनदेन किए गए हैं :

(I) फर्म A ने फर्म B को ₹ 2,000 तथा फर्म C को ₹ 1,200 के मूल्य का माल विक्रय किया।

(II) फर्म B ने फर्म A को ₹ 1,100 तथा फर्म C को ₹ 3,500 के मूल्य का माल विक्रय किया।

(III) फर्म C ने गृहस्थों को ₹5,700 के मूल्य के माल का अंतिम उपभोग के लिए विक्रय किया।

शुद्ध अप्रत्यक्ष करों का मूल्य ₹ 200 मानते हुए, साधन लागत पर सकल घरेलू उत्पाद (GDP_{FC}) के मूल्य का अनुमान लगाइए।

मूल्य का अनुमान लगाइए।

उत्तर -

फर्म	**उत्पादन का मूल्य (₹ में) (i)**	**मध्यवर्ती उपभोग (₹ में) (ii)**	**सकल मूल्य वर्धन (₹ में) {(i) – (ii)}**
A	**2,000 + 1,200**	**1,100**	**2,100**
B	**1,100 + 3,500**	**2,000**	**2,600**
C	**5,700**	**1,200 + 3,500**	**1,000**
	13,500	**7,800**	**5,700**
बाजार मूल्य पर सकल घरेलू उत्पाद (GDP_{MP})			

½ ½ ½ ½

कारक लागत पर सकल घरेलू उत्पाद (GDP_{FC}) = GDP_{MP} - शुद्ध अप्रत्यक्ष कर **1**

= 5,700 - 200 ½

= ₹ 5,500 ½

(अन्य किसी प्रासंगिक विधि के लिए भी अंक प्रदान किए जाएँ)

अथवा

6

(ख) "सभी उपभोग वस्तुएँ टिकाऊ प्रकृति की होती हैं।"

वैध तर्क से दिए गए कथन का समर्थन या खंडन कीजिए।

उत्तर - दिए गए कथन का खंडन किया जाता है। उपभोग वस्तुओं को टिकाऊ और गैर-टिकाऊ वस्तुओं के रूप में वर्गीकृत किया जा सकता है। गैर-टिकाऊ उपभोग वस्तुओं, जैसे कि खाद्य और पेय पदार्थ, का जीवनकाल अल्प होता है। जबकि टिकाऊ उपभोग वस्तुओं, जैसे कि कार और घरेलू उपकरण, का उपयोग सामान्यतः एक वर्ष से अधिक समय तक किया जा सकता है। इसलिए, सभी उपभोग वस्तुएँ टिकाऊ प्रकृति नहीं होती हैं। **3**

(पूरे उत्तर को एक साथ अंकित किया जाए)

(ii) दिए गए आंकड़ों के आधार पर, राष्ट्रीय आय (NNP_{FC}) के मूल्य का अनुमान लगाइए :

क्र.सं.	मदें	राशि (₹ करोड़ में)
(i)	घरेलू उपभोग व्यय	1,800
(ii)	सकल व्यापारिक स्थायी पूँजी निर्माण	1,150
(iii)	सकल आवासीय निर्माण व्यय	1,020
(iv)	सरकारी अंतिम उपभोग व्यय	2,170
(v)	निर्यात पर आयात का आधिक्य	720
(vi)	मालसूची (Inventory) निवेश	540
(vii)	सकल सार्वजनिक निवेश	1,300
(viii)	शुद्ध अप्रत्यक्ष कर	240
(ix)	विदेशों से प्राप्त शुद्ध कारक आय	(–) 250
(x)	स्थायी पूँजी का उपभोग	440

उत्तर -

राष्ट्रीय आय (NNP_{FC}) = (i) + (iv) + (ii) + (iii) + (vii) + (vi) – (v) – (x) + (ix) – (viii) **1½**

=1,800+2,170+1,150+1,020+1,300+540–720–440+(-250) – 240 **1**

= ₹ 6,330 करोड़ **½**

6

खंड – ख
(भारतीय आर्थिक विकास)

18. पहचान कीजिए कि, पर्यावरण के कार्यों के संदर्भ में निम्नलिखित में से कौन-सा कथन **असत्य** है ?

(सही विकल्प का चयन कीजिए)

(A) पर्यावरण संसाधन उपलब्ध कराता है।
(B) पर्यावरण अपव्यव को अवशोषित करता है।
(C) पर्यावरण जीवन का पोषण करता है।
(D) पर्यावरण जीवन की गुणवत्ता का क्षय करता है।

उत्तर - (D) पर्यावरण जीवन की गुणवत्ता का क्षय करता है। **1**

19. निम्नलिखित कथनों – अभिकथन (A) और कारण (R) का अध्ययन कीजिए।

नीचे दिए गए विकल्पों में से सही विकल्प का चयन कीजिए :

अभिकथन (A) : 1991 में प्रारंभ किए गए वित्तीय क्षेत्र सुधारों के अंतर्गत, बैंकों में विदेशी निवेश की सीमा लगभग 74% तक बढ़ा दी गई थी।

कारण (R) : 1991 के उपरांत, विदेशी संस्थागत निवेशकों (FIIs) को भारतीय वित्तीय बाजारों में निवेश करने की अनुमति दे दी गई थी।

विकल्प :

(A) अभिकथन (A) और कारण (R) दोनों सत्य हैं तथा कारण (R), अभिकथन (A) की सही व्याख्या करता है।
(B) अभिकथन (A) और कारण (R) दोनों सत्य हैं लेकिन कारण (R), अभिकथन (A) की सही व्याख्या नहीं करता है।
(C) अभिकथन (A) सत्य है, लेकिन कारण (R) असत्य है।
(D) अभिकथन (A) असत्य है, लेकिन कारण (R) सत्य है।

उत्तर - (B) अभिकथन (A) और कारण (R) दोनों सत्य हैं लेकिन कारण (R), अभिकथन (A) की सही व्याख्या नहीं करता है। **1**

20. "मान लीजिए कि, एक काल्पनिक अर्थव्यवस्था वास्तविक सकल घरेलू उत्पाद (GDP) में वृद्धि की स्थिति का अनुभव कर रही है, जबकि अर्थव्यवस्था में रोजगार के अवसरों में पर्याप्त वृद्धि नहीं हो रही है।"

ऐसी स्थिति को, आर्थिक भाषा शैली में _____ वृद्धि कहा जाता है।

(रिक्त स्थान की पूर्ति के लिए सही विकल्प का चयन कीजिए)

(A) अनियत (Casual)
(B) अनौपचारिक
(C) औपचारिक
(D) रोजगार विहीन

उत्तर - (D) रोजगार विहीन **1**

21.	निम्नलिखित कथनों को ध्यानपूर्वक पढ़िए : कथन 1 : ब्रिटिश नीतियों के कारण भारतीय अर्थव्यवस्था के द्वितीयक व तृतीयक क्षेत्रों में प्रचुर मात्रा में रोजगार सृजन हुआ था। कथन 2 : औपनिवेशिक सरकार के संरचनात्मक ढांचे के विकास का वास्तविक उद्देश्य भारतीय हितों को लाभान्वित करना था। दिए गए कथनों के आलोक में, निम्नलिखित में से सही विकल्प का चयन कीजिए : (A) कथन 1 सत्य है और कथन 2 असत्य है। (B) कथन 1 असत्य है और कथन 2 सत्य है। (C) कथन 1 और 2 दोनों सत्य हैं। (D) कथन 1 और 2 दोनों असत्य हैं। **उत्तर - (D) कथन 1 और 2 दोनों असत्य हैं।**	**1**
22.	निम्नलिखित कथनों को ध्यानपूर्वक पढ़िए : कथन 1 : सरकार द्वारा न्यूनतम समर्थन मूल्य (MSP) पर किए गए खाद्यान्न के क्रय को बफर स्टॉक के रूप में रखा जाता है। कथन 2 : न्यूनतम समर्थन मूल्य (MSP) कृषि उत्पाद मूल्य में किसी भी तीव्र गिरावट के विरुद्ध, कृषकों को सुरक्षा प्रदान करता है। दिए गए कथनों के आलोक में, निम्नलिखित में से सही विकल्प का चयन कीजिए : (A) कथन 1 सत्य है और कथन 2 असत्य है। (B) कथन 1 असत्य है और कथन 2 सत्य है। (C) कथन 1 और 2 दोनों सत्य हैं। (D) कथन 1 और 2 दोनों असत्य हैं। **उत्तर - (C) कथन 1 और 2 दोनों सत्य हैं।**	**1**
23.	निम्नलिखित चित्र का ध्यानपूर्वक अध्ययन कीजिए : 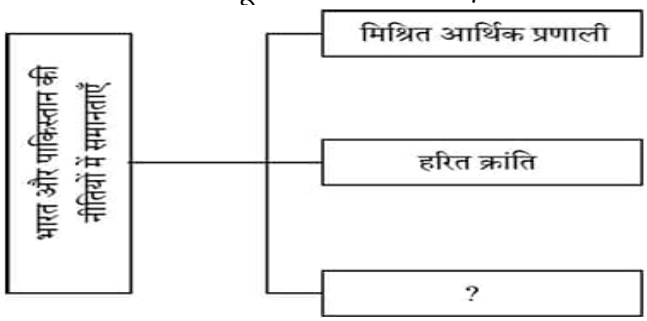 निम्नलिखित में से उस सही विकल्प का चयन कीजिए, जो 1947 की अवधि के उपरांत भारत व पाकिस्तान की नीतियों में समानताओं को इंगित करता है : (सही विकल्प का चयन कीजिए) (A) दोहरी कीमत-निर्धारण नीति (B) कम्यून प्रणाली (C) आयात प्रतिस्थापन (D) महान सर्वहारा सांस्कृतिक क्रांति **उत्तर - (C) आयात प्रतिस्थापन**	**1**
24.	एक विशिष्ट फसल के स्थान पर, विभिन्न प्रकार की फसलों का उत्पादन _____ के विविधीकरण के रूप में जाना जाता है। (रिक्त स्थान की पूर्ति के लिए सही विकल्प का चयन कीजिए) (A) फसलों (B) कृषि उत्पादन (C) क्षेत्रीय संरचना (D) रोजगार **उत्तर - (A) फसलों**	**1**
25.	निम्नलिखित कथनों – अभिकथन (A) और कारण (R) का अध्ययन कीजिए। नीचे दिए गए विकल्पों में से सही विकल्प का चयन कीजिए : अभिकथन (A) : लोग श्रम व अन्य बाजारों (जैसे कि शिक्षा व स्वास्थ्य) से संबंधित सूचना प्राप्त करने के लिए व्यय करते हैं। कारण (R) : मानव पूंजी स्टॉक के कुशलतम प्रयोग के लिए सूचना पर व्यय आवश्यक है। विकल्प : (A) अभिकथन (A) और कारण (R) दोनों सत्य हैं तथा कारण (R), अभिकथन (A) की सही व्याख्या करता है।	

	(B) अभिकथन (A) और कारण (R) दोनों सत्य हैं, लेकिन कारण (R), अभिकथन (A) की सही व्याख्या नहीं करता है। (C) अभिकथन (A) सत्य है, लेकिन कारण (R) असत्य है। (D) अभिकथन (A) असत्य है, लेकिन कारण (R) सत्य है। **उत्तर - (A) अभिकथन (A) और कारण (R) दोनों सत्य हैं तथा कारण (R), अभिकथन (A) की सही व्याख्या करता है।**	**1**
26.	स्वतंत्रता उपरांत युग में, भारत के नीति निर्माताओं ने प्रथम _____ पंचवर्षीय योजनाओं के लिए 'आत्मनिर्भरता' पर जोर दिया था। (रिक्त स्थान की पूर्ति के लिए सही विकल्प का चयन कीजिए) (A) 6 (B) 7 (C) 8 (D) 9 **उत्तर - (B) 7**	**1**
27.	पहचान कीजिए कि, भारत में ग्रामीण बैंकिंग प्रणाली के संदर्भ में निम्नलिखित में से कौन-सा कथन **असत्य** है? (सही विकल्प का चयन कीजिए) (A) भारत में ग्रामीण बैंकिंग प्रणाली में बहु-एजेंसी संस्थानों का एक समूह सम्मिलित है। (B) स्वतंत्रता उपरांत अवधि में, भारत में एक सुचारू रूप से संरचित ग्रामीण बैंकिंग प्रणाली का निर्माण किया गया था। (C) क्षेत्रीय ग्रामीण बैंक, सहकारी व भूमि विकास बैंक भारत में ग्रामीण बैंकिंग प्रणाली के घटक हैं। (D) भारत में ग्रामीण बैंकिंग प्रणाली भारतीय स्टेट बैंक के मार्गदर्शन, निर्देशन व पर्यवेक्षण के अंतर्गत कार्य करती है। **उत्तर - (D) भारत में ग्रामीण बैंकिंग प्रणाली भारतीय स्टेट बैंक के मार्गदर्शन, निर्देशन व पर्यवेक्षण के अंतर्गत कार्य करती है।**	**1**
28.	निम्नलिखित आँकड़ों का उपयोग करते हुए, सकल वर्धित मूल्य (GVA) में भारत व पाकिस्तान के क्षेत्रीय योगदान का विश्लेषण कीजिए। *2018-19 में रोजगार एवं सकल वर्धित मूल्य (%) के क्षेत्रीय अंश* क्षेत्र / सकल वर्धित मूल्य में योगदान / कार्यबल का वितरण भारत | चीन | पाकिस्तान | भारत | चीन | पाकिस्तान कृषि 16 7 24 43 26 41 उद्योग 30 41 19 25 28 24 सेवा 54 52 57 32 46 35 योग 100 100 100 100 100 100 **उत्तर - उपरोक्त आंकड़े भारत और पाकिस्तान के सकल वर्धित मूल्य (GVA) की क्षेत्रीय हिस्सेदारी से संबंधित है। उपरोक्त आंकड़ों के अनुसार, भारत के GVA में कृषि क्षेत्र का योगदान 16% है, जबकि पाकिस्तान में यह 24% है। भारत में, औद्योगिक क्षेत्र ने GVA में 30% का योगदान दिया, जबकि यह योगदान पाकिस्तान में 19% है। भारत और पाकिस्तान में, GVA में सेवा क्षेत्र का योगदान उच्चतम है जो क्रमशः 54% और 57% है। इस प्रकार, दोनों देशों में, सेवा क्षेत्र विकास में एक महत्वपूर्ण योगदानकर्ता के रूप में उभरा है। (पूरे उत्तर को एक साथ अंकित किया जाए)**	**3**
29. (क)	"भारत में ब्रिटिश औपनिवेशिक शासन के परिणामस्वरूप भारतीय स्वदेशी उद्योगों का व्यवस्थित रूप से विऔद्योगीकरण हुआ था।" वैध तर्कों द्वारा अंग्रेजों के दोहरे उद्देश्यों की व्याख्या कीजिए। **उत्तर - भारत में ब्रिटिश औपनिवेशिक शासन का दोहरा उद्देश्य था:** • **भारत को ब्रिटेन में विकसित हो रहे आधुनिक उद्योगों के लिए महत्वपूर्ण कच्चे माल के मात्र निर्यातक बनाना।**	**1 ½**

	• **भारत को अपने तैयार उत्पादों के लिए एक विशाल बाजार में बदलना ताकि अपने देश का अधिकतम लाभ सुनिश्चित किया जा सके।**	**1 ½**
	अथवा	**3**
(ख)	"1991 के आर्थिक सुधारों के दौरान भारत सरकार द्वारा प्रारंभ की गई व्यापार और निवेश नीति में स्थानीय उद्योगों के संदर्भ में कुछ प्रमुख निर्णय सम्मिलित थे।" किन्हीं दो प्रमुख निर्णयों और भारतीय अर्थव्यवस्था पर उनके प्रभावों पर विस्तार से चर्चा कीजिए। **उत्तर - 1991 के दौरान भारत सरकार द्वारा शुरू किए गए व्यापार और निवेश नीति सुधारों का उद्देश्य मात्रात्मक प्रतिबंधों की संरचना को खत्म करना और प्रशुल्क दरों में कमी करना था।** **इस नीति के उदारीकरण से अंतर्राष्ट्रीय बाजारों में भारतीय वस्तुओं की प्रतिस्पर्धी स्थिति में वृद्धि हुई और विदेशी निवेश और प्रौद्योगिकी का प्रवाह बढ़ा।**	**1 ½** **1 ½**
		3
30. **(क)**	(i) मानव पूँजी व भौतिक पूँजी के मध्य अंतर स्पष्ट कीजिए। **उत्तर: मानव पूंजी से तात्पर्य उस ज्ञान, कौशल और योग्यता के भंडार से है जो उसके स्वामी में समाहित है, अर्थात मानव पूंजी अपने स्वामी से अविभाज्य है। इसे बाजार में क्रय/ विक्रय नहीं किया जा सकता, केवल इसकी सेवाओं का बाजार में क्रय/ विक्रय किया जा सकता है।** **जबकि;** **भौतिक पूंजी वे संपत्तियाँ (प्लांट और मशीनरी, भवन आदि) हैं, जो प्रकृति में मूर्त हैं। यह अपने स्वामी से अलग है। इसका बाजार में क्रय-विक्रय किया जा सकता है।**	**1½** **1½**
(ख)	(ii) धारणीय विकास को परिभाषित कीजिए। **उत्तर - धारणीय विकास वह विकास है वर्तमान पीढ़ी की आवश्यकताओं को भावी पीढ़ी की आवश्यकताओं की पूर्ति क्षमता से समझौता किए बिना पूरा करे।** **अथवा** (i) ग्रामीण भारत में सूक्ष्म-साख कार्यक्रम के महत्व पर संक्षेप में वर्णन कीजिए। **उत्तर - औपचारिक ऋण प्रणाली में अंतर को पाटने के लिए सूक्ष्म-साख कार्यक्रम का प्रादुर्भाव हुआ। औपचारिक ऋण वितरण तंत्र को, ग्रामीण सामाजिक संरचना में पूरी तरह से एकीकृत नहीं किया गया है। ऋणाधार की अनुपलब्धता के कारण, गरीब ग्रामीण परिवारों का एक बड़ा भाग ऋण तंत्र से बाहर हो जाता है। सूक्ष्म-साख प्रणाली द्वारा इन निर्धन परिवारों को रियायती ब्याज दर पर ऋण प्रदान करके औपचारिक ऋण प्रणाली के दायरे में लाया है।** **(पूरे उत्तर को एक साथ अंकित किया जाए)** (ii) भारत में धारणीय विकास प्राप्त करने में सम्मिलित किसी एक रणनीति का उल्लेख कीजिए। **उत्तर - पवन ऊर्जा का उपयोग।** **(अन्य कोई प्रासंगिक रणनीति के लिया भी अंक प्रदान किए जाए)**	**1** **4** **3** **1**
		4
31.	निम्नलिखित गद्य को ध्यानपूर्वक पढ़िए : चीन ने अपनी अर्थव्यवस्था को प्रोत्साहित करने के लिए कई नीतिगत परिवर्तन किए थे। 1970 के दशक के अंत में विभिन्न क्षेत्रों में चीन की आर्थिक वृद्धि तीव्र रही थी। हालाँकि, भारत को अपने आर्थिक परिवर्तन के लिए बहुत प्रतीक्षा करनी पड़ी थी। भारत को महत्वपूर्ण आर्थिक प्रगति 1991 के आर्थिक सुधारों के उपरांत ही प्राप्त की गई थी, जिन्हें मजबूरी के कारण लागू किया गया था। दिए गए गद्य व सामान्य ज्ञान के आधार पर, चीन व भारत द्वारा आरम्भ गए सुधारों के प्रभावों की तुलना कीजिए। **उत्तर - चीन की तीव्र आर्थिक वृद्धि का अनुमान उसके द्वारा 1978 में स्वैच्छिक रूप से शुरू किए गए सुधारों से लगाया जा सकता है। 1980 के दशक के दौरान चीन लगभग दोहरे अंकों की वृद्धि बनाए रखने में सक्षम था, जिसने विनिर्माण-संचालित अर्थव्यवस्था की ओर रणनीतिक बदलाव का मार्ग प्रशस्त किया। इसके अतिरिक्त, कृषि सुधारों ने बड़ी संख्या में निर्धन लोगों को समृद्धि प्रदान की। इसने औद्योगिक विस्तार को बढ़ावा दिया और भविष्य में सुधारों के लिए मजबूत आधार बनाया।** **इसके विपरीत, भारत को 1991 में आर्थिक सुधार शुरू करने के लिए मजबूर होना पड़ा। औद्योगिक क्षेत्र में उतार-चढ़ाव होते रहे और सेवा क्षेत्र की वृद्धि बढ़ गई। यह दर्शाता है कि सकल घरेलू उत्पाद की वृद्धि मुख्य रूप से सेवा क्षेत्र में वृद्धि से प्रेरित है।** **(अन्य कोई प्रासंगिक प्रभाव के लिए भी अंक प्रदान किए जाए)**	**4**

32.	मान्य तर्कों द्वारा, उल्लेख व विस्तृत व्याख्या कीजिए कि निम्नलिखित कथन सत्य हैं या असत्य : (क) स्वर्ण क्रांति के तहत बागवानी में जबरदस्त वृद्धि हुई, जिससे भारत इस क्षेत्र में विश्व में अग्रणी बन गया। **उत्तर: कथन सत्य है। भारत विभिन्न प्रकार के फलों जैसे आम, केला आदि के उत्पादन में विश्व में अग्रणी बनकर उभरा है और देश फलों और सब्जियों का दूसरा सबसे बड़ा उत्पादक है।** (ख) छोटे और सीमांत कृषकों को क्षेत्रीय ग्रामीण बैंक, सहकारी बैंक आदि जैसे गैर-संस्थागत स्रोतों से ऋण प्राप्त करने में प्राथमिकता दी जाती है। **उत्तर: कथन असत्य है। क्षेत्रीय ग्रामीण बैंक, सहकारी बैंक आदि ग्रामीण ऋण की जरूरतों को पर्याप्त रूप से पूरा करने के लिए सरकार द्वारा स्थापित संस्थागत स्रोत हैं।**	**2** **2** **4**
33. **(क)**	(i) "आयात प्रतिस्थापन नीति को, यदि सावधानी से लागू नहीं किया गया, तो यह किसी भी अर्थव्यवस्था के लिए दोधारी तलवार साबित हो सकती है।" क्या आप दिए गए कथन से सहमत हैं ? मान्य तर्कों द्वारा अपने उत्तर की पुष्टि कीजिए। **उत्तर: हाँ। आयात-प्रतिस्थापन नीति का उद्देश्य घरेलू उद्योगों को विदेशी प्रतिस्पर्धा से बचाने और विदेशी मुद्रा बचाने के लिए आयात को घरेलू उत्पादन से बदलना है।** **हालाँकि, विदेशी प्रतिस्पर्धा से सुरक्षा अच्छे से ज़्यादा नुकसान पहुँचा सकती है। प्रतिस्पर्धी बाज़ार की अनुपस्थिति में घरेलू उत्पादकों के पास अपने माल की गुणवत्ता में सुधार करने के लिए कोई प्रोत्साहन नहीं होगा। बदले में, उपभोक्ताओं को कम गुणवत्ता वाली वस्तुएँ अधिक कीमत पर क्रय करनी पड़ सकती हैं। इसलिए, आयात प्रतिस्थापन नीति, अगर सावधानी से लागू नहीं की जाती है, तो किसी भी अर्थव्यवस्था के लिए दोधारी तलवार साबित हो सकती है।** **(पूरे उत्तर को एक साथ अंकित किया जाए)** (ii) उल्लेख कीजिए कि बहुपक्षीय व्यापार किस प्रकार द्विपक्षीय व्यापार से भिन्न है। **उत्तर: बहुपक्षीय व्यापार एक राष्ट्र द्वारा दो से अधिक राष्ट्र के साथ वस्तुओं और सेवाओं का आदान-प्रदान करने के लिए किया जाने वाला व्यापार है।** **जबकि ;** **द्विपक्षीय व्यापार से तात्पर्य दो राष्ट्र के बीच वस्तुओं और सेवाओं के आदान-प्रदान करने के लिए किए जाने वाले व्यापार से है।** **अथवा**	**4** **1** **1** **6**
(ख)	(i) भारत में आर्थिक सुधारों के दौरान प्रारंभ किए गए कुछ सुधारों के कारणों व परिणामों पर संक्षेप में चर्चा कीजिए। **उत्तर - भारत में आर्थिक सुधारों के अंतर्गत प्रारंभ किए गए कर सुधारों का कारण कर चोरी पर अंकुश लगाना, बचत को प्रोत्साहित करना और आय का स्वैच्छिक घोषणा करवाना था। इसके अतिरिक्त, वस्तुओं के लिए एक एकीकृत राष्ट्रीय बाजार की स्थापना की सुविधा के लिए अप्रत्यक्ष कर सुधारों की आवश्यकता थी।** **सुधार अवधि के दौरान करों की दर में सुधार का उद्देश्य अधिक कर राजस्व प्राप्त करना था, लेकिन इससे कर राजस्व में वृद्धि नहीं हुई। इसके अतिरिक्त, विदेशी निवेशकों को प्रदान किए गए कर प्रोत्साहन ने कर राजस्व बढ़ाने के अवसर को और कम कर दिया, जिसका विकास और कल्याण व्यय पर प्रतिकूल प्रभाव पड़ा।** **(अन्य कोई उचित कारण/सुधार के लिए भी अंक प्रदान किए जाए)** (ii) भारत में सार्वजनिक क्षेत्र की महारत्न व मिनीरत्न कंपनी का एक-एक उदाहरण दीजिए। **उत्तर: महारत्न कंपनी का उदाहरण - इंडियन ऑयल कॉर्पोरेशन लिमिटेड।** **मिनीरत्न कंपनी का उदाहरण – भारत संचार निगम लिमिटेड।** **(अन्य कोई उचित उदाहरण के लिए भी अंक प्रदान किए जाए)**	**2** **2** **1** **1** **6**
34.	म्नलिखित गद्य को ध्यानपूर्वक पढ़िए : श्रम बल भागीदारी दर (LFPR) किसी राष्ट्र में कार्यरत अथवा सक्रिय रूप से रोजगार की तलाश कर रहे व्यक्तियों के प्रतिशत को मापती है। भारत में, 2000 – 2019 के मध्य श्रम बल में 99.2 मिलियन व्यक्तियों की वृद्धि हुई थी। श्रम बल 396.3 मिलियन से बढ़कर 495.5 मिलियन हो गया था।	

	2012 – 2019 के दौरान, रोजगार में समान वृद्धि के बिना श्रम बल में हुई वृद्धि से बेरोजगारी में बढ़ोतरी हुई थी। भारत के श्रम बाजार में लैंगिक असमानताएँ उल्लेखनीय हैं, 2022 में महिलाओं की श्रम बल भागीदारी दर (LFPR) 32.8% है, जो कि पुरुषों की श्रम बल भागीदारी दर (LFPR) 77.2% से काफी कम है। यह भारत की समग्र श्रम बल भागीदारी दर (LFPR) का एक प्रमुख कारण है, जो कि वैश्विक औसत श्रम बल भागीदारी दर (LFPR) 47.3% से कम है। 2000 – 2019 के दौरान, ग्रामीण श्रम बल भागीदारी दर (LFPR) में 14.1% की गिरावट आई है, जबकि शहरी क्षेत्रों में 3.5% की गिरावट आई थी। 2019 – 2022 के मध्य यह प्रवृत्ति पलट गई, ग्रामीण श्रम बल भागीदारी दर (LFPR) में 6% (विशेषकर ग्रामीण महिलाओं में) और शहरी श्रम बल भागीदारी दर (LFPR) में 2.1% वृद्धि हुई। ये परिवर्तन दर्शाते हैं कि महिलाओं की श्रम बाजार भागीदारी में उतार-चढ़ाव होता है, विशेषकर ग्रामीण क्षेत्रों में। इसने श्रम बल भागीदारी दर (LFPR) को काफी प्रभावित किया किया है। महिलाएँ आर्थिक कठिनाइयों के दौरान कार्यबल में शामिल होती हैं, तथा जब परिस्थितियों में सुधार होता है, तो वे कार्यबल से निकल जाती हैं। दिए गए गद्य व सामान्य ज्ञान के आधार पर, निम्नलिखित प्रश्नों के उत्तर दीजिए : (क) बेरोजगारी को परिभाषित कीजिए। **उत्तर: बेरोजगारी एक ऐसी स्थिति है जिसमें वे सभी व्यक्ति जो वर्तमान मजदूरी दर पर काम करने के इच्छुक और योग्य हैं, उन्हें काम नहीं मिलता है।**	**1**
	(ख) श्रम बल भागीदारी दर (LFPR) का अर्थ लिखिए। **उत्तर: श्रम बल भागीदारी दर (LFPR) किसी राष्ट्र में कार्यरत या सक्रिय रूप से रोजगार की तलाश करने वाले व्यक्तियों के प्रतिशत को मापती है।**	**2**
	(ग) 2000 – 2019 के दौरान ग्रामीण व शहरी श्रम बल भागीदारी दर (LFPR) में लैंगिक असमानताओं पर टिप्पणी कीजिए। **उत्तर - भारत के श्रम बाजार में लैंगिक असमानता उल्लेखनीय है, 2022 में महिलाओं की LFPR 32.8% है, जो पुरुषों की LFPR 77.2% से काफी कम है। 2000 - 2019 के दौरान, शहरी क्षेत्रों में 3.5% की गिरावट की तुलना में ग्रामीण LFPR में 14.1% की गिरावट आई।** **(पूरे उत्तर को एक साथ अंकित किया जाए)**	**3**
		6

* * *