Series S7PQR

SET~2

प्रश्न-पत्र कोड
Q.P. Code **58/7/2**

रोल नं.
Roll No. | | | | | | | | |

[ ]

परीक्षार्थी प्रश्न-पत्र कोड को उत्तर-पुस्तिका के मुख-पृष्ठ पर अवश्य लिखें।
Candidates must write the Q.P. Code on the title page of the answer-book.

अर्थशास्त्र
ECONOMICS

*निर्धारित समय : **3** घण्टे* *अधिकतम अंक : **80***

*Time allowed : **3** hours* *Maximum Marks : **80***

(I) कृपया जाँच कर लें कि इस प्रश्न-पत्र में मुद्रित पृष्ठ **27** हैं।

Please check that this question paper contains **27** printed pages.

(II) प्रश्न-पत्र में दाहिने हाथ की ओर दिए गए प्रश्न-पत्र कोड को परीक्षार्थी उत्तर-पुस्तिका के मुख-पृष्ठ पर लिखें।

Q.P. Code given on the right hand side of the question paper should be written on the title page of the answer-book by the candidate.

(III) कृपया जाँच कर लें कि इस प्रश्न-पत्र में **34** प्रश्न हैं।

Please check that this question paper contains **34** questions.

(IV) **कृपया प्रश्न का उत्तर लिखना शुरू करने से पहले, उत्तर-पुस्तिका में यथा स्थान पर प्रश्न का क्रमांक अवश्य लिखें।**

Please write down the Serial Number of the question in the answer-book at the given place before attempting it.

(V) इस प्रश्न-पत्र को पढ़ने के लिए 15 मिनट का समय दिया गया है। प्रश्न-पत्र का वितरण पूर्वाह्न में 10.15 बजे किया जाएगा। 10.15 बजे से 10.30 बजे तक परीक्षार्थी केवल प्रश्न-पत्र को पढ़ेंगे और इस अवधि के दौरान वे उत्तर-पुस्तिका पर कोई उत्तर नहीं लिखेंगे।

15 minute time has been allotted to read this question paper. The question paper will be distributed at 10.15 a.m. From 10.15 a.m. to 10.30 a.m., the candidates will read the question paper only and will not write any answer on the answer-book during this period.

सामान्य निर्देश :

निम्नलिखित निर्देशों को ध्यानपूर्वक पढ़िए और उनका पालन कीजिए :

(i) *इस प्रश्न-पत्र में **34** प्रश्न हैं। **सभी** प्रश्न **अनिवार्य** हैं।*

(ii) *यह प्रश्न-पत्र **दो** खण्डों में विभाजित है :*

***खण्ड क** – समष्टि अर्थशास्त्र*

***खण्ड ख** – भारतीय आर्थिक विकास*

(iii) *इस प्रश्न-पत्र में **20** बहुविकल्पीय प्रकार के प्रश्न हैं। प्रत्येक प्रश्न **1** अंक का है।*

(iv) *इस प्रश्न-पत्र में **4** लघु-उत्तरीय प्रकार-**I** के प्रश्न हैं। प्रत्येक प्रश्न **3** अंकों का है। इन प्रश्नों के उत्तर 60 से 80 शब्दों में लिखे जाने चाहिए।*

(v) *इस प्रश्न-पत्र में **6** लघु-उत्तरीय प्रकार-**II** के प्रश्न हैं। प्रत्येक प्रश्न **4** अंकों का है। इन प्रश्नों के उत्तर 80 से 100 शब्दों में लिखे जाने चाहिए।*

(vi) *इस प्रश्न-पत्र में **4** दीर्घ-उत्तरीय प्रकार के प्रश्न हैं। प्रत्येक प्रश्न **6** अंकों का है। इन प्रश्नों के उत्तर 100 से 150 शब्दों में लिखे जाने चाहिए।*

(vii) *प्रत्येक प्रश्न के **सभी** भागों के उत्तर एक साथ लिखे जाने चाहिए।*

(viii) *इसके अतिरिक्त, ध्यान दें कि दृष्टिबाधित परीक्षार्थियों के लिए फोटो तथा मानचित्र आदि आधारित प्रश्नों के स्थान पर एक अन्य प्रश्न दिया गया है। इन प्रश्नों के उत्तर केवल दृष्टिबाधित परीक्षार्थी ही लिखें।*

(ix) *प्रश्न-पत्र में कोई समग्र विकल्प नहीं है। यद्यपि, कुछ प्रश्नों में आंतरिक विकल्प का प्रावधान दिया गया है। इन प्रश्नों में से केवल एक ही प्रश्न का उत्तर लिखा जाए।*

खण्ड क
समष्टि अर्थशास्त्र

1. भारत के भुगतान संतुलन (BoP) के पूँजी खाते में दर्ज किए जाने वाले लेनदेन की पहचान कीजिए : *1*

(सही विकल्प का चयन कीजिए)

(i) भारतीय निवासियों द्वारा दुबई में संपत्तियों का क्रय

(ii) अंतर्राष्ट्रीय बैंकों से भारतीय फर्मों को प्राप्त ऋण

(iii) विदेशों में कार्यरत भारतीयों द्वारा प्रेषण

(iv) भारत सरकार द्वारा IMF को बकाया ऋणों का भुगतान

विकल्प :

(A) (i) और (iii) (B) केवल (iii)

(C) (ii) और (iii) (D) (i), (ii) और (iv)

General Instructions :

Read the following instructions carefully and follow them :

(i) *This question paper contains **34** questions. **All** questions are **compulsory**.*

(ii) *This question paper contains **two** sections :*

***Section A** – Macro Economics*

***Section B** – Indian Economic Development*

(iii) *This question paper contains **20** Multiple Choice type questions. Each question carries **1** mark.*

(iv) *This question paper contains **4** Short Answer Type-I questions. Each question carries **3** marks. Answer these questions in 60 to 80 words.*

(v) *This question paper contains **6** Short Answer Type-II questions. Each question carries **4** marks. Answer these questions in 80 to 100 words.*

(vi) *This question paper contains **4** Long Answer type questions. Each question carries **6** marks. Answer these questions in 100 to 150 words.*

(vii) *Attempt **all** parts of a question together.*

(viii) *In addition to this, note that a separate question has been provided for Visually Impaired candidates in lieu of questions having visual inputs, map etc. Such questions are to be attempted by Visually Impaired candidates only.*

(ix) *There is no overall choice in the question paper. However, an internal choice has been provided in few questions. Only one of the choices in such questions has to be attempted.*

SECTION A
Macro Economics

1. Identify the transactions that will be recorded in India's capital account of the Balance of Payments (BoP) : *1*

(Choose the correct option)

(i) Indian residents purchasing properties in Dubai

(ii) Indian firms borrowing from international banks

(iii) Remittances by Indians working abroad

(iv) Repayment of outstanding loans by the Indian Government to the IMF

Options :

(A) (i) and (iii) (B) Only (iii)

(C) (ii) and (iii) (D) (i), (ii) and (iv)

2. अयान एक परिवहन कम्पनी का मालिक है तथा वर्ष 2024 – 25 में उसने सभी वाहनों की मरम्मत पर ₹ 30,000 व्यय किए।

भारत की राष्ट्रीय आय का आकलन करते समय इसे _____ व्यय के रूप में वर्गीकृत किया जाएगा। *1*

(रिक्त स्थान की पूर्ति के लिए सही विकल्प का चयन कीजिए)

(A) मध्यवर्ती

(B) उपभोग

(C) निवेश

(D) अंतिम

3. कीन्स के सिद्धांत के अंतर्गत, 'संदर्भ रेखा' मूल-बिन्दु से जाती हुई सीधी रेखा है जो कि _____ का कोण बनाती है। *1*

(रिक्त स्थान की पूर्ति के लिए सही विकल्प का चयन कीजिए)

(A) 25°

(B) 45°

(C) 55°

(D) 75°

4. निम्नलिखित कथनों का ध्यानपूर्वक अध्ययन कीजिए : *1*

कथन I : स्टॉक चर किसी विशेष समय पर मापनीय होते हैं।

कथन II : किसी निश्चित समयावधि में किसी भी स्टॉक चर में परिवर्तन प्रवाह चर होता है।

दिए गए कथनों के आलोक में, निम्नलिखित में से सही विकल्प का चयन कीजिए :

(A) कथन I और II दोनों सत्य हैं।

(B) कथन I और II दोनों असत्य हैं।

(C) कथन I सत्य है, परन्तु कथन II असत्य है।

(D) कथन I असत्य है, परन्तु कथन II सत्य है।

2. Ayaan owns a transportation company and spent ₹ 30,000 in the year 2024 – 25 on the repair of all vehicles.

This will be classified as _____ expenditure while estimating the National Income of India. *1*

(Choose the correct option to fill in the blank)

(A) Intermediate

(B) Consumption

(C) Investment

(D) Final

3. Under the Keynesian theory, 'Reference line' is a straight line passing through the origin drawn at an angle of _____. *1*

(Choose the correct option to fill in the blank)

(A) 25°

(B) 45°

(C) 55°

(D) 75°

4. Read the following statements carefully : *1*

Statement I : Stock variables are measurable at a particular point of time.

Statement II : A change in any stock variable in a given time period is a flow variable.

In the light of the given statements, choose the correct option from the following :

(A) Both Statements I and II are true.

(B) Both Statements I and II are false.

(C) Statement I is true, but Statement II is false.

(D) Statement I is false, but Statement II is true.

5. मान लीजिए कि भारतीय रिज़र्व बैंक (RBI) आरक्षित (रिज़र्व) अनुपात को 10% के बराबर रखने का निश्चय करता है। कुल सृजित जमा, प्रारंभिक जमा का _____ गुना होगी। *1*

(रिक्त स्थान की पूर्ति के लिए सही विकल्प का चयन कीजिए)

(A) ∞ (अनंत)

(B) 1 (इकाई)

(C) 0 (शून्य)

(D) 10 (दस)

6. निम्नलिखित कथनों : अभिकथन (A) और कारण (R) का अध्ययन कीजिए। नीचे दिए गए विकल्पों में से सही विकल्प का चयन कीजिए : *1*

अभिकथन (A) : पूँजीगत खाता संतुलन में होता है, जब पूँजी अंत:प्रवाह पूँजी बाह्य प्रवाह के बराबर होती है।

कारण (R) : स्वायत्त पूँजीगत प्रवाह परिसम्पत्तियों में कमी तथा देनदारियों में वृद्धि को दर्शाते हैं।

विकल्प :

(A) अभिकथन (A) और कारण (R) दोनों सत्य हैं और कारण (R), अभिकथन (A) की सही व्याख्या करता है।

(B) अभिकथन (A) और कारण (R) दोनों सत्य हैं, परंतु कारण (R), अभिकथन (A) की सही व्याख्या ***नहीं*** करता है।

(C) अभिकथन (A) सत्य है, परंतु कारण (R) असत्य है।

(D) अभिकथन (A) असत्य है, परंतु कारण (R) सत्य है।

7. "विगत कुछ समयावधि में, भारतीय रिज़र्व बैंक ने रेपो दर (RR) में कटौती की है।"

इस नीतिगत परिवर्तन के पीछे भारतीय रिज़र्व बैंक (RBI) का सबसे संभावित उद्देश्य ऋण प्राप्त करने की लागत में _____ करना तथा अर्थव्यवस्था में तरलता में _____ करना है। *1*

(रिक्त स्थानों की पूर्ति के लिए सही विकल्प का चयन कीजिए)

(A) कमी, कमी

(B) वृद्धि, वृद्धि

(C) कमी, वृद्धि

(D) वृद्धि, कमी

5. Suppose the Reserve Bank of India (RBI) decides to keep the reserve ratio equal to 10%. The total deposits created will be _____ times the primary deposit. *1*

(Choose the correct option to fill in the blank)

(A) ∞ (Infinity)

(B) 1 (Unity)

(C) 0 (Zero)

(D) 10 (Ten)

6. Read the following statements : Assertion (A) and Reason (R). Choose the correct option from those given below : *1*

Assertion (A) : Capital account is in balance when capital inflows are equal to capital outflows.

Reason (R) : Autonomous capital inflows indicate a decrease in assets and an increase in liabilities.

Options :

(A) Both Assertion (A) and Reason (R) are true and Reason (R) is the correct explanation of Assertion (A).

(B) Both Assertion (A) and Reason (R) are true, but Reason (R) is ***not*** the correct explanation of Assertion (A).

(C) Assertion (A) is true, but Reason (R) is false.

(D) Assertion (A) is false, but Reason (R) is true.

7. "In recent times, the Reserve Bank of India has reduced the Repo Rate (RR)."

The most likely objective of the Reserve Bank of India behind this policy change is to _____ the borrowing cost and _____ liquidity in the economy. *1*

(Choose the correct option to fill in the blanks)

(A) decrease, decrease

(B) increase, increase

(C) decrease, increase

(D) increase, decrease

8. दिए गए चित्र के संदर्भ में आय के किस स्तर पर औसत बचत प्रवृत्ति (APS) का मान शून्य होगा ? *1*

(सही विकल्प का चयन कीजिए)

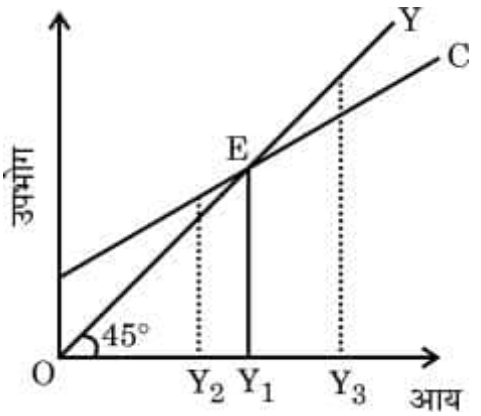

विकल्प :

(A) स्तर O पर

(B) स्तर OY_1 पर

(C) स्तर OY_2 पर

(D) स्तर OY_3 पर

नोट : *निम्नलिखित प्रश्न केवल* ***दृष्टिबाधित परीक्षार्थियों*** *के लिए प्रश्न संख्या* ***8*** *के स्थान पर है ।*

आय के सम-स्तर (break-even level) पर, उपभोग फलन की ढलान _____ के बराबर होगी। *1*

(रिक्त स्थान की पूर्ति के लिए सही विकल्प का चयन कीजिए)

(A) औसत बचत प्रवृत्ति (APS)

(B) औसत उपभोग प्रवृत्ति (APC)

(C) सीमांत बचत प्रवृत्ति (MPS)

(D) सीमांत उपभोग प्रवृत्ति (MPC)

9. पहचान कीजिए कि निम्नलिखित में से कौन-सा विकल्प आय विधि द्वारा राष्ट्रीय आय का आकलन करते हुए सम्मिलित होगा। *1*

(सही विकल्प का चयन कीजिए)

(A) आकस्मिक लाभ

(B) पूँजीगत हानि

(C) मिश्रित आय

(D) हस्तांतरण आय

10. "अनिल ने ₹ 30 लाख की लागत से एक मकान का क्रय किया। इसके लिए उसने बैंक से ऋण प्राप्त किया, जिसका भुगतान 25 वर्षों की निश्चित मासिक किश्तों में करने के लिए वह सहमत हुआ।" *1*

उपर्युक्त स्थिति में मुद्रा के कार्य की पहचान कीजिए। (सही विकल्प का चयन कीजिए)

(A) विनिमय का माध्यम

(B) स्थगित भुगतान का मानक

(C) विनिमय का माध्यम तथा स्थगित भुगतान का मानक

(D) मूल्य का भंडार

8. Refer to the given diagram. At which level of income will the value of Average Propensity to Save (APS) be zero ? *1*

(Choose the correct option)

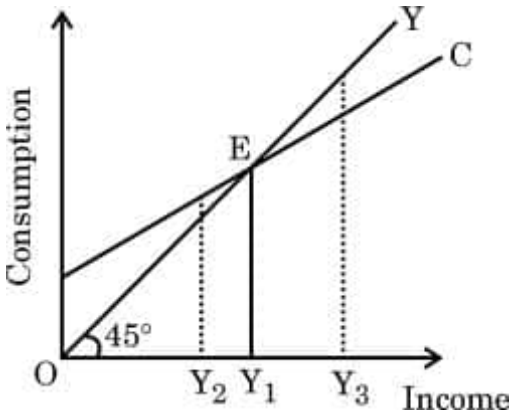

Options :

(A) Level O (B) Level OY_1

(C) Level OY_2 (D) Level OY_3

Note : *The following question is for the* ***Visually Impaired Candidates*** *only, in lieu of* ***Q. No. 8****.*

At the break-even level of income, the slope of the consumption function will be equal to _____. *1*

(Choose the correct option to fill in the blank)

(A) Average Propensity to Save (APS)

(B) Average Propensity to Consume (APC)

(C) Marginal Propensity to Save (MPS)

(D) Marginal Propensity to Consume (MPC)

9. Identify which of the following option will be included while estimating the national income by income method. *1*

(Choose the correct option)

(A) Windfall gains (B) Capital loss

(C) Mixed income (D) Transfer income

10. "Anil purchased a house costing ₹ 30 lakhs. For this, he took a bank loan, which he agreed to repay over a period of 25 years in fixed monthly instalments."

Identify the function of money indicated in the above situation. *1*

(Choose the correct option)

(A) Medium of exchange

(B) Standard of deferred payments

(C) Medium of exchange and standard of deferred payments

(D) Store of value

11. (क) किसी काल्पनिक अर्थव्यवस्था के निम्नलिखित आँकड़ों द्वारा, राष्ट्रीय आय (NNP_{FC}) के मान की गणना कीजिए : *3*

क्र. सं.	मदें	राशि (₹ करोड़ में)
(i)	स्वनियोजितों की मिश्रित आय	550
(ii)	विदेशों से प्राप्त शुद्ध कारक आय	(–) 50
(iii)	किराया	150
(iv)	स्थिर / स्थायी पूँजी का उपभोग	40
(v)	कर उपरांत लाभ	250
(vi)	मजदूरी एवं वेतन	1700
(vii)	शुद्ध अप्रत्यक्ष कर	50
(viii)	निगम कर	150
(ix)	लाभांश	50
(x)	शुद्ध निर्यात	(–) 40
(xi)	ब्याज	350
(xii)	नियोक्ता द्वारा सामाजिक सुरक्षा योगदान	80

अथवा

(ख) मान्य कारणों द्वारा समझाइए कि भारत की घरेलू आय का अनुमान लगाते समय निम्नलिखित को किस प्रकार व्यवहार में लाया जाएगा : *3*

(i) एक भारतीय निवासी द्वारा अमेरिकी कम्पनी के शेयरों में निवेश से प्राप्त लाभांश

(ii) एक कृषक द्वारा अपने परिवार द्वारा उपभोग हेतु रखा गया एक क्विंटल चावल

12. "भारतीय रिज़र्व बैंक (RBI) नकद आरक्षित अनुपात (CRR) को चरणबद्ध तरीके से 4% से 3% तक लाने की योजना का कार्यान्वयन कर रहा है।"

दी गई जानकारी के आलोक में, साख विस्तार को प्रोत्साहित करने हेतु भारतीय रिज़र्व बैंक (RBI) की नीतिगत पहल के पीछे के तर्क की व्याख्या कीजिए। *3*

11. (a) From the following data of a hypothetical economy, calculate the value of National Income (NNP_{FC}). *3*

S. No.	Particulars	Amount (in ₹ Crore)
(i)	Mixed income of the self-employed	550
(ii)	Net factor income from abroad	(–) 50
(iii)	Rent	150
(iv)	Consumption of fixed capital	40
(v)	Profits after tax	250
(vi)	Wages and salaries	1700
(vii)	Net indirect taxes	50
(viii)	Corporate tax	150
(ix)	Dividends	50
(x)	Net exports	(–) 40
(xi)	Interest	350
(xii)	Social security contributions by employers	80

OR

(b) Giving valid reasons, explain how the following items are treated while estimating the domestic income of India : *3*

(i) Dividend received by an Indian resident who owns shares of an American company

(ii) A quintal of rice kept aside by a farmer for his family's consumption

12. "The RBI is implementing a phased reduction of the Cash Reserve Ratio (CRR) from 4% to 3%."

In the light of the given information, explain the rationale behind the Reserve Bank of India's policy initiative to promote credit expansion. *3*

13. (क) एक गृहस्थ एवं एक टैक्सी चालक ने किसी कार विक्रेता से एक-एक कार का क्रय किया। पहचानिए कि यह दोनों किस वस्तु श्रेणी में आते हैं। समझाइए कि, ये दोनों किस प्रकार एक दूसरे से भिन्न हैं। *4*

अथवा

(ख) "यदि किसी राष्ट्र के सकल घरेलू उत्पाद में वृद्धि हो रही है, तो इसका तात्पर्य यह नहीं है कि, जन-कल्याण में भी वृद्धि हो रही है।"

मान्य व्याख्या द्वारा उपर्युक्त कथन का समर्थन अथवा खंडन कीजिए। *4*

14. अमेरिकी डॉलर (US $) की तुलना में भारतीय रुपये की विनिमय दरें 5 सितम्बर, 2025 को ₹ 88·325 के उच्चतम स्तर एवं 2 सितम्बर, 2025 के ₹ 87·899 के निम्नतर स्तर में परिवर्तित होती रही हैं।

विनिमय दरों की इस अस्थिरता के आलोक में, सभी अन्य कारकों को अपरिवर्तित मानते हुए, भारत के आयात व निर्यात पर पड़ने वाले संभावित प्रभाव का विश्लेषण कीजिए। *4*

15. (क) 'सकल निवेश' के अर्थ का उल्लेख कीजिए। *1*

(ख) यदि नियोजित बचत नियोजित निवेश से अधिक हो तो, अर्थव्यवस्था में संतुलन बहाल करने के लिए समायोजन तंत्र की व्याख्या कीजिए। *3*

16. निम्नलिखित गद्य का ध्यानपूर्वक अध्ययन कीजिए :

संघीय सरकार के बजट दस्तावेज़ के अनुसार, भारत अगले वित्तीय वर्ष में खाद्य, उर्वरक एवं ग्रामीण रोज़गार योजनाओं के उपदानों पर ₹ 4·57 ट्रिलियन ($ 52·81 बिलियन) व्यय करेगा।

संघीय सरकार ने अपने संशोधित अनुमानों के अनुसार, 31 मार्च को समाप्त होने वाले चालू वित्त वर्ष के लिए तीनों प्रकार के उपदान पर ₹ 4·54 ट्रिलियन का सामूहिक व्यय निर्धारित किया है। सरकार के प्रमुख ग्रामीण रोज़गार गारंटी कार्यक्रम का आबंटन को ₹ 860 अरब पर बरकरार रखा गया है, जबकि उर्वरकों के लिए आबंटन 2024 – 25 के संशोधित अनुमान ₹ 1·71 ट्रिलियन से मामूली रूप से घटाकर ₹ 1·67 ट्रिलियन कर दिया गया है।

राष्ट्र ने आगामी वित्त वर्ष के लिए खाद्य उपदान का बजट ₹ 2·03 ट्रिलियन रखा है, जो कि चालू वित्त वर्ष के लिए ₹ 1·97 ट्रिलियन के संशोधित अनुमान से कुछ अधिक है।

13. (a) A household and a taxi driver purchase a car each from a car dealer.

Identify the category of goods these two purchases fall under. Explain how these two are different from each other. *4*

OR

(b) "If the Gross Domestic Product (GDP) of the country is rising, the welfare of people may not rise as a consequence."

Defend or refute the above statement with a valid explanation. *4*

14. The exchange rate of the US dollar to the Indian rupee has fluctuated between a high of ₹ 88·325 on September 5, 2025 and a low of ₹ 87·899 on September 2, 2025.

In the light of these exchange rate movements, analyse the likely impact on the exports and imports of India, assuming all other factors constant. *4*

15. (a) State the meaning of 'Gross Investments'. *1*

(b) Explain the adjustment mechanism to restore equilibrium in the economy, if planned savings are greater than planned investment. *3*

16. Read the following text carefully :

According to the federal government's budget document, India will spend ₹ 4·57 trillion ($ 52·81 billion) on subsidies for food, fertilisers and rural employment schemes in the next financial year.

The federal government has budgeted a collective spending of ₹ 4·54 trillion for the current fiscal year ending March 31 across the three types of subsidies, as per the government's revised estimates. The allocation for the government's flagship rural jobs guarantee programme has been retained at ₹ 860 billion while that for fertilisers has been marginally lowered to ₹ 1·67 trillion from ₹ 1·71 trillion revised estimate for 2024 – 25.

The country has budgeted ₹ 2·03 trillion for food subsidy for the upcoming financial year at slightly above the ₹ 1·97 trillion revised estimate for the ongoing fiscal year.

उपर्युक्त गद्य तथा अर्थशास्त्र संबंधी सामान्य ज्ञान के आधार पर, निम्नलिखित प्रश्नों के उत्तर दीजिए :

(i) गद्य में इंगित सरकारी बजट के उद्देश्य की व्याख्या कीजिए। *3*

(ii) बजटीय व्यय की उस श्रेणी की पहचान कीजिए जिसमें उपदान सम्मिलित होते हैं तथा अपने उत्तर के समर्थन में कारण स्पष्ट कीजिए। *3*

17. (क) (i) "मान लीजिए कि किसी अर्थव्यवस्था में निवेश व्यय में हुई वृद्धि से राष्ट्रीय आय में पाँच गुना वृद्धि दर्ज की गई थी।"

यदि आय में परिवर्तन ₹ 2,000 करोड़ था तो निवेश व्यय में वृद्धि की गणना कीजिए। *3*

(ii) ऐसे किसी एक राजकोषीय उपाय की व्याख्या कीजिए जिसे किसी राष्ट्र की सरकार द्वारा अर्थव्यवस्था में प्रचलित स्फीति अंतराल को कम करने के उद्देश्य से उठाया जा सकता है। *3*

अथवा

(ख) (i) एक काल्पनिक अर्थव्यवस्था में, जब भी आय में वृद्धि होती है, तो गृहस्थों की बचत 20% से बढ़ जाती है। उनका उपभोग व्यय, जो आय के स्तर से स्वतंत्र है, ₹ 200 करोड़ है। स्वायत्त निवेश व्यय ₹ 100 करोड़ है। आय के संतुलन स्तर की गणना कीजिए। *3*

(ii) केन्द्रीय बैंक ने यह घोषणा की है कि, वह खुले बाज़ार परिचालन के माध्यम से कुल ₹ 80,000 करोड़ मूल्य की सरकारी प्रतिभूतियों (G-Sec) की नीलामी आयोजित करेगा।

उपर्युक्त दी गई सूचना के आलोक में, केन्द्रीय बैंक द्वारा इस प्रकार के मुक्त बाज़ार परिचालन का भारतीय अर्थव्यवस्था की समग्र माँग पर पड़ने वाले प्रभाव का विश्लेषण कीजिए। *3*

On the basis of the above text and common understanding related to economics, answer the following questions :

(i) Explain the objective of government budget indicated in the text. *3*

(ii) Identify the category of budgetary expenditure to which subsidies belong and explain the reason in support of your answers. *3*

17. (a) (i) "Suppose, in an economy, a given rise in investment expenditure results in a five-fold increase in National Income."

Calculate the rise in the investment expenditure if the change in income was ₹ 2,000 crore. *3*

(ii) Explain any one fiscal measure which the government of the nation can initiate to curtail the situation of inflationary gap in the economy. *3*

OR

(b) (i) In a hypothetical economy, whenever the income increases, savings of the households increase by 20%. Their consumption expenditure which is independent of the level of income is ₹ 200 crore. The autonomous investment expenditure is ₹ 100 crore. Calculate the Equilibrium level of Income. *3*

(ii) The Central Bank announced that it will conduct auctions of government securities (G-Sec) for a total of ₹ 80,000 crore through open market operations.

In the light of the information given above, analyse the likely impact of such open market operations of the Central Bank on the aggregate demand of the Indian economy. *3*

खण्ड ख

भारतीय आर्थिक विकास

18. निम्नलिखित कथनों का ध्यानपूर्वक अध्ययन कीजिए : *1*

कथन I : प्रशांता चन्द्र महालनोबिस को भारतीय नियोजन के वास्तुकार के रूप में जाना जाता है।

कथन II : 1948 की औद्योगिक नीति प्रस्ताव को इस उद्देश्य से अपनाया गया था कि अर्थव्यवस्था में राज्य प्रमुख भूमिका निभा सके।

दिए गए कथनों के आलोक में, निम्नलिखित में से सही विकल्प का चयन कीजिए :

(A) कथन I और II दोनों सत्य हैं।

(B) कथन I और II दोनों असत्य हैं।

(C) कथन I सत्य है, परन्तु कथन II असत्य है।

(D) कथन I असत्य है, परन्तु कथन II सत्य है।

19. हरमन डेली (एक पर्यावरण अर्थशास्त्री) के अनुसार, धारणीय विकास प्राप्त करने के लिए _____। *1*

(रिक्त स्थान की पूर्ति के लिए सही विकल्प का चयन कीजिए)

(A) मानव जनसंख्या को वहन क्षमता (Carrying capacity) के भीतर सीमित रखा जाना चाहिए

(B) तकनीकी प्रगति आगत उपभोगी होनी चाहिए

(C) नवीकरणीय संसाधनों का सतत आधार पर दोहन नहीं करना चाहिए

(D) ग़ैर-नवीकरणीय संसाधनों की ह्रास की दर उनके प्रतिस्थापन दर से अधिक होनी चाहिए

20. निम्नलिखित में से सही कथन की पहचान कीजिए : *1*

(सही विकल्प का चयन कीजिए)

(A) मानव पूँजी मूर्त होती है, जबकि भौतिक पूँजी अमूर्त होती है।

(B) मानव पूँजी निर्माण और भौतिक पूँजी एक समान हैं।

(C) मानव पूँजी न केवल मालिक को, बल्कि समग्र रूप से समाज को भी लाभ पहुँचाती है।

(D) मानव पूँजी और भौतिक पूँजी के मामले में मूल्यह्रास की प्रकृति समान रहती है।

SECTION B
Indian Economic Development

18. Read the following statements carefully : *1*

Statement I : Prasanta Chandra Mahalanobis is known as the architect of Indian planning.

Statement II : The Industrial Policy Resolution of 1948 was adopted to ensure that the state takes the dominating status in the economy.

In the light of the given statements, choose the correct option from the following :

(A) Both Statements I and II are true.

(B) Both Statements I and II are false.

(C) Statement I is true, but Statement II is false.

(D) Statement I is false, but Statement II is true.

19. According to Herman Daly (an environmental economist), to achieve sustainable development _____. *1*

(Choose the correct option to fill in the blank)

(A) the human population should be limited within the carrying capacity

(B) technological progress should be input-consuming

(C) renewable resources should not be extracted on a sustainable basis

(D) the non-renewable resources' rate of depletion should exceed its rate of substitution

20. Identify the correct statement from the following : *1*

(Choose the correct option)

(A) Human capital is tangible, whereas physical capital is intangible.

(B) Human capital formation and physical capital are the same.

(C) Human capital benefits not only the owner, but also society in general.

(D) Human capital, and physical capital, nature of depreciation remains the same.

21. निम्नलिखित में से जैविक कृषि की सीमा (limitation) की पहचान कीजिए : *1*

(सही विकल्प का चयन कीजिए)

(A) स्वास्थ्यवर्धक भोजन

(B) अल्प उपभोग अवधि

(C) पर्यावरण अनुकूल

(D) अल्प उत्पादन लागत

22. राघव एक फैक्ट्री का मालिक है, जिसके पास 50 कर्मचारी हैं। उसने पाँच कर्मचारियों को नौकरी से निवृत्त कर दिया तथा यह देखा कि फैक्ट्री का कुल उत्पादन अपरिवर्तित रहा। इस स्थिति को संभवत: _____ रोज़गार के रूप में वर्णित किया जाएगा। *1*

(रिक्त स्थान की पूर्ति के लिए सही विकल्प का चयन कीजिए)

(A) संरचनात्मक (B) प्रच्छन्न

(C) मौसमी (D) घर्षणात्मक

23. शिक्षा पर भारत सरकार द्वारा किया जाने वाला व्यय _____ के प्रतिशत के रूप में व्यक्त किया जाता है। *1*

(रिक्त स्थान की पूर्ति के लिए सही विकल्प का चयन कीजिए)

(i) सकल घरेलू उत्पाद

(ii) कुल सरकारी व्यय

(iii) कुल राज्य व्यय

विकल्प :

(A) (i) और (iii) (B) (i) और (ii)

(C) (ii) और (iii) (D) (i), (ii) और (iii)

24. निम्नलिखित में से अस्थायी कर्मचारी का उदाहरण पहचानिए : *1*

(सही विकल्प का चयन कीजिए)

(A) एक कालीन निर्यातक

(B) सरकारी अस्पताल में नियुक्त एक स्थायी नर्स

(C) निर्माण स्थल पर कार्यरत एक राजमिस्त्री (Mason)

(D) स्व-व्यवसाय चलाने वाला एक स्थानीय दर्जी

21. Identify the limitation of organic farming from the following : *1*

(Choose the correct option)

(A) Healthier food

(B) Shorter shelf-life

(C) Environment-friendly

(D) Lower production cost

22. Raghav is a factory owner with 50 workers. He laid off 5 workers and noticed that the total factory output remained the same. This situation will most likely be described as _____ employment. *1*

(Choose the correct option to fill in the blank)

(A) Structural (B) Disguised

(C) Seasonal (D) Frictional

23. The expenditure by the Indian government on education is expressed as a percentage of _____ . *1*

(Choose the correct option to fill in the blank)

(i) Gross Domestic Product (GDP)

(ii) Total Government Expenditure

(iii) Total State Expenditure

Options :

(A) (i) and (iii) (B) (i) and (ii)

(C) (ii) and (iii) (D) (i), (ii) and (iii)

24. Identify the example of a casual worker from the following : *1*

(Choose the correct option)

(A) An exporter of carpets

(B) A nurse permanently employed in a government hospital

(C) A mason working at a construction site

(D) A local tailor running his own business

25. कॉलम I में दी गई मदों तथा कॉलम II में दिए गए तथ्यों के समूह में से, सही युग्म का चयन कीजिए : *1*

	कॉलम I		*कॉलम II*
a.	ग्रेट लीप फारवर्ड	i.	छात्रों व पेशेवरों को ग्रामीण इलाकों में भेजा गया
b.	महान सर्वहारा सांस्कृतिक क्रांति	ii.	कृषि व उद्योगों में परिवर्तन लाने के उद्देश्य हेतु
c.	चीन में आर्थिक सुधार	iii.	पूँजीगत उद्योगों के राष्ट्रीयकरण उद्देश्य हेतु
d.	चीनी जनवादी गणराज्य की स्थापना	iv.	सभी महत्त्वपूर्ण क्षेत्रों को सरकारी नियंत्रण में लाने हेतु

विकल्प :

(A) a-i (B) b-ii

(C) c-iii (D) d-iv

26. भारतीय उत्पादकों को विदेशी प्रतिस्पर्धा से जो सुरक्षा प्रदान की गई उससे उन्हें अपनी उत्पादित वस्तुओं में सुधार करने का प्रोत्साहन नहीं मिला। संदर्भित नीति की पहचान कीजिए : *1*

(सही विकल्प का चयन कीजिए)

(A) औद्योगिक नीति प्रस्ताव, 1948

(B) लघु उद्योग संरक्षण नीति

(C) आयात प्रतिस्थापन नीति

(D) लाइसेंसिंग नीति

27. एक काल्पनिक देश में, यदि श्रमिक जनसंख्या का अनुपात 30 है तथा कुल श्रमिकों की संख्या 1500 है, तो इसकी कुल जनसंख्या _____ होगी। *1*

(रिक्त स्थान की पूर्ति के लिए सही विकल्प का चयन कीजिए)

(A) 50

(B) 450

(C) 5,000

(D) 50,000

25. From the set of terms given in Column I and the corresponding facts given in Column II, choose the correct pair : *1*

	Column I		*Column II*
a.	Great Leap Forward	i.	Students and professionals were sent to the countryside
b.	Great Proletarian Cultural Revolution	ii.	Aimed at bringing changes in agriculture and industry
c.	Economic Reforms in China	iii.	Aimed at nationalisation of capital good industries
d.	Establishment of People's Republic of China	iv.	All critical sectors were brought under government control

Options :

(A) a-i (B) b-ii

(C) c-iii (D) d-iv

26. Indian producers were protected against foreign competition which did not give them the incentive to improve the quality of goods that they produced. Identify the policy referred to : *1*

(Choose the correct option)

(A) Industrial Policy Resolution, 1948

(B) Policy to promote small-scale industries

(C) Import substitution policy

(D) Licencing policy

27. In a hypothetical country, if the worker-population ratio is 30 and total number of workers is 1500, its total population will be _____ . *1*

(Choose the correct option to fill in the blank)

(A) 50

(B) 450

(C) 5,000

(D) 50,000

28. "भारत और पाकिस्तान ने स्व-विकास पथ हेतु समान विकासात्मक रणनीतियां अपनाई थी।"
क्या आप दिए गए कथन से सहमत हैं ? प्रासंगिक स्पष्टीकरण द्वारा अपने उत्तर की पुष्टि कीजिए। *3*

29. (क) "धारणीय विकास का उद्देश्य ऐसे विकास को प्रोत्साहित करना होता है, जो पर्यावरण की समस्याओं को कम करें तथा वर्तमान पीढ़ी की आवश्यकताओं को पूरा करते हुए भविष्य की पीढ़ियों की जरूरतों को पूरा करने की क्षमता से समझौता न करें।"
मान्य तर्कों द्वारा उक्त कथन को सिद्ध कीजिए। *3*

अथवा

(ख) "मानव पूँजी लक्ष्य प्राप्ति का साधन है, जबकि मानव विकास स्वयं में एक लक्ष्य है।"

मान्य उदाहरणों द्वारा दोनों अवधारणाओं के मध्य अंतर स्पष्ट करते हुए उक्त कथन का स्पष्टीकरण दीजिए। *3*

30. निम्नलिखित तालिका का ध्यानूपर्वक अध्ययन कीजिए :

सकल घरेलू उत्पाद की वार्षिक विकास दर (%), 1980 – 2017

राष्ट्र	1980 – 90	2015 – 2017
भारत	5·7	7·3
चीन	10·3	6·8
पाकिस्तान	6·3	5·3

दी गई समयावधि में पाकिस्तान के सकल घरेलू उत्पाद की विकास दर में गिरावट के पीछे के कारणों की विस्तृत व्याख्या कीजिए। *4*

31. (क) "1991 से पूर्व, भारतीय बैंकिंग प्रणाली पर सरकारी बैंकों का दबदबा था, जिनका भारतीय रिज़र्व बैंक नियमन और नियंत्रण करता था।

1991 में बैंकिंग प्रणाली को बेहतर बनाने के लिए भारत सरकार द्वारा किए गए सुधारों की व्याख्या कीजिए। *4*

अथवा

(ख) "भारत में भूमि सीमा निर्धारण कानूनों के प्रवर्तन को कई प्रकार की चुनौतियों का सामना करना पड़ा, जिसने उनकी सफलता को सीमित कर दिया।"

क्या आप दिए गए कथन से सहमत हैं ? अपने उत्तर के समर्थन में उचित स्पष्टीकरण कीजिए। *4*

28. "India and Pakistan followed similar developmental strategies for their own development paths."

Do you agree with the given statement ? Justify your answer with a relevant explanation. *3*

29. (a) "Sustainable development aims at promoting development that minimises environmental problems and meets the needs of the present generation without compromising the ability of future generations to meet their own needs."

Justify the above statement with valid arguments. *3*

OR

(b) "While human capital is a means to an end, human development is an end in itself."

Elaborate the above statement, highlighting the difference between the two concepts with the help of suitable examples. *3*

30. Read the table given below carefully :

Annual Growth of Gross Domestic Product (%), 1980 – 2017

Country	1980 – 90	2015 – 2017
India	5·7	7·3
China	10·3	6·8
Pakistan	6·3	5·3

Elaborate the reasons behind the decline in the growth rate of Gross Domestic Product of Pakistan over the given period of time. *4*

31. (a) "Before 1991, the Indian Banking sector was dominated by Public Sector Banks, regulated and controlled by the Reserve Bank of India."

Discuss the reforms undertaken by the Indian government in the year 1991 to improve the banking system. *4*

OR

(b) "The enforcement of land ceiling laws in India faced numerous challenges which restricted their success."

Do you agree with the given statement ? Give a valid explanation in support of your answer. *4*

32.

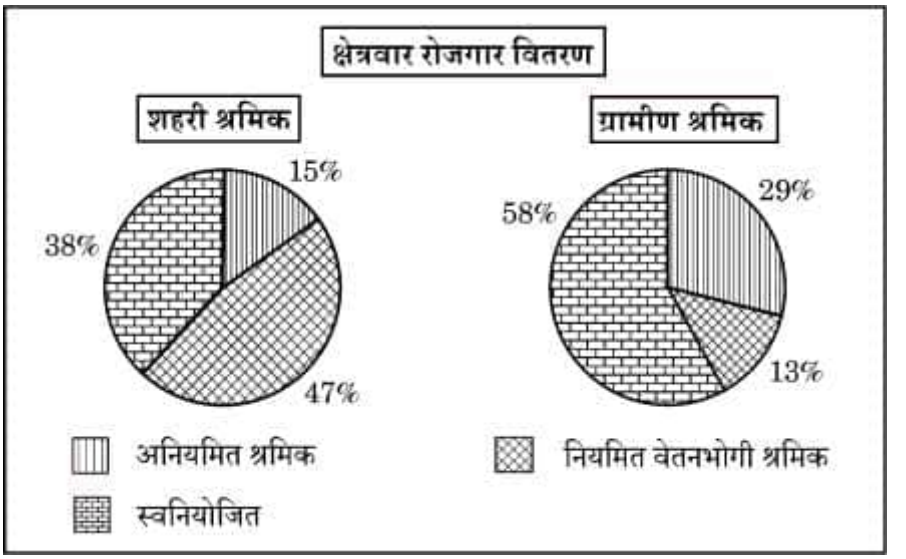

उपर्युक्त चित्र के आधार पर निम्नलिखित प्रश्नों के उत्तर दीजिए :

(क) ग्रामीण एवं शहरी दोनों क्षेत्रों में कुल कार्यबल में किस श्रेणी के श्रमिकों का अनुपात अधिक है ? *1*

(ख) इस रूपरेखा (Pattern) के पीछे के किन्हीं दो कारणों की व्याख्या कीजिए। *3*

नोट : निम्नलिखित प्रश्न केवल ***दृष्टिबाधित परिक्षार्थियों*** के लिए प्रश्न संख्या ***32*** के स्थान पर है।

निम्नलिखित श्रेणियों के संबंध में ग्रामीण व शहरी क्षेत्रों में श्रमिकों के वितरण की रूपरेखा (Pattern) के पीछे के किन्हीं दो कारणों की व्याख्या कीजिए : *4*

(क) स्वनियोजित

(ख) नियमित वेतनभोगी श्रमिक

33. निम्नलिखित गद्य का ध्यानपूर्वक अध्ययन कीजिए :

भारत का पुष्प उत्पादन उद्योग, एक उच्च प्रदर्शन वाले क्षेत्र के रूप में विकसित हुआ है, जिसने 100% निर्यात उन्मुखता के साथ "उदयमान उद्योग" का दर्जा प्राप्त किया है। पुष्पों की बढ़ती वैश्विक माँग से प्रेरित होकर, पुष्प उत्पादन कृषि क्षेत्र के अंतर्गत एक प्रमुख व्यावसायिक उद्यम के रूप में विकसित हुआ है।

व्यावसायिक पुष्प उत्पादन विशेष रूप से लाभदायक है, जो कई पारंपरिक फसलों की तुलना में प्रति इकाई अधिक प्रतिफल प्रदान करती है। अनाज, दलहन, सब्ज़ियाँ व तिलहन की तुलना में पुष्पों के उत्पादन में अधिक लाभार्जन देखा गया है। उपदान के समर्थन तथा फसल ऋण वित्तपोषण की सहायता से यह सीमांत एवं लघु जोत वाले कृषकों के लिए आशाजनक उद्यम है, जो कुल भूमि जोतों के 96% से अधिक तथा पुष्प उत्पादन के अंतर्गत कृषि क्षेत्र के 63% का गठन करते हैं।

32.

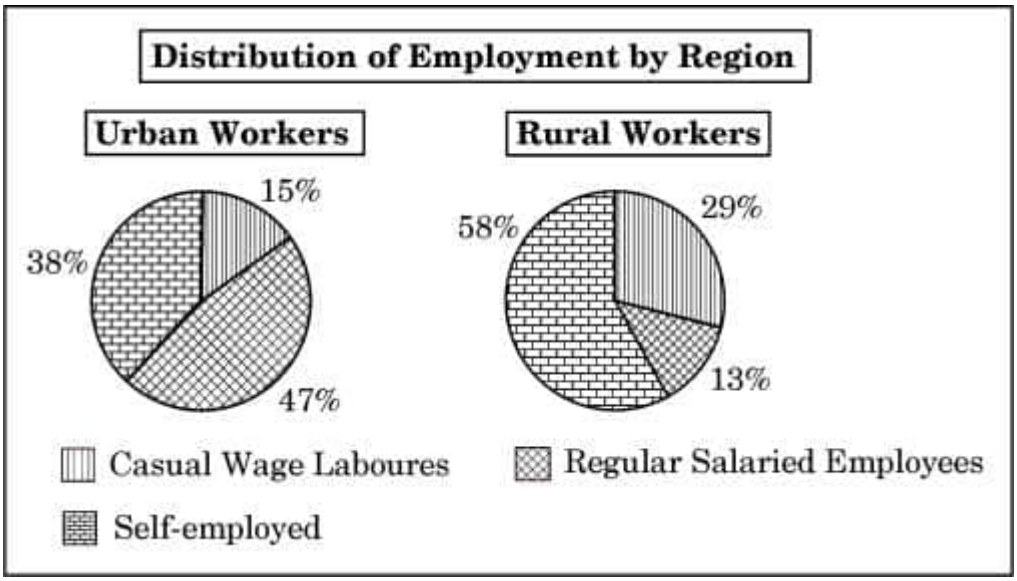

Answer the following questions on the basis of the above image :

(a) Which category of workers enjoys a greater proportion of the total workforce in both rural and urban areas ? *1*

(b) Discuss any two reasons behind this pattern. *3*

Note : *The following question is for the* ***Visually Impaired Candidates*** *only in lieu of Q. No.* ***32****.*

Discuss any two reasons behind the pattern of distribution of workers in rural and urban areas with respect to the following categories : *4*

(a) Self-employed

(b) Regular salaried employees

33. Read the following text carefully :

India's floriculture industry has grown into a high-performing sector, earning its status as a "sunrise industry" with a 100 per cent export orientation. Driven by a growing global demand for flowers, floriculture has evolved into a key commercial venture within the agriculture sector.

Commercial floriculture is particularly lucrative, offering higher returns per unit area than many traditional field crops. Production of flowers witnessed more profitability compared to cereals, pulses, vegetables and oilseeds. With subsidy support and crop loan financing, it is a promising venture for marginal and small landholdings, which constitute more than 96 per cent of the total landholdings and 63 per cent of the area of cultivation under floriculture.

वित्त वर्ष 2024 में, लगातार 297 हजार हैक्टेयर भूमि पुष्प उत्पादन के लिए समर्पित थी। इसी अवधि में, भारत ने 19,678 मीट्रिक टन पुष्प उत्पादों का निर्यात किया, जिससे ₹ 717·83 करोड़ (USD 86·63 million) की आय हुई। प्रमुख निर्यात गन्तव्यों में संयुक्त राज्य अमेरिका, नीदरलैंड, संयुक्त अरब अमीरात, यूनाइटेड किंगडम, कनाडा एवं मलेशिया सम्मिलित थे।

उपर्युक्त गद्य व अर्थशास्त्र संबंधी सामान्य ज्ञान के आधार पर, निम्नलिखित प्रश्नों के उत्तर दीजिए :

(i) कृषकों को स्थायी आजीविका प्रदान करने में पुष्प उत्पादन की आवश्यकता क्यों है ? *3*

(ii) ऐसे किन्हीं दो तरीकों की व्याख्या कीजिए, जिनसे सरकार छोटे एवं सीमांत कृषकों की सहायता कर सकती है। *3*

34. (क) (i) जैसा कि विनिवेश आयोग ने पाया है कि – "एक दीर्घकालिक विनिवेश रणनीति का सार न केवल बजटीय प्राप्तियों में वृद्धि होना चाहिए, बल्कि लाभहीन इकाइयों के लिए बजटीय समर्थन को कम करना भी होना चाहिए। इसके साथ-साथ ऐसी इकाईयों की दीर्घकालिक व्यवहार्यता व उनमें रोजगार के स्थायी स्तर को सुनिश्चित करना भी होना चाहिए।"

(I) पहचान कीजिए कि उपर्युक्त गद्य में किस क्षेत्र के विनिवेश का उल्लेख किया गया है। *1*

(II) भारत सरकार द्वारा इस विनिवेश रणनीति का औचित्य सिद्ध कीजिए। *2*

(ii) "औपनिवेशिक भारत में कृषि में स्थिरता न केवल उत्पादन की पिछड़ी तकनीकों के उपयोग के कारण थी, बल्कि अंग्रेज़ों द्वारा अपनाई गई शोषणकारी भू-व्यवस्था प्रणालियों व नीतियों का भी परिणाम थी।"

वैध तर्कों द्वारा इस कथन का समर्थन अथवा खंडन कीजिए। *3*

अथवा

(ख) (i) "1950 के दशक में, अत्यधिक सरकारी नियमन ने उद्यमशीलता के विकास को बाधित किया।"

क्या आप दिए गए कथन से सहमत हैं ? अपने उत्तर के समर्थन में वैध स्पष्टीकरण दीजिए। *3*

(ii) "सुधार काल में कर कटौती से कर राजस्व में वृद्धि नहीं हुई है।"

दिए गए कथन की वैध स्पष्टीकरण के साथ पुष्टि कीजिए। *3*

In FY24, approximately 297 thousand hectares were dedicated to floriculture. During the same period, India exported 19,678 metric tonnes of floriculture products, earning ₹ 717·83 crore (USD 86·63 million). Key export destinations included the USA, the Netherlands, the UAE, the UK, Canada and Malaysia.

On the basis of the given text and common understanding related to economics, answer the following questions :

(i) Why is floriculture essential for providing a sustainable livelihood for the farmers ? *3*

(ii) Explain any two ways in which the government can extend help to the small and marginal farmers. *3*

34. (a) (i) As the Disinvestment Commission has observed, "the essence of a long-term disinvestment strategy should be not only to enhance budgetary receipts, but also minimise budgetary support towards unprofitable units. Also, it must ensure the long-term viability and sustainable levels of employment in such units."

(I) Identify the sector, whose disinvestment is being referred to in the statement. *1*

(II) Justify this disinvestment strategy adopted by the Indian Government. *2*

(ii) "Agricultural stagnation in colonial India was not only due to the use of backward techniques of production, but also a result of exploitative land settlement systems and policies adopted by the British."

Defend or refute this statement giving valid arguments. *3*

OR

(b) (i) "In the 1950s, excessive government regulation prevented the growth of entrepreneurship."

Do you agree with the given statement ? Give a valid explanation in support of your answer. *3*

(ii) "The tax reductions in the reform period have not resulted in an increase in tax revenue."

Justify the given statement with a valid explanation. *3*

Marking Scheme
Strictly Confidential
(For Internal and Restricted use only)
Senior Secondary Supplementary School Examination, 2026 (XII)

ECONOMICS (SUBJECT CODE – 030)

(PAPER CODE – 58/7/2)

General Instructions: -

1	You are aware that evaluation is the most important process in the actual and correct assessment of the candidates. A small mistake in evaluation may lead to serious problems which may affect the future of the candidates, education system and teaching profession. To avoid mistakes, it is requested that before starting evaluation, you must read and understand the spot evaluation guidelines carefully.
2	**"Evaluation policy is a confidential policy as it is related to the confidentiality of the examinations conducted, evaluation done and several other aspects. Its leakage to public in any manner could lead to derailment of the examination system and affect the life and future of millions of candidates. Sharing this policy/document to anyone, publishing in any magazine and printing in Newspaper/Website, etc. may invite action under various rules of the Board and IPC."**
3	Evaluation is to be done as per instructions provided in the Marking Scheme. It should not be done according to one's own interpretation or any other consideration. Marking Scheme should be strictly adhered to and religiously followed. **However, while evaluating, answers which are based on latest information or knowledge and/or are innovative, they may be assessed for their correctness otherwise and due marks be awarded to them. In Class-XII, while evaluating two competency-based questions, please try to understand given answer and even if reply is not from marking scheme but correct competency is enumerated by the candidate, due marks should be awarded.**
4	The Marking scheme carries only suggested value points for the answers. These are in the nature of Guidelines only and do not constitute the complete answer. The students can have their own expression and if the expression is correct, the due marks should be awarded accordingly.
5	The Head-Examiner must go through the first five answer books evaluated by each evaluator on the first day, to ensure that evaluation has been carried out as per the instructions given in the Marking Scheme. If there is any variation, the same should be zero after deliberation and discussion. The remaining answer books meant for evaluation shall be given only after ensuring that there is no significant variation in the marking of individual evaluators.
6	Evaluators will mark (√) wherever answer is correct. For wrong answer CROSS 'X' be marked. Evaluators will not put right (✓) while evaluating which gives an impression that answer is correct and no marks are awarded. **This is most common mistake which evaluators are committing.**

7	If a question has parts, please award marks on the right-hand side for each part. Marks awarded for different parts of the question should then be totaled up and written in the left-hand margin and encircled. This may be followed strictly.
8	If a question does not have any parts, marks must be awarded in the left-hand margin and encircled. This may also be followed strictly.
9	If a student has attempted an extra question, answer of the question deserving more marks should be retained and the other answer scored out with a note **"Extra Question"**.
10	No marks to be deducted for the cumulative effect of an error. It should be penalized only once.
11	A full scale of marks 0 to 80 has to be used. Please do not hesitate to award full marks if the answer deserves it.
12	Every examiner has to necessarily do evaluation work for full working hours i.e., 8 hours every day and evaluate 20 answer books per day in main subjects and 25 answer books per day in other subjects (Details are given in Spot Guidelines). This is in view of the reduced syllabus and number of questions in question paper.
13	Ensure that you do not make the following common types of errors committed by the Examiner in the past :- ● Leaving answer or part thereof unassessed in an answer book. ● Giving more marks for an answer than assigned to it. ● Wrong totaling of marks awarded on an answer. ● Wrong transfer of marks from the inside pages of the answer book to the title page. ● Wrong question wise totaling on the title page. ● Wrong totaling of marks of the two columns on the title page. ● Wrong grand total. ● Marks in words and figures not tallying/not same. ● Wrong transfer of marks from the answer book to online award list. ● Answers marked as correct, but marks not awarded. (Ensure that the right tick mark is correctly and clearly indicated. It should merely be a line. Same is with the X for incorrect answer.) ● Half or a part of answer marked correct and the rest as wrong, but no marks awarded.
14	While evaluating the answer books if the answer is found to be totally incorrect, it should be marked as cross (X) and awarded zero (0) Marks.
15	Any unassessed portion, non-carrying over of marks to the title page, or totaling error detected by the candidate shall damage the prestige of all the personnel engaged in the evaluation work as also of the Board. Hence, in order to uphold the prestige of all concerned, it is again reiterated that the instructions be followed meticulously and judiciously.
16	The Examiners should acquaint themselves with the guidelines given in the "**Guidelines for Spot Evaluation**" before starting the actual evaluation.
17	Every Examiner shall also ensure that all the answers are evaluated, marks carried over to the title page, correctly totaled and written in figures and words.
18	The candidates are entitled to obtain photocopy of the Answer Book on request on payment of the prescribed processing fee. All Examiners/Additional Head Examiners/Head Examiners are once again reminded that they must ensure that evaluation is carried out strictly as per value points for each answer as given in the Marking Scheme.

MARKING SCHEME

Senior School Certificate Examination (Supplementary), July 2026

ECONOMICS (Subject Code–030)

[Paper Code: 58/7/2]

Maximum Marks: 80

Q. No.	EXPECTED ANSWER / VALUE POINTS	Marks
	SECTION -A **(Macro Economics)**	
1.	Identify the transactions that will be recorded in India's capital account of the Balance of Payments (BoP): (Choose the correct option) (i) Indian residents purchasing properties in Dubai (ii) Indian firms borrowing from international banks (iii) Remittances by Indians working abroad (iv) Repayment of outstanding loans by the Indian Government to the IMF **Options:** (A) (i) and (iii) (B) Only (iii) (C) (ii) and (iii) (D) (i), (ii) and (iv) **Ans. (D) (i), (ii) and (iv)**	**1**
2.	Ayaan owns a transportation company and spent ₹ 30,000 in the year 2024 - 25 on the repair of all vehicles. This will be classified as _____ expenditure while estimating the National Income of India. (Choose the correct option to fill in the blank) (A) Intermediate (B) Consumption (C) Investment (D) Final **Ans. (A) Intermediate**	**1**
3.	Under the Keynesian theory, 'Reference line' is a straight line passing through the origin drawn at an angle of _____. (Choose the correct option to fill in the blank) (A) 25° (B) 45 ° (C) 55 ° (D) 75 ° **Ans. (B) 45 °**	**1**
4.	Read the following statements carefully: *Statement I:* Stock variables are measurable at a particular point of time. *Statement II:* A change in any stock variable in a given time period is a flow variable. In the light of the given statements, choose the correct option from the following: (A) Both Statements I and II are true. (B) Both Statements I and II are false. (C) Statement I is true, but Statement II is false. (D) Statement I is false, but Statement II is true. **Ans. (A) Both Statements I and II are true.**	**1**
5.	Suppose the Reserve Bank of India (RBI) decides to keep the reserve ratio equal to 10%. The total deposits created will be _____ times the primary deposit. (Choose the correct option to fill in the blank)	

	(A) ∞ (Infinity) (B) 1 (Unity) (C) 0 (Zero) (D) 10 (Ten) **Ans. (D) 10 (Ten)**	**1**
6.	Read the following statements: Assertion (A) and Reason (R). Choose the correct option from those given below: *Assertion (A):* Capital account is in balance when capital inflows are equal to capital outflows. *Reason (R):* Autonomous capital inflows indicate a decrease in assets and an increase in liabilities. **Options:** (A) Both Assertion (A) and Reason (R) are true and Reason (R) is the correct explanation of Assertion (A). (B) Both Assertion (A) and Reason (R) are true, but Reason (R) is ***not*** the correct explanation of Assertion (A). (C) Assertion (A) is true, but Reason (R) is false. (D) Assertion (A) is false, but Reason (R) is true. **Ans. (B) Both Assertion (A) and Reason (R) are true, but Reason (R) is *not* the correct explanation of Assertion (A).**	**1**
7.	"In recent times, the Reserve Bank of India has reduced the Repo Rate (RR)." The most likely objective of the Reserve Bank of India behind this policy change is to _____ the borrowing cost and _____ liquidity in the economy. (Choose the correct option to fill in the blanks) (A) decrease, decrease (B) increase, increase (C) decrease, increase (D) increase, decrease **Ans. (C) decrease, increase**	**1**
8.	Refer to the given diagram. At which level of income will the value of Average Propensity to Save (APS) be zero? (Choose the correct option) 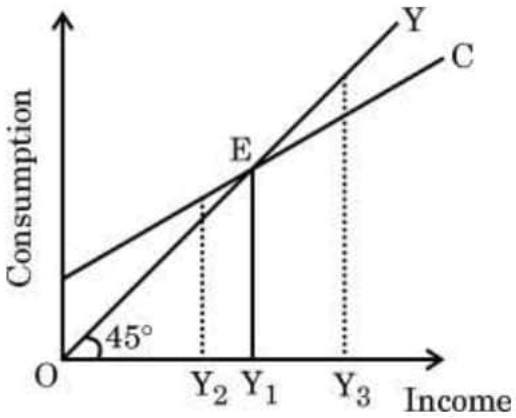 **Options:** (A) Level O (B) Level OY_1 (C) Level OY_2 (D) Level OY_3 **Ans. (B) Level OY_1** ***Note:*** *The following question is for the* ***Visually Impaired Candidates*** *only, in lieu of Q. No.* ***8****.*	**1**

	At the break-even level of income, the slope of the consumption function will be equal to _____. (Choose the correct option to fill in the blank) (A) Average Propensity to Save (APS) (B) Average Propensity to Consume (APC) (C) Marginal Propensity to Save (MPS) (D) Marginal Propensity to Consume (MPC) **Ans. (D) Marginal Propensity to Consume (MPC)**	**1**
9.	Identify which of the following option will be included while estimating the national income by income method. (Choose the correct option) (A) Windfall gains (B) Capital loss (C) Mixed income (D) Transfer income **Ans. (C) Mixed income**	**1**
10.	"Anil purchased a house costing ₹ 30 lakhs. For this, he took a bank loan, which he agreed to repay over a period of 25 years in fixed monthly instalments." Identify the function of money indicated in the above situation. (Choose the correct option) (A) Medium of exchange (B) Standard of deferred payments (C) Medium of exchange and standard of deferred payments (D) Store of value **Ans. (C) Medium of exchange and standard of deferred payments**	**1**
11. (a)	From the following data of a hypothetical economy, calculate the value of National Income (NNP_{FC}).	

S.No.	*Particulars*	*Amount (in ₹ crore)*
(i)	Mixed income of the self-employed	550
(ii)	Net factor income from abroad	(-) 50
(iii)	Rent	150
(iv)	Consumption of fixed capital	40
(v)	Profits after tax	250
(vi)	Wages and salaries	1700
(vii)	Net indirect taxes	50
(viii)	Corporate tax	150
(ix)	Dividends	50
(x)	Net exports	(-) 40
(xi)	Interest	350
(xii)	Social security contributions by employers	80

Ans. National Income (NNP_{FC}) = (vi) + (xii) + (iii) + (xi) + (viii) + (v) + (i) + (ii)	**1 ½**
= 1700 + 80 + 150 + 350 + 150 + 250 + 550 + (-50)	**1**
= ₹ 3,180 crore	**½**
OR	**3**
(b) Giving valid reasons, explain how the following items are treated while estimating domestic income of India: (i) Dividend received by an Indian resident who owns shares of an American company **Ans. Dividend received by an Indian resident who owns shares of an American company will not be included in the estimation of domestic income of India. This is an income earned outside the domestic territory of India.** **(Any other answer with valid reason to be awarded marks)**	**1 ½**

	(ii) A quintal of rice kept aside by a farmer for his family's consumption **Ans. A quintal of rice kept aside by a farmer for his family's consumption (self-consumption) will be included in the estimation of domestic income, being a part of value of output.**	**1 ½** **3**
12.	"The RBI is implementing a phased reduction of the Cash Reserve Ratio (CRR) from 4% to 3%." In the light of the given information, explain the rationale behind the Reserve Bank of India's policy initiative to promote credit expansion. **Ans. The reduction in Cash Reserve Ratio (CRR) from 4% to 3% by Reserve Bank of India (RBI) leads to reduction in the amount of reserves to be maintained by the Commercial Banks. This enhances the lending capacity of the Commercial Banks, thereby, increasing the availability of credit in the economy. Consequently, promoting credit expansion. (To be marked as a whole)**	**3**
13. **(a)**	A household and a taxi driver purchase a car each from a car dealer. Identify the category of goods these two purchases fall under. Explain how these two are different from each other. **Ans. A car purchased by a household/taxi driver from a car dealer can be categorised as a final good.** **Car purchased by a household can be classified as a consumption good because it is used to directly satisfy the wants of the end user.** **On the other hand, a car purchased by a taxi driver is a capital good since it is used for investment purposes. It is being used for further production of services and is not completely used in the same year.**	**1** **1 ½** **1 ½**
	OR	**4**
(b)	If the Gross Domestic Product (GDP) of the country is rising, the welfare of people may not rise as a consequence." Defend or refute the above statement with a valid explanation. **Ans. The given statement is defended. An increase in the Gross Domestic Product (GDP) may be accompanied by some harmful impacts (negative externalities) like pollution, environmental degradation etc. Such negative externalities reduce the welfare of people.** **GDP includes the value of final goods and services produced without accounting for these harmful impacts. Therefore, GDP may rise without any corresponding increase in the welfare of the people. (To be marked as a whole)** **(Any other valid explanation to be given marks)**	**4**
14.	The exchange rate of the US dollar to the Indian rupee has fluctuated between a high of ₹ 88.325 on September 5, 2025 and a low of ₹ 87.899 on September 2, 2025. In the light of these exchange rate movements, analyse the likely impact on the exports and imports of India, assuming all other factors constant. **Ans. An increase in the exchange rate from ₹ 87.899 to ₹ 88.325 per US dollar, indicates that the Indian rupee (₹) has depreciated. Assuming all other factors constant, this will encourage exports, as Indian goods will become relatively cheaper for buyers abroad.** **Conversely, imports will become dearer as more units of Indian rupee are required to buy one US dollar, leading to a decline in imports. Hence, depreciating Indian rupee is likely to promote exports and discourage imports.**	**2** **2** **4**
15.	(a) State the meaning of 'Gross Investments'. **Ans. Gross investments refer to addition to the capital stock which includes replacement for the wear and tear which the capital stock undergoes.**	**1**

	(b) Explain the adjustment mechanism to restore equilibrium in the economy, if planned savings are greater than planned investment. **Ans. When planned savings are greater than planned investments, it means households are planning to consume less than what the firms expected them to consume. This will lead to unintended accumulation of inventories. To bring back the inventory to the desired level, producers may intend to decrease production in the economy. This adjustment mechanism will continue till the equilibrium level of output is restored.** **(To be marked as a whole)**	**3** **4**
16.	Read the following text carefully: According to the federal government's budget document, India will spend ₹ 4.57 trillion ($ 52.81 billion) on subsidies for food, fertilisers and rural employment schemes in the next financial year. The federal government has budgeted a collective spending of ₹ 4.54 trillion for the current fiscal year ending March 31 across the three types of subsidies, as per the government's revised estimates. The allocation for the government's flagship rural jobs guarantee programme has been retained at ₹ 860 billion while that for fertilisers has been marginally lowered to ₹ 1.67 trillion from ₹ 1.71 trillion revised estimate for 2024-25. The country has budgeted ₹ 2.03 trillion for food subsidy for the upcoming financial year at slightly above the ₹ 1.97 trillion revised estimate for the ongoing fiscal year. On the basis of the above text and common understanding related to economics, answer the following questions: (i) Explain the objective of government budget indicated in the text. **Ans. The objective of the Government Budget indicated in the above text is Allocation Function. The aim of the government to allocate substantial funds for food & fertiliser subsidies and the rural employment schemes is to redirect resources towards priority sectors for economic development. (To be marked as a whole)** (ii) Identify the category of budgetary expenditure to which subsidies belong and explain the reason in support of your answers. **Ans. Budgetary expenditure incurred on subsidies can be classified as Revenue Expenditure.** **The expenditures on subsidies can be classified as Revenue Expenditure as it neither create assets nor reduce liabilities of the government.**	**3** **1** **2** **6**
17. (a)	(i) ''Suppose, in an economy, a given rise in investment expenditure results in a five-fold increase in National Income.'' Calculate the rise in the investment expenditure if the change in income was ₹ 2,000 crore. **Ans. Given,** **Investment Multiplier (K) = 5** **Change in Income (ΔY) = ₹ 2,000 crore** **ΔY = 5 x Change in Investment (ΔI)** **2000 = 5 x ΔI** **Change in Investment (ΔI) = ₹ 400 crore** (ii) Explain any one fiscal measure which the government of the nation can initiate to curtail the situation of inflationary gap in the economy. Ans. **To curtail the situation of inflation, the government may increase the tax rates which may decrease the disposable income (purchasing power) in the hands of the general public. Consequently, it may lead to a fall in Aggregate Demand, thereby correcting the inflationary gap. (To be marked as a whole)** **(Any other valid measure to be awarded marks)** **OR**	**1 ½** **1** **½** **3** **6**

(b)	(i) In a hypothetical economy, whenever the income increases, savings of the households increase by 20%. Their consumption expenditure which is independent of the level of income is ₹ 200 crore. The autonomous investment expenditure is ₹ 100 crore. Calculate the Equilibrium level of Income. **Ans.** **Given, Marginal Propensity to Save (MPS) = 0.2** **Consumption which is independent of level of income ($\bar{C}$) = ₹ 200 crore** **Autonomous investment expenditure (I) = ₹ 100 crore** **Marginal Propensity to Consume = 1 – Marginal Propensity to Save (MPS)** **= 1 – 0.2** **= 0.8** **As we know that, at equilibrium level of income; Y = C + I** **1** **$Y = \bar{C} + (MPC)Y + I$** **½** **Y = 200 + 0.8Y + 100** **1** **Y = ₹ 1,500 crore** **½** (ii) The Central Bank announced that it will conduct auctions of government securities (G-Sec) for a total of ₹ 80,000 crore through open market operations. In the light of the information given above, analyse the likely impact of such open market operations of the Central Bank on the aggregate demand of the Indian economy. **Ans. The proposed auction of government securities (G-Sec) by the Central Bank, worth ₹ 80,000 crore through Open Market Operations (OMO), will lead to fall in the availability of funds with the commercial banks. Consequently, lending capacity of commercial banks will fall leading to decrease in the money supply, which will in turn reduce the Aggregate Demand in the economy. (To be marked as a whole)** **3**	**6**
	SECTION – B **(Indian Economic Development)**	
18.	Read the following statements carefully: *Statement I:* Prasanta Chandra Mahalanobis is known as the architect of Indian planning. *Statement II:* The Industrial Policy Resolution of 1948 was adopted to ensure that the state takes the dominating status in the economy. In the light of the given statements, choose the correct option from the following: (A) Both Statements I and II are true. (B) Both Statements I and II are false. (C) Statement I is true, but Statement II is false. (D) Statement I is false, but Statement II is true. **Ans. (C) Statement I is true, but Statement II is false.**	**1**
19.	According to Herman Daly (an environmental economist), to achieve sustainable development _____. (Choose the correct option to fill in the blank) (A) the human population should be limited within the carrying capacity (B) technological progress should be input-consuming (C) renewable resources should not be extracted on a sustainable basis (D) the non-renewable resources' rate of depletion should exceed its rate of substitution **Ans. (A) the human population should be limited within the carrying capacity**	**1**
20.	Identify the correct statement from the following: (Choose the correct option) (A) Human capital is tangible, whereas physical capital is intangible. (B) Human capital formation and physical capital are the same. (C) Human capital benefits not only the owner, but also society in general.	

(D) Human capital, and physical capital, nature of depreciation remains the same.
Ans. (C) Human capital benefits not only the owner, but also society in general. **1**

21. Identify the limitation of organic farming from the following:
(Choose the correct option)
(A) Healthier food
(B) Shorter shelf-life
(C) Environment-friendly
(D) Lower production cost
Ans. (B) Shorter shelf-life **1**

22. Raghav is a factory owner with 50 workers. He laid off 5 workers and noticed that the total factory output remained the same. This situation will most likely be described as _____ employment. (Choose the correct option to fill in the blank)
(A) Structural (B) Disguised
(C) Seasonal (D) Frictional
Ans. (B) Disguised **1**

23. The expenditure by the Indian government on education is expressed as a percentage of _____. (Choose the correct option to fill in the blank)
(i) Gross Domestic Product (GDP)
(ii) Total Government Expenditure
(iii) Total State Expenditure
Options:
(A) (i) and (iii) (B) (i) and (ii)
(C) (ii) and (iii) (D) (i), (ii) and (iii)
Ans. (B) (i) and (ii) **1**

24. Identify the example of a casual worker from the following:
(Choose the correct option)
(A) An exporter of carpets
(B) A nurse permanently employed in a government hospital
(C) A mason working at a construction site
(D) A local tailor running his own business
Ans. (C) A mason working at a construction site **1**

25. From the set of terms given in Column I and the corresponding facts given in Column II, choose the correct pair:

	Column I		*Column II*
a.	Great Leap Forward	i.	Students and professionals were sent to the countryside
b.	Great Proletarian Cultural Revolution	ii.	Aimed at bringing changes in agriculture and industry
c.	Economic Reforms in China	iii.	Aimed at nationalisation of capital good industries
d.	Establishment of People's Republic of China	iv.	All critical sectors were brought under government control

Options:
(A) a-i (B) b-ii
(C) c-iii (D) d-iv
Ans. (D) d-iv **1**

26.	Indian producers were protected against foreign competition which did not give them the incentive to improve the quality of goods that they produced. Identify the policy referred to: (Choose the correct option) (A) Industrial Policy Resolution, 1948 (B) Policy to promote small-scale industries (C) Import substitution policy (D) Licencing policy **Ans. (C) Import substitution policy**	**1**
27.	In a hypothetical country, if the worker-population ratio is 30 and total number of workers is 1500, its total population will be _____. (Choose the correct option to fill in the blank) (A) 50 (B) 450 (C) 5,000 (D) 50,000 **Ans. (C) 5,000**	**1**
28.	"India and Pakistan followed similar developmental strategies for their own development paths." Do you agree with the given statement? Justify your answer with a relevant explanation. **Ans. Yes. The similar developmental strategies adopted by both India and Pakistan are:** • **They followed the path of mixed economic system involving the public as well as the private sector.** • **They adopted import substitution policy in order to protect their domestic industries from foreign competition.** **(Any other valid strategy to be awarded marks)**	**1 ½** **1 ½** **3**
29. (a)	"Sustainable development aims at promoting development that minimises environmental problems and meets the needs of the present generation without compromising the ability of future generations to meet their own needs." Justify the above statement with valid arguments. **Ans. Sustainable development ensures that needs of the present generation are met without compromising the ability of future generations to meet their own needs. It minimizes the environmental problems by promoting sustainable strategies like use of solar power etc. It also emphasises on equitable distribution of resources to meet the basic needs of all, ensuring a better quality of life. Thus, it maintains a balance between economic growth, environmental protection and inter-generational equity.** **(To be marked as a whole)**	**3**
	OR	
(b)	"While human capital is a means to an end, human development is an end in itself." Elaborate the above statement, highlighting the difference between the two concepts with the help of suitable examples. **Ans. Human capital treats human beings as a means to an end; the end being the increase in productivity. For example, any investment in education and health is considered to be unproductive if it does not enhance output of goods and services.** **Whereas;** **In the human development perspective, human beings are ends in themselves. Human welfare should be increased through investments in education and health, even if these do not increase labour productivity. For example, basic education and health are important in themselves, irrespective of their contribution to labour productivity.**	**1 ½** **1 ½** **3**

30. Read the table given below carefully:

Annual Growth of Gross Domestic Product (%), 1980 – 2017

Country	1980-90	2015-2017
India	5.7	7.3
China	10.3	6.8
Pakistan	6.3	5.3

Elaborate the reasons behind the decline in the growth rate of Gross Domestic Product of Pakistan over the given period of time.

Ans. Pakistan's GDP growth rate declined from 6.3% during 1980-90 to 5.3% during 2015-17. Some scholars consider the reform processes introduced in Pakistan and prolonged political instability behind the declining growth rate in Pakistan. In addition, agricultural growth and food production remained largely dependent on favourable weather conditions rather than sustained technological progress. Excessive dependence on remittances and foreign aid further constrained the Pakistan's economic growth.

(To be marked as a whole) — **4**

31. (a) "Before 1991, the Indian Banking sector was dominated by Public Sector Banks, regulated and controlled by the Reserve Bank of India."

Discuss the reforms undertaken by the Indian government in the year 1991 to improve the banking system.

Ans. The New Economic Policy, 1991 brought significant reforms in the banking sector. The role of the Reserve Bank of India (RBI) changed from a regulator to a facilitator, providing banks with greater autonomy. The reforms allowed the establishment of Indian and foreign private sector banks. The foreign investment limit in banks was raised to around 74%. Further, banks meeting prescribed conditions were permitted to open new branches and rationalise their existing branch network without prior approval of the RBI, improving efficiency and expanding banking services.

(To be marked as a whole) — **4**

OR

(b) "The enforcement of land ceiling laws in India faced numerous challenges which restricted their success."

Do you agree with the given statement? Give a valid explanation in support of your answer.

Ans. Yes. The implementation of land ceiling laws faced several challenges. Many former zamindars exploited legal loopholes to retain large landholdings by evicting tenants and claiming to be self-cultivators. They also delayed the implementation of the laws by challenging them in courts and transferred land to the names of close relatives. Consequently, creating hindrances in the successful implementation of land ceiling reforms. **(To be marked as a whole)** — **4**

32.



Answer the following questions on the basis of the above image:

(a) Which category of workers enjoys a greater proportion of the total workforce in both rural and urban areas?

	Ans. The Self-employed category in rural areas (58%) and regular salaried employees in urban areas (47%) enjoys the largest proportion of the total workforce. (b) Discuss any two reasons behind this pattern. **Ans. Two reasons behind this pattern:** • **In rural areas, the share of self-employed workers is higher because majority of those depending on farming own plots of land and cultivate independently.** • **In urban areas, the number of enterprises is much higher compared to rural areas. These enterprises require workers on a regular basis. Therefore, a relatively larger proportion of workers are employed as regular salaried employees.** **(Any other valid reason to be awarded marks)**	**1** **1 ½** **1 ½** **4**
	*Note: The following question is for the **Visually Impaired Candidates** only in lieu of Q.No. **32**.* Discuss any two reasons behind the pattern of distribution of workers in rural and urban areas with respect to the following categories: (a) Self-employed (b) Regular salaried employees **Ans. Two reasons behind the pattern of distribution of workers in rural and urban areas:** **(a) In rural areas, the share of self-employed workers is higher because majority of those depending on farming own plots of land and cultivate independently.** **(b) In urban areas, regular salaried employees enjoy the largest proportion of the total workforce. The number of enterprises is much higher compared to rural areas. These enterprises require workers on a regular basis. Therefore, a relatively larger proportion of workers are employed as regular salaried employees.** **(Any other valid reason to be awarded marks)**	**2** **2** **4**
33.	Read the following text carefully: India's floriculture industry has grown into a high-performing sector, earning its status as a "sunrise industry" with a 100 per cent export orientation. Driven by a growing global demand for flowers, floriculture has evolved into a key commercial venture within the agriculture sector. Commercial floriculture is particularly lucrative, offering higher returns per unit area than many traditional field crops. Production of flowers witnessed more profitability compared to cereals, pulses, vegetables and oilseeds. With subsidy support and crop loan financing, it is a promising venture for marginal and small landholdings, which constitute more than 96 per cent of the total landholdings and 63 per cent of the area of cultivation under floriculture. In FY24, approximately 297 thousand hectares were dedicated to floriculture. During the same period, India exported 19,678 metric tonnes of floriculture products, earning ₹ 717.83 crore (USD 86.63 million). Key export destinations included the USA, the Netherlands, the UAE, the UK, Canada and Malaysia. On the basis of the given text and common understanding related to economics, answer the following questions: (i) Why is floriculture essential for providing a sustainable livelihood for the farmers? **Ans. Floriculture provides a sustainable livelihood as it offers higher returns per unit area than crops such as cereals, pulses, vegetables and oilseeds. It has emerged as a highly profitable commercial venture due to the growing global demand for flowers and India's 100% export-oriented floriculture industry, creating better income and employment opportunities for farmers. (To be marked as a whole)**	**3**

	(ii) Explain any two ways in which the government can extend help to the small and marginal farmers. **Ans. The government can support small and marginal farmers by:** • **providing subsidies to reduce the cost of cultivation and encourage floriculture.** **1 ½** • **extending crop loan financing at affordable rates to help farmers invest in production and expand their cultivation.** **1 ½** **(Any other valid way to be awarded marks)**	**6**
34. (a)	(i) As the Disinvestment Commission has observed, "the essence of a long-term disinvestment strategy should be not only to enhance budgetary receipts, but also minimise budgetary support towards unprofitable units. Also, it must ensure the long-term viability and sustainable levels of employment in such units." (I) Identify the sector, whose disinvestment is being referred to in the statement. **Ans. Public sector is being referred to in the aforesaid statement.** **1** (II) Justify this disinvestment strategy adopted by the Indian Government. **Ans. The disinvestment strategy was adopted by the Indian Government, to reduce the fiscal burden by privatizing loss-incurring Public Sector Undertakings (PSUs). It also, aimed at improving efficiency, financial discipline and modernization. This strategy ensured the long-term viability of PSUs and attract greater Foreign Direct Investment (FDI).** **2** (ii) "Agricultural stagnation in colonial India was not only due to the use of backward techniques of production, but also a result of exploitative land settlement systems and policies adopted by the British." Defend or refute this statement giving valid arguments. **Ans. The given statement is defended. Agricultural stagnation in colonial India resulted not only from the use of backward production techniques, lack of irrigation and low levels of technology, but also from exploitative land settlement systems like the Zamindari System. Under this system Zamindars collected rent, irrespective of the economic conditions of the cultivators, adding to their plight.** **3** **(To be marked as a whole)**	
	OR	**6**
(b)	(i) **"**In the 1950s, excessive government regulation prevented the growth of entrepreneurship.'' Do you agree with the given statement? Give a valid explanation in support of your answer. **Ans. Yes. Excessive government regulation under the permit license raj restricted the growth of entrepreneurship. Industrial licensing limited the expansion of firms, while import restrictions reduced competition and innovation. As a result, producers had little incentive to improve efficiency, quality or adopt modern technology, thereby hindering industrial growth.** **3** **(To be marked as a whole)** (ii) ''The tax reductions in the reform period have not resulted in an increase in tax revenue.'' Justify the given statement with a valid explanation. **Ans. During the reform period, tax rates were reduced with the objective of yielding larger revenue and curb tax evasion. However, it did not result in an increase in tax revenue for the government. Furthermore, reform policies involving tariff reduction and to attract foreign investors, have curtailed the scope for raising tax revenue which adversely impacted developmental and welfare expenditures.** **3** **(To be marked as a whole)**	
	(Any other valid explanation to be awarded marks)	**6**

* * *

अंक-योजना

अत्यंत गोपनीय

(केवल आंतरिक और प्रतिबंधित उपयोग के लिए)

वरिष्ठ माध्यमिक विद्यालय प्रमाणपत्र पूरक परीक्षा, **2026 (Supplementary Exam.)**

विषय- अर्थशास्त्र (**030**)

(प्रश्न-पत्र कोड **- 58/7/2)**

सामान्य निर्देश:-

1	आप जानते ही हैं कि परीक्षार्थियों के वास्तविक और सही मूल्यांकन में 'मूल्यांकन' सबसे महत्त्वपूर्ण प्रक्रिया है। मूल्यांकन में एक छोटी-सी गलती भी गंभीर समस्याओं का कारण बन सकती है, जिसका प्रभाव परीक्षार्थियों के भविष्य, शिक्षा-प्रणाली और शिक्षण पर पड़ सकता है। आपसे अनुरोध है कि गलतियों से बचने के लिए मूल्यांकन शुरू करने से पहले 'मूल्यांकन दिशा-निर्देशों' को ध्यान से **अवश्य** पढ़ें, समझें और मूल्यांकन करते समय उनका पालन **अवश्य** करें।
2	"मूल्यांकन एक गोपनीय नीति है क्योंकि यह आयोजित परीक्षाओं, किए गए मूल्यांकन और कई अन्य पहलुओं की गोपनीयता से संबंधित है। किसी भी तरह से इसे सार्वजनिक करने से परीक्षा-प्रणाली पटरी से उतर सकती है और लाखों परीक्षार्थियों के जीवन और भविष्य को प्रभावित कर सकती है। इस नीति/दस्तावेज को किसी से भी साझा करना, किसी पत्रिका में प्रकाशित करना और समाचार पत्र/वेबसाइट में छापना आदि बोर्ड और आईपीसी के विभिन्न नियमों के अंतर्गत कार्यवाही को आमंत्रित कर सकता है।"
3	मूल्यांकन अंक-योजना में दिए गए निर्देशों के अनुसार किया जाना चाहिए। इसे किसी की अपनी व्याख्या या किसी अन्य विचार के अनुसार नहीं किया जाना चाहिए। अंक-योजना का सख्ती से पूरी तरह पालन किया जाना चाहिए। मूल्यांकन करते समय, जो उत्तर नवीनतम जानकारी या ज्ञान पर आधारित हैं, उनका सत्यता एवं प्रासंगिकता के आधार पर मूल्यांकन किया जाए। योग्यता-आधारित प्रश्नों का मूल्यांकन करते समय दिए गए उत्तर को समझने का प्रयास करें और उचित अभिव्यक्ति पर उचित अंक दें।
4	अंक-योजना में उत्तरों के लिए केवल सुझावात्मक बिंदु दिए गए हैं। ये केवल दिशा-निर्देश हैं।
5	प्रधान परीक्षक को पहले दिन प्रत्येक मूल्यांकनकर्त्ता द्वारा मूल्यांकित पहली पाँच उत्तर पुस्तिकाओं का पुनरावलोकन अवश्य करना चाहिए, जिससे यह सुनिश्चित हो सके कि मूल्यांकन अंक-योजना में दिए गए निर्देशों के अनुसार किया गया है। यदि मूल्यांकन में कोई भिन्नता है तो विचार-विमर्श और चर्चा के बाद उसे दूर किया जाना चाहिए। मूल्यांकन के लिए शेष उत्तर पुस्तिकाएँ यह सुनिश्चित करने के बाद ही दी जाएँ।
6	मूल्यांकनकर्त्ता उत्तर सही होने पर सही (✓) का निशान लगाएँ, गलत उत्तर के लिए क्रॉस (**X**) का निशान लगाएँ। मूल्यांकन करते समय सही (✓) का निशान नहीं लगाने पर भ्रम की स्थिति उत्पन्न होती है और यह आभास होता है कि उत्तर सही है और कोई अंक नहीं दिया गया।
7	यदि किसी प्रश्न में उपभाग हैं तो प्रत्येक उपभाग के लिए दाईं ओर बिना घेरा लगाए अंक दें। प्रश्न के विभिन्न उपभागों पर दिए गए अंकों को जोड़कर बाएं हाथ के हाशिए में प्रश्न संख्या के समीप लिखकर घेरा लगाएँ। इसका सख्ती से पालन किया जाना चाहिए।
8	यदि किसी प्रश्न में कोई उपभाग नहीं है तो बाईं ओर हाशिये में प्रश्न संख्या के समीप अंक दिए जाने चाहिए और घेरा लगाया जाना चाहिए।

9	यदि किसी परीक्षार्थी ने अतिरिक्त प्रश्न का उत्तर लिखा है तो अधिक अंक पाने वाले प्रश्न के उत्तर को ही स्वीकार किया जाना चाहिए तथा अन्य उत्तर पर 'अतिरिक्त प्रश्न' लिखकर काट दिया जाना चाहिए।
10	वर्तनी सम्बन्धी एक ही अशुद्धि के लिए बार-बार अंक न काटा जाए।
11	अंकों के पूरे पैमाने 0 से 80 अंक का उपयोग किया जाए। यथोचित उत्तर पर पूरे अंक देने में संकोच न करें।
12	प्रत्येक परीक्षक को अनिवार्य रूप से पूरे कार्यसमय अर्थात प्रतिदिन 8 घंटे मूल्यांकन कार्य करना होगा तथा मुख्य विषयों में प्रतिदिन 20 उत्तर पुस्तिकाओं तथा अन्य विषयों में प्रतिदिन 25 उत्तर पुस्तिकाओं का मूल्यांकन करना होगा (विवरण दिशा-निर्देशों में दिया गया है)। यह पाठ्यक्रम में कमी तथा प्रश्न-पत्र में प्रश्नों की संख्या को ध्यान में रखते हुए किया गया है।
13	सुनिश्चित करें कि आप परीक्षक द्वारा अतीत में की गई निम्नलिखित सामान्य प्रकार की गलतियाँ न करें:- ● उत्तर पुस्तिका में उत्तर या उपभाग को बिना मूल्यांकन के छोड़ देना ● किसी उत्तर के लिए निर्धारित अंकों से अधिक अंक देना ● उत्तर पर दिए गए अंकों का गलत योग ● उत्तर पुस्तिका के अंदर के पृष्ठों से मुखपृष्ठ पर अंकों का गलत अंकन ● मुखपृष्ठ पर प्रश्न के अनुसार अंकों का गलत योग ● मुखपृष्ठ पर दो स्तंभों के अंकों का गलत योग ● गलत कुल योग ● शब्दों और अंकों में लिखे कुल योग का समान न होना ● उत्तर पुस्तिका से ऑनलाइन अंकतालिका में अंकों का गलत अंकन ● उत्तरों को सही के रूप में चिह्नित किया जाना लेकिन अंक न दिया जाना ● उत्तर का आधा या एक हिस्सा सही और बाकी को गलत चिह्नित करना लेकिन कोई अंक न देना
14	उत्तरपुस्तिकाओं के मूल्यांकन के समय यदि उत्तर पूर्णतः गलत पाया जाए तो उस पर क्रॉस (X) का निशान लगाकर शून्य (0) अंक दिया जाना चाहिए।
15	मूल्यांकन न किया गया कोई भी भाग, मुखपृष्ठ पर अंकन न होना या बाद में प्रकट हुई कोई भी त्रुटि मूल्यांकन कार्य में लगे सभी कर्मियों और बोर्ड की प्रतिष्ठा को नुकसान पहुँचाएगी इसलिए सभी संबंधितों की प्रतिष्ठा को बनाए रखने के लिए यह फिर से दोहराया जाता है कि निर्देशों का सावधानीपूर्वक और विवेकपूर्ण तरीके से पालन किया जाना चाहिए।
16	परीक्षकों को वास्तविक मूल्यांकन शुरू करने से पहले मूल्यांकन के लिए दिए गए दिशानिर्देशों से परिचित होना चाहिए।
17	प्रत्येक परीक्षक यह भी सुनिश्चित करेगा कि सभी उत्तरों का मूल्यांकन किया गया है, अंक मुखपृष्ठ पर अंकित किए गए हैं, अंकों का सही योग किया गया है तथा कुल योग को मुखपृष्ठ और लिखे गए अंतिम पृष्ठ पर अंकों और शब्दों में सही लिखा गया है।
18	परीक्षार्थी निर्धारित प्रोसेसिंग फीस का भुगतान करके अनुरोध पर उत्तर पुस्तिका की फोटोकॉपी प्राप्त करने के हकदार हैं। सभी परीक्षकों/अतिरिक्त प्रधान परीक्षकों/प्रधान परीक्षकों को एक बार फिर याद दिलाया जाता है कि उन्हें यह सुनिश्चित करना होगा कि मूल्यांकन प्रत्येक उत्तर के लिए अंकयोजना में दिए गए मूल्य बिंदुओं के अनुसार सख्ती से किया गया है।

अंकन योजना हिन्दी माध्यम
सीनियर स्कूल सर्टिफिकेट परीक्षा (पूरक), जुलाई 2026
अर्थशास्त्र (विषय कोड – 030)
[प्रश्न-पत्र कोड : 58/7/2]

अधिकतम अंक : 80

प्र.सं	अपेक्षित उत्तर/मूल्य बिंदु	अंक
	खण्ड - क **समष्टि अर्थशास्त्र**	
1.	भारत के भुगतान संतुलन (BoP) के पूँजी खाते में दर्ज किए जाने वाले लेनदेन की पहचान कीजिए : (सही विकल्प का चयन कीजिए) (i) भारतीय निवासियों द्वारा दुबई में संपत्तियों का क्रय (ii) अंतर्राष्ट्रीय बैंकों से भारतीय फर्मों को प्राप्त ऋण (iii) विदेशों में कार्यरत भारतीयों द्वारा प्रेषण (iv) भारत सरकार द्वारा IMF को बकाया ऋणों का भुगतान **विकल्प** : (A) (i) और (iii) (B) केवल (iii) (C) (ii) और (iii) (D) (i), (ii) और (iv) **उत्तर: (D) (i), (ii) और (iv)**	**1**
2.	अयान एक परिवहन कम्पनी का मालिक है तथा वर्ष 2024 - 25 में उसने सभी वाहनों की मरम्मत पर ₹30,000 व्यय किए। भारत की राष्ट्रीय आय का आकलन करते समय इसे _____ व्यय के रूप में वर्गीकृत किया जाएगा। (रिक्त स्थान की पूर्ति के लिए सही विकल्प का चयन कीजिए) (A) मध्यवर्ती (B) उपभोग (C) निवेश (D) अंतिम **उत्तर: (A) मध्यवर्ती**	**1**
3.	कीन्स के सिद्धांत के अंतर्गत, 'संदर्भ रेखा' मूल-बिन्दु से जाती हुई सीधी रेखा है जो कि _____ का कोण बनाती है। (रिक्त स्थान की पूर्ति के लिए सही विकल्प का चयन कीजिए) (A) 25° (B) 45° (C) 55° (D) 75° **उत्तर: (B) 45°**	**1**
4.	निम्नलिखित कथनों का ध्यानपूर्वक अध्ययन कीजिए: *कथन I :* स्टॉक चर किसी विशेष समय पर मापनीय होते हैं। *कथन II:* किसी निश्चित समयावधि में किसी भी स्टॉक चर में परिवर्तन प्रवाह चर होता है। दिए गए कथनों के आलोक में, निम्नलिखित में से सही विकल्प का चयन कीजिए: (A) कथन I और II दोनों सत्य हैं। (B) कथन I और II दोनों असत्य हैं। (C) कथन 1 सत्य है, परन्तु कथन II असत्य है। (D) कथन I असत्य है, परन्तु कथन II सत्य है। **उत्तर: (A) कथन I और II दोनों सत्य हैं।**	**1**
5.	मान लीजिए कि भारतीय रिजर्व बैंक (RBI) आरक्षित (रिज़र्व) अनुपात को 10% के बराबर रखने का निश्चय करता है। कुल सृजित जमा, प्रारंभिक जमा का _____ गुना होगी। (रिक्त स्थान की पूर्ति के लिए सही विकल्प का चयन कीजिए) (A) ∞ (अनंत) (B) 1 (इकाई) (C) 0 (शून्य) (D) 10 (दस) **उत्तर: (D) 10 (दस)**	**1**
6.	निम्नलिखित कथनों: अभिकथन (A) और कारण (R) का अध्ययन कीजिए। नीचे दिए गए विकल्पों में से सही विकल्प का चयन कीजिए: *अभिकथन (A):* पूँजीगत खाता संतुलन में होता है, जब पूँजी अंतःप्रवाह पूँजी बाह्य प्रवाह के बराबर होती है। *कारण (R):* स्वायत्त पूँजीगत प्रवाह परिसम्पत्तियों में कमी तथा देनदारियों में वृद्धि को दर्शाते हैं।	

	विकल्प : (A) अभिकथन (A) और कारण (R) दोनों सत्य हैं और कारण (R), अभिकथन (A) की सही व्याख्या करता है। (B) अभिकथन (A) और कारण (R) दोनों सत्य हैं, परंतु कारण (R), अभिकथन (A) की सही व्याख्या नहीं करता है। (C) अभिकथन (A) सत्य है, परंतु कारण (R) असत्य है। (D) अभिकथन (A) असत्य है, परंतु कारण (R) सत्य है। **उत्तर: (B) अभिकथन (A) और कारण (R) दोनों सत्य हैं, परंतु कारण (R), अभिकथन (A) की सही व्याख्या नहीं करता है।**	**1**
7.	"विगत कुछ समयावधि में, भारतीय रिजर्व बैंक ने रेपो दर (RR) में कटौती की है।" इस नीतिगत परिवर्तन के पीछे भारतीय रिजर्व बैंक (RBI) का सबसे संभावित उद्देश्य ऋण प्राप्त करने की लागत में _____ करना तथा अर्थव्यवस्था में तरलता में _____ करना है। (रिक्त स्थानों की पूर्ति के लिए सही विकल्प का चयन कीजिए) (A) कमी, कमी (B) वृद्धि, वृद्धि (C) कमी, वृद्धि (D) वृद्धि, कमी **उत्तर: (C) कमी, वृद्धि**	**1**
8.	दिए गए चित्र के संदर्भ में आय के किस स्तर पर औसत बचत प्रवृत्ति (APS) का मान शून्य होगा ? (सही विकल्प का चयन कीजिए) 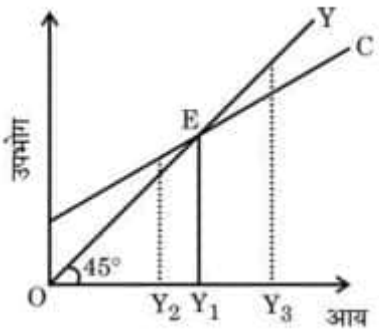 विकल्प : (A) स्तर O पर (B) स्तर OY_1 पर (C) स्तर OY_2 पर (D) स्तर OY_3 पर **उत्तर : (B) स्तर OY_1 पर** *नोट : निम्नलिखित प्रश्न केवल **दृष्टिबाधित परीक्षार्थियों** के लिए प्रश्न संख्या **8** के स्थान पर है।* आय के सम-स्तर (break-even level) पर, उपभोग फलन की ढलान _____ के बराबर होगी। (रिक्त स्थान की पूर्ति के लिए सही विकल्प का चयन कीजिए) (A) औसत बचत प्रवृत्ति (APS) (B) औसत उपभोग प्रवृत्ति (APC) (C) सीमांत बचत प्रवृत्ति (MPS) (D) सीमांत उपभोग प्रवृत्ति (MPC) **उत्तर: (D) सीमांत उपभोग प्रवृत्ति (MPC)**	**1** **1**
9.	पहचान कीजिए कि निम्नलिखित में से कौन-सा विकल्प आय विधि द्वारा राष्ट्रीय आय का आकलन करते हुए सम्मिलित होगा। (सही विकल्प का चयन कीजिए) (A) आकस्मिक लाभ (B) पूँजीगत हानि (C) मिश्रित आय (D) हस्तांतरण आय **उत्तर: (C) मिश्रित आय**	**1**
10.	"अनिल ने ₹ 30 लाख की लागत से एक मकान का क्रय किया। इसके लिए उसने बैंक से ऋण प्राप्त किया, जिसका भुगतान 25 वर्षों की निश्चित मासिक किश्तों में करने के लिए वह सहमत हुआ।" उपर्युक्त स्थिति में मुद्रा के कार्य की पहचान कीजिए। (सही विकल्प का चयन कीजिए) (A) विनिमय का माध्यम (B) स्थगित भुगतान का मानक (C) विनिमय का माध्यम तथा स्थगित भुगतान का मानक (D) मूल्य का भंडार **उत्तर: (C) विनिमय का माध्यम तथा स्थगित भुगतान का मानक**	**1**

11. (क) किसी काल्पनिक अर्थव्यवस्था के निम्नलिखित आँकड़ों द्वारा, राष्ट्रीय आय (NNP_{FC}) के मान की गणना कीजिए:

क्र. सं.	मदें	राशि (₹ करोड़ में)
(i)	स्वनियोजितों की मिश्रित आय	550
(ii)	विदेशों से प्राप्त शुद्ध कारक आय	(-) 50
(iii)	किराया	150
(iv)	स्थिर / स्थायी पूँजी का उपभोग	40
(v)	कर उपरांत लाभ	250
(vi)	मजदूरी एवं वेतन	1700
(vii)	शुद्ध अप्रत्यक्ष कर	50
(viii)	निगम कर	150
(ix)	लाभांश	50
(x)	शुद्ध निर्यात	(-) 40
(xi)	ब्याज	350
(xii)	नियोक्ता द्वारा सामाजिक सुरक्षा योगदान	80

उत्तर: राष्ट्रीय आय (NNP_{FC}) = (vi) + (xii) + (iii) + (xi) + (viii) + (v) + (i) + (ii) — **1 ½**

= 1700 + 80 + 150 + 350 + 150 + 250 + 550 + (-50) — **1**

= ₹ 3,180 करोड़ — **½**

अथवा — **3**

(ख) मान्य कारणों द्वारा समझाइए कि भारत की घरेलू आय का अनुमान लगाते समय निम्नलिखित को किस प्रकार व्यवहार में लाया जाएगा :

(i) एक भारतीय निवासी द्वारा अमेरिकी कम्पनी के शेयरों में निवेश से प्राप्त लाभांश

उत्तर: एक भारतीय निवासी द्वारा किसी अमेरिकी कंपनी के शेयरों से प्राप्त लाभांश को भारत की घरेलू आय के अनुमान में सम्मिलित नहीं किया जाएगा। यह भारत की घरेलू सीमा के बाहर से अर्जित आय है। — **1 ½**

(किसी अन्य प्रासंगिक कारण सहित उत्तर के लिए अंक प्रदान किए जाएँ)

(ii) एक कृषक द्वारा अपने परिवार द्वारा उपभोग हेतु रखा गया एक क्विंटल चावल

उत्तर: एक क्विंटल चावल जिसे किसान ने अपने परिवार के उपभोग (स्व-उपभोग) के लिए अलग रखा है, उसे घरेलू आय के अनुमान में शामिल किया जाएगा, क्योंकि यह उत्पादन के मूल्य का एक भाग है। — **1 ½**

3

12. "भारतीय रिजर्व बैंक (RBI) नकद आरक्षित अनुपात (CRR) को चरणबद्ध तरीके से 4% से 3% तक लाने की योजना का कार्यान्वयन कर रहा है।"

दी गई जानकारी के आलोक में, साख विस्तार को प्रोत्साहित करने हेतु भारतीय रिज़र्व बैंक (RBI) की नीतिगत पहल के पीछे के तर्क की व्याख्या कीजिए।

उत्तर: भारतीय रिज़र्व बैंक (RBI) द्वारा नकद आरक्षित अनुपात (CRR) को 4% से घटाकर 3% करने से वाणिज्यिक बैंकों द्वारा रखी जाने वाली आरक्षित निधि की मात्रा में कमी आती है। इससे वाणिज्यिक बैंकों की ऋण देने की क्षमता में वृद्धि होती है, जिससे अर्थव्यवस्था में ऋण की उपलब्धता में वृद्धि होती है। परिणामस्वरूप, साख विस्तार को प्रोत्साहन मिलता है। — **3**

(पूरे उत्तर को एक साथ अंकित किया जाए)

13. (क) एक गृहस्थ एवं एक टैक्सी चालक ने किसी कार विक्रेता से एक-एक कार का क्रय किया।

पहचानिए कि यह दोनों किस वस्तु श्रेणी में आते हैं। समझाइए कि, ये दोनों किस प्रकार एक दूसरे से भिन्न हैं।

उत्तर: किसी कार डीलर से गृहस्थ/टैक्सी चालक द्वारा खरीदी गई कार को अंतिम वस्तु के रूप में श्रेणीगत किया जा सकता है। — **1**

गृहस्थ द्वारा खरीदी गई कार को उपभोक्ता वस्तु के रूप में वर्गीकृत किया जा सकता है क्योंकि इसका उपयोग अंतिम उपयोगकर्ता की आवश्यकताओं को सीधे संतुष्ट करने के लिए किया जाता है। — **1 ½**

दूसरी ओर, टैक्सी चालक द्वारा खरीदी गई कार पूँजीगत वस्तु है क्योंकि इसका उपयोग निवेश के उद्देश्य से किया जाता है। इसका प्रयोग भविष्य में सेवाओं के उत्पादन के लिए किया जाता है और इसका उसी वर्ष पूर्णतया उपभोग नहीं होता है। — **1 ½**

अथवा — **4**

(ख) "यदि किसी राष्ट्र के सकल घरेलू उत्पाद में वृद्धि हो रही है, तो इसका तात्पर्य यह नहीं है कि, जन-कल्याण में भी वृद्धि हो रही है।"

मान्य व्याख्या द्वारा उपर्युक्त कथन का समर्थन अथवा खंडन कीजिए।

	उत्तर: दिए गए कथन का समर्थन किया जाता है। सकल घरेलू उत्पाद (GDP) में वृद्धि के साथ कुछ हानिकारक प्रभाव (ऋणात्मक बाह्यताएँ) जैसे प्रदूषण, पर्यावरणीय क्षरण आदि हो सकते हैं। ऐसी ऋणात्मक बाह्यताएँ लोगों के कल्याण को कम करती हैं। **सकल घरेलू उत्पाद में इन हानिकारक प्रभावों को ध्यान में रखे बिना उत्पादित अंतिम वस्तुओं और सेवाओं के मूल्य को शामिल किया जाता है। इसलिए, लोगों के कल्याण में किसी समान वृद्धि के बिना भी GDP में वृद्धि हो सकती है।** **(पूरे उत्तर को एक साथ अंकित किया जाए)** **(अन्य कोई प्रासंगिक घटक के लिए भी अंक प्रदान किए जाए)**	**4**
14.	अमेरिकी डॉलर (US $) की तुलना में भारतीय रुपये की विनिमय दरें 5 सितम्बर, 2025 को ₹88.325 के उच्चतम स्तर एवं 2 सितम्बर, 2025 के ₹87.899 के निम्नतर स्तर में परिवर्तित होती रही हैं। विनिमय दरों की इस अस्थिरता के आलोक में, सभी अन्य कारकों को अपरिवर्तित मानते हुए, भारत के आयात व निर्यात पर पड़ने वाले संभावित प्रभाव का विश्लेषण कीजिए। **उत्तर: विनिमय दर में ₹ 87.899 से बढ़कर ₹ 88.325 प्रति अमेरिकी डॉलर (US $) होना दर्शाता है कि भारतीय रूपए में (₹) मूल्यह्रास हुआ है। अन्य सभी कारकों को स्थिर मानते हुए, इससे निर्यात को प्रोत्साहन मिलेगा, क्योंकि विदेशी खरीदारों के लिए भारतीय वस्तुएँ तुलनात्मक रूप से सस्ती हो जाएँगी।** **इसके विपरीत, आयात महँगे हो जाएँगे क्योंकि एक अमेरिकी डॉलर खरीदने के लिए भारतीय रूपए की अधिक इकाइयों की आवश्यकता होगी, जिससे आयात में कमी आएगी। अतः, भारतीय रुपये का मूल्यह्रास निर्यात को प्रोत्साहन देने तथाआयात को हतोत्साहित करने की संभावना रखता है।**	**2** **2** **4**
15.	(क) 'सकल निवेश' के अर्थ का उल्लेख कीजिए। **उत्तर: सकल निवेश से तात्पर्य पूँजीगत स्टॉक में वृद्धि से है, जिसमें पूँजीगत स्टॉक में होने वाली टूट-फूट की पूर्ति के लिए किया गया प्रतिस्थापन भी शामिल होता है।** (ख) यदि नियोजित बचत नियोजित निवेश से अधिक हो तो, अर्थव्यवस्था में संतुलन बहाल करने के लिए समायोजन तंत्र की व्याख्या कीजिए। **उत्तर: जब नियोजित बचत, नियोजित निवेश से अधिक होती है, तो इसका अर्थ है कि फर्में जितना उत्पादन करने की योजना बना रही हैं, गृहस्थ उससे कम उपभोग करने की योजना बना रहे हैं। इससे माल-सूची का अनैच्छिक संचय होगा। माल-सूची को वांछित स्तर पर वापस लाने के लिए, उत्पादक अर्थव्यवस्था में उत्पादन को कम करने का निर्णय ले सकते हैं। यह समायोजन तंत्र तब तक जारी रहेगा, जब तक उत्पादन का संतुलन स्तर पुनः स्थापित नहीं हो जाता।** **(पूरे उत्तर को एक साथ अंकित किया जाए)**	**1** **3** **4**
16.	निम्नलिखित गद्य का ध्यानपूर्वक अध्ययन कीजिए : संघीय सरकार के बजट दस्तावेज़ के अनुसार, भारत अगले वित्तीय वर्ष में खाद्य, उर्वरक एवं ग्रामीण रोज़गार योजनाओं के उपदानों पर ₹4.57 ट्रिलियन ($ 52.81 बिलियन) व्यय करेगा। संघीय सरकार ने अपने संशोधित अनुमानों के अनुसार, 31 मार्च को समाप्त होने वाले चालू वित्त वर्ष के लिए तीनों प्रकार के उपदान पर ₹4.54 ट्रिलियन का सामूहिक व्यय निर्धारित किया है। सरकार के प्रमुख ग्रामीण रोज़गार गारंटी कार्यक्रम का आबंटन को ₹860 अरब पर बरकरार रखा गया है, जबकि उर्वरकों के लिए आबंटन 2024-25 के संशोधित अनुमान ₹1.71 ट्रिलियन से मामूली रूप से घटाकर ₹1.67 ट्रिलियन कर दिया गया है। राष्ट्र ने आगामी वित्त वर्ष के लिए खाद्य उपदान का बजट ₹2.03 ट्रिलियन रखा है, जो कि चालू वित्त वर्ष के लिए ₹1.97 ट्रिलियन के संशोधित अनुमान से कुछ अधिक है। उपर्युक्त गद्य तथा अर्थशास्त्र संबंधी सामान्य ज्ञान के आधार पर, निम्नलिखित प्रश्नों के उत्तर दीजिए: (i) गद्य में इंगित सरकारी बजट के उद्देश्य की व्याख्या कीजिए। **उत्तर: उपर्युक्त गद्य में इंगित सरकारी बजट का उद्देश्य आबंटन कार्य (Allocation Function) है। खाद्य एवं उर्वरक उपदान तथा ग्रामीण रोज़गार योजनाओं के लिए पर्याप्त धनराशि आवंटित करने का सरकार का उद्देश्य आर्थिक विकास के लिए संसाधनों को प्राथमिकता वाले क्षेत्रों की ओर पुनर्निर्देशित करना है।** **(पूरे उत्तर को एक साथ अंकित किया जाए)** (ii) बजटीय व्यय की उस श्रेणी की पहचान कीजिए जिसमें उपदान सम्मिलित होते हैं तथा अपने उत्तर के समर्थन में कारण स्पष्ट कीजिए। **उत्तर: उपदान पर किया गया बजटीय व्यय राजस्व व्यय के रूप में वर्गीकृत किया जा सकता है।** **उपदान पर किए गए व्यय को राजस्व व्यय के रूप में वर्गीकृत किया जा सकता है क्योंकि यह न तो परिसंपत्तियों का निर्माण करता है और न ही सरकार की देनदारियों को कम करता है।**	**3** **1** **2** **6**
17. (क)	(i) "मान लीजिए कि किसी अर्थव्यवस्था में निवेश व्यय में हुई वृद्धि से राष्ट्रीय आय में पाँच गुना वृद्धि दर्ज की गई थी।" यदि आय में परिवर्तन ₹ 2,000 करोड़ था तो निवेश व्यय में वृद्धि की गणना कीजिए। **उत्तर: दिया गया है,** **निवेश गुणांक (k) = 5**	

	आय में परिवर्तन (ΔY) = ₹ 2,000 करोड़ **ΔY = 5 × निवेश में परिवर्तन (ΔI)** **2000 = 5 x ΔI** **निवेश में परिवर्तन (ΔI) = ₹ 400 करोड़** (ii) ऐसे किसी एक राजकोषीय उपाय की व्याख्या कीजिए जिसे किसी राष्ट्र की सरकार द्वारा अर्थव्यवस्था में प्रचलित स्फीति अंतराल को कम करने के उद्देश्य से उठाया जा सकता है। **उत्तर: मुद्रास्फीति की स्थिति को नियंत्रित करने के लिए, सरकार कर की दरों में वृद्धि कर सकती है, जिससे आम जनता के पास प्रयोज्य आय (क्रय शक्ति) कम हो सकती है। परिणामस्वरूप, इससे समग्र माँग में कमी आ सकती है, तथा स्फीति अंतराल को ठीक किया जा सकता है। (पूरे उत्तर को एक साथ अंकित किया जाए)** **(अन्य कोई प्रासंगिक उपाय के लिए भी अंक प्रदान किए जाए)** **अथवा**	**1 ½** **1** **½** **3** **6**
(ख)	(i) एक काल्पनिक अर्थव्यवस्था में, जब भी आय में वृद्धि होती है, तो गृहस्थों की बचत 20% से बढ़ जाती है। उनका उपभोग व्यय, जो आय के स्तर से स्वतंत्र है, ₹ 200 करोड़ है। स्वायत्त निवेश व्यय ₹100 करोड़ है। आय के संतुलन स्तर की गणना कीजिए। **उत्तर:** **दिया गया है, सीमांत बचत प्रवृत्ति (MPS) = 0.2** **आय के स्तर से स्वतंत्र उपभोग ($\bar{C}$) = ₹ 200 करोड़** **स्वायत्त निवेश व्यय (I) = ₹ 100 करोड़** **सीमांत उपभोग प्रवृत्ति = 1 – सीमांत बचत प्रवृत्ति (MPS)** **= 1 – 0.2** **= 0.8** **जैसा कि हम जानते हैं कि, आय के संतुलन स्तर पर; Y = C + I** **Y = $\bar{C}$ + (MPC)Y + I** **Y = 200 + 0.8Y + 100** **Y = ₹ 1,500 करोड़** (ii) केन्द्रीय बैंक ने यह घोषणा की है कि, वह खुले बाज़ार परिचालन के माध्यम से कुल ₹80,000 करोड़ मूल्य की सरकारी प्रतिभूतियों (G-Sec) की नीलामी आयोजित करेगा। उपर्युक्त दी गई सूचना के आलोक में, केन्द्रीय बैंक द्वारा इस प्रकार के मुक्त बाज़ार परिचालन का भारतीय अर्थव्यवस्था की समग्र माँग पर पड़ने वाले प्रभाव का विश्लेषण कीजिए। **उत्तर: केंद्रीय बैंक द्वारा खुले बाजार परिचालन के माध्यम से ₹ 80,000 करोड़ मूल्य की सरकारी प्रतिभूतियों (G-Sec) की प्रस्तावित नीलामी से वाणिज्यिक बैंकों के पास उपलब्ध धनराशि में कमी आएगी। परिणामस्वरूप, वाणिज्यिक बैंकों की ऋण देने की क्षमता में कमी आएगी, जिससे मुद्रा पूर्ति में कमी आएगी, जो कि अर्थव्यवस्था में समग्र माँग को कम कर देगी। (पूरे उत्तर को एक साथ अंकित किया जाए)**	**1** **½** **1** **½** **3** **6**
	खंड – ख **भारतीय आर्थिक विकास**	
18.	निम्नलिखित कथनों का ध्यानपूर्वक अध्ययन कीजिए: *कथन I:* प्रशांता चन्द्र महालनोबिस को भारतीय नियोजन के वास्तुकार के रूप में जाना जाता है। *कथन II:* 1948 की औद्योगिक नीति प्रस्ताव को इस उद्देश्य से अपनाया गया था कि अर्थव्यवस्था में राज्य प्रमुख भूमिका निभा सके। दिए गए कथनों के आलोक में, निम्नलिखित में से सही विकल्प का चयन कीजिए: (A) कथन I और II दोनों सत्य हैं। (B) कथन I और II दोनों असत्य हैं। (C) कथन I सत्य है, परन्तु कथन II असत्य है। (D) कथन I असत्य है, परन्तु कथन II सत्य है। **उत्तर: (C) कथन I सत्य है, परन्तु कथन II असत्य है।**	**1**
19.	हरमन डेली (एक पर्यावरण अर्थशास्त्री) के अनुसार, धारणीय विकास प्राप्त करने के लिए _____। (रिक्त स्थान की पूर्ति के लिए सही विकल्प का चयन कीजिए) (A) मानव जनसंख्या को वहन क्षमता (Carrying capacity) के भीतर सीमित रखा जाना चाहिए (B) तकनीकी प्रगति आगत उपभोगी होनी चाहिए (C) नवीकरणीय संसाधनों का सतत आधार पर दोहन नहीं करना चाहिए (D) गैर-नवीकरणीय संसाधनों की ह्रास की दर उनके प्रतिस्थापन दर से अधिक होनी चाहिए **उत्तर: (A) मानव जनसंख्या को वहन क्षमता (Carrying capacity) के भीतर सीमित रखा जाना चाहिए**	**1**

20.	निम्नलिखित में से सही कथन की पहचान कीजिए: (सही विकल्प का चयन कीजिए) (A) मानव पूँजी मूर्त होती है, जबकि भौतिक पूँजी अमूर्त होती है। (B) मानव पूँजी निर्माण और भौतिक पूँजी एक समान हैं। (C) मानव पूँजी न केवल मालिक को, बल्कि समग्र रूप से समाज को भी लाभ पहुँचाती है। (D) मानव पूँजी और भौतिक पूँजी के मामले में मूल्यह्रास की प्रकृति समान रहती है। **उत्तर: (C) मानव पूँजी न केवल मालिक को, बल्कि समग्र रूप से समाज को भी लाभ पहुँचाती है।**	**1**
21.	निम्नलिखित में से जैविक कृषि की सीमा (limitation) की पहचान कीजिए: (सही विकल्प का चयन कीजिए) (A) स्वास्थ्यवर्धक भोजन (B) अल्प उपभोग अवधि (C) पर्यावरण अनुकूल (D) अल्प उत्पादन लागत **उत्तर: (B) अल्प उपभोग अवधि**	**1**
22.	राघव एक फैक्ट्री का मालिक है, जिसके पास 50 कर्मचारी हैं। उसने पाँच कर्मचारियों को नौकरी से निवृत्त कर दिया तथा यह देखा कि फैक्ट्री का कुल उत्पादन अपरिवर्तित रहा। इस स्थिति को संभवतः _____ रोज़गार के रूप में वर्णित किया जाएगा। (रिक्त स्थान की पूर्ति के लिए सही विकल्प का चयन कीजिए) (A) संरचनात्मक (B) प्रच्छन्न (C) मौसमी (D) घर्षणात्मक **उत्तर: (B) प्रच्छन्न**	**1**
23.	शिक्षा पर भारत सरकार द्वारा किया जाने वाला व्यय _____ के प्रतिशत के रूप में व्यक्त किया जाता है। (रिक्त स्थान की पूर्ति के लिए सही विकल्प का चयन कीजिए) (i) सकल घरेलू उत्पाद (ii) कुल सरकारी व्यय (iii) कुल राज्य व्यय **विकल्प :** (A) (i) और (iii) (B) (i) और (ii) (C) (ii) और (iii) (D) (i), (ii) और (iii) **उत्तर: (B) (i) और (ii)**	**1**
24.	निम्नलिखित में से अस्थायी कर्मचारी का उदाहरण पहचानिए : (सही विकल्प का चयन कीजिए) (A) एक कालीन निर्यातक (B) सरकारी अस्पताल में नियुक्त एक स्थायी नर्स (C) निर्माण स्थल पर कार्यरत एक राजमिस्त्री (Mason) (D) स्व-व्यवसाय चलाने वाला एक स्थानीय दर्जी **उत्तर: (C) निर्माण स्थल पर कार्यरत एक राजमिस्त्री (Mason)**	**1**
25.	कॉलम I में दी गई मदों तथा कॉलम II में दिए गए तथ्यों के समूह में से, सही युग्म का चयन कीजिए:	**1**

	कॉलम I		*कॉलम II*
a.	ग्रेट लीप फारवर्ड	i.	छात्रों व पेशेवरों को ग्रामीण इलाकों में भेजा गया
b.	महान सर्वहारा सांस्कृतिक क्रांति	ii.	कृषि व उद्योगों में परिवर्तन लाने के उद्देश्य हेतु
c.	चीन में आर्थिक सुधार	iii.	पूँजीगत उद्योगों के राष्ट्रीयकरण उद्देश्य हेतु
d.	चीनी जनवादी गणराज्य की स्थापना	iv.	सभी महत्त्वपूर्ण क्षेत्रों को सरकारी नियंत्रण में लाने हेतु

विकल्प :
(A) a-I (B) b-ii
(C) c-iii (D) d-iv
उत्तर: (D) d-iv

26.	भारतीय उत्पादकों को विदेशी प्रतिस्पर्धा से जो सुरक्षा प्रदान की गई उससे उन्हें अपनी उत्पादित वस्तुओं में सुधार करने का प्रोत्साहन नहीं मिला। संदर्भित नीति की पहचान कीजिए: (सही विकल्प का चयन कीजिए) (A) औद्योगिक नीति प्रस्ताव, 1948	

	(B) लघु उद्योग संरक्षण नीति (C) आयात प्रतिस्थापन नीति (D) लाइसेंसिंग नीति **उत्तर: (C) आयात प्रतिस्थापन नीति**	**1**
27.	एक काल्पनिक देश में, यदि श्रमिक जनसंख्या का अनुपात 30 है तथा कुल श्रमिकों की संख्या 1500 है, तो इसकी कुल जनसंख्या _____ होगी। (रिक्त स्थान की पूर्ति के लिए सही विकल्प का चयन कीजिए) (A) 50 (B) 450 (C) 5,000 (D) 50,000 **उत्तर: (C) 5,000**	**1**
28.	"भारत और पाकिस्तान ने स्व-विकास पथ हेतु समान विकासात्मक रणनीतियां अपनाई थी।" क्या आप दिए गए कथन से सहमत हैं? प्रासंगिक स्पष्टीकरण द्वारा अपने उत्तर की पुष्टि कीजिए। **उत्तर: हाँ, सहमत। भारत और पाकिस्तान द्वारा अपनाई गई समान विकास रणनीतियाँ हैं:** • **दोनों देशों ने सार्वजनिक क्षेत्र के साथ-साथ निजी क्षेत्र को शामिल करते हुए मिश्रित आर्थिक प्रणाली का मार्ग अपनाया।** • **दोनों ने अपने घरेलू उद्योगों को विदेशी प्रतिस्पर्धा से बचाने के लिए आयात प्रतिस्थापन नीति अपनाई।** **(किसी अन्य प्रासंगिक रणनीति के लिए अंक प्रदान किए जाएँ)**	**1 ½** **1 ½** **3**
29. **(क)**	"धारणीय विकास का उद्देश्य ऐसे विकास को प्रोत्साहित करना होता है, जो पर्यावरण की समस्याओं को कम करें तथा वर्तमान पीढ़ी की आवश्यकताओं को पूरा करते हुए भविष्य की पीढ़ियों की जरूरतों को पूरा करने की क्षमता से समझौता न करें।" मान्य तर्कों द्वारा उक्त कथन को सिद्ध कीजिए। **उत्तर: धारणीय विकास यह सुनिश्चित करता है कि वर्तमान पीढ़ी की आवश्यकताओं को, भावी पीढ़ी की आवश्यकताओं की पूर्ति क्षमता से समझौता किए बिना पूरा किया जाय। यह सौर ऊर्जा आदि के उपयोग जैसी धारणीय रणनीतियों को बढ़ावा देकर पर्यावरणीय समस्याओं को कम करता है। यह सभी की मूलभूत आवश्यकताओं को पूरा करने के लिए संसाधनों के न्यायसंगत वितरण पर भी जोर देता है, जिससे जीवन की बेहतर गुणवत्ता सुनिश्चित होती है। इस प्रकार, यह आर्थिक विकास, पर्यावरण संरक्षण और अंतर-पीढ़ीगत समानता के बीच संतुलन बनाए रखता है। (पूरे उत्तर को एक साथ अंकित किया जाए)**	**3**
	अथवा	
(ख)	"मानव पूँजी लक्ष्य प्राप्ति का साधन है, जबकि मानव विकास स्वयं में एक लक्ष्य है।" मान्य उदाहरणों द्वारा दोनों अवधारणाओं के मध्य अंतर स्पष्ट करते हुए उक्त कथन का स्पष्टीकरण दीजिए। **उत्तर: मानव पूँजी मनुष्य को लक्ष्य प्राप्त करने के साधन के रूप में देखती है; यहाँ लक्ष्य उत्पादकता में वृद्धि करना है। उदाहरण के लिए, शिक्षा और स्वास्थ्य में किया गया कोई भी निवेश अनुत्पादक माना जाता है, यदि इससे वस्तुओं और सेवाओं के उत्पादन में वृद्धि नहीं होती है।** **जबकि;** **मानव विकास के दृष्टिकोण में, मनुष्य स्वयं में लक्ष्य हैं। शिक्षा और स्वास्थ्य में निवेश के माध्यम से मानव कल्याण में वृद्धि की जानी चाहिए, भले ही इससे श्रम उत्पादकता में वृद्धि न हो। उदाहरण के लिए, श्रम उत्पादकता में उनके योगदान की परवाह किए बिना भी, बुनियादी शिक्षा और स्वास्थ्य अपने आप में मानव विकास के लिए महत्वपूर्ण हैं।**	**1 ½** **1 ½** **3**
30.	निम्नलिखित तालिका का ध्यानूपर्वक अध्ययन कीजिए : **सकल घरेलू उत्पाद की वार्षिक विकास दर (%), 1980 - 2017**	

राष्ट्र	1980-90	2015-2017
भारत	**5.7**	**7.3**
चीन	**10.3**	**6.8**
पाकिस्तान	**6.3**	**5.3**

दी गई समयावधि में पाकिस्तान के सकल घरेलू उत्पाद की विकास दर में गिरावट के पीछे के कारणों की विस्तृत व्याख्या कीजिए।

	उत्तर: पाकिस्तान की सकल घरेलू उत्पाद की विकास दर 1980-90 के दौरान 6.3% से घटकर 2015-17 के दौरान 5.3% हो गई। कुछ विद्वान पाकिस्तान में शुरू की गई सुधार प्रक्रियाओं और लंबे समय तक चली राजनीतिक अस्थिरता को पाकिस्तान में घटती विकास दर के पीछे का कारण मानते हैं। इसके अतिरिक्त, कृषि विकास और खाद्य उत्पादन काफी हद तक निरंतर तकनीकी प्रगति के बजाय अनुकूल मौसम की परिस्थितियों पर निर्भर रहे। प्रेषण और विदेशी सहायता पर अत्यधिक निर्भरता ने पाकिस्तान के आर्थिक विकास को और अधिक बाधित किया। (पूरे उत्तर को एक साथ अंकित किया जाए)	**4**
31. (क)	"1991 से पूर्व, भारतीय बैंकिंग प्रणाली पर सरकारी बैंकों का दबदबा था, जिनका भारतीय रिज़र्व बैंक नियमन और नियंत्रण करता था। 1991 में बैंकिंग प्रणाली को बेहतर बनाने के लिए भारत सरकार द्वारा किए गए सुधारों की व्याख्या कीजिए। **उत्तर: नई आर्थिक नीति, 1991 ने बैंकिंग क्षेत्र में महत्वपूर्ण सुधार किए। भारतीय रिज़र्व बैंक (RBI) की भूमिका नियामक से बदलकर सुविधाप्रदाता की हो गई, जिससे बैंकों को अधिक स्वायत्तता प्राप्त हुई। सुधारों ने भारतीय और विदेशी निजी क्षेत्र के बैंकों की स्थापना की अनुमति दी। बैंकों में विदेशी निवेश की सीमा बढ़ाकर लगभग 74% कर दी गई। इसके अतिरिक्त, निर्धारित शर्तों को पूरा करने वाले बैंकों को RBI की पूर्व अनुमति के बिना नई शाखाएँ खोलने और अपने मौजूदा शाखा नेटवर्क को तर्कसंगत बनाने की अनुमति दी गई, जिससे उनकी दक्षता में सुधार हुआ और बैंकिंग सेवाओं का विस्तार हुआ। (पूरे उत्तर को एक साथ अंकित किया जाए)**	**4**
	अथवा	
(ख)	"भारत में भूमि सीमा निर्धारण कानूनों के प्रवर्तन को कई प्रकार की चुनौतियों का सामना करना पड़ा, जिसने उनकी सफलता को सीमित कर दिया।" क्या आप दिए गए कथन से सहमत हैं? अपने उत्तर के समर्थन में उचित स्पष्टीकरण दीजिए। **उत्तर: हाँ सहमत। भूमि सीमा निर्धारण कानूनों के** कार्यान्वयन **में कई चुनौतियों का सामना करना पड़ा। कई पूर्व जमींदारों ने किरायेदारों को बेदखल करके और स्वयं को स्व-कृषक होने का दावा करके बड़े भू-स्वामित्व को बनाए रखने के लिए कानूनी खामियों का फायदा उठाया। उन्होंने न्यायालयों में कानूनों को चुनौती देकर इनके कार्यान्वयन में देरी की और भूमि को अपने करीबी रिश्तेदारों के नाम पर हस्तांतरित कर दिया। परिणामस्वरूप, भूमि सीमा सुधारों के सफल कार्यान्वयन में कई बाधाएँ उत्पन्न हुईं। (पूरे उत्तर को एक साथ अंकित किया जाए)**	**4**
32.	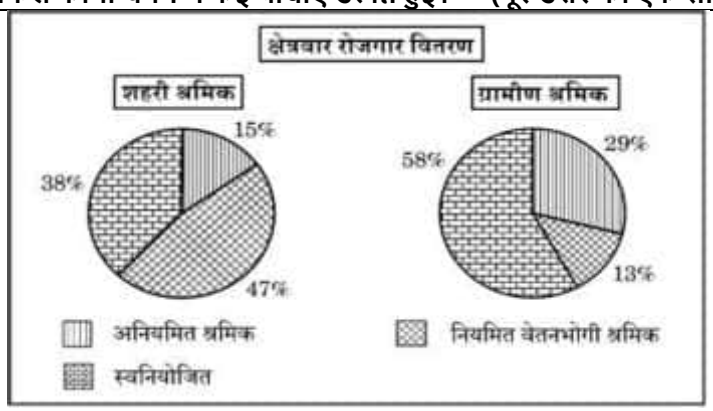 उपर्युक्त चित्र के आधार पर निम्नलिखित प्रश्नों के उत्तर दीजिए : (क) ग्रामीण एवं शहरी दोनों क्षेत्रों में कुल कार्यबल में किस श्रेणी के श्रमिकों का अनुपात अधिक है? **उत्तर: ग्रामीण क्षेत्रों में स्व-नियोजित श्रेणी (58%) और शहरी क्षेत्रों में नियमित वेतनभोगी श्रमिक (47%) कुल कार्यबल के सबसे बड़े अनुपात में हैं।**	**1**
	(ख) इस रूपरेखा (Pattern) के पीछे के किन्हीं दो कारणों की व्याख्या कीजिए। **उत्तर: इस रूपरेखा (Pattern) के पीछे दो कारण हैं:** • **ग्रामीण क्षेत्रों में स्व-नियोजित श्रमिकों का हिस्सा अधिक है क्योंकि कृषि पर निर्भर अधिकांश लोगों के पास भूमि के अपने भूखंड हैं और वे स्वतंत्र रूप से कृषि करते हैं।** **1 ½** • **ग्रामीण क्षेत्रों की तुलना में शहरी क्षेत्रों में उद्यमों की संख्या बहुत अधिक है। इन उद्यमों को नियमित आधार पर श्रमिकों की आवश्यकता होती है। इसलिए, अपेक्षाकृत अधिक अनुपात में श्रमिक नियमित वेतनभोगी कर्मचारियों के रूप में कार्यरत होते हैं।** **1 ½** **(अन्य कोई प्रासंगिक कारण के लिए भी अंक प्रदान किए जाए)**	**4**
	*__नोट :__ निम्नलिखित प्रश्न केवल **दृष्टिबाधित परिक्षार्थियों** के लिए प्रश्न संख्या **32** के स्थान पर है।* निम्नलिखित श्रेणियों के संबंध में ग्रामीण व शहरी क्षेत्रों में श्रमिकों के वितरण की रूपरेखा (Pattern) के पीछे के किन्हीं दो कारणों की व्याख्या कीजिए: (क) स्वनियोजित (ख) नियमित वेतनभोगी श्रमिक **उत्तर: ग्रामीण और शहरी क्षेत्रों में श्रमिकों के वितरण की रूपरेखा (Pattern) के पीछे दो कारण हैं:**	

	(क) ग्रामीण क्षेत्रों में स्व-नियोजित श्रमिकों की भागीदारी अधिक है क्योंकि कृषि पर निर्भर अधिकांश लोगों के पास भूमि के अपने भूखंड हैं तथा वे स्वतंत्र रूप से कृषि करते हैं।	**2**
	(ख) शहरी क्षेत्रों में नियमित वेतनभोगी श्रमिकों का कुल कार्यबल में सबसे बड़ा अनुपात है। ग्रामीण क्षेत्रों की तुलना में शहरी क्षेत्रों में उद्यमों की संख्या बहुत अधिक है। इन उद्यमों को नियमित आधार पर श्रमिकों की आवश्यकता होती है। इसलिए, अपेक्षाकृत अधिक अनुपात में श्रमिक नियमित वेतनभोगी कर्मचारियों के रूप में कार्यरत होते हैं।	**2**
	(अन्य कोई प्रासंगिक कारण के लिए भी अंक प्रदान किए जाए)	**4**
33.	निम्नलिखित गद्य का ध्यानपूर्वक अध्ययन कीजिए: भारत का पुष्प उत्पादन उद्योग, एक उच्च प्रदर्शन वाले क्षेत्र के रूप में विकसित हुआ है, जिसने 100% निर्यात उन्मुखता के साथ "उदयमान उद्योग" का दर्जा प्राप्त किया है। पुष्पों की बढ़ती वैश्विक माँग से प्रेरित होकर, पुष्प उत्पादन कृषि क्षेत्र के अंतर्गत एक प्रमुख व्यावसायिक उद्यम के रूप में विकसित हुआ है। व्यावसायिक पुष्प उत्पादन विशेष रूप से लाभदायक है, जो कई पारंपरिक फसलों की तुलना में प्रति इकाई अधिक प्रतिफल प्रदान करती है। अनाज, दलहन, सब्ज़ियाँ व तिलहन की तुलना में पुष्पों के उत्पादन में अधिक लाभार्जन देखा गया है। उपदान के समर्थन तथा फसल ऋण वित्तपोषण की सहायता से यह सीमांत एवं लघु जोत वाले कृषकों के लिए आशाजनक उद्यम है, जो कुल भूमि जोतों के 96% से अधिक तथा पुष्प उत्पादन के अंतर्गत कृषि क्षेत्र के 63% का गठन करते हैं।) वित्त वर्ष 2024 में, लगातार 297 हजार हैक्टेयर भूमि पुष्प उत्पादन के लिए समर्पित थी। इसी अवधि में, भारत ने 19,678 मीट्रिक टन पुष्प उत्पादों का निर्यात किया, जिससे ₹ 717.83 करोड़ (USD 86.63 million) की आय हुई। प्रमुख निर्यात गन्तव्यों में संयुक्त राज्य अमेरिका, नीदरलैंड, संयुक्त अरब अमीरात, यूनाइटेड किंगडम, कनाडा एवं मलेशिया सम्मिलित थे। उपर्युक्त गद्य व अर्थशास्त्र संबंधी सामान्य ज्ञान के आधार पर, निम्नलिखित प्रश्नों के उत्तर दीजिए: (i) कृषकों को स्थायी आजीविका प्रदान करने में पुष्प उत्पादन की आवश्यकता क्यों है ? **उत्तर: पुष्प उत्पादन कृषकों को एक स्थाई आजीविका प्रदान करती है क्योंकि यह अनाज, दलहन, तिलहन व सब्जियों जैसी फसलों की तुलना में प्रति इकाई क्षेत्र से अधिक प्रतिफल प्रदान करती है। पुष्पों की बढ़ती वैश्विक माँग और भारत के 100% निर्यात-उन्मुख पुष्प उत्पादन उद्योग के कारण यह एक अत्यधिक लाभदायक वाणिज्यिक उद्यम के रूप में उभरा है, जिससे कृषकों के लिए बेहतर आय और रोजगार के अवसर उत्पन्न हुए हैं।** **(पूरे उत्तर को एक साथ अंकित किया जाए)** (ii) ऐसे किन्हीं दो तरीकों की व्याख्या कीजिए, जिनसे सरकार छोटे एवं सीमांत कृषकों की सहायता कर सकती है। **उत्तर: सरकार छोटे और सीमांत किसानों को निम्नलिखित तरीकों से सहायता प्रदान कर सकती है:** • **कृषि लागत को कम करने तथा पुष्प उत्पादन को प्रोत्साहित करने के लिए उपदान/सहायिकी प्रदान करके।** • **कृषकों को उत्पादन में निवेश करने और अपनी खेती का विस्तार करने हेतु सस्ती दरों पर फसल ऋण की सुविधा प्रदान करके सहायता करना।** **(अन्य कोई प्रासंगिक व्याख्या के लिए भी अंक प्रदान किए जाए)**	**3** **1 ½** **1 ½** **6**
34. (क)	(i) जैसा कि विनिवेश आयोग ने पाया है कि "एक दीर्घकालिक विनिवेश रणनीति का सार न केवल बजटीय प्राप्तियों में वृद्धि होना चाहिए, बल्कि लाभहीन इकाइयों के लिए बजटीय समर्थन को कम करना भी होना चाहिए। इसके साथ-साथ ऐसी इकाईयों की दीर्घकालिक व्यवहार्यता व उनमें रोजगार के स्थायी स्तर को सुनिश्चित करना भी होना चाहिए।" (I) पहचान कीजिए कि उपर्युक्त गद्य में किस क्षेत्र के विनिवेश का उल्लेख किया गया है। **उत्तर: उपर्युक्त कथन में सार्वजनिक क्षेत्र का उल्लेख किया गया है।** (II) भारत सरकार द्वारा इस विनिवेश रणनीति का औचित्य सिद्ध कीजिए। **उत्तर: भारत सरकार द्वारा विनिवेश रणनीति को घाटा में चलने वाले सार्वजनिक क्षेत्र के उपक्रमों (PSUs) का निजीकरण करके राजकोषीय बोझ को कम करने के लिए अपनाया गया था। इसका उद्देश्य दक्षता, वित्तीय अनुशासन और आधुनिकीकरण में सुधार करना भी था। इस रणनीति ने सार्वजनिक क्षेत्र के उपक्रमों की दीर्घकालिक व्यवहार्यता सुनिश्चित की तथा विदेशी प्रत्यक्ष निवेश (FDI) को अधिक आकर्षित किया।** (ii) "औपनिवेशिक भारत में कृषि में स्थिरता न केवल उत्पादन की पिछड़ी तकनीकों के उपयोग के कारण थी, बल्कि अंग्रेज़ों द्वारा अपनाई गई शोषणकारी भू-व्यवस्था प्रणालियों व नीतियों का भी परिणाम थी।" वैध तर्कों द्वारा इस कथन का समर्थन अथवा खंडन कीजिए। **उत्तर: दिए गए कथन का समर्थन किया जाता है। औपनिवेशिक भारत में कृषि की स्थिरता केवल पिछड़ी हुई उत्पादन तकनीकों के उपयोग, सिंचाई सुविधाओं की कमी व निम्न स्तर की प्रद्योगिकी के कारण हुआ बल्कि जमींदारी प्रथा जैसी शोषणकारी भू - व्यवस्थाओं के कारण भी हुआ। इस व्यवस्था के अंतर्गत जमींदार कृषकों की आर्थिक परिस्थितियों की परवाह किए बिना लगान वसूल करते थे, जिससे उनकी कठिनाइयाँ और बढ़ गई थीं।** **(पूरे उत्तर को एक साथ अंकित किया जाए)** **अथवा**	**1** **2** **3** **6**

(ख)	(i) "1950 के दशक में, अत्यधिक सरकारी नियमन ने उद्यमशीलता के विकास को बाधित किया।" क्या आप दिए गए कथन से सहमत हैं? अपने उत्तर के समर्थन में वैध स्पष्टीकरण दीजिए। **उत्तर: हाँ। परमिट-लाइसेंस राज के अंतर्गत अत्यधिक सरकारी विनियमन ने उद्यमिता के विकास को बाधित किया। औद्योगिक लाइसेंसिंग ने फर्मों के विस्तार को सीमित किया, जबकि आयात प्रतिबंधों ने प्रतिस्पर्धा और नवाचार को कम कर दिया। परिणामस्वरूप, उत्पादकों के पास दक्षता में वृद्धि करने, गुणवत्ता में सुधार करने या आधुनिक तकनीक अपनाने के लिए बहुत कम प्रोत्साहन था, जिसके फलस्वरूप, औद्योगिक विकास में बाधा उत्पन्न हुई।** **(पूरे उत्तर को एक साथ अंकित किया जाए)**	**3**
	(ii) "सुधार काल में कर कटौती से कर राजस्व में वृद्धि नहीं हुई है।" दिए गए कथन की वैध स्पष्टीकरण के साथ पुष्टि कीजिए। **उत्तर: सुधार अवधि के दौरान, अधिक राजस्व प्राप्त करने और कर चोरी पर अंकुश लगाने के उद्देश्य से कर की दरों को कम किया गया था। यद्यपि, इससे सरकार के कर राजस्व में वृद्धि नहीं हुई। इसके अतिरिक्त, प्रशुल्कों में कमी और विदेशी निवेशकों को आकर्षित करने से संबंधित सुधार नीतियों ने कर राजस्व बढ़ाने की संभावनाओं को कम कर दिया, जिसका विकासात्मक और कल्याणकारी व्ययों पर प्रतिकूल प्रभाव पड़ा।** **(पूरे उत्तर को एक साथ अंकित किया जाए)**	**3**
	(अन्य कोई प्रासंगिक व्याख्या के लिए भी अंक प्रदान किए जाए)	**6**

* * *