Series : R5QPS

SET~2

प्रश्न-पत्र कोड
Q.P. Code **58/5/2**

रोल नं.
Roll No.

परीक्षार्थी प्रश्न-पत्र कोड को उत्तर-पुस्तिका के मुख-पृष्ठ पर अवश्य लिखें।
Candidates must write the Q.P. Code on the title page of the answer-book.

अर्थशास्त्र

ECONOMICS

*निर्धारित समय : **3** घण्टे* | *अधिकतम अंक : **80***

*Time allowed : **3** hours* | *Maximum Marks : **80***

नोट

(I) *कृपया जाँच कर लें कि इस प्रश्न-पत्र में मुद्रित पृष्ठ **27** हैं।*

(II) *प्रश्न-पत्र में दाहिने हाथ की ओर दिए गए प्रश्न-पत्र कोड को परीक्षार्थी उत्तर-पुस्तिका के मुख-पृष्ठ पर लिखें।*

(III) *कृपया जाँच कर लें कि इस प्रश्न-पत्र में **34** प्रश्न हैं।*

(IV) ***कृपया प्रश्न का उत्तर लिखना शुरू करने से पहले, उत्तर-पुस्तिका में यथा स्थान पर प्रश्न का क्रमांक अवश्य लिखें।***

(V) *इस प्रश्न-पत्र को पढ़ने के लिए 15 मिनट का समय दिया गया है। प्रश्न-पत्र का वितरण पूर्वाह्न में 10.15 बजे किया जाएगा। 10.15 बजे से 10.30 बजे तक परीक्षार्थी केवल प्रश्न-पत्र को पढ़ेंगे और इस अवधि के दौरान वे उत्तर-पुस्तिका पर कोई उत्तर नहीं लिखेंगे।* []

NOTE

(I) *Please check that this question paper contains **27** printed pages.*

(II) *Q.P. Code given on the right hand side of the question paper should be written on the title page of the answer-book by the candidate.*

(III) *Please check that this question paper contains **34** questions.*

(IV) *Please write down the Serial Number of the question in the answer-book at the given place before attempting it.*

(V) *15 minute time has been allotted to read this question paper. The question paper will be distributed at 10.15 a.m. From 10.15 a.m. to 10.30 a.m., the candidates will read the question paper only and will not write any answer on the answer-book during this period.*

सामान्य निर्देश :

निम्नलिखित निर्देशों को ध्यानपूर्वक पढ़िए और उनका पालन कीजिए :

(i) *इस प्रश्न-पत्र में **34** प्रश्न हैं। **सभी** प्रश्न **अनिवार्य** हैं।*

(ii) *यह प्रश्न-पत्र **दो** खण्डों में विभाजित है :*
***खण्ड क** – समष्टि अर्थशास्त्र*
***खण्ड ख** – भारतीय आर्थिक विकास*

(iii) *इस प्रश्न-पत्र में **20** बहुविकल्पीय प्रकार के प्रश्न हैं। प्रत्येक प्रश्न **1** अंक का है।*

(iv) *इस प्रश्न-पत्र में **4** लघु-उत्तरीय प्रकार-I के प्रश्न हैं। प्रत्येक प्रश्न **3** अंकों का है। इन प्रश्नों के उत्तर 60 से 80 शब्दों में लिखे जाने चाहिए।*

(v) *इस प्रश्न-पत्र में **6** लघु-उत्तरीय प्रकार-II के प्रश्न हैं। प्रत्येक प्रश्न **4** अंकों का है। इन प्रश्नों के उत्तर 80 से 100 शब्दों में लिखे जाने चाहिए।*

(vi) *इस प्रश्न-पत्र में **4** दीर्घ-उत्तरीय प्रकार के प्रश्न हैं। प्रत्येक प्रश्न **6** अंकों का है। इन प्रश्नों के उत्तर 100 से 150 शब्दों में लिखे जाने चाहिए।*

(vii) *प्रत्येक प्रश्न के **सभी** भागों के उत्तर एक साथ लिखे जाने चाहिए।*

(viii) *इसके अतिरिक्त, ध्यान दें कि दृष्टिबाधित परीक्षार्थियों के लिए फोटो तथा मानचित्र आदि आधारित प्रश्नों के स्थान पर एक अन्य प्रश्न दिया गया है। इन प्रश्नों के उत्तर केवल दृष्टिबाधित परीक्षार्थी ही लिखें।*

(ix) *प्रश्न-पत्र में कोई समग्र विकल्प नहीं है। यद्यपि, कुछ प्रश्नों में आंतरिक विकल्प का प्रावधान दिया गया है। इन प्रश्नों में से केवल एक ही प्रश्न का उत्तर लिखा जाए।*

खण्ड क

समष्टि अर्थशास्त्र

1. किसी भी फर्म के लिए देनदारियाँ उसका ऋण/दूसरों पर उसका बकाया होता है। इसके विपरीत, बैंक के लिए _____ मुख्य देनदारी होती है/हैं। (रिक्त स्थान की पूर्ति के लिए सही विकल्प का चयन कीजिए) *1*

(A) ऋण

(B) भंडार (reserves)

(C) जमाएँ

(D) सम्पत्तियाँ

General Instructions :

Read the following instructions carefully and follow them :

(i) *This question paper contains **34** questions. **All** questions are **compulsory**.*

(ii) *This question paper contains **two** sections :*

***Section A** – Macro Economics*

***Section B** – Indian Economic Development*

(iii) *This question paper contains **20** Multiple Choice type questions. Each question carries **1** mark.*

(iv) *This question paper contains **4** Short Answer Type-I questions. Each question carries **3** marks. Answer these questions in 60 to 80 words.*

(v) *This question paper contains **6** Short Answer Type-II questions. Each question carries **4** marks. Answer these questions in 80 to 100 words.*

(vi) *This question paper contains **4** Long Answer type questions. Each question carries **6** marks. Answer these questions in 100 to 150 words.*

(vii) *Attempt **all** parts of a question together.*

(viii) *In addition to this, note that a separate question has been provided for Visually Impaired candidates in lieu of questions having visual inputs, map etc. Such questions are to be attempted by Visually Impaired candidates only.*

(ix) *There is no overall choice in the question paper. However, an internal choice has been provided in few questions. Only one of the choices in such questions has to be attempted.*

SECTION A

Macro Economics

1. Liabilities for any firm are its debt/what it owes to others. Contrary to that, for a bank _____ are the main liability. *1*

(Choose the correct option to fill in the blank)

(A) loans

(B) reserves

(C) deposits

(D) assets

2. निम्नलिखित कथनों : अभिकथन (A) और कारण (R) का अध्ययन कीजिए। नीचे दिए गए विकल्पों में से सही विकल्प का चयन कीजिए : *1*

अभिकथन (A) : विदेशों से प्रेषण (remittances) को भुगतान संतुलन (BoP) के पूँजीगत खाते के क्रेडिट पक्ष में दर्ज किया जाता है।

कारण (R) : ऐसे सभी लेनदेन जिनके कारण शेष विश्व से विदेशी मुद्रा का अन्तर्प्रवाह होता है, भुगतान संतुलन (BoP) के क्रेडिट पक्ष में दर्ज किए जाते हैं।

विकल्प :

(A) अभिकथन (A) और कारण (R) दोनों सत्य हैं और कारण (R), अभिकथन (A) की सही व्याख्या करता है।

(B) अभिकथन (A) और कारण (R) दोनों सत्य हैं, परंतु कारण (R), अभिकथन (A) की सही व्याख्या ***नहीं*** करता है।

(C) अभिकथन (A) सत्य है, परंतु कारण (R) असत्य है।

(D) अभिकथन (A) असत्य है, परंतु कारण (R) सत्य है।

3. मान लीजिए कि, एक काल्पनिक अर्थव्यवस्था के लिए, आरक्षित अनुपात (RR) 25% से घट कर 20% हो जाता है। यदि प्राथमिक जमा राशि ₹ 1,000 है, तो कुल जमा राशि _____ कर ₹ _____ हो जाएगी। (रिक्त स्थानों की पूर्ति के लिए सही विकल्प का चयन कीजिए) *1*

(A) बढ़, 5,000

(B) घट, 5,000

(C) बढ़, 4,000

(D) घट, 4,000

4. निम्नलिखित कथनों का ध्यानपूर्वक अध्ययन कीजिए : *1*

कथन I : सकारात्मक बाह्यताओं से तात्पर्य उन लाभों से है जो, एक फर्म/व्यक्ति दूसरों को प्रदान करता है, जिसके लिए उन्हें भुगतान की प्राप्ति होती है।

कथन II : सकारात्मक बाह्यताओं की स्थिति में, किसी अर्थव्यवस्था का सकल घरेलू उत्पाद (GDP) वास्तविक कल्याण का अधि-आकलन कर सकता है।

दिए गए कथनों के आलोक में, निम्नलिखित में से सही विकल्प का चयन कीजिए :

(A) कथन I सत्य है और कथन II असत्य है।

(B) कथन I असत्य है और कथन II सत्य है।

(C) कथन I और II दोनों सत्य हैं।

(D) कथन I और II दोनों असत्य हैं।

2. Read the following statements : Assertion (A) and Reason (R). Choose the correct option from those given below : *1*

Assertion (A) : Transfers from Abroad (remittances) are to be recorded on the credit side of capital account of Balance of Payments (BoP).

Reason (R) : All the transactions that lead to inflow of foreign currency from the rest of the world are recorded on the credit side of Balance of Payments (BoP).

Options :

(A) Both Assertion (A) and Reason (R) are true and Reason (R) is the correct explanation of Assertion (A).

(B) Both Assertion (A) and Reason (R) are true, but Reason (R) is ***not*** the correct explanation of Assertion (A).

(C) Assertion (A) is true, but Reason (R) is false.

(D) Assertion (A) is false, but Reason (R) is true.

3. Suppose, for a hypothetical economy, Reserve Ratio (RR) decreases from 25% to 20%, the total deposits would _____ to ₹ _____, if primary deposits are ₹ 1,000. *1*

(Choose the correct option to fill in the blanks)

(A) increase, 5,000

(B) decrease, 5,000

(C) increase, 4,000

(D) decrease, 4,000

4. Read the following statements carefully : *1*

Statement I : Positive externalities refer to the benefits a firm/an individual provides to another for which they are paid.

Statement II : In case of positive externalities, Gross Domestic Product (GDP) of an economy might lead to an overestimation of the actual welfare.

In the light of the given statements, choose the correct option from the following :

(A) Statement I is true and Statement II is false.

(B) Statement I is false and Statement II is true.

(C) Both Statements I and II are true.

(D) Both Statements I and II are false.

5. समग्र माँग (AD) में कमी के कारण एक अर्थव्यवस्था पूर्ण रोज़गार से नीचे के स्तर पर संचालित हो सकती है, जिससे _____ रोजगार संतुलन प्राप्त होता है। *1*

(i) पूर्ण
(ii) अधि
(iii) अल्प

(रिक्त स्थान की पूर्ति के लिए सही विकल्प का चयन कीजिए)

विकल्प :

(A) केवल (i) (B) केवल (ii)
(C) केवल (iii) (D) (ii) और (iii)

6. मूल्य वर्धित विधि द्वारा राष्ट्रीय आय (NNP_{FC}) की गणना करने में निम्नलिखित चरण होते हैं : *1*

(i) GDP_{MP} से मूल्यह्रास व शुद्ध अप्रत्यक्ष करों को घटाकर घरेलू आय (NDP_{FC}) की गणना करना।
(ii) प्रत्येक फर्म के GVA को जोड़कर GDP_{MP} का अनुमान लगाना।
(iii) NNP_{FC} पर पहुँचने के लिए विदेशों से प्राप्त शुद्ध कारक आय का अनुमान लगाना और उसे NDP_{FC} में जोड़ना।
(iv) उत्पादन इकाइयों को प्राथमिक, द्वितीयक व तृतीयक क्षेत्र में पहचानना व वर्गीकृत करना।

चरणों की व्यवस्था का सही क्रम होगा :

(सही विकल्प का चयन कीजिए)

विकल्प :

(A) (ii), (iii), (i), (iv) (B) (iv), (ii), (i), (iii)
(C) (iv), (ii), (iii), (i) (D) (iii), (iv), (ii), (i)

7. नम्य विनिमय दर प्रणाली के अंतर्गत, विनिमय दर का निर्धारण _____ द्वारा किया जाता है। *1*

(i) सरकार
(ii) माँग व आपूर्ति
(iii) केंद्रीय बैंक के हस्तक्षेप

(रिक्त स्थान की पूर्ति के लिए सही विकल्प का चयन कीजिए)

विकल्प :

(A) केवल (i) (B) केवल (ii)
(C) केवल (iii) (D) (ii) और (iii)

8. मुद्रा आपूर्ति एक _____ चर है क्योंकि, यह किसी विशेष समय पर _____ द्वारा रखी गई मुद्रा की कुल मात्रा को संदर्भित करता है। *1*

(रिक्त स्थानों की पूर्ति के लिए सही विकल्प का चयन कीजिए)

(A) स्टॉक, बैंक (B) प्रवाह, बैंक
(C) स्टॉक, जनता (D) प्रवाह, जनता

5. An economy may operate at a level below full employment due to a deficiency in Aggregate Demand (AD) leading to a/an _____ employment equilibrium. *1*

(i) Full
(ii) Over
(iii) Under

(Choose the correct option to fill in the blank)

Options :

(A) Only (i) (B) Only (ii)
(C) Only (iii) (D) (ii) and (iii)

6. Following are the steps to measure National Income (NNP_{FC}) by Value Added method : *1*

(i) Calculate Domestic Income (NDP_{FC}) by subtracting Depreciation and Net Indirect Taxes from GDP_{MP}.
(ii) Estimate GDP_{MP} by adding GVA of each firm.
(iii) Estimate and add Net Factor Income from Abroad to NDP_{FC} to arrive at NNP_{FC}.
(iv) Identify and classify the production units into primary, secondary and tertiary sector.

The correct order of arrangement of steps would be :

(Choose the correct option)

Options :

(A) (ii), (iii), (i), (iv) (B) (iv), (ii), (i), (iii)
(C) (iv), (ii), (iii), (i) (D) (iii), (iv), (ii), (i)

7. Under the flexible exchange rate system, the exchange rate is determined by the _____ . *1*

(i) Government
(ii) Demand and supply
(iii) Intervention of the Central Bank

(Choose the correct option to fill in the blank)

Options :

(A) Only (i) (B) Only (ii)
(C) Only (iii) (D) (ii) and (iii)

8. Money supply is a _____ variable, as it refers to the total volume of money held by the _____ at a particular point of time. *1*

(Choose the correct option to fill in the blanks)

(A) stock, banks (B) flow, banks
(C) stock, public (D) flow, public

9. दिए गए चित्र के संदर्भ में, OL _____ को दर्शाता है। *1*

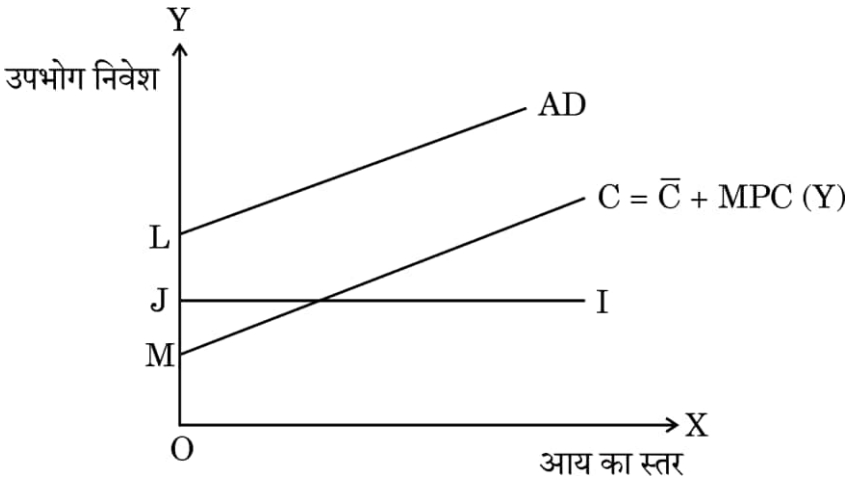

(रिक्त स्थान की पूर्ति के लिए सही विकल्प का चयन कीजिए)

(i) स्वायत्त उपभोग
(ii) स्वायत्त निवेश
(iii) प्रेरित उपभोग
(iv) प्रेरित निवेश

विकल्प :

(A) केवल (i)
(B) केवल (ii)
(C) (i) और (ii) का योग
(D) (i) और (iii) का योग

नोट : *निम्नलिखित प्रश्न केवल* ***दृष्टिबाधित परीक्षार्थियों*** *के लिए प्रश्न संख्या* ***9*** *के स्थान पर है।*

_____ से तात्पर्य उस उपभोग से है, जो कि आय के स्तर से स्वतंत्र होता है। *1*

(रिक्त स्थान की पूर्ति के लिए सही विकल्प का चयन कीजिए)

(A) स्वायत्त उपभोग
(B) प्रेरित उपभोग
(C) समस्तर (Break-even level)
(D) स्वायत्त निवेश और उपभोग

9. With reference to the given diagram, OL indicates _____ . *1*

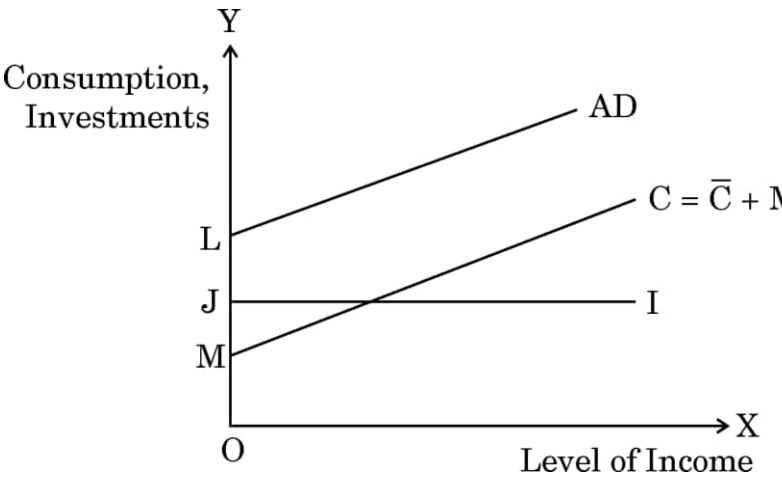

(Choose the correct option to fill in the blank)

(i) Autonomous Consumption (ii) Autonomous Investment

(iii) Induced Consumption (iv) Induced Investment

Options :

(A) Only (i) (B) Only (ii)

(C) Sum of (i) and (ii) (D) Sum of (i) and (iii)

Note : *The following question is for* ***Visually Impaired candidates*** *only in lieu of Q. no.* ***9****.*

_____ refers to that consumption, which is independent of the level of income. (Choose the correct option to fill in the blank) *1*

(A) Autonomous Consumption

(B) Induced Consumption

(C) Break-even level

(D) Autonomous Investment and Consumption

10. "सांख्यिकी और कार्यक्रम कार्यान्वयन मंत्रालय (MoSPI) सकल घरेलू उत्पाद (GDP) के आधार वर्ष में संशोधन कर रहा है। अर्थव्यवस्था में हो रहे संरचनात्मक परिवर्तनों को बेहतर ढंग से दर्शाने के लिए आधार वर्ष को समय-समय पर संशोधित किया जाता है। सकल घरेलू उत्पाद (GDP) के लिए नया प्रस्तावित आधार वर्ष 2022 – 23 है।"

भारत सरकार द्वारा उठाया गया यह कदम _____ सकल घरेलू उत्पाद (GDP) में संशोधन के लिए है क्योंकि, इसे _____ मूल्यों पर मापा जाता है। *1*

(रिक्त स्थानों की पूर्ति के लिए सही विकल्प का चयन कीजिए)

(A) वास्तविक, स्थिर (B) मौद्रिक, वर्तमान

(C) वास्तविक, वर्तमान (D) मौद्रिक, स्थिर

11. दिए गए आँकड़ों के आधार पर 'संपत्ति व उद्यमशीलता से आय' के मूल्य का आकलन कीजिए : *3*

क्रम संख्या	*मदें*	*राशि (₹ करोड़ में)*
(i)	नकद मजदूरी व वेतन	1,000
(ii)	सामाजिक सुरक्षा योजनाओं में नियोक्ता का योगदान	300
(iii)	किराया	500
(iv)	नियोक्ता द्वारा किराया-मुक्त आवास	700
(v)	रॉयल्टी	200
(vi)	ब्याज	150
(vii)	निगम कर	70
(viii)	निजी निगमित क्षेत्र की बचत	130
(ix)	अप्रत्यक्ष कर	40
(x)	लाभांश	60

12. (क) "रेपो दर व बैंक दर दो पृथक उपाय हैं, परन्तु उनमें से किसी में भी परिवर्तन से अर्थव्यवस्था में मुद्रा आपूर्ति पर एकसमान प्रभाव पड़ सकता है।"

अपने उत्तर के समर्थन में वैध स्पष्टीकरण देते हुए, दिए गए कथन का समर्थन अथवा खंडन कीजिए। *3*

अथवा

10. "The Ministry of Statistics and Programme Implementation (MoSPI) is underway to revise the base year of Gross Domestic Product (GDP). The base year is revised periodically to better capture the structural changes happening in the economy. The proposed new base year for the GDP is 2022 – 23."

The step taken by the Government of India is for revision of _____ Gross Domestic Product (GDP), as it is measured at _____ prices. *1*

(Choose the correct option to fill in the blanks)

(A) Real, constant (B) Nominal, current

(C) Real, current (D) Nominal, constant

11. Estimate the value of 'Income from Property and Entrepreneurship' on the basis of the given data : *3*

S. No.	*Items*	*Amount (in ₹ crore)*
(i)	Wages and salaries in cash	1,000
(ii)	Employer's contribution to social security schemes	300
(iii)	Rent	500
(iv)	Rent-free accommodation by employer	700
(v)	Royalty	200
(vi)	Interest	150
(vii)	Corporate Tax	70
(viii)	Savings of private corporate sector	130
(ix)	Indirect Taxes	40
(x)	Dividends	60

12. (a) "Repo Rate and Bank Rate are two different measures, but a change in either of them may have the similar implication on the money supply in an economy."

Defend or refute the given statement, giving valid explanation in support of your answer. *3*

OR

(ख) "भारतीय रिज़र्व बैंक (RBI) भारत में मुद्रा नोट जारी करने के लिए एकमात्र प्राधिकरण है, जिसमें ₹ 1 मूल्यवर्ग का अपवाद है, जिसे वित्त मंत्रालय द्वारा जारी किया जाता है।"
क्या आप दिए गए कथन से सहमत हैं ? इस मामले में भारतीय रिज़र्व बैंक (RBI) के एकाधिकार के पीछे के तर्काधार की व्याख्या कीजिए। *3*

13. (क) भुगतान संतुलन (BoP) खाते की परिभाषा दीजिए। *1*

(ख) व्यापार शेष व चालू खाते के शेष में अंतर स्पष्ट कीजिए। *3*

14. निम्नलिखित गद्य का ध्यानपूर्वक अध्ययन कीजिए :

"घरेलू निजी उपभोग व निवेश को प्रोत्साहित करके विकास गति में सुधार लाने के उद्देश्य से, भारतीय रिज़र्व बैंक (RBI) द्वारा नकद आरक्षित अनुपात (CRR) में 100 आधार अंकों (1%) की कटौती की घोषणा की गई है।"

उपर्युक्त गद्य तथा सामान्य ज्ञान के आधार पर, निम्नलिखित प्रश्नों के उत्तर दीजिए :

(i) भारतीय रिज़र्व बैंक (RBI) द्वारा उठाए गए इस कदम के पीछे के संभावित कारण की व्याख्या कीजिए। *2*

(ii) समग्र माँग (AD) पर भारतीय रिज़र्व बैंक (RBI) द्वारा उठाए गए कदम के प्रभाव को संक्षेप में समझाइए। *2*

15. (क) टेक इन्फो लिमिटेड नामक एक कंपनी प्रिंटरों का निर्माण करती है। यह प्रिंटर बनाने के लिए जर्मनी से मशीनों का क्रय करती है। ये प्रिंटर घरेलू व विदेशी बाज़ारों में गृहस्थों तथा व्यापारियों को विक्रय किए जाते हैं। क्रय की गई मशीनरी व निर्मित प्रिंटर दोनों को अंतिम वस्तुओं के रूप में वर्गीकृत किया जा सकता है।

क्या आप दिए गए कथन से सहमत हैं ? अपने उत्तर के समर्थन में वैध तर्क दीजिए। *4*

अथवा

(ख) (i) सकल निवेश को परिभाषित कीजिए। *1*

(ii) दिए गए चित्र में दर्शाए गए सकल निवेश के किन्हीं दो घटकों की पहचान कीजिए। *1*

सकल निवेश

पैनल A	पैनल B	पैनल C
		

(iii) सकल निवेश के किसी एक घटक की संक्षेप में व्याख्या कीजिए। *2*

(b) "The Reserve Bank of India (RBI) is the sole authority for issuing currency notes in India, with an exception of ₹ 1 denomination that is issued by the Ministry of Finance."
Do you agree with the given statement ? Explain the rationale behind the monopoly enjoyed by the Reserve Bank of India (RBI) on this front. *3*

13. (a) Define Balance of Payments (BoP) Account. *1*

(b) Differentiate between Balance of Trade and Balance of Current Account. *3*

14. Read the following text carefully :
"With an objective to improve the growth momentum by stimulating domestic private consumption and investment, the Reserve Bank of India (RBI) announced a reduction in Cash Reserve Ratio (CRR) by 100 basis points (1%)."
Based on the above text and common understanding, answer the following questions :

(i) Explain the likely cause behind the step taken by the Reserve Bank of India (RBI). *2*

(ii) Briefly explain the impact of the step taken by the Reserve Bank of India (RBI) on the Aggregate Demand (AD). *2*

15. (a) A company named Tech Info Ltd. manufactures printers. The company purchases machinery from Germany to manufacture printers. These printers are sold in the domestic and foreign markets to households and dealers. The machinery purchased and printers manufactured, both can be classified as final goods.
Do you agree with the given statement ? Give valid arguments in support of your answer. *4*

OR

(b) (i) Define Gross Investments. *1*

(ii) Identify any two components of Gross Investments indicated in the given image. *1*

GROSS INVESTMENTS

PANEL A	PANEL B	PANEL C
		

(iii) Briefly explain any one component of Gross Investments. *2*

नोट : *निम्नलिखित प्रश्न केवल* ***दृष्टिबाधित परीक्षार्थियों*** *के लिए प्रश्न संख्या* ***15(ख)*** *के स्थान पर है।*

सकल निवेश के किन्हीं दो घटकों की व्याख्या कीजिए। *4*

16. निम्नलिखित गद्य का ध्यानपूर्वक अध्ययन कीजिए :

आर्थिक सर्वेक्षण 2024 – 25 के अनुसार, वित्त वर्ष 2025 – 26 के लिए सरकार के बजट अनुमानों में यह इंगित किया गया है कि, सकल प्रत्यक्ष कर राजस्व में 12·7% की वृद्धि होगी, जबकि सकल अप्रत्यक्ष कर संग्रह वित्त वर्ष 2024 – 25 की तुलना में 8·3% से बढ़ने की संभावना है।

प्रत्यक्ष करों में आयकर व निगम कर सम्मिलित होते हैं, जो कि गृहस्थों व फर्मों द्वारा अर्जित आय व लाभ को दर्शाते हैं। ये सरकार की राजस्व वृद्धि में महत्त्वपूर्ण भूमिका निभाते हैं। अप्रत्यक्ष करों में वस्तु व सेवा कर (GST), सीमा शुल्क व अन्य लेनदेन-आधारित शुल्क सम्मिलित होते हैं।

प्रत्यक्ष करों के लिए अनुमानित उच्च वृद्धि दर बेहतर अनुपालन व सुधारों के माध्यम से कर उत्प्लावन (Tax Buoyancy) की वृद्धि की दिशा में एक कदम है। दूसरी ओर, अप्रत्यक्ष करों को उपभोग प्रवृत्तियों व वस्तु व सेवा कर (GST) प्रशासन में सुधार से लाभान्वित होने की उम्मीद है। एक संतुलित कर रणनीति का उद्देश्य राजकोषीय सुदृढ़ीकरण व सतत आर्थिक विकास को समर्थन देते हुए संसाधन जुटाना है।

उपर्युक्त गद्य तथा सामान्य ज्ञान के आधार पर, निम्नलिखित प्रश्नों के उत्तर दीजिए :

(i) उपर्युक्त गद्य में इंगित दो प्रकार के करों के मध्य उपयुक्त उदाहरणों सहित अंतर स्पष्ट कीजिए। *4*

(ii) सरकार द्वारा दिए गए कर अनुमानों के संभावित परिणामों की विस्तार से व्याख्या कीजिए। *2*

17. (क) मान लीजिए, किसी काल्पनिक अर्थव्यवस्था के लिए, निम्नलिखित आँकड़े दिए गए हैं :

आय (Y)	उपभोग (C)	निवेश (I)	समग्र माँग (AD)
0	20	20	40
100	100	20	–
200	180	20	–
300	260	20	280

(i) दी गई तालिका में लुप्त मानों (missing values) की गणना कीजिए। *1*

(ii) 'प्रभावी माँग' को परिभाषित कीजिए। *2*

(iii) दिए गए आँकड़ों के आधार पर, यह कहा जा सकता है कि आय का संतुलन स्तर 300 है।

क्या आप सहमत हैं ? यदि नहीं, तो आय के संतुलन स्तर को प्राप्त करने के लिए अपनाई जाने वाली समायोजन प्रक्रिया की व्याख्या कीजिए। *3*

अथवा

Note : *The following question is for* ***Visually Impaired candidates*** *only in lieu of* ***Q. no. 15 (b).***

Explain any two components of Gross Investments. *4*

16. Read the following passage carefully :

According to the Economic Survey 2024 – 25, the government's budget projections for the fiscal year 2025 – 26 indicate that gross direct tax revenue will rise by 12·7%, while gross indirect tax collections are expected to grow by 8·3% relative to FY 2024 – 25.

Direct taxes include income tax and corporate tax, reflecting earnings and profits of households and firms. It plays a key role in revenue growth of the government. Indirect taxes encompass Goods and Service Tax (GST), custom duties and other transaction-based levies.

Higher growth rate projected for direct taxes suggests a push to enhance tax buoyancy through improved compliance and reforms. On the other hand, indirect taxes are expected to benefit from consumption trends and Goods and Services Tax (GST) administration improvements. The balance tax strategy aims to mobilise resources while supporting fiscal consolidation and sustainable economic growth.

On the basis of the above passage and common understanding, answer the following questions :

(i) Differentiate between the two types of taxes indicated in the above text, with suitable examples. *4*

(ii) Elaborate the likely consequences of the tax projections made by the government. *2*

17. (a) Assuming for a hypothetical economy, the following data is given :

Income (Y)	Consumption (C)	Investment (I)	Aggregate Demand (AD)
0	20	20	40
100	100	20	–
200	180	20	–
300	260	20	280

(i) Calculate the missing values in the given schedule. *1*

(ii) Define the term 'Effective Demand'. *2*

(iii) On the basis of the given data, it can be said that the equilibrium level of income is 300.

Do you agree ? If not, explain the adjustment mechanism that may take place to attain equilibrium level of income. *3*

OR

(ख) मान लीजिए कि किसी अर्थव्यवस्था में, निवेश व्यय में प्रत्येक ₹ 1 की वृद्धि से राष्ट्रीय आय में ₹ 5 की वृद्धि होती है।

निम्नलिखित की गणना कीजिए :

(i) निवेश गुणक (K) का मूल्य। *1*

(ii) उपभोग व्यय में परिवर्तन, यदि आय ₹ 300 से ₹ 400 हो जाती है। *3*

(iii) "औसत उपभोग प्रवृत्ति (APC) व औसत बचत प्रवृत्ति (APS) का योग सदैव इकाई के बराबर होता है।"

उपयुक्त तर्क की सहायता से दिए गए कथन की पुष्टि कीजिए। *2*

खण्ड ख
भारतीय आर्थिक विकास

18. 2009 में, भारत सरकार ने 6 – 14 वर्ष की आयु वर्ग के सभी बच्चों के लिए नि:शुल्क शिक्षा को मौलिक अधिकार बनाने के लिए _____ पारित किया था। *1*

(रिक्त स्थान की पूर्ति के लिए सही विकल्प का चयन कीजिए)

(A) मध्याह्न भोजन योजना
(B) जन धन योजना
(C) तपस मजूमदार समिति
(D) शिक्षा का अधिकार अधिनियम

19. निम्नलिखित कथनों : अभिकथन (A) और कारण (R) का अध्ययन कीजिए। नीचे दिए गए विकल्पों में से सही विकल्प का चयन कीजिए : *1*

अभिकथन (A) : भारत विभिन्न क्षेत्रीय व आर्थिक समूहों जैसे ब्रिक्स, जी-20 आदि का सदस्य है।

कारण (R) : आर्थिक व क्षेत्रीय समूहों की सदस्यता किसी राष्ट्र को अन्य राष्ट्रों की तुलना में अपनी शक्तियों व कमजोरियों को समझने में सहायता करती है।

विकल्प :

(A) अभिकथन (A) और कारण (R) दोनों सत्य हैं और कारण (R), अभिकथन (A) की सही व्याख्या करता है।
(B) अभिकथन (A) और कारण (R) दोनों सत्य हैं, परंतु कारण (R), अभिकथन (A) की सही व्याख्या ***नहीं*** करता है।
(C) अभिकथन (A) सत्य है, परंतु कारण (R) असत्य है।
(D) अभिकथन (A) असत्य है, परंतु कारण (R) सत्य है।

(b) Suppose in an economy, every ₹ 1 increase in investment expenditure leads to an increase of ₹ 5 in the National Income.

Calculate the following :

(i) Value of Investment Multiplier (K). *1*

(ii) Change in consumption expenditure, if income changes from ₹ 300 to ₹ 400. *3*

(iii) "Sum of Average Propensity to Consume (APC) and Average Propensity to Save (APS) is always equal to one."

Justify the given statement with the help of a suitable argument. *2*

SECTION B
Indian Economic Development

18. In 2009, the Government of India came up with the _____ to make free education, a fundamental right for all children in the age group of 6 – 14 years. *1*

(Choose the correct option to fill in the blank)

(A) Mid-Day Meal Scheme (B) Jan Dhan Yojana

(C) Tapas Majumdar Committee (D) Right to Education Act

19. Read the following statements : Assertion (A) and Reason (R). Choose the correct option from those given below : *1*

Assertion (A) : India is a member of various regional and economic groupings such as BRICS, G20, etc.

Reason (R) : Membership of economic and regional groupings helps a nation to understand their strengths and weaknesses in comparison to other nations.

Options :

(A) Both Assertion (A) and Reason (R) are true, and Reason (R) is the correct explanation of the Assertion (A).

(B) Both Assertion (A) and Reason (R) are true, but Reason (R) is ***not*** the correct explanation of the Assertion (A).

(C) Assertion (A) is true, but Reason (R) is false.

(D) Assertion (A) is false, but Reason (R) is true.

20. औपनिवेशिक शासन के दौरान निर्यात अधिशेष का उपयोग अंग्रेज़ों द्वारा _____ किया गया। *1*

(i) भारत में सोना व चाँदी लाने के लिए

(ii) युद्ध का व्यय उठाने के लिए

(iii) अदृश्य मदों के आयात के लिए

(रिक्त स्थान की पूर्ति के लिए सही विकल्प का चयन कीजिए)

विकल्प :

(A) केवल (i) (B) (i) और (ii)

(C) (i) और (iii) (D) (ii) और (iii)

21. 1950 में भारत सरकार द्वारा, संसाधनों के सबसे प्रभावी व संतुलित उपयोग के लिए योजनाएँ लागू करने के लिए _____ की स्थापना की गई थी। *1*

(रिक्त स्थान की पूर्ति के लिए सही विकल्प का चयन कीजिए)

(A) नीति आयोग (B) योजना आयोग

(C) कर्वे समिति (D) विश्व व्यापार संगठन

22. स्वयं-सहायता समूह (SHGs) का प्रादुर्भाव औपचारिक साख प्रणाली में रह गई कमियों को दूर करने के लिए हुआ है, क्योंकि ये _____ । *1*

(रिक्त स्थान की पूर्ति के लिए सही विकल्प का चयन कीजिए)

(A) उपयुक्त जमानत (collateral) प्राप्त करने के बाद ऋण देते हैं

(B) उच्च ब्याज दर पर ऋण देते हैं

(C) बड़े अनुपात में मितव्ययिता को प्रोत्साहन देते हैं

(D) प्राय: सदस्यों को जमानत-मुक्त ऋण प्रदान करते हैं

23. ग्रामीण क्षेत्रों में, पशुधन, मत्स्यपालन व अन्य ग़ैर-कृषि गतिविधियों जैसे नवीन क्षेत्रों की ओर विविधीकरण _____ के लिए आवश्यक है। *1*

(i) कृषि क्षेत्र में जोखिम को कम करने

(ii) असंवहनीय (unsustainable) आजीविका विकल्प प्रदान करने

(iii) पूरक रोजगार प्रदान करने

(रिक्त स्थान की पूर्ति के लिए सही विकल्प का चयन कीजिए)

विकल्प :

(A) केवल (i) (B) (i) और (ii)

(C) (i) और (iii) (D) (i), (ii) और (iii)

20. The export surplus during the colonial rule was used by the Britishers to _____. *1*

(i) Bring gold and silver to India

(ii) Incur expenses on war

(iii) Import invisible items

(Choose the correct option to fill in the blank)

Options :

(A) Only (i) (B) (i) and (ii)

(C) (i) and (iii) (D) (ii) and (iii)

21. _____ was set up by the Government of India in 1950 to formulate plans for the most effective and balanced utilisation of resources. *1*

(Choose the correct option to fill in the blank)

(A) NITI Aayog (B) Planning Commission

(C) Karve Committee (D) World Trade Organisation

22. Self-Help Groups (SHGs) have emerged to fill the gap in the formal credit system as they _____. *1*

(Choose the correct option to fill in the blank)

(A) Provide loan after obtaining suitable collateral

(B) Lend at a high rate of interest

(C) Promote thrift in larger proportions

(D) Generally provide collateral-free credit to their members

23. In the rural areas, diversification towards new areas such as livestock, fisheries and other non-agricultural activities is necessary to _____. *1*

(i) Reduce the risk from agricultural sector

(ii) Provide unsustainable livelihood options

(iii) Provide supplementary employment

(Choose the correct option to fill in the blank)

Options :

(A) Only (i) (B) (i) and (ii)

(C) (i) and (iii) (D) (i), (ii) and (iii)

24. पहचान कीजिए कि, निम्नलिखित में से कौन-सी धारणीय विकास की एक रणनीति ***नहीं*** है । *1*

(सही विकल्प का चयन कीजिए)

(A) सौर-पैनलों का उपयोग

(B) जैव-कीट का उपयोग

(C) विद्युत उत्पादन के लिए कोयले का उपयोग

(D) लघु-जल-विद्युत संयंत्रों का उपयोग

25. निम्नलिखित तालिका एक गाँव में जनसंख्या व श्रमिकों के वितरण को प्रदर्शित करती है :

कुल जनसंख्या	उन व्यक्तियों की संख्या जो कार्य में इच्छुक व सक्षम हैं	उन व्यक्तियों की संख्या जो कार्यरत (नियुक्त) हैं
2000	1200	800

गाँव के लिए श्रमिक – जनसंख्या अनुपात _____% होगा। *1*

(रिक्त स्थान की पूर्ति के लिए सही विकल्प का चयन कीजिए)

(A) 80 (B) 40

(C) 60 (D) 20

26. निम्नलिखित कथनों का ध्यानपूर्वक अध्ययन कीजिए : *1*

कथन I : भारत के व्यवस्थित विऔद्योगीकरण के पीछे औपनिवेशिक सरकार के दोहरे ध्येय थे।

कथन II : अंग्रेज़ों ने भारत को अपने आधुनिक उद्योगों के लिए कच्चे माल के आयातक मात्र तक सीमित कर दिया था।

दिए गए कथनों के आलोक में, निम्नलिखित में से सही विकल्प का चयन कीजिए :

(A) कथन I सत्य है और कथन II असत्य है।

(B) कथन I असत्य है और कथन II सत्य है।

(C) कथन I और II दोनों सत्य हैं।

(D) कथन I और II दोनों असत्य हैं।

27. विभिन्न औद्योगिक प्रभागों में कार्यरत व्यक्तियों को तीन प्रमुख क्षेत्रों में वर्गीकृत किया जा सकता है — प्राथमिक क्षेत्र, द्वितीयक क्षेत्र तथा तृतीयक क्षेत्र।

पहचान कीजिए कि, निम्नलिखित में से कौन-सा विकल्प प्राथमिक क्षेत्र को दर्शाता है। *1*

(A) कृषि

(B) कृषि, खनन व उत्खनन

(C) कृषि, विद्युत, गैस व जल आपूर्ति

(D) परिवहन व भंडारण

28. "समानता के साथ संवृद्धि" के योजना उद्देश्य की व्याख्या कीजिए। *3*

24. Identify, which of the following is ***not*** a strategy of sustainable development. *1*

(Choose the correct option)

(A) Use of Solar Panels
(B) Use of Bio-Pests
(C) Use of coal to produce electricity
(D) Use of Mini-Hydel Plants

25. The following table shows the distribution of population and workers in a village :

Total population	Number of people who are willing and able to work	Number of people who are employed
2000	1200	800

The Worker – Population ratio for village would be _____%. *1*

(Choose the correct option to fill in the blank)

(A) 80 (B) 40
(C) 60 (D) 20

26. Read the following statements carefully : *1*

Statement I : The colonial government had dual objectives behind the systematic deindustrialization of India.

Statement II : The British reduced India to a mere importer of raw materials for the its modern industries.

In the light of the given statements, choose the correct option from the following :

(A) Statement I is true and Statement II is false.
(B) Statement I is false and Statement II is true.
(C) Both Statements I and II are true.
(D) Both Statements I and II are false.

27. Working persons engaged in various industrial divisions can be classified into three major sectors — Primary sector, secondary sector and tertiary sector.

Identify, which of the following option demonstrates the primary sector. *1*

(A) Agriculture
(B) Agriculture, mining and quarrying
(C) Agriculture, electricity, gas and water supply
(D) Transport and storage

28. Explain the Planning objective of "Growth with Equity". *3*

29. (क) "स्वतंत्रता के समय, भारत व पाकिस्तान दोनों को समान औपनिवेशिक आर्थिक संरचनाएँ विरासत में मिली थीं। दोनों राष्ट्रों ने आर्थिक नियोजन की कई एक जैसी रणनीतियाँ अपनाई थीं।"

भारत व पाकिस्तान के विकास पथ में ऐसी किन्हीं दो समानताओं की व्याख्या कीजिए। *3*

अथवा

(ख) "1958 में, चीन ने एक निश्चित उद्देश्य के साथ ग्रेट लीप फॉरवर्ड (GLF) अभियान प्रारंभ किया।"

(i) ग्रेट लीप फॉरवर्ड (GLF) अभियान की शुरुआत के पीछे का तर्काधार बताइए। *2*

(ii) ग्रेट लीप फॉरवर्ड (GLF) अभियान की किन्हीं दो विफलताओं का उल्लेख कीजिए। *1*

30. दिए गए आँकड़ों के आधार पर, भारत व चीन के सकल घरेलू उत्पाद (GDP) की वार्षिक वृद्धि पर टिप्पणी कीजिए। *4*

सकल घरेलू उत्पाद की वार्षिक वृद्धि (%), 1980 – 2017			
देश	1980 – 90	2015 – 2017	2022
भारत	5·7	7·3	7·0
चीन	10·3	6·8	3·0
पाकिस्तान	6·3	5·3	4·8

31. निम्नलिखित चित्र का ध्यानपूर्वक अध्ययन कीजिए : *4*



दिए गए चित्र की व्याख्या कीजिए और परिवर्तित उत्पादन व उपभोग रूपरेखा के परिणामस्वरूप पर्यावरण संकट की परिघटना पर टिप्पणी कीजिए।

नोट : *निम्नलिखित प्रश्न केवल* ***दृष्टिबधित परीक्षार्थियों*** *के लिए प्रश्न संख्या* ***31*** *के स्थान पर है।*

"पर्यावरण संकट एक हाल ही की परिघटना है, जो उत्पादन व उपभोग रूपरेखा में परिवर्तन का परिणाम है।" मान्य तर्क देते हुए, इस कथन की पुष्टि कीजिए। *4*

29. (a) "At the time of independence, both India and Pakistan inherited similar colonial economic structures. Both the nations adopted many similar economic planning strategies."
Explain any two such similarities in the developmental path of India and Pakistan. *3*

OR

(b) "In 1958, China launched the Great Leap Forward (GLF) campaign with a definite aim."

(i) State the rationale behind the introduction of the Great Leap Forward (GLF) campaign. *2*

(ii) State any two failures of the Great Leap Forward (GLF) campaign. *1*

30. On the basis of the given data, comment upon the annual growth of Gross Domestic Product (GDP) of India and China. *4*

Annual Growth of Gross Domestic Product (%), 1980 – 2017			
Country	1980 – 90	2015 – 2017	2022
India	5·7	7·3	7·0
China	10·3	6·8	3·0
Pakistan	6·3	5·3	4·8

31. Study the following image carefully : *4*



Interpret the given image and comment upon the phenomenon of environmental crisis as a result of changed production and consumption patterns.

Note : *The following question is for* ***Visually Impaired candidates*** *only in lieu of* ***Q. no. 31.***

"Environmental crisis is a recent phenomenon, which is a result of changing production and consumption patterns."
Justify the statement giving valid arguments. *4*

32. (क) (i) 'मानव पूँजी' को परिभाषित कीजिए। *1*

(ii) मानव पूँजी निर्माण के स्रोत के रूप में 'कार्यस्थल प्रशिक्षण' पर व्यय की व्याख्या कीजिए। *3*

अथवा

(ख) रेयांश एक विद्यालय में, एक शिक्षक के रूप में कार्यरत है। उसे एक निश्चित मासिक वेतन, सामाजिक सुरक्षा लाभ, सवेतन अवकाश व चिकित्सा भत्ते के लाभ प्राप्त होते हैं। उसका मित्र मोहन एक छोटी-सी खिलौने की दुकान में कार्यरत है। उसकी बहुत अल्प आय है, उसके पास भविष्य निधि, सवेतन अवकाश या स्वास्थ्य बीमा जैसी कोई भी सुविधा उपलब्ध नहीं है।

रेयांश व मोहन जिन क्षेत्रों में कार्यरत हैं, उनके प्रकारों को वर्गीकृत कीजिए तथा दोनों क्षेत्रों के मध्य अंतर को उजागर कीजिए। *4*

33. निम्नलिखित गद्य को ध्यानपूर्वक पढ़िए :

परंपरागत कृषि विकास योजना (PKVY)

परंपरागत कृषि विकास योजना (PKVY) का उद्देश्य जैविक कृषि को प्रोत्साहित करना है, जिसके परिणामस्वरूप मृदा स्वास्थ्य में सुधार होता है । यह 'भागीदारी गारंटी प्रणाली – भारत' (PGS – India) को प्रोत्साहित करता है, जो एक सरल प्रमाणन प्रणाली है, जहाँ कृषक व उपभोक्ता सीधे प्रक्रिया में भाग लेते हैं।

इस योजना में 2025 – 26 तक अतिरिक्त 6,00,000 हेक्टेयर क्षेत्र को जैविक कृषि के अंतर्गत लाने का प्रस्ताव है। इसका उद्देश्य पर्यावरण-अनुकूल, अल्प-लागत वाली तकनीकों को अपनाकर रसायनों व कीटनाशक अपशिष्टों से मुक्त कृषि उत्पादों का उत्पादन करना है।

परंपरागत कृषि विकास योजना (PKVY) के प्रमुख केन्द्र-बिंदु क्षेत्र हैं :

- प्राकृतिक संसाधन आधारित एकीकृत व जलवायु अनुकूल धारणीय कृषि प्रणाली को प्रोत्साहन देना, जिससे मृदा उर्वरता का रखरखाव व वृद्धि, प्राकृतिक संसाधन संरक्षण, कृषि पोषक-तत्त्वों का पुन:-चक्रण व बाह्य आगतों (कारकों) पर निर्भरता को न्यूनतम करना सुनिश्चित हो सके।
- धारणीय जैविक पद्धतियों के माध्यम से कृषि लागत को कम करना तथा कृषकों की आय में वृद्धि करना।
- मानव उपभोग के लिए रसायन-मुक्त व पौष्टिक भोजन प्रदान करना।
- अल्प-लागत वाली, पारंपरिक व कृषक-अनुकूल प्रौद्योगिकियों का उपयोग करके पर्यावरण की सुरक्षा करना।
- स्थानीय व राष्ट्रीय बाज़ारों के साथ प्रत्यक्ष बाज़ार संपर्क के माध्यम से कृषकों को उद्यमी बनने में सहायता करना।

उपर्युक्त गद्य तथा सामान्य ज्ञान के आधार पर, निम्नलिखित प्रश्नों के उत्तर दीजिए :

(i) जैविक कृषि को परिभाषित कीजिए। जैविक कृषि के किन्हीं दो लाभों की व्याख्या कीजिए। *1+2*

(ii) जैविक कृषि में परंपरागत कृषि विकास योजना (PKVY) के किन्हीं दो महत्त्वपूर्ण क्षेत्रों की व्याख्या कीजिए। *3*

32. (a) (i) Define 'Human Capital'. *1*

(ii) Explain expenditure on 'On-the-job training' as a source of human capital formation. *3*

OR

(b) Rayansh works as a teacher in a school. He receives a fixed monthly salary, social security benefits, paid leave and medical allowances. His friend Mohan works at a small toy shop. He has very little income, he does not have access to provident fund, paid leave or health insurance.

Classify the types of sectors Rayansh and Mohan are working in and highlight the distinction between the two sectors. *4*

33. Read the following passage carefully :

Paramparagat Krishi Vikas Yojana (PKVY)

Paramparagat Krishi Vikas Yojana (PKVY) aims at promoting organic farming, in turn resulting in improvement of soil health. It promotes Participatory Guarantee System – India (PGS – India), a simple certification system, where farmers and consumers participate directly in the process.

The scheme proposes to cover additional 6,00,000 hectare area under organic farming till 2025 – 26. The objective is to produce agricultural products free from chemicals and pesticide residues by adopting eco-friendly, low-cost technologies.

Key focus areas of Paramparagat Krishi Vikas Yojana (PKVY) :

- Promote natural resource based integrated and climate resilient sustainable farming systems that ensure maintenance and increase of soil fertility, natural resource conservation, on farm nutrients recycling and minimising dependence on external inputs.
- Reduce farming costs and increase farmers' income through sustainable organic practices.
- Chemical-free and nutritious food for human consumption.
- Protect the environment by using low-cost, traditional and farmer-friendly technologies.
- Help farmers become entrepreneurs through direct market linkages with local and national markets.

On the basis of the above passage and common understanding, answer the following questions :

(i) Define Organic Farming. Explain any two merits of organic farming. *1+2*

(ii) Explain any two thrust areas of Paramparagat Krishi Vikas Yojana (PKVY) in organic farming. *3*

34. (क) (i) "स्वतंत्रता के बाद से लेकर 1990 के दशक तक, भारत की अंतर्मुखी व्यापार नीति को विभिन्न व्यापार प्रतिबंधों द्वारा समर्थित किया गया था।"

क्या आप दिए गए कथन से सहमत हैं ? अपने उत्तर के समर्थन में मान्य स्पष्टीकरण दीजिए। *3*

(ii) 'आत्मनिर्भर भारत पहल', उसी आत्मनिर्भरता की भावना को अग्रगामी करती है, जिसे सरकार ने 1947 के उपरांत अपनाया था।

दिए गए कथन के आलोक में, यह स्पष्ट कीजिए कि स्वतंत्रता उपरांत आत्मनिर्भरता को एक महत्त्वपूर्ण योजना उद्देश्य क्यों माना गया था। *3*

अथवा

(ख) (i) 1991 की नई आर्थिक नीति (NEP) ने प्रचलित स्थितियों को सुधारने के लिए स्थायित्वकारी उपाय व संरचनात्मक उपाय अपनाए थे।"

इन उपायों की संक्षेप में चर्चा कीजिए। *3*

(ii) "औद्योगिक नीति संकल्प (IPR), 1956 ने सभी उद्योगों को राज्य के स्वामित्व व नियंत्रण पर आधारित विभिन्न श्रेणियों में वर्गीकृत किया था।"

क्या आप उपर्युक्त कथन से सहमत हैं ? अपने उत्तर के समर्थन में मान्य कारण दीजिए। *3*

34. (a) (i) "During the post-independence era till 1990s, India's inward-looking trade policy was supported by various trade barriers."

Do you agree with the given statement ? Give valid explanation in support of your answer. *3*

(ii) The 'Atmanirbhar Bharat Initiative' carries forward the same spirit of self-reliance, which was adopted by the Government after 1947.

In the light of the given statement, explain why self-reliance was considered as an important planning objective after independence. *3*

OR

(b) (i) The New Economic Policy (NEP) of 1991 took stabilisation measures and structural measures to correct the prevailing situations.

Briefly discuss these measures. *3*

(ii) "The Industrial Policy Resolution (IPR), 1956 classified all the industries based on state ownership and control in various categories."

Do you agree with the above statement ? Give valid reasons in support of your answer. *3*

Marking Scheme
Strictly Confidential
(For Internal and Restricted use only)
Senior School Certificate Examination,2026

ECONOMICS (SUBJECT CODE – 030)

(PAPER CODE – 58/5/2)

General Instructions: -

1	You are aware that evaluation is the most important process in the actual and correct assessment of the candidates. A small mistake in evaluation may lead to serious problems which may affect the future of the candidates, education system and teaching profession. To avoid mistakes, it is requested that before starting evaluation, you must read and understand the spot evaluation guidelines carefully.
2	**"Evaluation policy is a confidential policy as it is related to the confidentiality of the examinations conducted, Evaluation done and several other aspects. Its' leakage to public in any manner could lead to derailment of the examination system and affect the life and future of millions of candidates. Sharing this policy/document to anyone, publishing in any magazine and printing in News Paper/Website etc may invite action under various rules of the Board and IPC."**
3	Evaluation is to be done as per instructions provided in the Marking Scheme. It should not be done according to one's own interpretation or any other consideration. Marking Scheme should be strictly adhered to and religiously followed. **However, while evaluating, answers which are based on latest information or knowledge and/or are innovative, they may be assessed for their correctness otherwise and due marks be awarded to them. In Class XII, while evaluating competency-based questions, please try to understand given answer and even if reply is not from marking scheme but correct competency is enumerated by the candidate, due marks should be awarded.**
4	The Marking scheme carries only suggested value points for the answers. These are in the nature of Guidelines only and do not constitute the complete answer. The students can have their own expression and if the expression is correct, the due marks should be awarded accordingly.
5	The Head-Examiner must go through the first five answer books evaluated by each evaluator on the first day, to ensure that evaluation has been carried out as per the instructions given in the Marking Scheme. If there is any variation, the same should be zero after deliberation and discussion. The remaining answer books meant for evaluation shall be given only after ensuring that there is no significant variation in the marking of individual evaluators.
6	Evaluators will mark(√) wherever answer is correct. For wrong answer CROSS 'X" be marked. Evaluators will not put right (✓)while evaluating which gives an impression that answer is correct and no marks are awarded. **This is most common mistake which evaluators are committing.**

7	If a question has parts, please award marks on the right-hand side for each part. Marks awarded for different parts of the question should then be totalled up and written in the left-hand margin and encircled. This may be followed strictly.
8	If a question does not have any parts, marks must be awarded in the left-hand margin and encircled. This may also be followed strictly.
9	If a student has attempted an extra question, answer of the question deserving more marks should be retained and the other answer scored out with a note **"Extra Question"**.
10	No marks to be deducted for the cumulative effect of an error. It should be penalized only once.
11	A full scale of marks 80 has to be used. Please do not hesitate to award full marks if the answer deserves it.
12	Every examiner has to necessarily do evaluation work for full working hours i.e., 8 hours every day and evaluate 20 answer books per day in main subjects and 25 answer books per day in other subjects (Details are given in Spot Guidelines).
13	Ensure that you do not make the following common types of errors committed by the Examiner in the past:- Giving more marks for an answer than assigned to it. ● Wrong totaling of marks awarded on an answer. ● Wrong transfer of marks from the inside pages of the answer book to the title page. ● Wrong question wise totaling on the title page. ● Leaving answer or part thereof unassessed in an answer book. ● Wrong totaling of marks of the two columns on the title page. ● Wrong grand total. ● Marks in words and figures not tallying/not same. ● Wrong transfer of marks from the answer book to online award list. ● Answers marked as correct, but marks not awarded. (Ensure that the right tick mark is correctly and clearly indicated. It should merely be a line. Same is with the X for incorrect answer.) ● Half or a part of answer marked correct and the rest as wrong, but no marks awarded.
14	While evaluating the answer books if the answer is found to be totally incorrect, it should be marked as cross (X) and awarded zero (0)Marks.
15	Any un assessed portion, non-carrying over of marks to the title page, or totaling error detected by the candidate shall damage the prestige of all the personnel engaged in the evaluation work as also of the Board. Hence, in order to uphold the prestige of all concerned, it is again reiterated that the instructions be followed meticulously and judiciously.
16	The Examiners should acquaint themselves with the guidelines given in the "**Guidelines for spot Evaluation**" before starting the actual evaluation.
17	Every Examiner shall also ensure that all the answers are evaluated, marks carried over to the title page, correctly totaled and written in figures and words.
18	The candidates are entitled to obtain photocopy of the Answer Book on request on payment of the prescribed processing fee. All Examiners/Additional Head Examiners/Head Examiners are once again reminded that they must ensure that evaluation is carried out strictly as per value points for each answer as given in the Marking Scheme.

MARKING SCHEME

Senior School Certificate Examination 2026

ECONOMICS (Subject Code–030)

[Paper Code: 58/5/2]

Maximum Marks: 80

Q. No.	EXPECTED ANSWER / VALUE POINTS	Marks
	SECTION A **Macro Economics**	
1.	Liabilities for any firm are its debt/what it owes to others. Contrary to that, for a bank _____ are the main liability. (Choose the correct option to fill in the blank) (A) loans (B) reserves (C) deposits (D) assets **Ans. (C) deposits**	**1**
2.	Read the following statements: Assertion (A) and Reason (R). Choose the correct option from those given below: *Assertion (A)*: Transfers from Abroad (remittances) are to be recorded on the credit side of capital account of Balance of Payments (BoP). *Reason (R)*: All the transactions that lead to inflow of foreign currency from the rest of the world are recorded on the credit side of Balance of Payments (BoP). **Options:** (A) Both Assertion (A) and Reason (R) are true and Reason (R) is the correct explanation of Assertion (A). (B) Both Assertion (A) and Reason (R) are true, but Reason (R) is ***not*** the correct explanation of Assertion (A). (C) Assertion (A) is true, but Reason (R) is false. (D) Assertion (A) is false, but Reason (R) is true. **Ans. (D) Assertion (A) is false, but Reason (R) is true.**	**1**
3.	Suppose, for a hypothetical economy, Reserve Ratio (RR) decreases from 25% to 20%, the total deposits would _____ to ₹ _____, if primary deposits are ₹ 1,000. (Choose the correct option to fill in the blanks) (A) increase, 5,000 (B) decrease, 5,000 (C) increase, 4,000 (D) decrease, 4,000 **Ans. (A) increase, 5,000**	**1**
4.	Read the following statements carefully : *Statement I*: Positive externalities refer to the benefits a firm/an individual provides to another for which they are paid. *Statement II*: In case of positive externalities, Gross Domestic Product (GDP) of an economy might lead to an overestimation of the actual welfare. In the light of the given statements, choose the correct option from the following: (A) Statement I is true and Statement II is false. (B) Statement I is false and Statement II is true. (C) Both Statements I and II are true. (D) Both Statements I and II are false. **Ans. (D) Both Statements I and II are false.**	**1**

5.	An economy may operate at a level below full employment due to a deficiency in Aggregate Demand (AD) leading to a/an _____ employment equilibrium. (i) Full (ii) Over (iii) Under (Choose the correct option to fill in the blank) **Options:** (A) Only (i) (B) Only (ii) (C) Only (iii) (D) (ii) and (iii) **Ans. (C) Only (iii)**	**1**
6.	Following are the steps to measure National Income (NNP_{FC}) by Value Added method: (i) Calculate Domestic Income (NDP_{FC}) by subtracting Depreciation and Net Indirect Taxes from GDP_{MP}. (ii) Estimate GDP_{MP} by adding GVA of each firm. (iii) Estimate and add Net Factor Income from Abroad to NDP_{FC} to arrive at NNP_{FC}. (iv) Identify and classify the production units into primary, secondary and tertiary sector. The correct order of arrangement of steps would be: (Choose the correct option) **Options**: (A) (ii), (iii), (i), (iv) (B) (iv), (ii), (i), (iii) (C) (iv), (ii), (iii), (i) (D) (iii), (iv), (ii), (i) **Ans. (B) (iv), (ii), (i), (iii)**	**1**
7.	Under the flexible exchange rate system, the exchange rate is determined by the _____. (i) Government (ii) Demand and supply (iii) Intervention of the Central Bank (Choose the correct option to fill in the blank) **Options:** (A) Only (i) (B) Only (ii) (C) Only (iii) (D) (ii) and (iii) **Ans. (B) Only (ii)**	**1**
8.	Money supply is a _____ variable, as it refers to the total volume of money held by the _____ at a particular point of time. (Choose the correct option to fill in the blanks) (A) stock, banks (B) flow, banks (C) stock, public (D) flow, public **Ans. (C) stock, public**	**1**
9.	With reference to the given diagram, OL indicates _____ 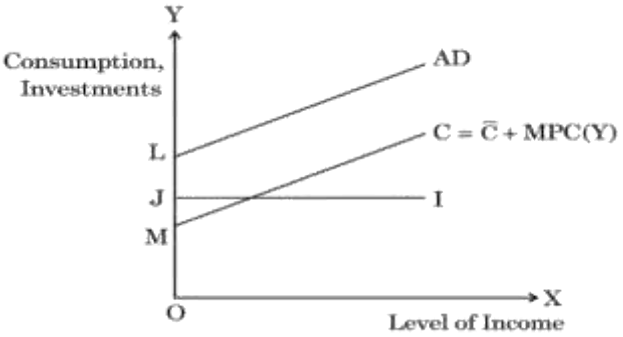 (Choose the correct option to fill in the blank)	

	(i) Autonomous Consumption (ii) Autonomous Investment (iii) Induced Consumption (iv) Induced Investment **Options:** (A) Only (i) (B) Only (ii) (C) Sum of (i) and (ii) (D) Sum of (i) and (iii) **Ans. (C) Sum of (i) and (ii)**	**1**
	Note: *The following question is for* ***Visually Impaired candidates*** *only in lieu of Q. no.* ***9****.* _____ refers to that consumption, which is independent of the level of income. (Choose the correct option to fill in the blank) (A) Autonomous Consumption (B) Induced Consumption (C) Break-even level (D) Autonomous Investment and Consumption **Ans. (A) Autonomous Consumption**	**1**
10.	''The Ministry of Statistics and Programme Implementation (MoSPI) is underway to revise the base year of Gross Domestic Product (GDP). The base year is revised periodically to better capture the structural changes happening in the economy. The proposed new base year for the GDP is 2022 – 23.'' The step taken by the Government of India is for revision of____ Gross Domestic Product (GDP), as it is measured at _____ prices. (Choose the correct option to fill in the blanks) (A) Real, constant (B) Nominal, current (C) Real, current (D) Nominal, constant **Ans. (A) Real, constant**	**1**
11.	Estimate the value of 'Income from Property and Entrepreneurship' on the basis of the given data:	

S.No.	*Items*	*Amount (in ₹ crore)*
(i)	Wages and salaries in cash	1,000
(ii)	Employer's contribution to social security schemes	300
(iii)	Rent	500
(iv)	Rent-free accommodation by the employer	700
(v)	Royalty	200
(vi)	Interest	150
(vii)	Corporate Tax	70
(viii)	Savings of private corporate sector	130
(ix)	Indirect Taxes	40
(x)	Dividends	60

Ans. Income from Property & Entrepreneurship = (iii)+(v) + (vi) + (vii) + (viii) + (x)	**1 ½**
= 500+200 + 150 + 70 + 130 + 60	**1**
= ₹ 1,110 crore	**½**
	3
12. (a) "Repo Rate and Bank Rate are two different measures, but a change in either of them may have the similar implication on the money supply in an economy." Defend or refute the given statement, giving valid explanation in support of your answer. **Ans. The given statement is defended. Repo Rate and Bank Rate are the rates at which the Central Bank lends money to the commercial banks, the key difference lies in terms of short-term and long-term needs.**	**3**

	A change in either of them will have the similar implication on the money supply in the economy. A decrease in Repo/Bank Rate by the Central Bank will encourage the commercial banks to decrease their lending rates making the credit more affordable for the general public, thereby, encouraging the borrowings. Consequently, money supply will rise and vice versa. (To be marked as a whole)	
	OR	
(b)	"The Reserve Bank of India (RBI) is the sole authority for issuing currency notes in India, with an exception of ₹1 denomination that is issued by the Ministry of Finance." Do you agree with the given statement? Explain the rationale behind the monopoly enjoyed by the Reserve Bank of India (RBI) on this front. **Ans. Yes. The Reserve Bank of India (RBI) is the sole authority for issuing currency in India, except for the ₹1 note and coins, which are issued by the Ministry of Finance. The monopoly of RBI ensures uniformity in note circulation and strengthens public faith in the currency system. Furthermore, it enables the RBI to effectively regulate the money supply and maintain the value of rupee (₹). (To be marked as a whole)**	**3**
13.	(a) Define Balance of Payments (BoP) Account. **Ans. The Balance of Payments (BoP) account records the transactions in goods, services and assets between residents of a country and the rest of the world for a specified time period typically, a year.**	**1**
	(b) Differentiate between Balance of Trade and Balance of Current Account. **Ans. Balance of Trade (BOT) is the difference between the value of exports and value of imports of goods of a country over a given period of time.**	**1½**
	Whereas; **Balance of Current Account is the difference between the value of exports of visibles, invisibles & unilateral transfers from abroad and value of imports of visibles, invisibles and unilateral transfers to abroad over a given period of time.**	**1½**
		4
14.	Read the following text carefully: "With an objective to improve the growth momentum by stimulating domestic private consumption and investment, the Reserve Bank of India (RBI) announced a reduction in Cash Reserve Ratio (CRR) by 100 basis points (1%)." Based on the above text and common understanding, answer the following questions: (i) Explain the likely cause behind the step taken by the Reserve Bank of India (RBI). **Ans. The likely cause behind reduction in Cash Reserve Ratio (CRR) by Reserve Bank of India (RBI) is to stimulate private consumption and investment in the economy, thereby controlling deficient demand/ deflation.**	**2**
	(ii) Briefly explain the impact of the step taken by the Reserve Bank of India (RBI) on the Aggregate Demand (AD). **Ans. A decrease in the Cash Reserve Ratio (CRR) by the Reserve Bank of India may lead to greater availability of funds with commercial banks. This may increase the lending capacity of commercial banks. Thereby, increasing the money supply and Aggregate Demand in the economy ultimately addressing the issue of deficient demand.**	**2**
		4
15. (a)	A company named Tech Info Ltd. manufactures printers. The company purchases machinery from Germany to manufacture printers. These printers are sold in the domestic and foreign markets to households and dealers. The machinery purchased and printers manufactured, both can be classified as final goods.	

	Do you agree with the given statement? Give valid arguments in support of your answer. **Ans. No.** **Final Goods:** • **Machinery purchased to manufacture printers** • **Printer Sold to Households** **Intermediate Good:** • **Printer Sold to Dealer** **Final goods refer to those goods which are used either for consumption purposes or for investment purpose.** **Whereas, Intermediate goods refer to those goods which are either used for production or resale purposes in the same year.**	 **1** **1** **1** **½** **½**
	OR	**4**
(b)	(i) Define Gross Investments. **Ans. Gross investments refer to addition to the capital stock which includes replacement for the wear and tear which the capital stock undergoes.**	**1**
	(ii) Identify any two components of Gross Investments indicated in the given image. **GROSS INVESTMENTS** 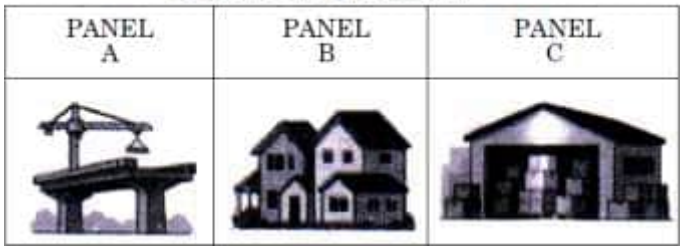 **Ans. Two components indicated in the given image are:** • **Gross Public Investment** • **Gross Residential Construction Investment** **(Any other valid indicated component to be awarded marks)**	 **½** **½**
	(iii) Briefly explain any one component of Gross Investments. **Ans. Gross Public Investment refers to the expenditure incurred by the government on creating fixed assets such as flyovers, roads, dams etc.** **(Any other valid component to be awarded marks)**	 **2**
		4
	*Note: The following question is for **Visually Impaired Candidates** only in lieu of Q. No. **15 (b).*** Explain any two components of Gross Investments. **Ans. Two components of Gross Investments are:** • **Gross Public Investment refers to the expenditure incurred by the government on creating fixed assets such as roads, dams etc.** • **Gross Residential Construction Investment refers to the investment made on the construction of residential houses and buildings by households.**	 **2** **2**
		4
16.	Read the following passage carefully: According to the Economic Survey 2024 – 25, the government's budget projections for the fiscal year 2025 – 26 indicate that gross direct tax revenue will rise by 12.7%, while gross indirect tax collections are expected to grow by 8.3% relative to FY 2024 – 25. Direct taxes include income tax and corporate tax, reflecting earnings and profits of households and firms. It plays a key role in revenue growth of the government. Indirect	

taxes encompass Goods and Service Tax (GST), custom duties and other transaction-based levies.
Higher growth rate projected for direct taxes suggests a push to enhance tax buoyancy through improved compliance and reforms. On the other hand, indirect taxes are expected to benefit from consumption trends and Goods and Services Tax (GST) administration improvements. The balance tax strategy aims to mobilise resources while supporting fiscal consolidation and sustainable economic growth.
On the basis of the above passage and common understanding, answer the following questions:

(i) Differentiate between the two types of taxes indicated in the above text, with suitable examples.

Ans. The two types of taxes indicated in the above text are direct and indirect taxes. **1 ½**
Direct taxes are those taxes whose impact and incidence lies on the same entity. In other words, the liability of paying direct taxes can't be shifted.
For example: Income tax etc. **½**

Whereas;

Indirect taxes are those taxes whose impact and incidence may lie on different entities. In other words, the liability of paying indirect taxes can be shifted. **1 ½**
For example: Goods and Services Tax (GST) etc. **½**
(Any other valid example to be awarded marks)

(ii) Elaborate the likely consequences of the tax projections made by the government.

Ans. The higher growth rate projected for direct taxes suggests a push to enhance tax buoyancy through improved tax compliance and reforms, while indirect taxes are expected to benefit from consumption trends and Goods and Services Tax (GST) administration improvements. **2**
(To be marked as a whole)

6

17. (a) Assuming for a hypothetical economy, the following data is given:

Income (Y)	Consumption (C)	Investment (I)	Aggregate Demand (AD)
0	20	20	40
100	100	20	-
200	180	20	-
300	260	20	280

(i) Calculate the missing values in the given schedule.

Ans.

Income (Y)	**Consumption (C)**	**Investment (I)**	**Aggregate Demand (AD)**	
0	20	20	40	
100	100	20	**120**	**½**
200	180	20	**200**	**½**
300	260	20	280	

(ii) Define the term 'Effective Demand'.

Ans. Effective Demand refers to that level of Aggregate Demand (AD) which can be met by the corresponding Aggregate Supply (AS) in the economy. **2**

(iii) On the basis of the given data, it can be said that the equilibrium level of income is 300.

	Do you agree? If not, explain the adjustment mechanism that may take place to attain equilibrium level of income. **Ans. No. At 300 level of Income (Y), Aggregate Demand (AD) is less than the Aggregate Supply (AS).** **When ex-ante Aggregate Demand is less than ex-ante Aggregate Supply, it means that the households and firms are planning to consume less than what the firms are planning to produce. Thus, the inventories with the producers will rise above the desired level. As a result, the producers may decrease the output to clear the undesired stock of inventories till the equilibrium level of output is attained.** **(To be marked as a whole)**	**3**
	OR	**6**
(b)	Suppose, in an economy, every ₹ 1 increase in investment expenditure leads to an increase of ₹ 5 in the National Income. Calculate the following: (i) Value of Investment Multiplier (K). **Ans. Given, Change in Investment Expenditure (ΔI) = ₹ 1** **Change in National Income (ΔY) = ₹ 5** **Investment Multiplier (K)** $= \frac{\Delta Y}{\Delta I}$ **½** $= \frac{5}{1} = 5$ **½** (ii) Change in consumption expenditure, if income changes from ₹ 300 to ₹ 400. **Ans. Given, Income (Y) changes from ₹ 300 to ₹ 400** **Change in Income (ΔY) = 100** **Investment Multiplier (K)** $= \frac{1}{1\text{-MPC}}$ **1** $5 = \frac{1}{1\text{-MPC}}$ **MPC = 0.8** **½** **As we know, MPC** $= \frac{\Delta C}{\Delta Y}$ **1** **Change in Consumption (ΔC) = 0.8 × 100** **= ₹ 80** **½** (iii) "Sum of Average Propensity to Consume (APC) and Average Propensity to Save (APS) is always equal to one." Justify the given statement with the help of a suitable argument. **Ans. We know that, Income earned may either be consumed or saved, i.e.;** **Y = C + S** **½** **Dividing both sides of the above equation by Y** **1** $\frac{Y}{Y} = \frac{C}{Y} + \frac{S}{Y}$ **1= APC + APS** **½** **Thus, the sum of Average Propensity to Consume (APC) and Average Propensity to Save (APS) is always equal to one.**	
		6
	SECTION B **Indian Economic Development**	
18.	In 2009, the Government of India came up with the _____ to make free education, a fundamental right for all children in the age group of 6 – 14 years. (Choose the correct option to fill in the blank) (A) Mid-Day Meal Scheme (B) Jan Dhan Yojana (C) Tapas Majumdar Committee (D) Right to Education Act **Ans. (D) Right to Education Act**	**1**

19.	Read the following statements: Assertion (A) and Reason (R). Choose the correct option from those given below: *Assertion (A):* India is a member of various regional and economic groupings such as BRICS, G20, etc. *Reason (R):* Membership of economic and regional groupings helps a nation to understand their strengths and weaknesses in comparison to other nations. **Options:** (A) Both Assertion (A) and Reason (R) are true, and Reason (R) is the correct explanation of the Assertion (A). (B) Both Assertion (A) and Reason (R) are true, but Reason (R) is ***not*** the correct explanation of the Assertion (A). (C) Assertion (A) is true, but Reason (R) is false. (D) Assertion (A) is false, but Reason (R) is true. **Ans. (A) Both Assertion (A) and Reason (R) are true, and Reason (R) is the correct explanation of the Assertion (A).**	**1**
20.	The export surplus during the colonial rule was used by the Britishers to _____. (i) Bring gold and silver to India (ii) Incur expenses on war (iii) Import invisible items (Choose the correct option to fill in the blank) **Options:** (A) Only (i) (B) (i) and (ii) (C) (i) and (iii) (D) (ii) and (iii) **Ans. (D) (ii) and (iii)**	**1**
21.	_____ was set up by the Government of India in 1950 to formulate plans for the most effective and balanced utilisation of resources. (Choose the correct option to fill in the blank) (A) NITI Aayog (B) Planning Commission (C) Karve Committee (D) World Trade Organisation **Ans. (B) Planning Commission**	**1**
22.	Self-Help Groups (SHGs) have emerged to fill the gap in the formal credit system as they _____. (Choose the correct option to fill in the blank) (A) Provide loan after obtaining suitable collateral (B) Lend at a high rate of interest (C) Promote thrift in larger proportions (D) Generally provide collateral-free credit to their members **Ans. (D) Generally provide collateral-free credit to their members**	**1**
23.	In the rural areas, diversification towards new areas such as livestock, fisheries and other non-agricultural activities is necessary to _____. (i) Reduce the risk from agricultural sector (ii) Provide unsustainable livelihood options (iii) Provide supplementary employment (Choose the correct option to fill in the blank) **Options :** (A) Only (i) (B) (i) and (ii) (C) (i) and (iii) (D) (i), (ii) and (iii) **Ans. (C) (i) and (iii)**	**1**
24.	Identify, which of the following is ***not*** a strategy of sustainable development. (Choose the correct option) (A) Use of Solar Panels (B) Use of Bio-Pests	

	(C) Use of coal to produce electricity (D) Use of Mini-Hydel Plants **Ans. (C) Use of coal to produce electricity**	**1**
25.	The following table shows the distribution of population and workers in a village: Total Population | Number of people who are willing and able to work | Number of people who are employed 2000 | 1200 | 800 The Worker – Population ratio for village would be _____%. (Choose the correct option to fill in the blank) (A) 80 (B) 40 (C) 60 (D) 20 **Ans. (B) 40**	**1**
26.	Read the following statements carefully: *Statement I:* The colonial government had dual objectives behind the systematic deindustrialization of India. *Statement II:* The British reduced India to a mere importer of raw materials for the its modern industries. In the light of the given statements, choose the correct option from the following: (A) Statement I is true and Statement II is false. (B) Statement I is false and Statement II is true. (C) Both Statements I and II are true. (D) Both Statements I and II are false. **Ans. (A) Statement I is true and Statement II is false.**	**1**
27.	Working persons engaged in various industrial divisions can be classified into three major sectors — Primary sector, secondary sector and tertiary sector. Identify, which of the following option demonstrates the primary sector. (A) Agriculture (B) Agriculture, mining and quarrying (C) Agriculture, electricity, gas and water supply (D) Transport and storage **Ans. (B) Agriculture, mining and quarrying**	**1**
28.	Explain the Planning objective of "Growth with Equity". **Ans. Growth refers to an increase in a country's capacity to produce goods and services, whereas; equity refers to reducing inequality of income and wealth. Thus, growth with equity ensures that the benefits of economic development are enjoyed by all the sections of society. Economists believe that rise in Gross Domestic Product and equitable distribution of income are equally important. Thus, ensuring equitable growth was taken up as an important objective of Indian economic planning.** **(To be marked as a whole)**	**3**
29. (a)	''At the time of independence, both India and Pakistan inherited similar colonial economic structures. Both the nations adopted many similar economic planning strategies.'' Explain any two such similarities in the developmental path of India and Pakistan. **Ans. Two similar developmental strategies adopted by India and Pakistan are:** • **Both the nations have followed the path of mixed economic system involving the public as well as the private sector.** • **Both India and Pakistan adopted import substitution policy in order to protect their domestic industries from foreign competition.** **(Any other valid strategy to be awarded marks)**	**1½** **1½**
	OR	**3**

(b) ''In 1958, China launched the Great Leap Forward (GLF) campaign with a definite aim.''

(i) State the rationale behind the introduction of the Great Leap Forward (GLF) campaign.

Ans. The rationale behind the introduction of Great Leap Forward (GLF) campaign was to promote industrialization in China on a massive scale. People were encouraged to set up industries in their backyards. — **2**

(ii) State any two failures of the Great Leap Forward (GLF) campaign.

Ans. The two failures of the Great Leap Forward (GLF) campaign were:

- **A severe drought caused havoc in China.** — **½**
- **Russia had conflicts with China and it withdrew its professionals.** — **½**

3

---

30. On the basis of the given data, comment upon the annual growth of Gross Domestic Product (GDP) of India and China.

Annual Growth of Gross Domestic Product (%), 1980 – 2017			
Country	1980-90	2015-17	2022
India	5.7	7.3	7.0
China	10.3	6.8	3.0
Pakistan	6.3	5.3	4.8

Ans. The given data indicates that China gained economic strength after the reforms initiated in late 1970's. When many developed countries were finding it difficult to maintain a growth rate of even 5%, China was able to maintain near double-digit growth during the decade of 1980s. The growth rate of China has decelerated to 6.8% in 2015-17 and further to 3.0% in 2022. Whereas; India had maintained a reasonable growth rate of 5.7% in the decade of 1980's, it has shown remarkable progress by registering an annual growth of Gross Domestic Product of 7.3% and 7.0% respectively in 2015-17 and 2022.

(To be marked as a whole) — **4**

---

31. Study the following image carefully:



Interpret the given image and comment upon the phenomenon of environmental crisis as a result of changed production and consumption patterns.

Ans. Owing to rapid population explosion and advent of industrial revolution the demand of resources for both the production and consumption went beyond the rate of regeneration of resources. Consequently, the pressure on the absorptive capacity of the environment increased tremendously. Thus, as indicated in the image above, issues like climate change, biodiversity loss and pollution have intensified, leading to a serious environmental crisis.

(To be marked as a whole) — **4**

	Note: *The following question is for* ***Visually Impaired candidates*** *only in lieu of Q. no.* ***31****.* "Environmental crisis is a recent phenomenon, which is a result of changing production and consumption patterns." Justify the statement giving valid arguments. **Ans. Environmental crisis is a recent phenomenon as with the population explosion and advent of industrial revolution the demand of resources for both the production and consumption went beyond the rate of regeneration of resources. Consequently, the pressure on the absorptive capacity of the environment increased tremendously leading to environmental issues like climate change and pollution.** **(To be marked as a whole)**	**4**
32.	(i) Define 'Human Capital'.	
(a)	**Ans. Human capital refers to the stock of knowledge, skills and ability imbibed in the owner.**	**1**
	(ii) Explain expenditure on 'On-the-job training' as a source of human capital formation. **Ans. On-the-job trainings have become an integral part of work environment in the recent times as they add to the productive capacity of employees. These enable employees to develop skills and adapt modern technologies. Firms encourage such trainings, as the benefits outweigh the costs of these trainings. Thus, expenditure on 'On the-job training' is a source of human capital formation.** **(To be marked as a whole)**	**3**
	OR	**4**
(b)	Rayansh works as a teacher in a school. He receives a fixed monthly salary, social security benefits, paid leave and medical allowances. His friend Mohan works at a small toy shop. He has very little income, he does not have access to provident fund, paid leave or health insurance. Classify the types of sectors Rayansh and Mohan are working in and highlight the distinction between the two sectors.	
	Ans. Rayansh is working in the formal sector.	**½**
	On the other hand; Mohan is working in the informal sector.	**½**
	Formal sector includes all the public sector establishments and those private sector establishments which employ 10 hired workers or more. Formal sector workers are entitled to fair wages and other social security measures such as pension, provident fund, etc. Additionally, they get paid leaves and medical allowances.	**1½**
	Whereas;	
	Informal sector includes those private sector establishments which employ less than 10 hired workers. Workers in the informal sector do not get regular income and social security benefits. They can be dismissed without any compensation. Additionally, they may not get paid leaves and medical allowances.	**1½**
		4
33.	Read the following passage carefully: **Paramparagat Krishi Vikas Yojana (PKVY)** Paramparagat Krishi Vikas Yojana (PKVY) aims at promoting organic farming, in turn resulting in improvement of soil health. It promotes Participatory Guarantee System – India (PGS – India), a simple certification system, where farmers and consumers participate directly in the process. The scheme proposes to cover additional 6,00,000 hectare area under organic farming till 2025 – 26. The objective is to produce agricultural products free from chemicals and pesticide residues by adopting eco-friendly, low-cost technologies.	

	Key focus areas of Paramparagat Krishi Vikas Yojana (PKVY) : • Promote natural resource based integrated and climate resilient sustainable farming systems that ensure maintenance and increase of soil fertility, natural resource conservation, on farm nutrients recycling and minimising dependence on external inputs. • Reduce farming costs and increase farmers' income through sustainable organic practices. • Chemical-free and nutritious food for human consumption. • Protect the environment by using low-cost, traditional and farmer-friendly technologies. • Help farmers become entrepreneurs through direct market linkages with local and national markets. On the basis of the above passage and common understanding, answer the following questions: (i) Define Organic Farming. Explain any two merits of organic farming. **Ans. Organic farming is a system of farming that restores, maintains and enhances the ecological balance.** **Two merits of Organic Farming:** • **Organically grown food has more nutritional value than chemical farming.** • **Organic farming offers a means to substitute costlier agricultural inputs with locally produced organic inputs that are cheaper.** **(Any other valid merit to be awarded marks)** (ii) Explain any two thrust areas of Paramparagat Krishi Vikas Yojana (PKVY) in organic farming. **Ans. The two thrust areas of Paramparagat Krishi Vikas Yojana (PKVY) are:** • **Reduce farming costs and increase farmers' income through sustainable organic practices.** • **Chemical-free and nutritious food for human consumption.** **(Any other valid thrust area to be awarded marks)**	**1** **1** **1** **1½** **1½** **6**
34. (a)	(i) "During the post-independence era till 1990s, India's inward-looking trade policy was supported by various trade barriers." Do you agree with the given statement? Give valid explanation in support of your answer. **Ans. The inward-looking trade policy aimed at replacing/ substituting imports with domestic production. Under this policy, the government protected the domestic industries from foreign competition through various trade barriers like tariffs and quotas.** **Tariffs are the taxes imposed on the imported goods, making them dearer, thereby, discouraging their use. However, Quotas specify the quantity of goods which can be imported. Thus, imposition of both tariffs and quotas acts as trade barriers.** **(To be marked as a whole)** (ii) The 'Atmanirbhar Bharat Initiative' carries forward the same spirit of self-reliance, which was adopted by the Government after 1947. In the light of the given statement, explain why self-reliance was considered as an important planning objective after independence.	**3**

	Ans. The objective of 'Atmanirbhar Bharat Initiative' is to transform India into a self-reliant economy. In the post- independence era, the planning objective of self-reliance was aimed at reducing dependence on other nations, particularly for food requirements. It stressed on the use of domestic resources to avoid foreign interference, as it was feared that the dependence on the imported food supplies, foreign technology and foreign capital may increase foreign interference in the policies of our country. (To be marked as a whole)	**3**
	OR	**6**
(b)	(i) The New Economic Policy (NEP) of 1991 took stabilisation measures and structural measures to correct the prevailing situations. Briefly discuss these measures. **Ans. Stabilisation measures are short-term measures, intended to correct some of the weaknesses in the balance of payments and to bring inflation under control.** **On the other hand, structural measures are long-term measures, aimed at improving the efficiency of the economy and increasing its international competitiveness by removing the rigidities in various segments of the Indian economy.** **(To be marked as a whole)**	**3**
	(ii) "The Industrial Policy Resolution (IPR), 1956 classified all the industries based on state ownership and control in various categories." Do you agree with the above statement? Give valid reasons in support of your answer. **Ans. Yes. The Industrial Policy Resolution 1956 classified industries into three categories:** • **The first category comprised industries to be exclusively owned by the government.** • **The second category consisted of industries in which the private sector could supplement the efforts of the public sector, with the government taking the sole responsibility for starting new units.** • **The third category consisted of the remaining industries which were to be in the private sector. However, these industries were kept under state control through the system of licenses.**	**1** **1** **1**
		6

* * *

विषय : अर्थशास्त्र (030)

अंक योजना – हिन्दी माध्यम

अत्यंत गोपनीय

(प्रश्न पत्र कोड - 58/5/2)

(केवल आंतरिक एवं सीमित उपयोग हेतु)

सीनियर सेकेंडरी स्कूल प्रमाणपत्र परीक्षा, 2026

सामान्य निर्देश: -

1	सीबीएसई ने 2026 की परीक्षा से कक्षा XII की उत्तर पुस्तिका के मूल्यांकन के लिए ऑन स्क्रीन मार्किंग (ओएसएम) शुरू करने का निर्णय लिया है।
2	आप जानते हैं कि उम्मीदवारों के वास्तविक और सही आकलन में मूल्यांकन सबसे महत्वपूर्ण प्रक्रिया है। मूल्यांकन में एक छोटी सी गलती भी गंभीर समस्याओं को जन्म दे सकती है, जिससे उम्मीदवारों, शिक्षा प्रणाली और शिक्षण पेशे के भविष्य पर गहरा असर पड़ सकता है। गलतियों से बचने के लिए, आपसे अनुरोध है कि मूल्यांकन शुरू करने से पहले, मौके पर किए गए मूल्यांकन के दिशानिर्देशों को ध्यानपूर्वक पढ़ें और समझें।
3	"मूल्यांकन नीति एक गोपनीय नीति है क्योंकि यह आयोजित परीक्षाओं, किए गए मूल्यांकन और कई अन्य पहलुओं की गोपनीयता से संबंधित है। किसी भी तरह से इसका सार्वजनिक होना परीक्षा प्रणाली को बाधित कर सकता है और लाखों उम्मीदवारों के जीवन और भविष्य को प्रभावित कर सकता है। इस नीति/दस्तावेज़ को किसी के साथ साझा करना, किसी पत्रिका में प्रकाशित करना और समाचार पत्र/वेबसाइट आदि में छापना बोर्ड के विभिन्न नियमों और आईपीसी के तहत कार्रवाई को आमंत्रित कर सकता है।"
4	मूल्यांकन अंकन योजना में दिए गए निर्देशों के अनुसार किया जाना चाहिए। यह किसी की व्यक्तिगत व्याख्या या अन्य किसी विचार के आधार पर नहीं किया जाना चाहिए। अंकन योजना का कड़ाई से पालन किया जाना चाहिए। हालांकि, मूल्यांकन करते समय, नवीनतम जानकारी या ज्ञान पर आधारित और/या नवीन उत्तरों की शुद्धता का अलग से मूल्यांकन किया जा सकता है और उन्हें उचित अंक दिए जा सकते हैं। कक्षा XII में, दो योग्यता-आधारित प्रश्नों का मूल्यांकन करते समय, कृपया दिए गए उत्तर को समझने का प्रयास करें और यदि उत्तर अंकन योजना के अनुसार नहीं है, लेकिन उम्मीदवार द्वारा सही योग्यता का उल्लेख किया गया है, तो उचित अंक दिए जाने चाहिए।
5	अंकन योजना में उत्तरों के लिए केवल सुझाए गए अंक दिए गए हैं। ये केवल दिशानिर्देश हैं और पूर्ण उत्तर नहीं हैं। छात्र अपनी अभिव्यक्ति दे सकते हैं और यदि अभिव्यक्ति सही है, तो तदनुसार अंक दिए जाने चाहिए।
6	मुख्य परीक्षक को पहले दिन प्रत्येक मूल्यांकनकर्ता द्वारा मूल्यांकित की गई पहली पाँच उत्तर पुस्तिकाओं की जाँच करनी चाहिए, ताकि यह सुनिश्चित हो सके कि मूल्यांकन अंकन योजना में दिए गए निर्देशों के अनुसार किया गया है। यदि कोई भिन्नता पाई जाती है, तो विचार-विमर्श और चर्चा के बाद उसे शून्य कर दिया जाना चाहिए। शेष उत्तर पुस्तिकाएँ, जिनका मूल्यांकन किया जाना है, तभी दी जाएँगी जब यह सुनिश्चित हो जाए कि प्रत्येक मूल्यांकनकर्ता के अंकन में कोई महत्वपूर्ण भिन्नता नहीं है।
7	मूल्यांकनकर्ता सही उत्तरों पर (√) चिह्न लगाएंगे। गलत उत्तरों पर 'X' का निशान लगाया जाएगा। मूल्यांकन करते समय मूल्यांकनकर्ता सही (✓) चिह्न नहीं लगाएंगे, जिससे यह आभास होगा कि उत्तर सही है और कोई अंक नहीं दिए जाएंगे। यह मूल्यांकनकर्ताओं द्वारा की जाने वाली सबसे आम गलती है।

8	यदि किसी प्रश्न के कई भाग हैं, तो कृपया प्रत्येक भाग के लिए OSM पोर्टल में दाईं ओर अंक दें। प्रश्न के विभिन्न भागों के लिए दिए गए अंकों को OSM सिस्टम द्वारा कुल मिलाकर जोड़ा जाएगा।
9	यदि किसी प्रश्न के कोई भाग नहीं हैं, तो OSM पोर्टल में बाईं ओर के हाशिये में अंक दिए जाने चाहिए। इसका सख्ती से पालन किया जाना चाहिए।
10	किसी त्रुटि के संचयी प्रभाव के लिए कोई अंक नहीं काटे जाएंगे। इसके लिए केवल एक बार ही दंड दिया जाना चाहिए।
11	उत्तर के लिए पूर्ण अंक प्रणाली 60 (उदाहरण के लिए प्रश्न पत्र में दिए गए 0 से 80/70/60/50/40/30 अंक) का उपयोग किया जाना है। यदि उत्तर उचित हो तो पूर्ण अंक देने में संकोच न करें।
12	प्रत्येक परीक्षक को अनिवार्य रूप से पूरे कार्य समय यानी प्रतिदिन 8 घंटे मूल्यांकन कार्य करना होगा और मुख्य विषयों में प्रतिदिन 20 उत्तर पुस्तिकाओं और अन्य विषयों में प्रतिदिन 25 उत्तर पुस्तिकाओं का मूल्यांकन करना होगा (विवरण स्पॉट दिशानिर्देशों में दिया गया है)। यह कम किए गए पाठ्यक्रम और प्रश्नपत्र में प्रश्नों की संख्या को ध्यान में रखते हुए किया गया है।
13	सुनिश्चित करें कि आप परीक्षक द्वारा अतीत में की गई निम्नलिखित सामान्य त्रुटियों को न दोहराएँ: • उत्तरों को सही चिह्नित करना, लेकिन अंक न देना। (सुनिश्चित करें कि सही निशान स्पष्ट रूप से लगा हो। यह केवल एक रेखा होनी चाहिए। गलत उत्तर के लिए X का निशान भी ऐसा ही होना चाहिए।) • उत्तर का आधा या आंशिक भाग सही और शेष गलत चिह्नित करना, लेकिन अंक न देना।
14	उत्तर पुस्तिकाओं का मूल्यांकन करते समय यदि उत्तर पूरी तरह से गलत पाया जाता है, तो उसे क्रॉस (X) के रूप में चिह्नित किया जाना चाहिए और शून्य (0) अंक दिए जाने चाहिए।
15	वास्तविक मूल्यांकन शुरू करने से पहले परीक्षकों को "मौके पर मूल्यांकन के लिए दिशानिर्देश" में दिए गए दिशा-निर्देशों से स्वयं को परिचित कर लेना चाहिए।
16	निर्धारित प्रोसेसिंग शुल्क का भुगतान करने पर उम्मीदवारों को अनुरोध पर उत्तर पुस्तिका की फोटोकॉपी प्राप्त करने का अधिकार है। सभी परीक्षकों/अतिरिक्त मुख्य परीक्षकों/मुख्य परीक्षकों को एक बार फिर याद दिलाया जाता है कि उन्हें यह सुनिश्चित करना होगा कि मूल्यांकन अंकन योजना में दिए गए प्रत्येक उत्तर के लिए निर्धारित अंकों के अनुसार ही किया जाए।
17	अगर कोई कैंडिडेट किसी सवाल में दोनों ऑप्शन आज़माता है, जहाँ सिर्फ़ एक ऑप्शन आज़माना ज़रूरी है, तो इवैल्यूएटर दोनों ऑप्शन में मार्क्स देगा। सिस्टम दो में से ज़्यादा वाला स्कोर लेगा और दूसरे जवाब को नज़रअंदाज़ कर देगा।
18	दो विकल्पों वाले प्रश्न में, यदि उम्मीदवार ने केवल एक का प्रयास किया है, तो मूल्यांकनकर्ता उस विकल्प के सामने "एनए" (प्रयास नहीं किया गया) चिह्नित करेगा जिसका उम्मीदवार द्वारा प्रयास नहीं किया गया है।

अंकन योजना हिन्दी माध्यम

सीनियर स्कूल सर्टिफिकेट परीक्षा, 2026
अर्थशास्त्र (विषय कोड –030)
[प्रश्न-पत्र कोड : 58/5/2]

अधिकतम अंक : 80

प्र.सं	अपेक्षित उत्तर/मूल्य बिंदु	अंक
	खण्ड - क **(समष्टि अर्थशास्त्र)**	
1.	किसी भी फर्म के लिए देनदारियाँ उसका ऋण/दूसरों पर उसका बकाया होता है। इसके विपरीत, बैंक के लिए _____ मुख्य देनदारी होती है/हैं। (रिक्त स्थान की पूर्ति के लिए सही विकल्प का चयन कीजिए) (A) ऋण (B) भंडार (reserves) (C) जमाएँ (D) सम्पत्तियाँ **उत्तर. (C) जमाएँ**	**1**
2.	निम्नलिखित कथनों : अभिकथन (A) और कारण (R) का अध्ययन कीजिए। नीचे दिए गए विकल्पों में से सही विकल्प का चयन कीजिए: ***अभिकथन (A) :*** विदेशों से प्रेषण (remittances) को भुगतान संतुलन (BoP) के पूँजीगत खाते के क्रेडिट पक्ष में दर्ज किया जाता है। ***कारण (R) :*** ऐसे सभी लेनदेन जिनके कारण शेष विश्व से विदेशी मुद्रा का अन्तर्प्रवाह होता है, भुगतान संतुलन (BoP) के क्रेडिट पक्ष में दर्ज किए जाते हैं। **विकल्प :** (A) अभिकथन (A) और कारण (R) दोनों सत्य हैं और कारण (R), अभिकथन (A) की सही व्याख्या करता है। (B) अभिकथन (A) और कारण (R) दोनों सत्य हैं, परंतु कारण (R), अभिकथन (A) की सही व्याख्या नहीं करता है। (C) अभिकथन (A) सत्य है, परंतु कारण (R) असत्य है। (D) अभिकथन (A) असत्य है, परंतु कारण (R) सत्य है। **उत्तर. (D) अभिकथन (A) असत्य है, परंतु कारण (R) सत्य है।**	**1**
3.	मान लीजिए कि, एक काल्पनिक अर्थव्यवस्था के लिए, आरक्षित अनुपात (RR) 25% से घट कर 20% हो जाता है। यदि प्राथमिक जमा राशि ₹ 1,000 है, तो कुल जमा राशि _____ कर ₹ _____ हो जाएगी। (रिक्त स्थानों की पूर्ति के लिए सही विकल्प का चयन कीजिए) (A) बढ़, 5,000 (B) घट, 5,000 (C) बढ़, 4,000 (D) घट, 4,000 **उत्तर. (A) बढ़, 5,000**	**1**
4.	निम्नलिखित कथनों का ध्यानपूर्वक अध्ययन कीजिए: ***कथन I:*** सकारात्मक बाह्यताओं से तात्पर्य उन लाभों से है जो, एक फर्म/व्यक्ति दूसरों को प्रदान करता है, जिसके लिए उन्हें भुगतान की प्राप्ति होती है। ***कथन II :*** सकारात्मक बाह्यताओं की स्थिति में, किसी अर्थव्यवस्था का सकल घरेलू उत्पाद (GDP) वास्तविक कल्याण का अधि-आकलन कर सकता है। दिए गए कथनों के आलोक में, निम्नलिखित में से सही विकल्प का चयन कीजिए : (A) कथन I सत्य है और कथन II असत्य है। (B) कथन I असत्य है और कथन II सत्य है। (C) कथन I और II दोनों सत्य हैं। (D) कथन I और II दोनों असत्य हैं। **उत्तर. (D) कथन I और II दोनों असत्य हैं।**	**1**

5.	समग्र माँग (AD) में कमी के कारण एक अर्थव्यवस्था पूर्ण रोज़गार से नीचे के स्तर पर संचालित हो सकती है, जिससे _____ रोजगार संतुलन प्राप्त होता है। (i) पूर्ण (ii) अधि (iii) अल्प (रिक्त स्थान की पूर्ति के लिए सही विकल्प का चयन कीजिए) **विकल्प :** (A) केवल (i) (B) केवल (ii) (C) केवल (iii) (D) (ii) और (iii) **उत्तर. (C) केवल (iii)**	**1**
6.	मूल्य वर्धित विधि द्वारा राष्ट्रीय आय (NNP_{FC}) की गणना करने में निम्नलिखित चरण होते हैं : (i) GDP_{MP} से मूल्यह्रास व शुद्ध अप्रत्यक्ष करों को घटाकर घरेलू आय (NDP_{FC}) की गणना करना। (ii) प्रत्येक फर्म के GVA को जोड़कर GDP_{MP} का अनुमान लगाना। (iii) NNP_{FC} पर पहुँचने के लिए विदेशों से प्राप्त शुद्ध कारक आय का अनुमान लगाना और उसे NDP_{FC} में जोड़ना। (iv) उत्पादन इकाइयों को प्राथमिक, द्वितीयक व तृतीयक क्षेत्र में पहचानना व वर्गीकृत करना। चरणों की व्यवस्था का सही क्रम होगा : (सही विकल्प का चयन कीजिए) **विकल्प** : (A) (ii), (iii), (i), (iv) (B) (iv), (ii), (i), (iii) (C) (iv), (ii), (iii), (i) (D) (iii), (iv), (ii), (i) **उत्तर. (B) (iv), (ii), (i), (iii)**	**1**
7.	नम्य विनिमय दर प्रणाली के अंतर्गत, विनिमय दर का निर्धारण _____ द्वारा किया जाता है। (i) सरकार (ii) माँग व आपूर्ति (iii) केंद्रीय बैंक के हस्तक्षेप (रिक्त स्थान की पूर्ति के लिए सही विकल्प का चयन कीजिए) **विकल्प :** (A) केवल (i) (B) केवल (ii) (C) केवल (iii) (D) (ii) और (iii) **उत्तर. (B) केवल (ii)**	**1**
8.	मुद्रा आपूर्ति एक _____ चर है क्योंकि, यह किसी विशेष समय पर _____ द्वारा रखी गई मुद्रा की कुल मात्रा को संदर्भित करता है। (रिक्त स्थानों की पूर्ति के लिए सही विकल्प का चयन कीजिए) (A) स्टॉक, बैंक (B) प्रवाह, बैंक (C) स्टॉक, जनता (D) प्रवाह, जनता **उत्तर. (C) स्टॉक, जनता**	**1**
9.	दिए गए चित्र के संदर्भ में, OL _____ को दर्शाता है। 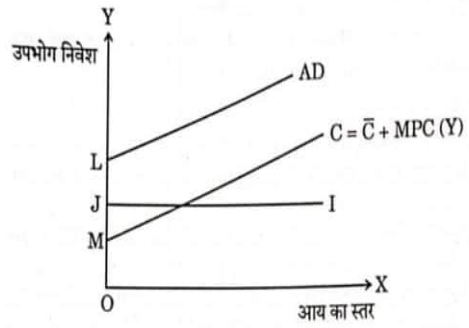 (रिक्त स्थान की पूर्ति के लिए सही विकल्प का चयन कीजिए)	

	(i) स्वायत्त उपभोग (ii) स्वायत्त निवेश (iii) प्रेरित उपभोग (iv) प्रेरित निवेश **विकल्प :** (A) केवल (i) (B) केवल (ii) (C) (i) और (ii) का योग (D) (i) और (iii) का योग **उत्तर. (C) (i) और (ii) का योग**	**1**
	नोट : *निम्नलिखित प्रश्न केवल* ***दृष्टिबाधित परीक्षार्थियों*** *के लिए प्रश्न संख्या* ***9*** *के स्थान पर है।* _____ से तात्पर्य उस उपभोग से है, जो कि आय के स्तर से स्वतंत्र होता है। (रिक्त स्थान की पूर्ति के लिए सही विकल्प का चयन कीजिए) (A) स्वायत्त उपभोग (B) प्रेरित उपभोग (C) समस्तर (Break-even level) (D) स्वायत्त निवेश और उपभोग **उत्तर. (A) स्वायत्त उपभोग**	**1**
10.	"सांख्यिकी और कार्यक्रम कार्यान्वयन मंत्रालय (MoSPI) सकल घरेलू उत्पाद (GDP) के आधार वर्ष में संशोधन कर रहा है। अर्थव्यवस्था में हो रहे संरचनात्मक परिवर्तनों को बेहतर ढंग से दर्शाने के लिए आधार वर्ष को समय-समय पर संशोधित किया जाता है। सकल घरेलू उत्पाद (GDP) के लिए नया प्रस्तावित आधार वर्ष 2022-23 है।" भारत सरकार द्वारा उठाया गया यह कदम _____ सकल घरेलू उत्पाद (GDP) में संशोधन के लिए है क्योंकि, इसे _____ मूल्यों पर मापा जाता है। (रिक्त स्थानों की पूर्ति के लिए सही विकल्प का चयन कीजिए) (A) वास्तविक, स्थिर (B) मौद्रिक, वर्तमान (C) वास्तविक, वर्तमान (D) मौद्रिक, स्थिर **उत्तर. (A) वास्तविक, स्थिर**	**1**
11.	दिए गए आँकड़ों के आधार पर 'संपत्ति व उद्यमशीलता से आय' के मूल्य का आकलन कीजिए :	

क्रम संख्या	मदें	राशि (₹ करोड़ में)
(i)	नगद मजदूरी व वेतन	1,000
(ii)	सामाजिक सुरक्षा योजनाओं में नियोक्ता का योगदान	300
(iii)	किराया	500
(iv)	नियोक्ता द्वारा किराया-मुक्त आवास	700
(v)	रॉयल्टी	200
(vi)	ब्याज	150
(vii)	निगम कर	70
(viii)	निजी निगमित क्षेत्र की बचत	130
(ix)	अप्रत्यक्ष कर	40
(x)	लाभांश	60

उत्तर. संपत्ति व उद्यमशीलता से आय = (iii)+(v) + (vi) + (vii) + (viii) + (x) **1 ½**
= 500+200 + 150 + 70 + 130 + 60 **1**
= ₹ 1,110 करोड़ **½**

3

12. (क)	"रेपो दर व बैंक दर दो पृथक उपाय हैं, परन्तु उनमें से किसी में भी परिवर्तन से अर्थव्यवस्था में मुद्रा आपूर्ति पर एकसमान प्रभाव पड़ सकता है।" अपने उत्तर के समर्थन में वैध स्पष्टीकरण देते हुए, दिए गए कथन का समर्थन अथवा खंडन कीजिए।	

	उत्तर. दिए गए कथन का समर्थन किया जाता है। रेपो दर और बैंक दर वे दर हैं जिन पर केंद्रीय बैंक, वाणिज्यिक बैंकों को ऋण देता है, मुख्य अंतर केवल अल्पकालीन और दीर्घकालीन आवश्यकताओं की शर्तों का है। इनमें से किसी में भी परिवर्तन का अर्थव्यवस्था में मुद्रा आपूर्ति पर एक समान प्रभाव होगा। केंद्रीय बैंक द्वारा रेपो/बैंक दर में कमी वाणिज्यिक बैंकों को अपनी ऋण की ब्याज दरें कम करने के लिए प्रोत्साहित करेंगी, जिससे आम जनता के लिए ऋण अपेक्षाकृत सस्ता हो जाता है। इससे आम जनता द्वारा ऋण लेने को प्रोत्साहन मिलेगा। परिणामस्वरूप, मुद्रा की पूर्ति में वृद्धि होगी और इसका विपरीत भी होगा। (पूरे उत्तर को एक साथ अंकित किया जाए)	**3**
	अथवा	
(ख)	"भारतीय रिज़र्व बैंक (RBI) भारत में मुद्रा नोट जारी करने के लिए एकमात्र प्राधिकरण है, जिसमें ₹1 मूल्यवर्ग का अपवाद है, जिसे वित्त मंत्रालय द्वारा जारी किया जाता है।" क्या आप दिए गए कथन से सहमत हैं? इस मामले में भारतीय रिज़र्व बैंक (RBI) के एकाधिकार के पीछे के तर्काधार की व्याख्या कीजिए। **उत्तर. हाँ। भारतीय रिज़र्व बैंक (RBI) भारत में मुद्रा नोट जारी करने के लिए एकमात्र प्राधिकरण है, जिसमें ₹1 के नोट और सिक्के अपवाद है, जिन्हें वित्त मंत्रालय द्वारा जारी किया जाता है। RBI के इस एकाधिकार से नोटों के प्रचलन में एकरूपता सुनिश्चित होती है और यह मुद्रा प्रणाली में जनता के विश्वास को सुदृढ़ करता है। इसके अतिरिक्त, यह RBI को मुद्रा की पूर्ति को प्रभावी रूप से नियंत्रित करने तथा रुपये (₹) के मूल्य की स्थिरता बनाए रखने में सक्षम बनाता है।** **(पूरे उत्तर को एक साथ अंकित किया जाए)**	**3**
13.	(क) भुगतान संतुलन (BoP) खाते की परिभाषा दीजिए। **उत्तर. भुगतान संतुलन (BoP) खाता, एक निश्चित समय अवधि (सामान्यतया एक वर्ष) के लिए एक देश के निवासियों और शेष विश्व के बीच वस्तुओं, सेवाओं और परिसंपत्तियों से संबंधित लेन-देन का अभिलेख होता है।**	**1**
	(ख) व्यापार शेष व चालू खाते के शेष में अंतर स्पष्ट कीजिए। **उत्तर. व्यापार शेष (Balance of Trade - BOT) किसी देश के एक निश्चित समय अवधि में वस्तुओं के निर्यात के मूल्य और वस्तुओं के आयात के मूल्य के बीच का अंतर होता है।** **जबकि;** **चालू खाता शेष (Balance of Current Account) किसी देश के एक निश्चित समयावधि में दृश्य (visibles), अदृश्य (invisibles) के निर्यात व विदेशों से प्राप्त एकतरफा अंतरणों के मूल्य तथा दृश्य, अदृश्य के आयत व विदेशों को किए गए एकतरफा अंतरणों के मूल्य के बीच का अंतर होता है।**	**1½** **1½**
		4
14.	निम्नलिखित गद्य का ध्यानपूर्वक अध्ययन कीजिए: "घरेलू निजी उपभोग व निवेश को प्रोत्साहित करके विकास गति में सुधार लाने के उद्देश्य से, भारतीय रिज़र्व बैंक (RBI) द्वारा नकद आरक्षित अनुपात (CRR) में 100 आधार अंकों (1%) की कटौती की घोषणा की गई है।" उपर्युक्त गद्य तथा सामान्य ज्ञान के आधार पर, निम्नलिखित प्रश्नों के उत्तर दीजिए : (i) भारतीय रिज़र्व बैंक (RBI) द्वारा उठाए गए इस कदम के पीछे के संभावित कारण की व्याख्या कीजिए। **उत्तर. भारतीय रिज़र्व बैंक (RBI) द्वारा नकद आरक्षित अनुपात (CRR) में कमी किए जाने का संभावित कारण अर्थव्यवस्था में निजी उपभोग और निवेश को प्रोत्साहित करना है, जिससे न्यून मांग/अवस्फीति को नियंत्रित किया जा सके।**	**2**
	(ii) समग्र माँग (AD) पर भारतीय रिज़र्व बैंक (RBI) द्वारा उठाए गए कदम के प्रभाव को संक्षेप में समझाइए। **उत्तर. भारतीय रिज़र्व बैंक (RBI) द्वारा नकद आरक्षित अनुपात (CRR) में कमी करने से वाणिज्यिक बैंकों के पास कोषों की उपलब्धता बढ़ सकती है। इससे वाणिज्यिक बैंकों की ऋण देने की क्षमता बढ़ सकती है। परिणामस्वरूप, अर्थव्यवस्था में मुद्रा की पूर्ति और समग्र माँग (AD) में वृद्धि होती है, जिससे अंततः न्यून मांग की समस्या का समाधान होता है।**	**2**
		4

15. (क)	टेक इन्फो लिमिटेड नामक एक कंपनी प्रिंटरों का निर्माण करती है। यह प्रिंटर बनाने के लिए जर्मनी से मशीनों का क्रय करती है। ये प्रिंटर घरेलू व विदेशी बाज़ारों में गृहस्थों तथा व्यापारियों को विक्रय किए जाते हैं। क्रय की गई मशीनरी व निर्मित प्रिंटर दोनों को अंतिम वस्तुओं के रूप में वर्गीकृत किया जा सकता है। क्या आप दिए गए कथन से सहमत हैं? अपने उत्तर के समर्थन में वैध तर्क दीजिए। **उत्तर: नहीं।** **अंतिम वस्तुएँ:** • **प्रिंटर बनाने के लिए खरीदी गई मशीनरी** **1** • **गृहस्थों को बेचा गया प्रिंटर** **1** **मध्यवर्ती वस्तु:** • **व्यापारियों (डीलर) को बेचा गया प्रिंटर** **1** **अंतिम वस्तुएँ वे वस्तुएँ होती हैं जिनका उपयोग या तो उपभोग के लिए या निवेश के उद्देश्य से किया जाता है।** **½** **जबकि, मध्यवर्ती वस्तुएँ वे वस्तुएँ होती हैं जिनका उपयोग या तो उत्पादन के लिए किया जाता है या उसी वर्ष पुनर्विक्रय के लिए किया जाता है।** **½**	
	अथवा	**4**
(ख)	(i) सकल निवेश को परिभाषित कीजिए। **उत्तर. सकल निवेश से तात्पर्य पूंजी स्टॉक में होने वाली उस वृद्धि से है, जिसमें पूंजी के स्टॉक पर होने वाले घिसावट और टूट-फूट के प्रतिस्थापन को भी शामिल किया जाता है।** **1** (ii) दिए गए चित्र में दर्शाए गए सकल निवेश के किन्हीं दो घटकों की पहचान कीजिए। सकल निवेश 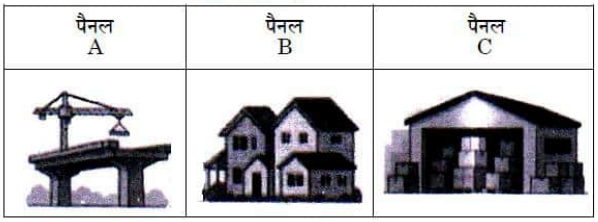 **उत्तर. दिए गए चित्र में दर्शाए गए दो घटक हैं:** • **सकल सार्वजनिक निवेश** **½** • **सकल आवासीय निर्माण निवेश** **½** **(अन्य किसी प्रासंगिक घटक के लिए भी अंक प्रदान किए जाए)** (iii) सकल निवेश के किसी एक घटक की संक्षेप में व्याख्या कीजिए। **उत्तर. सकल सार्वजनिक निवेश से तात्पर्य सरकार द्वारा सड़कों, बाँध, फ्लाईओवर आदि जैसी स्थायी परिसंपत्तियों के निर्माण पर किए गए व्यय से है।** **2** **(अन्य किसी प्रासंगिक घटक के लिए भी अंक प्रदान किए जाए)**	
		4
	नोट : निम्नलिखित प्रश्न केवल दृष्टिबाधित परीक्षार्थियों के लिए प्रश्न संख्या 15 (ख) के स्थान पर है। सकल निवेश के किन्हीं दो घटकों की व्याख्या कीजिए। **उत्तर. सकल निवेश के दो घटक हैं:** • **सकल सार्वजनिक निवेश से तात्पर्य सरकार द्वारा सड़कों, बाँध, फ्लाईओवर आदि जैसी स्थायी परिसंपत्तियों के निर्माण पर किए गए व्यय से है।** **2** • **सकल आवासीय निर्माण निवेश से तात्पर्य गृहस्थों द्वारा आवासीय मकानों और भवनों के निर्माण पर किए गए निवेश से है।** **2**	
		4
16.	निम्नलिखित गद्य का ध्यानपूर्वक अध्ययन कीजिए:	

आर्थिक सर्वेक्षण 2024 - 25 के अनुसार, वित्त वर्ष 2025 - 26 के लिए सरकार के बजट अनुमानों में यह इंगित किया गया है कि, सकल प्रत्यक्ष कर राजस्व में 12.7% की वृद्धि होगी, जबकि सकल अप्रत्यक्ष कर संग्रह वित्त वर्ष 2024-25 की तुलना में 8.3% से बढ़ने की संभावना है।
प्रत्यक्ष करों में आयकर व निगम कर सम्मिलित होते हैं, जो कि गृहस्थों व फर्मों द्वारा अर्जित आय व लाभ को दर्शाते हैं। ये सरकार की राजस्व वृद्धि में महत्त्वपूर्ण भूमिका निभाते हैं। अप्रत्यक्ष करों में वस्तु व सेवा कर (GST), सीमा शुल्क व अन्य लेनदेन-आधारित शुल्क सम्मिलित होते हैं।
प्रत्यक्ष करों के लिए अनुमानित उच्च वृद्धि दर बेहतर अनुपालन व सुधारों के माध्यम से कर उत्प्लावन (Tax Buoyancy) की वृद्धि की दिशा में एक कदम है। दूसरी ओर, अप्रत्यक्ष करों को उपभोग प्रवृत्तियों व वस्तु व सेवा कर (GST) प्रशासन में सुधार से लाभान्वित होने की उम्मीद है। एक संतुलित कर रणनीति का उद्देश्य राजकोषीय सुदृढ़ीकरण व सतत आर्थिक विकास को समर्थन देते हुए संसाधन जुटाना है।
उपर्युक्त गद्य तथा सामान्य ज्ञान के आधार पर, निम्नलिखित प्रश्नों के उत्तर दीजिए :

(i) उपर्युक्त गद्य में इंगित दो प्रकार के करों के मध्य उपयुक्त उदाहरणों सहित अंतर स्पष्ट कीजिए।

उत्तर. उपर्युक्त गद्य में इंगित किए गए दो प्रकार के कर प्रत्यक्ष कर और अप्रत्यक्ष कर हैं।
प्रत्यक्ष कर वे कर होते हैं जिनका प्रभाव और भार एक ही व्यक्ति/संस्था पर पड़ता है। दूसरे शब्दों में, प्रत्यक्ष करों के भुगतान की देयता को दूसरे पर नहीं टाला जा सकता है। — 1 ½
उदाहरण: आयकर आदि। — ½

जबकि;

अप्रत्यक्ष कर वे कर होते हैं जिनका प्रभाव और भार अलग-अलग व्यक्तियों/संस्थाओं पर पड़ सकता है। दूसरे शब्दों में, अप्रत्यक्ष करों के भुगतान की देयता को दूसरे पर टाला जा सकता है। — 1 ½
उदाहरण: वस्तु एवं सेवा कर (GST) आदि। — ½

(अन्य किसी प्रासंगिक उदाहरण के लिए भी अंक प्रदान किए जाए)

(ii) सरकार द्वारा दिए गए कर अनुमानों के संभावित परिणामों की विस्तार से व्याख्या कीजिए।

उत्तर. प्रत्यक्ष करों के लिए अनुमानित उच्च वृद्धि दर यह दर्शाती है कि बेहतर कर अनुपालन और सुधारात्मक उपायों के माध्यम से कर-उत्प्लावन (tax buoyancy) बढ़ाने का प्रयास किया जा रहा है, जबकि अप्रत्यक्ष करों में उपभोग की प्रवृत्तियों और वस्तु एवं सेवा कर (GST) प्रशासन में सुधारों से लाभान्वित होने की उम्मीद है। — 2
(पूरे उत्तर को एक साथ अंकित किया जाए)

6

17. (क) मान लीजिए, किसी काल्पनिक अर्थव्यवस्था के लिए, निम्नलिखित आँकड़े दिए गए हैं:

आय (Y)	उपभोग (C)	निवेश (I)	समग्र माँग (AD)
0	20	20	40
100	100	20	-
200	180	20	-
300	260	20	280

(i) दी गई तालिका में लुप्त मानों (missing values) की गणना कीजिए।

उत्तर.

आय (Y)	**उपभोग (C)**	**निवेश (I)**	**समग्र माँग (AD)**	
0	20	20	40	
100	100	20	**120**	½
200	180	20	**200**	½
300	260	20	280	

(ii) 'प्रभावी माँग' को परिभाषित कीजिए।

उत्तर. प्रभावी मांग से तात्पर्य समग्र मांग के उस स्तर से है जिसे अर्थव्यवस्था में संबंधित समग्र पूर्ति द्वारा पूरा किया जा सकता है। — 2

	(iii) दिए गए आँकड़ों के आधार पर, यह कहा जा सकता है कि आय का संतुलन स्तर 300 है। क्या आप सहमत हैं? यदि नहीं, तो आय के संतुलन स्तर को प्राप्त करने के लिए अपनाई जाने वाली समायोजन प्रक्रिया की व्याख्या कीजिए। **उत्तर: नहीं। आय (Y) के 300 के स्तर पर, समग्र माँग (AD), समग्र पूर्ति (AS) से कम है।** **जब नियोजित समग्र माँग, नियोजित समग्र पूर्ति से कम होती है, तो इसका अर्थ है कि गृहस्थ और फर्में जितना उपभोग करने की योजना बना रहे हैं, वह फर्मों द्वारा उत्पादन की योजना से कम हैं। परिणामस्वरूप, उत्पादकों के पास माल सूची (inventories) वांछित स्तर से अधिक हो जाएगी। अतः वांछित स्तर पर माल सूची को पुनः स्थापित करने के लिए उत्पादक, उत्पादन में तब तक कमी करते हैं जब तक कि संतुलन पुनः प्राप्त न हो जाए।** **(पूरे उत्तर को एक साथ अंकित किया जाए)**	**3**
	अथवा	**6**
(ख)	मान लीजिए कि किसी अर्थव्यवस्था में, निवेश व्यय में प्रत्येक ₹1 की वृद्धि से राष्ट्रीय आय में ₹5 की वृद्धि होती है। निम्नलिखित की गणना कीजिए: (i) निवेश गुणक (K) का मूल्य। **उत्तर. दिया है, निवेश व्यय में परिवर्तन (ΔI) = ₹ 1** **राष्ट्रीय आय में परिवर्तन (ΔY) = ₹ 5** **निवेश गुणक (K)** $= \frac{\Delta Y}{\Delta I}$ **½** $= \frac{5}{1} = 5$ **½** (ii) उपभोग व्यय में परिवर्तन, यदि आय ₹300 से ₹ 400 हो जाती है। **दिया है, आय ₹300 से ₹ 400 हो जाती है।** **आय में परिवर्तन (ΔY) = 100** **निवेश गुणक (K)** $= \frac{1}{1-MPC}$ **1** $5 = \frac{1}{1-MPC}$ $MPC = 0.8$ **½** **जैसा कि हम जानते है,** $MPC = \frac{\Delta C}{\Delta Y}$ **1** **उपभोग मे परिवर्तन (ΔC)** $= 0.8 \times 100$ $= ₹ 80$ **½** (iii) "औसत उपभोग प्रवृत्ति (APC) व औसत बचत प्रवृत्ति (APS) का योग सदैव इकाई के बराबर होता है।" उपयुक्त तर्क की सहायता से दिए गए कथन की पुष्टि कीजिए। **उत्तर. हम जानते है कि, आय का या तो उपभोग किया जाता है या बचत की जाती है। अर्थात्;** $Y = C + S$ **½** **समीकरण के दोनों पक्षों को Y से विभाजित करने पर:** $\frac{Y}{Y} = \frac{C}{Y} + \frac{S}{Y}$ **1** $1 = APC + APS$ **½** **अतः औसत उपभोग प्रवृत्ति (APC) व औसत बचत प्रवृत्ति (APS) का योग सदैव इकाई के बराबर होता है।**	
		6
	खण्ड ख **भारतीय आर्थिक विकास**	
18.	2009 में, भारत सरकार ने 6 - 14 वर्ष की आयु वर्ग के सभी बच्चों के लिए निःशुल्क शिक्षा को मौलिक अधिकार बनाने के लिए _____ पारित किया था। (रिक्त स्थान की पूर्ति के लिए सही विकल्प का चयन कीजिए)	

	(A) मध्याह्न भोजन योजना (B) जन धन योजना (C) तपस मजूमदार समिति (D) शिक्षा का अधिकार अधिनियम **उत्तर. (D) शिक्षा का अधिकार अधिनियम**	**1**
19.	निम्नलिखित कथनों : अभिकथन (A) और कारण (R) का अध्ययन कीजिए। नीचे दिए गए विकल्पों में से सही विकल्प का चयन कीजिए : ***अभिकथन (A):*** भारत विभिन्न क्षेत्रीय व आर्थिक समूहों जैसे ब्रिक्स, जी-20 आदि का सदस्य है। ***कारण (R) :*** आर्थिक व क्षेत्रीय समूहों की सदस्यता किसी राष्ट्र को अन्य राष्ट्रों की तुलना में अपनी शक्तियों व कमजोरियों को समझने में सहायता करती है। **विकल्प :** (A) अभिकथन (A) और कारण (R) दोनों सत्य हैं और कारण (R), अभिकथन (A) की सही व्याख्या करता है। (B) अभिकथन (A) और कारण (R) दोनों सत्य हैं, परंतु कारण (R), अभिकथन (A) की सही व्याख्या ***नहीं*** करता है। (C) अभिकथन (A) सत्य है, परंतु कारण (R) असत्य है। (D) अभिकथन (A) असत्य है, परंतु कारण (R) सत्य है। **उत्तर. (A) अभिकथन (A) और कारण (R) दोनों सत्य हैं और कारण (R), अभिकथन (A) की सही व्याख्या करता है।**	**1**
20.	औपनिवेशिक शासन के दौरान निर्यात अधिशेष का उपयोग अंग्रेज़ों द्वारा _____ किया गया। (i) भारत में सोना व चाँदी लाने के लिए (ii) युद्ध का व्यय उठाने के लिए (iii) अदृश्य मदों के आयात के लिए (रिक्त स्थान की पूर्ति के लिए सही विकल्प का चयन कीजिए) **विकल्प :** (A) केवल (i) (B) (i) और (ii) (C) (i) और (iii) (D) (ii) और (iii) **उत्तर. (D) (ii) और (iii)**	**1**
21.	1950 में भारत सरकार द्वारा, संसाधनों के सबसे प्रभावी व संतुलित उपयोग के लिए योजनाएँ लागू करने के लिए _____ की स्थापना की गई थी। (रिक्त स्थान की पूर्ति के लिए सही विकल्प का चयन कीजिए) (A) नीति आयोग (B) योजना आयोग (C) कर्वे समिति (D) विश्व व्यापार संगठन **उत्तर. (B) योजना आयोग**	**1**
22.	स्वयं-सहायता समूह (SHGs) का प्रादुर्भाव औपचारिक साख प्रणाली में रह गई कमियों को दूर करने के लिए हुआ है, क्योंकि ये _____। (रिक्त स्थान की पूर्ति के लिए सही विकल्प का चयन कीजिए) (A) उपयुक्त जमानत (collateral) प्राप्त करने के बाद ऋण देते हैं (B) उच्च ब्याज दर पर ऋण देते हैं (C) बड़े अनुपात में मितव्ययिता को प्रोत्साहन देते हैं (D) प्रायः सदस्यों को जमानत मुक्त ऋण प्रदान करते हैं **उत्तर. (D) प्रायः सदस्यों को जमानत मुक्त ऋण प्रदान करते हैं**	**1**
23.	ग्रामीण क्षेत्रों में, पशुधन, मत्स्यपालन व अन्य गैर-कृषि गतिविधियों जैसे नवीन क्षेत्रों की ओर विविधीकरण _____ के लिए आवश्यक है। (i) कृषि क्षेत्र में जोखिम को कम करने (ii) असंवहनीय (unsustainable) आजीविका विकल्प प्रदान करने (iii) पूरक रोजगार प्रदान करने (रिक्त स्थान की पूर्ति के लिए सही विकल्प का चयन कीजिए) **विकल्प** : (A) केवल (i) (B) (i) और (ii) (C) (i) और (iii) (D) (i), (ii) और (iii) **उत्तर. (C) (i) और (iii)**	**1**

24.	पहचान कीजिए कि निम्नलिखित में से कौन-सी धारणीय विकास की एक रणनीति ***नहीं*** है। (सही विकल्प का चयन कीजिए) (A) सौर पैनलों का उपयोग (B) जैव-कीट का उपयोग (C) विद्युत उत्पादन के लिए कोयले का उपयोग (D) लघु-जल-विद्युत संयंत्रों का उपयोग **उत्तर. (C) विद्युत उत्पादन के लिए कोयले का उपयोग**	**1**
25.	निम्नलिखित तालिका एक गाँव में जनसंख्या व श्रमिकों के वितरण को प्रदर्शित करती है: कुल जनसंख्या | उन व्यक्तियों की संख्या जो कार्य में इच्छुक व सक्षम हैं | उन व्यक्तियों की संख्या जो कार्यरत (नियुक्त) हैं 2000 | 1200 | 800 गाँव के लिए श्रमिक - जनसंख्या अनुपात _____ % होगा। (रिक्त स्थान की पूर्ति के लिए सही विकल्प का चयन कीजिए) (A) 80 (B) 40 (C) 60 (D) 20 **उत्तर. (B) 40**	**1**
26.	निम्नलिखित कथनों का ध्यानपूर्वक अध्ययन कीजिए: ***कथन I:*** भारत के व्यवस्थित विऔद्योगीकरण के पीछे औपनिवेशिक सरकार के दोहरे ध्येय थे। ***कथन II:*** अंग्रेज़ों ने भारत को अपने आधुनिक उद्योगों के लिए कच्चे माल के आयातक मात्र तक सीमित कर दिया था। दिए गए कथनों के आलोक में, निम्नलिखित में से सही विकल्प का चयन कीजिए: (A) कथन I सत्य है और कथन II असत्य है। (B) कथन I असत्य है और कथन II सत्य है। (C) कथन I और II दोनों सत्य हैं। (D) कथन I और II दोनों असत्य हैं। **उत्तर. (A) कथन I सत्य है और कथन II असत्य है।**	**1**
27.	विभिन्न औद्योगिक प्रभागों में कार्यरत व्यक्तियों को तीन प्रमुख क्षेत्रों में वर्गीकृत किया जा सकता है -प्राथमिक क्षेत्र, द्वितीयक क्षेत्र तथा तृतीयक क्षेत्र। पहचान कीजिए कि, निम्नलिखित में से कौन-सा विकल्प प्राथमिक क्षेत्र को दर्शाता है। (A) कृषि (B) कृषि, खनन व उत्खनन (C) कृषि, विद्युत, गैस व जल आपूर्ति (D) परिवहन व भंडारण **उत्तर. (B) कृषि, खनन व उत्खनन**	**1**
28.	"समानता के साथ संवृद्धि" के योजना उद्देश्य की व्याख्या कीजिए। **उत्तर. संवृद्धि से तात्पर्य किसी देश में वस्तुओं और सेवाओं के उत्पादन की क्षमता में वृद्धि से है, जबकि; समानता (equity) से अभिप्राय आय और संपत्ति की असमानता को कम करने से है। इस प्रकार, समानता के साथ संवृद्धि यह सुनिश्चित करती है कि आर्थिक विकास के लाभ समाज के सभी वर्गों द्वारा प्राप्त किए जाएँ। अर्थशास्त्रियों का मानना है कि सकल घरेलू उत्पाद (GDP) में संवृद्धि और आय के वितरण में समता दोनों समान रूप से महत्वपूर्ण हैं। अतः समानता के साथ संवृद्धि सुनिश्चित करना भारतीय आर्थिक नियोजन का एक महत्वपूर्ण उद्देश्य बनाया गया।** **(पूरे उत्तर को एक साथ अंकित किया जाए)**	**3**
29. (क)	"स्वतंत्रता के समय, भारत व पाकिस्तान दोनों को समान औपनिवेशिक आर्थिक संरचनाएँ विरासत में मिली थीं। दोनों राष्ट्रों ने आर्थिक नियोजन की कई एक जैसी रणनीतियाँ अपनाई थीं।" भारत व पाकिस्तान के विकास पथ में ऐसी किन्हीं दो समानताओं की व्याख्या कीजिए।	

	उत्तर. भारत और पाकिस्तान द्वारा अपनाई गई दो समान विकासात्मक रणनीतियाँ निम्नलिखित हैं: • **दोनों देशों ने सार्वजनिक तथा निजी क्षेत्र को सम्मिलित करते हुए मिश्रित अर्थव्यवस्था के मार्ग का अनुसरण किया है।** • **भारत और पाकिस्तान दोनों ने ही अपने घरेलू उद्योगों को विदेशी प्रतिस्पर्धा से बचाने के लिए आयात प्रतिस्थापन नीति अपनाई।** **(अन्य किसी प्रासंगिक रणनीति के लिए भी अंक प्रदान किए जाए)**	**1½** **1½**
	अथवा	**3**
(ख)	"1958 में, चीन ने एक निश्चित उद्देश्य के साथ ग्रेट लीप फॉरवर्ड (GLF) अभियान प्रारंभ किया।" (i) ग्रेट लीप फॉरवर्ड (GLF) अभियान की शुरुआत के पीछे का तर्काधार बताइए। **उत्तर. ग्रेट लीप फॉरवर्ड (GLF) अभियान की शुरुआत के पीछे का तर्क चीन में बड़े पैमाने पर औद्योगीकरण को बढ़ावा देना था। लोगों को अपने घरों के पिछवाड़े में उद्योग स्थापित करने के लिए प्रोत्साहित किया गया।** (ii) ग्रेट लीप फॉरवर्ड (GLF) अभियान की किन्हीं दो विफलताओं का उल्लेख कीजिए। **उत्तर: ग्रेट लीप फॉरवर्ड (GLF) अभियान की दो विफलताएँ निम्नलिखित थी:** • **भीषण सूखे ने चीन में भारी तबाही मचाई।** • **रूस के साथ चीन के मतभेद हो गए और उसने अपने विशेषज्ञों को वापस बुला लिया।**	**2** **½** **½**
		3
30.	दिए गए आँकड़ों के आधार पर, भारत व चीन के सकल घरेलू उत्पाद (GDP) की वार्षिक वृद्धि पर टिप्पणी कीजिए।	

सकल घरेलू उत्पाद की वार्षिक वृद्धि (%), 1980-2017			
देश	1980-90	2015-17	2022
भारत	5.7	7.3	7.0
चीन	10.3	6.8	3.0
पाकिस्तान	6.3	5.3	4.8

उत्तर. दिए गए आंकड़े दर्शाते हैं कि 1970 के दशक के उत्तरार्द्ध में आरम्भ की गई सुधार प्रक्रिया के बाद चीन ने आर्थिक शक्ति प्राप्त की। जब कई विकसित देशों के लिए 5% की वार्षिक वृद्धि दर को भी बनाए रखना कठिन था, तब चीन लगभग दो अंकों की वृद्धि दर बनाए रखने में सक्षम रहा था। चीन की वार्षिक वृद्धि दर 2015-17 में घटकर 6.8% और 2022 में और अधिक घटकर 3.0% रह गई।

जबकि; बीते समय में, भारत ने 1980 के दशक में 5.7% की संतोषजनक वृद्धि दर बनाए रखी थी, वहीं उसने 2015-17 और 2022 में क्रमशः 7.3% और 7.0% की वार्षिक सकल घरेलू उत्पाद (GDP) वृद्धि दर दर्ज करके उल्लेखनीय प्रगति दिखाई है।

(पूरे उत्तर को एक साथ अंकित किया जाए) — **4**

31. निम्नलिखित चित्र का ध्यानपूर्वक अध्ययन कीजिए:



दिए गए चित्र की व्याख्या कीजिए और परिवर्तित उत्पादन व उपभोग रूपरेखा के परिणामस्वरूप पर्यावरण संकट की परिघटना पर टिप्पणी कीजिए।

उत्तर. तेजी से बढ़ती जनसंख्या तथा औद्योगिक क्रांति के आगमन के कारण उत्पादन और उपभोग दोनों के लिए संसाधनों की मांग, संसाधनों की पुनर्जनन दर से अधिक हो गई है। परिणामस्वरूप, पर्यावरण की अवशोषी क्षमता पर अत्यधिक दबाव पड़ा। इसके फलस्वरूप, जैसा कि ऊपर दिए गए — **4**

	चित्र में दर्शाया गया है, जलवायु परिवर्तन, जैव विविधता में हानि और प्रदूषण जैसी समस्याएँ तीव्र हो गई हैं, जिससे एक गंभीर पर्यावरणीय संकट उत्पन्न हो गया है। **(पूरे उत्तर को एक साथ अंकित किया जाए)** *नोट : निम्नलिखित प्रश्न केवल* ***दृष्टिबधित परीक्षार्थियों*** *के लिए प्रश्न संख्या* ***31*** *के स्थान पर है।* "पर्यावरण संकट एक हाल ही की परिघटना है, जो उत्पादन व उपभोग रूपरेखा में परिवर्तन का परिणाम है।" मान्य तर्क देते हुए, इस कथन की पुष्टि कीजिए। **उत्तर. पर्यावरणीय संकट एक हाल ही की परिघटना है, क्योंकि जनसंख्या विस्फोट और औद्योगिक क्रांति के आगमन के साथ, उत्पादन और उपभोग दोनों के लिए संसाधनों की मांग, संसाधनों की पुनर्जनन दर से अधिक हो गई है। परिणामस्वरूप, पर्यावरण की अवशोषी क्षमता पर अत्यधिक दबाव पड़ा, जिससे जलवायु परिवर्तन और प्रदूषण जैसी पर्यावरणीय समस्याएँ उत्पन्न हुईं हैं।** **(पूरे उत्तर को एक साथ अंकित किया जाए)**	**4**
32. **(क)**	(i) 'मानव पूँजी' को परिभाषित कीजिए। **उत्तर. 'मानव पूंजी' (Human Capital) से आशय व्यक्ति में निहित ज्ञान, कौशल और क्षमता के भंडार से है।** (ii) मानव पूँजी निर्माण के स्रोत के रूप में 'कार्यस्थल प्रशिक्षण' पर व्यय की व्याख्या कीजिए। **उत्तर. वर्तमान समय में 'कार्यस्थल पर प्रशिक्षण, कार्य-परिवेश का एक अभिन्न हिस्सा बन गया है क्योंकि यह कर्मचारियों की उत्पादक क्षमता में वृद्धि करता है। यह कर्मचारियों को कौशल विकसित करने और आधुनिक तकनीकों के अनुकूल बनने में सक्षम बनाता है। फर्में ऐसे प्रशिक्षण को प्रोत्साहित करती हैं क्योंकि इसके लाभ, इसकी लागत से अधिक होते हैं। इस प्रकार, 'कार्य के दौरान प्रशिक्षण' पर किया गया व्यय मानव पूंजी निर्माण का एक स्रोत है।** **(पूरे उत्तर को एक साथ अंकित किया जाए)**	**1** **3**
	अथवा	**4**
(ख)	रेयांश एक विद्यालय में, एक शिक्षक के रूप में कार्यरत है। उसे एक निश्चित मासिक वेतन, सामाजिक सुरक्षा लाभ, सवेतन अवकाश व चिकित्सा भत्ते के लाभ प्राप्त होते हैं। उसका मित्र मोहन एक छोटी-सी खिलौने की दुकान में कार्यरत है। उसकी बहुत अल्प आय है, उसके पास भविष्य निधि, सवेतन अवकाश या स्वास्थ्य बीमा जैसी कोई भी सुविधा उपलब्ध नहीं है। रेयांश व मोहन जिन क्षेत्रों में कार्यरत हैं, उनके प्रकारों को वर्गीकृत कीजिए तथा दोनों क्षेत्रों के मध्य अंतर को उजागर कीजिए। **उत्तर. रेयांश औपचारिक क्षेत्र में कार्य कर रहा है।** **जबकि, मोहन अनौपचारिक क्षेत्र में कार्य कर रहा है।** **औपचारिक क्षेत्र में सभी सार्वजनिक क्षेत्र के प्रतिष्ठान तथा वे निजी क्षेत्र के प्रतिष्ठान शामिल होते हैं जो 10 या उससे अधिक नियोजित श्रमिकों को रोजगार देते हैं। औपचारिक क्षेत्र के श्रमिकों को उचित वेतन तथा अन्य सामाजिक सुरक्षा लाभ जैसे पेंशन, भविष्य निधि आदि प्राप्त होते हैं। इसके अतिरिक्त, उन्हें सवेतन अवकाश और चिकित्सीय भत्ते भी मिलते हैं।** **जबकि; अनौपचारिक क्षेत्र में वे निजी क्षेत्र के प्रतिष्ठान शामिल होते हैं जो 10 से कम नियोजित श्रमिकों को रोजगार देते हैं। अनौपचारिक क्षेत्र के श्रमिकों को नियमित आय और सामाजिक सुरक्षा लाभ नहीं मिलते। उन्हें बिना किसी क्षतिपूर्ति के नौकरी से निकाला जा सकता है। इसके अतिरिक्त, उन्हें सवेतन अवकाश और चिकित्सीय भत्ते भी नहीं मिलते।**	**½** **½** **1½** **1½**
		4
33.	निम्नलिखित गद्य को ध्यानपूर्वक पढ़िए: **परंपरागत कृषि विकास योजना (PKVY)** परंपरागत कृषि विकास योजना (PKVY) का उद्देश्य जैविक कृषि को प्रोत्साहित करना है, जिसके परिणामस्वरूप मृदा स्वास्थ्य में सुधार होता है। यह 'भागीदारी गारंटी प्रणाली - भारत' (PGS - India) को प्रोत्साहित करता है, जो एक सरल प्रमाणन प्रणाली है, जहाँ कृषक व उपभोक्ता सीधे प्रक्रिया में भाग लेते हैं। इस योजना में 2025 - 26 तक अतिरिक्त 6,00,000 हेक्टेयर क्षेत्र को जैविक कृषि के अंतर्गत लाने का प्रस्ताव है। इसका उद्देश्य पर्यावरण-अनुकूल, अल्प-लागत वाली तकनीकों को अपनाकर रसायनों व कीटनाशक अपशिष्टों से मुक्त कृषि उत्पादों का उत्पादन करना है।	

	परंपरागत कृषि विकास योजना (PKVY) के प्रमुख केन्द्र-बिंदु क्षेत्र हैं : • प्राकृतिक संसाधन आधारित एकीकृत व जलवायु अनुकूल धारणीय कृषि प्रणाली को प्रोत्साहन देना, जिससे मृदा उर्वरता का रखरखाव व वृद्धि, प्राकृतिक संसाधन संरक्षण, कृषि पोषक-तत्त्वों का पुनः-चक्रण व बाह्य आगतों (कारकों) पर निर्भरता को न्यूनतम करना सुनिश्चित हो सके। • धारणीय जैविक पद्धतियों के माध्यम से कृषि लागत को कम करना तथा कृषकों की आय में वृद्धि करना। • मानव उपभोग के लिए रसायन-मुक्त व पौष्टिक भोजन प्रदान करना। • अल्प-लागत वाली, पारंपरिक व कृषक-अनुकूल प्रौद्योगिकियों का उपयोग करके पर्यावरण की सुरक्षा करना। • स्थानीय व राष्ट्रीय बाज़ारों के साथ प्रत्यक्ष बाज़ार संपर्क के माध्यम से कृषकों को उद्यमी बनने में सहायता करना। उपर्युक्त गद्य तथा सामान्य ज्ञान के आधार पर, निम्नलिखित प्रश्नों के उत्तर दीजिए : (i) जैविक कृषि को परिभाषित कीजिए। जैविक कृषि के किन्हीं दो लाभों की व्याख्या कीजिए। **उत्तर. जैविक कृषि एक ऐसी कृषि प्रणाली है जो पारिस्थितिक संतुलन को पुनर्स्थापित करती है,उसे बनाए रखती है और सुदृढ़ करती है।** **जैविक खेती के दो लाभ:** • **जैविक रूप से उगाये गए भोज्य पदार्थ रासायनिक खेती की तुलना में अधिक पौष्टिक होते हैं।** • **जैविक कृषि, महंगे कृषि आगतों के स्थान पर स्थानीय रूप से उत्पादित सस्ते जैविक आगतों का उपयोग करने का अवसर प्रदान करती है।** **(अन्य कोई प्रासंगिक लाभ के लिए भी अंक प्रदान किए जाए)** (ii) जैविक कृषि में परंपरागत कृषि विकास योजना (PKVY) के किन्हीं दो महत्त्वपूर्ण क्षेत्रों की व्याख्या कीजिए। **उत्तर. परंपरागत कृषि विकास योजना (PKVY) के दो प्रमुख क्षेत्र हैं:** • **धारणीय जैविक पद्धतियों के माध्यम से कृषि लागत को कम करना तथा कृषकों की आय में वृद्धि करना।** • **मानव उपभोग के लिए रसायन-मुक्त व पौष्टिक भोजन प्रदान कराना।** **(अन्य कोई प्रासंगिक क्षेत्र के लिए भी अंक प्रदान किए जाए)**	**1** **1** **1** **1½** **1½** **6**
34. (क)	(i) "स्वतंत्रता के बाद से लेकर 1990 के दशक तक, भारत की अंतर्मुखी व्यापार नीति को विभिन्न व्यापार प्रतिबंधों द्वारा समर्थित किया गया था।" क्या आप दिए गए कथन से सहमत हैं? अपने उत्तर के समर्थन में मान्य स्पष्टीकरण दीजिए। **उत्तर. अंतर्मुखी व्यापार नीति (Inward-looking trade policy) का उद्देश्य आयातों को घरेलू उत्पादन से प्रतिस्थापित करना था। इस नीति के अंतर्गत, सरकार ने घरेलू उद्योगों को विदेशी प्रतिस्पर्धा से बचाने के लिए प्रशुल्क और कोटा जैसे विभिन्न व्यापार प्रतिबंधों का उपयोग किया। प्रशुल्क वे कर हैं जो आयातित वस्तुओं पर लगाए जाते हैं जो उन्हें महंगा बना देते हैं, जिससे उनका उपयोग हतोत्साहित होता है। वहीं, कोटा उन वस्तुओं की मात्रा को निर्धारित करता है जिन्हें आयात किया जा सकता है। इस प्रकार, प्रशुल्क और कोटा दोनों का आरोपण व्यापार प्रतिबंधों के रूप में कार्य करता है। (पूरे उत्तर को एक साथ अंकित किया जाए)** (ii) 'आत्मनिर्भर भारत पहल', उसी आत्मनिर्भरता की भावना को अग्रगामी करती है, जिसे सरकार ने 1947 के उपरांत अपनाया था।' दिए गए कथन के आलोक में, यह स्पष्ट कीजिए कि स्वतंत्रता उपरांत आत्मनिर्भरता को एक महत्त्वपूर्ण योजना उद्देश्य क्यों माना गया था। **उत्तर. 'आत्मनिर्भर भारत पहल' (Atmanirbhar Bharat Initiative) का उद्देश्य भारत को एक आत्मनिर्भर अर्थव्यवस्था में परिवर्तित करना है। स्वतंत्रता उपरांत काल में, आत्मनिर्भरता का नियोजन**	**3** **3**

	उद्देश्य अन्य देशों पर निर्भरता को कम करना था, विशेषकर खाद्य आवश्यकताओं के लिए। यह विदेशी हस्तक्षेप से बचने हेतु घरेलू संसाधनों के उपयोग पर बल देता था, क्योंकि यह आशंका थी कि आयातित खाद्य आपूर्ति, विदेशी तकनीक और विदेशी पूंजी पर निर्भरता हमारे देश की नीतियों में विदेशी हस्तक्षेप को बढ़ा सकती है। (पूरे उत्तर को एक साथ अंकित किया जाए)	
	अथवा	**6**
(ख)	(i) 1991 की नई आर्थिक नीति (NEP) ने प्रचलित स्थितियों को सुधारने के लिए स्थायित्वकारी उपाय व संरचनात्मक उपाय अपनाए थे।" इन उपायों की संक्षेप में चर्चा कीजिए। **उत्तर. स्थायित्वकारी उपाय (Stabilisation measures) अल्पकालिक उपाय होते हैं, जिनका उद्देश्य भुगतान संतुलन की कुछ त्रुटियों को सुधारना और मुद्रास्फीति को नियंत्रण में लाना था।** **दूसरी ओर, संरचनात्मक उपाय (Structural measures) दीर्घकालिक उपाय होते हैं, जिनका उद्देश्य भारतीय अर्थव्यवस्था की कुशलता में सुधार करना और अर्थव्यवस्था के विभिन्न क्षेत्रकों की जड़ताओं को दूर करके उसकी अंतर्राष्ट्रीय प्रतिस्पर्धात्मकता क्षमता को संवर्धित करना है।** **(पूरे उत्तर को एक साथ अंकित किया जाए)**	**3**
	(ii) "औद्योगिक नीति संकल्प (IPR), 1956 ने सभी उद्योगों को राज्य के स्वामित्व व नियंत्रण पर आधारित विभिन्न श्रेणियों में वर्गीकृत किया था।" क्या आप उपर्युक्त कथन से सहमत हैं? अपने उत्तर के समर्थन में मान्य कारण दीजिए। **उत्तर. हाँ। औद्योगिक नीति नीति संकल्प (IPR), 1956 उद्योगों को तीन श्रेणियों में वर्गीकृत करता है:** • **प्रथम श्रेणी में वे उद्योग शामिल थे जिनका स्वामित्व पूर्णतः सरकार के पास था।** • **दूसरी श्रेणी में वे उद्योग शामिल थे जिनमें निजी क्षेत्र, सार्वजनिक क्षेत्र के प्रयासों में सहायक हो सकते थे, यद्यपि नए उपक्रमों की स्थापना की पूर्ण जिम्मेदारी सरकार की थी।** • **तीसरी श्रेणी में वे शेष उद्योग शामिल थे जो निजी क्षेत्र में होने थे। हालांकि, इन उद्योगों को लाइसेंस प्रणाली के माध्यम से राज्य के नियंत्रण में रखा गया था।**	**1** **1** **1**
		6

* * *