Series : QPSR1 SET~1

रोल नं.

Roll No.

प्रश्न-पत्र कोड Q.P. Code **58/1/1**

परीक्षार्थी प्रश्न-पत्र कोड को उत्तर-पुस्तिका के मुख-पृष्ठ पर अवश्य लिखें ।

Candidates must write the Q.P. Code on the title page of the answer-book.

अर्थशास्त्र

ECONOMICS

निर्धारित समय : 3 घण्टे *अधिकतम अंक : 80*

Time allowed : 3 hours *Maximum Marks : 80*

नोट :

(I) *कृपया जाँच कर लें कि इस प्रश्न-पत्र में मुद्रित पृष्ठ **23** हैं ।*

(II) *प्रश्न-पत्र में दाहिने हाथ की ओर दिए गए प्रश्न-पत्र कोड को परीक्षार्थी उत्तर-पुस्तिका के मुख-पृष्ठ पर लिखें ।*

(III) *कृपया जाँच कर लें कि इस प्रश्न-पत्र में **34** प्रश्न हैं ।*

(IV) ***कृपया प्रश्न का उत्तर लिखना शुरू करने से पहले, उत्तर-पुस्तिका में यथास्थान पर प्रश्न का क्रमांक अवश्य लिखें ।***

(V) *इस प्रश्न-पत्र को पढ़ने के लिए 15 मिनट का समय दिया गया है । प्रश्न-पत्र का वितरण पूर्वाह्न में 10.15 बजे किया जाएगा । 10.15 बजे से 10.30 बजे तक परीक्षार्थी केवल प्रश्न-पत्र को पढ़ेंगे और इस अवधि के दौरान वे उत्तर-पुस्तिका पर कोई उत्तर नहीं लिखेंगे ।* {}

NOTE :

(I) *Please check that this question paper contains **23** printed pages.*

(II) *Q.P. Code given on the right hand side of the question paper should be written on the title page of the answer-book by the candidate.*

(III) *Please check that this question paper contains **34** questions.*

(IV) ***Please write down the serial number of the question in the answer-book at the given place before attempting it.***

(V) *15 minute time has been allotted to read this question paper. The question paper will be distributed at 10.15 a.m. From 10.15 a.m. to 10.30 a.m., the candidates will read the question paper only and will not write any answer on the answer-book during this period.*

सामान्य निर्देश :

निम्नलिखित निर्देशों को ध्यानपूर्वक पढ़िए और उनका पालन कीजिए :

(i) *इस प्रश्न-पत्र में **34** प्रश्न हैं । **सभी** प्रश्न **अनिवार्य** हैं ।*

(ii) *यह प्रश्न-पत्र **दो** खण्डों में विभाजित है :*

*खण्ड-**क** : समष्टि अर्थशास्त्र*

*खण्ड-**ख** : भारतीय आर्थिक विकास*

(iii) *इस प्रश्न-पत्र में **20** बहुविकल्पीय प्रकार के प्रश्न हैं । प्रत्येक प्रश्न **1** अंक का है ।*

(iv) *इस प्रश्न-पत्र में **4** लघु-उत्तरीय प्रकार-I के प्रश्न हैं । प्रत्येक प्रश्न **3** अंकों का है । इन प्रश्नों के उत्तर **60** से **80** शब्दों में लिखे जाने चाहिए ।*

(v) *इस प्रश्न-पत्र में **6** लघु-उत्तरीय प्रकार-II के प्रश्न हैं । प्रत्येक प्रश्न **4** अंकों का है । इन प्रश्नों के उत्तर **80** से **100** शब्दों में लिखे जाने चाहिए ।*

(vi) *इस प्रश्न-पत्र में **4** दीर्घ-उत्तरीय प्रकार के प्रश्न हैं । प्रत्येक प्रश्न **6** अंकों का है । इन प्रश्नों के उत्तर **100** से **150** शब्दों में लिखे जाने चाहिए ।*

(vii) *प्रत्येक प्रश्न के **सभी** भागों के उत्तर एक साथ लिखे जाने चाहिए ।*

(viii) *इसके अतिरिक्त, ध्यान दें कि दृष्टिबाधित परीक्षार्थियों के लिए चित्र तथा मानचित्र आदि आधारित प्रश्नों के स्थान पर एक अन्य प्रश्न दिया गया है । इन प्रश्नों के उत्तर केवल दृष्टिबाधित परीक्षार्थी ही लिखें ।*

(ix) *प्रश्न-पत्र में कोई समग्र विकल्प नहीं है । यद्यपि, कुछ प्रश्नों में आंतरिक विकल्प का प्रावधान दिया गया है । इन प्रश्नों में से केवल एक ही प्रश्न का उत्तर लिखा जाए ।*

खण्ड – क

(समष्टि अर्थशास्त्र)

1. किसी द्वि-क्षेत्रक अर्थव्यवस्था में, कारक भुगतान का प्रवाह _____ से _____ की ओर जाता है । (सही विकल्प द्वारा रिक्त स्थान की पूर्ति करें ।) **1**

(A) फर्म, गृहस्थ (B) फर्म, सरकार

(C) बैंक, गृहस्थ (D) गृहस्थ, फर्म

General Instructions :

Read the following instructions carefully and follow them :

(i) *This question paper contains **34** questions. **All** questions are **compulsory**.*

(ii) *This question paper contains **two** sections :*

*Section – **A** : Macro Economics*

*Section – **B** : Indian Economic Development*

(iii) *This Question paper contains **20** Multiple Choice type questions. Each question carries **1** mark.*

(iv) *This Question paper contains **4** Short Answer Type-I questions. Each question carries **3** marks. Answer these questions in **60** to **80** words.*

(v) *This Question paper contains **6** Short Answer Type-II questions. Each question carries **4** marks. Answer these questions in **80** to **100** words.*

(vi) *This Question paper contains **4** Long Answer type questions. Each question carries **6** marks. Answer these questions in **100** to **150** words.*

(vii) *Attempt **all** parts of a question together.*

(viii) *In addition to this, NOTE that a separate question has been provided for Visually Impaired candidates in lieu of questions having visual inputs, map etc. Such questions are to be attempted by Visually Impaired candidates only.*

(ix) *There is no overall choice in the question paper. However, an internal choice has been provided in few questions. Only one of the choices in such questions has to be attempted.*

SECTION – A

(Macro Economics)

1. In a two sector economy, the flow of factor payments moves from _____ to _____.

(Choose the correct option to fill in the blanks) **1**

(A) firms, households (B) firms, government

(C) banks, households (D) households, firms

2. निम्नलिखित कथनों – अभिकथन (A) तथा कारण (R) का अध्ययन करें । नीचे दिए गए विकल्पों में से सही विकल्प का चयन करें : **1**

अभिकथन (A) : मुद्रा की प्रकृति नाशवान है तथा सामान्यतः यह किसी भी समय पर सभी द्वारा स्वीकृत की जाती है ।

कारण (R) : मुद्रा मूल्य के भंडार के रूप में कार्य करती है, जो कि व्यक्तियों को वर्तमान से भविष्य में क्रय शक्ति स्थानांतरित करने की सुविधा प्रदान करती है ।

विकल्प :

(A) अभिकथन (A) तथा कारण (R) दोनों सत्य हैं तथा कारण (R), अभिकथन (A) की सही व्याख्या है ।

(B) अभिकथन (A) तथा कारण (R) दोनों सत्य हैं, परन्तु कारण (R), अभिकथन (A) की सही व्याख्या नहीं है ।

(C) अभिकथन (A) सत्य है, परन्तु कारण (R) असत्य है ।

(D) अभिकथन (A) असत्य है, परन्तु कारण (R) सत्य है ।

3. निम्नलिखित कथनों का ध्यानपूर्वक अध्ययन करें : **1**

कथन 1 : मुद्रा का मूल्यह्रास एक आर्थिक कार्यवाही है जो कि, किसी राष्ट्र की सरकार द्वारा स्थिर विनिमय दर प्रणाली के अंतर्गत की जाती है ।

कथन 2 : नम्य विनिमय दर प्रणाली के अंतर्गत, विदेशी मुद्रा भंडार को कायम रखते हुए, अधिकारी विदेशी मुद्रा बाज़ार में सक्रिय रूप से हस्तक्षेप करते हैं ।

उपरोक्त कथनों के आलोक में, निम्नलिखित में से सही विकल्प का चयन करें :

(A) कथन 1 सत्य है तथा कथन 2 असत्य है ।

(B) कथन 1 असत्य है तथा कथन 2 सत्य है ।

(C) कथन 1 व 2 दोनों सत्य हैं ।

(D) कथन 1 व 2 दोनों असत्य हैं ।

4. किसी अर्थव्यवस्था में जब, _____ पूर्ण रोज़गार के अनुरूप उत्पादन के स्तर को प्राप्त करने के लिए अपर्याप्त होती है, तो इस अंतर को अपस्फीतिकारी अंतराल कहा जाता है । **1**

(सही विकल्प द्वारा रिक्त स्थान की पूर्ति करें ।)

विकल्प :

(A) नियोजित समग्र माँग (B) वास्तविक समग्र माँग

(C) नियोजित समग्र पूर्ति (D) वास्तविक समग्र पूर्ति

5. किसी अर्थव्यवस्था में _____ का अपवर्जन करने से सकल घरेलू उत्पाद (GDP) के मूल्य का अल्पांकलन हो सकता है । (रिक्त स्थान की पूर्ति के लिए सही विकल्प का चयन करें ।) **1**

(i) वस्तु विनिमय लेनदेन (ii) परिवार के सदस्यों द्वारा प्रदत्त सेवाएँ

(iii) अवैध गतिविधियाँ (iv) परिसंपत्तियों का मूल्यह्रास

विकल्प :

(A) (i) व (ii) (B) (ii) व (iii)

(C) (iii) व (iv) (D) (i), (ii) व (iii)

2. Read the following statements : Assertion (A) and Reason (R). Choose the correct option from those given below : **1**

Assertion (A) : Money is of perishable nature and is generally accepted by all at any point of time.

Reason (R) : Money serves as a store of value, facilitating individuals to transfer purchasing power from the present to the future.

Options :

(A) Both Assertion (A) and Reason (R) are true, and Reason (R) is the correct explanation of Assertion (A).

(B) Both Assertion (A) and Reason (R) are true, but Reason (R) is not the correct explanation of Assertion (A).

(C) Assertion (A) is true, but Reason (R) is false.

(D) Assertion (A) is false, but Reason (R) is true.

3. Read the following statements carefully : **1**

Statement 1 : Depreciation of currency is an economic action undertaken by the government of a nation under the fixed exchange rate system.

Statement 2 : Under the floating exchange Rate system, authorities actively intervene in the foreign exchange market by way of maintaining foreign exchange reserves.

In the light of the given statements, choose the correct option from the following :

(A) Statement 1 is true and statement 2 is false.

(B) Statement 1 is false and statement 2 is true.

(C) Both statements 1 and 2 are true.

(D) Both statements 1 and 2 are false.

4. In an economy, when _____ is insufficient to achieve the level of output corresponding to the full employment, the difference is termed a deflationary gap. (Choose the correct option to fill in the blank) **1**

Options :

(A) ex-ante Aggregate Demand (B) ex-post Aggregate Demand

(C) ex-ante Aggregate Supply (D) ex-post Aggregate Supply

5. In an economy, exclusion of _____ may lead to under estimation of the value of Gross Domestic Product (GDP). **1**

(Choose the correct option to fill in the blank)

(i) Barter Transactions

(ii) Services provided by family members

(iii) Illegal activities

(iv) Depreciation of Assets

Options :

(A) (i) and (ii) (B) (ii) and (iii)

(C) (iii) and (iv) (D) (i), (ii) and (iii)

6. पहचान करें कि, निम्नलिखित में से कौन सम स्तर आय पर सत्य है । (सही विकल्प का चयन करें ।) **1**

विकल्प :

(A) उपभोग वक्र का ढाल = बचत वक्र का ढाल

(B) औसत उपभोग प्रवृत्ति (APC) = औसत बचत प्रवृत्ति (APS)

(C) बचत वक्र का ढाल = इकाई (1)

(D) औसत उपभोग प्रवृत्ति (APC) = इकाई (1)

7. निम्नलिखित कथनों का ध्यानपूर्वक अध्ययन करें : **1**

कथन 1 : अंतिम वस्तुएँ वे वस्तुएँ होती हैं जो, सामान्यतः उत्पादन प्रक्रिया में अपनी पहचान खो देती हैं ।

कथन 2 : अंतिम वस्तुएँ उपभोक्ता द्वारा उपभोग प्रक्रिया के दौरान रूपांतरित हो सकती हैं ।

उपरोक्त कथनों के आलोक में, निम्नलिखित में से सही विकल्प का चयन करें ।

विकल्प :

(A) कथन 1 सत्य है तथा कथन 2 असत्य है ।

(B) कथन 1 असत्य है तथा कथन 2 सत्य है ।

(C) कथन 1 व 2 दोनों सत्य हैं ।

(D) कथन 1 व 2 दोनों असत्य हैं ।

8. निम्नलिखित कथनों – अभिकथन (A) तथा कारण (R) का अध्ययन करें । नीचे दिए गए विकल्पों में से सही विकल्प का चयन करें : **1**

अभिकथन (A) : एकपक्षीय स्थानांतरण किसी राष्ट्र के भुगतान संतुलन के चालू खाते में दर्ज किए जाते हैं ।

कारण (R) : पूँजी खाता उन लेन-देनों को अभिलेखित करता है, जो राष्ट्र की परिसंपत्तियों अथवा देनदारियों में परिवर्तन का कारण बनते हैं ।

विकल्प :

(A) अभिकथन (A) तथा कारण (R) दोनों सत्य हैं तथा कारण (R), अभिकथन (A) की सही व्याख्या है ।

(B) अभिकथन (A) तथा कारण (R) दोनों सत्य हैं, परन्तु कारण (R), अभिकथन (A) की सही व्याख्या नहीं है ।

(C) अभिकथन (A) सत्य है, परन्तु कारण (R) असत्य है ।

(D) अभिकथन (A) असत्य है, परन्तु कारण (R) सत्य है ।

9. "भारतीय बैंकिंग प्रणाली, सांविधिक तरलता अनुपात (SLR) वाणिज्यिक बैंकों की साख निर्माण क्षमता को नियंत्रित करने में महत्त्वपूर्ण भूमिका निभाती है, क्योंकि _____ **1**

(रिक्त स्थान की पूर्ति के लिए सही विकल्प का चयन करें ।)

(A) यह सुनिश्चित करता है कि, सभी जमाओं को तरल परिसंपत्तियों में परिवर्तित कर दिया गया है ।

(B) इसमें बैंकों को जमाओं का एक निश्चित प्रतिशत तरल सम्पत्तियों के रूप में बनाए रखने की अनिवार्यता होती है ।

(C) यह ब्याज की वह अधिकतम सीमा निर्धारित करता है, जो बैंक ऋणों पर आरोपित कर सकते हैं ।

(D) बैंकों को उनकी कुल जमा राशि के एक विशिष्ट अनुपात से अधिक ऋण देने पर प्रतिबंध लगाता है ।

6. Identify, which of the following is true at the Break Even level of Income. (Choose the correct option) **1**

Options :

(A) Slope of Consumption Curve = Slope of Saving Curve
(B) Average Propensity to Consume (APC) = Average Propensity to Save (APS)
(C) Slope of Saving Curve = Unity (1)
(D) Average Propensity to Consume (APC) = Unity (1)

7. Read the following statements carefully : **1**

Statement 1 : Final goods are those goods which normally lose their identity in the production process.

Statement 2 : Final goods may get transformed during the consumption process by a consumer.

(Choose the correct option)

Options :

(A) Statement 1 is true and statement 2 is false.
(B) Statement 1 is false and statement 2 is true.
(C) Both statements 1 and 2 are true.
(D) Both statements 1 and 2 are false.

8. Read the following statements : Assertion (A) and Reason (R). Choose the correct option from those given below : **1**

Assertion (A) : Unilateral Transfers are recorded in the Current Account of the Balance of Payments (BoP) of a nation.

Reason (R) : Capital account records transactions which cause a change in the assets or liabilities of the country.

Options :

(A) Both Assertion (A) and Reason (R) are true, and Reason (R) is the correct explanation of Assertion (A).
(B) Both Assertion (A) and Reason (R) are true, but Reason (R) is not the correct explanation of Assertion (A).
(C) Assertion (A) is true, but Reason (R) is false.
(D) Assertion (A) is false, but Reason (R) is true.

9. "In the Indian Banking System, the Statutory Liquidity Ratio (SLR) plays a vital role in controlling the credit creation capacity of the Commercial Banks, as it _____." (Choose the correct option to fill in the blank) **1**

(A) ensures that all the deposits are converted into liquid assets.
(B) requires banks to maintain a percentage of deposits in the form of liquid assets.
(C) sets the maximum interest rate which the banks can charge on loans.
(D) promote banks from lending beyond a specific proportion of their total reserves.

10. एक अर्थव्यवस्था में, जनता के पास रखी गई मुद्रा, वाणिज्यिक बैंकों के पास शुद्ध माँग जमा व वाणिज्यिक बैंकों के पास शुद्ध सावधि जमा क्रमशः ₹ 1,42,000 करोड़, ₹ 22,000 करोड़ तथा ₹ 86,000 करोड़ है। मुद्रा आपूर्ति (M_1) का मूल्य ₹ _____ करोड़ होगा। **1**

(रिक्त स्थान की पूर्ति के लिए सही विकल्प का चयन करें।)

विकल्प :

(A) 2,50,000 (B) 86,000
(C) 1,64,000 (D) 1,42,000

11. (A) दो मित्र, मीरा व शाहिद, विगत कुछ वर्षों में भारत की आर्थिक वृद्धि की तुलना कर रहे थे। मीरा ने वर्तमान बाज़ार मूल्यों पर सकल घरेलू उत्पाद (GDP) में वृद्धि का उल्लेख किया, जबकि शाहिद ने मुद्रास्फीति के समायोजन के पश्चात्, सकल घरेलू उत्पाद (GDP) पर विचार करने पर बल दिया। दोनों में से कौन सा उपाय लोगों के कल्याण का सही चित्र प्रस्तुत करता है, इस पर दोनों की बहस अनिर्णीत रही।

उपरोक्त स्थिति को ध्यान में रखते हुए, वैध कारण सहित विस्तार से उल्लेख करें कि दोनों में से किस चर को कल्याण का बेहतर संकेतक माना जाता है तथा क्यों ? **3**

अथवा

(B) दो मित्र, रवि व हैरी इस बात पर चर्चा कर रहे थे कि, किसी पुरानी कार की बिक्री को भारत की राष्ट्रीय आय में सम्मिलित किया जाना चाहिए अथवा नहीं।

रवि का मानना था, इसे राष्ट्रीय आय में सम्मिलित किया जाना चाहिए, जबकि हैरी उससे सहमत नहीं था। कार डीलर को दी जाने वाली दलाली के उपचार पर भी उनके विचार पृथक-पृथक थे। दोनों छात्रों के अर्थशास्त्र शिक्षक के रूप में, वैध तर्कों द्वारा सही उपचार बताएँ। **3**

12. "भारतीय रिज़र्व बैंक (RBI) अधिनियम, 1934 की धारा 20 व धारा 21 में वर्णित प्रावधानों के अंतर्गत, RBI को भारत सरकार के बैंकिंग परिचालन को संभालने का अधिकार है।"

उपरोक्त कथन के आलोक में RBI के संकेतित कार्य की विस्तृत व्याख्या करें। **3**

13. (A) किसी काल्पनिक अर्थव्यवस्था के लिए, मान लीजिए कि मात्र दो फर्म (X और Y) हैं, जिनका सकल मूल्यवर्धन (GVA) बराबर है।

निम्नलिखित आँकड़ों पर दोनों फर्मों की घरेलू बिक्री का मूल्य अनुमानित कीजिए : **4**

क्रम संख्या	चर	राशि (₹ करोड़ में)
(i)	फर्म Y के उत्पाद का मूल्य	700
(ii)	फर्म X द्वारा फर्म Y से किया गया क्रय	200
(iii)	फर्म X द्वारा किया गया निर्यात	100
(iv)	फर्म Y द्वारा फर्म X से किया गया क्रय	150
(v)	फर्म X के स्टॉक में वृद्धि	50

अथवा

10. 'In an economy, the currency held by the public, Net Demand Deposits with Commercial Banks and Net Time Deposits with Commercial Banks stand at ₹ 1,42,000 crore, ₹ 22,000 crore and ₹ 86,000 crore respectively. The value of Money Supply (M_1) would be ₹ _____ crore.

(Choose the correct option to fill in the blank) **1**

Options :

(A) 2,50,000 (B) 86,000

(C) 1,64,000 (D) 1,42,000

11. (A) Meera and Shahid are two classmates, who were comparing India's economic growth over the years.
Meera referred to the increase in Gross Domestic Product (GDP) at current prices prevailing in market, while Sahid insisted on considering GDP after adjusting for inflation. Their debate on which of the two measures gives a true picture of people's well-being, remained inconclusive.
Considering the above mentioned situation, elaborate with valid reason, which of the two variables is considered a better indicator of welfare and why ? **3**

OR

(B) Two friends, Ravi and Harry were discussing whether the money received from sale of an old car should be included in India's National income.
Ravi was of the view that it should be included in India's National income while Harry did not agree with him.
They also had difference of opinion on the treatment of brokerage paid to the car dealer.
As their Economics teacher, state the treatments with valid arguments. **3**

12. "Under the provisions stated in the Section 20 and Section 21 of the Reserve Bank of India (RBI) Act, 1934, the RBI is mandated to handle the banking operations of the Government of India."
In the light of the given statement, elaborate the indicated function of the Reserve Bank of India. **3**

13. (A) For a hypothetical economy, assuming there are only two firms (X and Y) with equal values of Gross Value Added (GVA).
On the basis of the following data, estimate the value of Domestic Sales of both the firms (X and Y) : **4**

S. No.	Items	Amount (in ₹ crore)
(i)	Value of Output of firm Y	700
(ii)	Purchases by firm X from firm Y	200
(iii)	Exports by firm X	100
(iv)	Purchases by firm Y from firm X	150
(v)	Additions to Stock of firm X	50

OR

(B) सुश्री रीटा डी'कोस्टा, 2023 में आयकर आयुक्त के पद से सेवानिवृत्त हुई थी । उन्हें अपनी पेंशन के अतिरिक्त विभिन्न स्रोतों से निम्नलिखित राशियाँ भी प्राप्त होती हैं :

- स्व-स्वामित्व वाले फ्लैट का किराया
- उनकी सावधि जमा से ब्याज
- विदेश में बसे उनके बच्चों द्वारा प्रेषित धनराशि

वैध कारणों द्वारा, रीटा की मासिक आय को 'कारक आय' व 'हस्तांतरण आय' में वर्गीकृत करें । **4**

14. राष्ट्र ज़ीटा (Zeta) के एक उद्यमी माईकल ने अपने कपड़ा निर्माण व्यवसाय का विस्तार करने के लिए एक विदेशी बैंक से $ 5 मिलियन का ऋण लिया था ।
उसी वित्त वर्ष में, राष्ट्र ज़ीटा (Zeta) की सरकार ने प्रचलित भुगतान संतुलन (BoP) संकट का प्रबंधन करने के लिए एक अंतर्राष्ट्रीय वित्तीय संस्थान से $ 30 बिलियन का ऋण प्राप्त किया था ।
अर्थशास्त्र के शोध छात्र सैमुअल ने इन दोनों लेनदेन को राष्ट्र ज़ीटा (Zeta) के भुगतान संतुलन (BoP) खाते में स्वायत्त लेन-देन के रूप में वर्गीकृत किया ।
क्या आप सैमुअल द्वारा किए गए वर्गीकरण से सहमत हैं ? अपने उत्तर की उचित कारणों से पुष्टि करें । **4**

15. निम्नलिखित चित्र का ध्यानपूर्वक अध्ययन करें :



इंगित समष्टिगत अर्थशास्त्र संबंधी समस्या को नियंत्रित करने के लिए केंद्रीय बैंक द्वारा उठाए जा सकने वाले किन्हीं दो उपकरणों/उपायों की व्याख्या करें । **4**

नोट : निम्नलिखित प्रश्न केवल दृष्टिबाधित परीक्षार्थियों के लिए प्रश्न संख्या 15 के स्थान पर है :

अल्प माँग की स्थिति को नियंत्रण में लाने के लिए केन्द्रीय बैंक द्वारा उठाए जा सकने वाले किन्हीं दो उपायों का उल्लेख व व्याख्या करें । **4**

16. (A) "एक अर्थव्यवस्था की आय ₹ 20,000 करोड़ से बढ़कर ₹ 50,000 करोड़ हो गई । अर्थव्यवस्था की बचत ₹ 2,000 करोड़ से ₹ 10,000 करोड़ हो गई ।"

(i) आय वृद्धि पूर्व व पश्चात् उनकी औसत उपभोग प्रवृत्ति (APC) व औसत बचत प्रवृत्ति (APS) की गणना करें । **4**

(ii) आय वृद्धि पर औसत उपभोग प्रवृत्ति (APC) के व्यवहार के बारे में क्या निष्कर्ष निकाला जा सकता है ? **2**

अथवा

(B) Ms. Reeta D'Costa, retired from the post of Income Tax Commissioner in the year 2023.

Apart from her pension, she also receives the following from various sources :

- Rental income from a flat she owns.
- Interest income from her fixed deposits.
- Money sent by her children settled abroad.

Identify and classify, her monthly incomes into 'factor income' and 'transfer income', with valid reasons. **4**

14. Michel, an entrepreneur of Country Zeta, borrowed $ 5 million from an overseas bank to expand his textile business.

During the same financial year, the Government of Country Zeta secured a loan of $ 30 Billion from an International Financial Institution to manage the ongoing Balance of Payments.

Samuel, an Economics student categorised both of these transactions as 'autonomous transactions' in the BoP account of the country.

Do you agree with his classification ? Justify your answer with valid reasons. **4**

15. Refer the given image carefully :

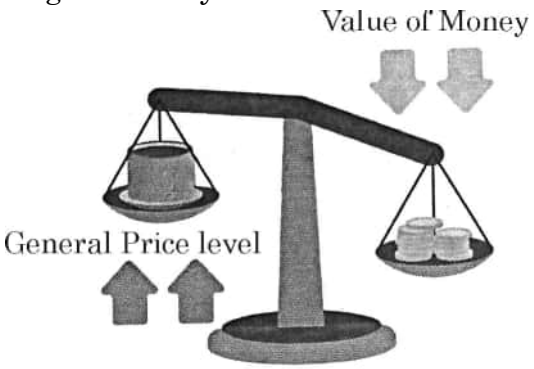

Explain any two measures that can be taken by the Central Bank to control the indicated macroeconomic problem. **4**

Note : The following question is for the Visually Impaired Candidates only in lieu of Q. No. 15.

State and explain any two measures that can be taken by the Central Bank to control the situation of deficient demand. **4**

16. (A) "Income of an economy increased from ₹ 20,000 to ₹ 50,000 crore. Savings of the economy increased from ₹ 2,000 crore to ₹ 10,000 crore."

(i) Calculate Average Propensity to Consume (APC) and Average Propensity to Save (APS), before and after the rise in income. **4**

(ii) Draw appropriate conclusion regarding the behaviour of Average Propensity to Consume (APC) as his income increases. **2**

OR

(B) "एक काल्पनिक राष्ट्र के व्यय पैटर्न के विश्लेषण से संबंधित एक अध्ययन के अंतर्गत यह पाया गया कि शून्य आय वाले परिवार भी बुनियादी आवश्यकताओं का उपभोग करने में कामयाब रहे। जैसे-जैसे लोगों की आय में वृद्धि हुई वैसे-वैसे उनके उपभोग में भी वृद्धि हुई, परन्तु आय जितनी तीव्रता से नहीं।"

उपरोक्त गद्य व सामान्य ज्ञान के आधार पर निम्नलिखित प्रश्नों के उत्तर दें :

(i) प्रथम पैरा में दर्शाये गये उपभोग के प्रकार की पहचान व व्याख्या करें। **3**

(ii) सकारण बताए कि, समग्र माँग (AD) वक्र सकारात्मक रूप से ढालू क्यों होता है। **3**

17. निम्नलिखित गद्य का ध्यानपूर्वक अध्ययन करें :

आर्थिक सर्वेक्षण 2024-25 के अनुसार, वित्त वर्ष 2025-26 के लिए सरकारी बजट अनुमानों में यह इंगित किया गया है कि, सकल प्रत्यक्ष कर राजस्व में 12.7% की वृद्धि होगी, जबकि सकल अप्रत्यक्ष कर का संग्रह वित्त वर्ष 2024-25 की तुलना में 8.3% से वृद्धि होने की संभावना है।

प्रत्यक्ष करों में आयकर व निगम कर सम्मिलित होते हैं, जो कि गृहस्थों व फर्मों द्वारा अर्जित आय व लाभ को दर्शाते हैं। ये सरकार की राजस्व वृद्धि में महत्वपूर्ण भूमिका निभाते हैं। अप्रत्यक्ष करों में वस्तु व सेवा कर (GST), सीमा शुल्क व अन्य लेन-देनों पर आधारित शुल्क सम्मिलित होते हैं।

प्रत्यक्ष करों के लिए अनुमानित उच्च वृद्धि दर बेहतर अनुपालन व सुधारों के माध्यम से कर उत्प्लावन (tax buoyancy) की वृद्धि की दिशा में एक कदम है। दूसरी ओर, अप्रत्यक्ष करों को उपभोग प्रवृत्तियों तथा वस्तु व सेवा कर (GST) प्रशासन में सुधार से लाभान्वित होने की उम्मीद है। एक संतुलित कर रणनीति का उद्देश्य राजकोषीय सुदृढ़ीकरण व सतत् आर्थिक विकास को समर्थन देते हुए संसाधन जुटाना है।

(i) उपर्युक्त गद्य में इंगित दो प्रकार के करों के मध्य उपयुक्त उदाहरणों सहित अंतर स्पष्ट करें। **4**

(ii) सरकार द्वारा दिए गए कर अनुमानों के संभावित परिणामों की व्याख्या करें। **2**

खण्ड – ख
(भारतीय आर्थिक विकास)

18. निम्नलिखित कथनों का ध्यानपूर्वक अध्ययन करें : **1**

कथन 1 : ब्रिटिश शासन के दौरान, निर्यात अधिशेष का उपयोग ब्रिटेन से अदृश्य मदों के आयात करने के लिए किया गया था।

कथन 2 : भारतीयों ने ब्रिटेन में औपनिवेशिक सरकार द्वारा स्थापित कार्यालय के व्यय का भुगतान भी किया था।

उपरोक्त कथनों के आलोक में, निम्नलिखित में से सही विकल्प का चयन करें :

(A) कथन 1 सत्य है तथा कथन 2 असत्य है।

(B) कथन 1 असत्य है तथा कथन 2 सत्य है।

(C) कथन 1 व 2 दोनों सत्य हैं।

(D) कथन 1 व 2 दोनों असत्य हैं।

(B) "Under a study, examining the spending habits of a hypothetical economy, it was observed that even households with zero income managed to consume basic necessities.
As the income of people increased, their consumption also increased, but not as rapidly as income."
Based on the given text and common understanding, answer the following questions :

(i) Identify and elaborate the type of consumption indicated in the first para of the above text. **3**

(ii) Explain, the reason behind the positive slope of Aggregate Demand Curve. **3**

17. Refer the given text carefully :
According to the Economic Survey 2024-25, the government budget's projections for the fiscal year 2025-26 indicate that gross direct tax revenue will rise by 12.7%, while gross indirect tax collections are expected to grow by 8.3% relative to FY 2024-25.
Direct taxes include income tax and corporate tax, reflecting earnings and profits of households and firms. It plays a key role in revenue growth of the government. Indirect taxes encompass Goods and Services Tax (GST), custom duties and other transaction-based levies.
Higher growth rate projected for direct taxes suggests a push to enhance tax buoyancy through improved compliance and reforms. On the other hand, indirect taxes are expected to benefit from consumption trends and Goods and Services Tax (GST) administration improvements. The balance tax strategy aims to mobilise resources while supporting fiscal consolidation and sustainable economic growth.
On the basis of the above passage and common understanding, answer the following questions :

(i) Differentiate between the two types of taxes indicated in the above text, with suitable examples. **4**

(ii) Elaborate the likely consequences of the tax projections made by the government. **2**

SECTION – B
(Indian Economic Development)

18. Read the following statements carefully : **1**
Statement 1 : During the British rule in India, the export surplus was utilised to import of invisible items from Britain.
Statement 2 : Indians paid for the expenses incurred by an office set up by the colonial government in Britain.
In the light of above statements, choose the correct option from the following :
(A) Statement 1 is true and statement 2 is false.
(B) Statement 1 is false and statement 2 is true.
(C) Both statements 1 and 2 are true.
(D) Both statements 1 and 2 are false.

19. निम्नलिखित कथनों – अभिकथन (A) तथा कारण (R) का अध्ययन करें । नीचे दिए गए विकल्पों में से सही विकल्प का चयन करें : **1**

अभिकथन (A) : शिक्षा, ज्ञान व दक्षताओं को आत्मसात् करने की सुविधा प्रदान करती है । यह आविष्कारशील क्षमताओं को भी प्रोत्साहित करती है, तथा उन्नत प्रौद्योगिकियों को एकीकृत करने की योग्यता में वृद्धि करती है ।

कारण (R) : शिक्षा संज्ञानात्मक दृष्टिकोण को परिवर्तित करने में महत्वपूर्ण भूमिका निभाती है तथा किसी देश की आर्थिक उन्नति के लिए उत्प्रेरक का कार्य करती है ।

विकल्प :

(A) अभिकथन (A) तथा कारण (R) दोनों सत्य हैं तथा कारण (R), अभिकथन (A) की सही व्याख्या है ।

(B) अभिकथन (A) तथा कारण (R) दोनों सत्य हैं, परन्तु कारण (R), अभिकथन (A) की सही व्याख्या नहीं है ।

(C) अभिकथन (A) सत्य है, परन्तु कारण (R) असत्य है ।

(D) अभिकथन (A) असत्य है, परन्तु कारण (R) सत्य है ।

20. निम्नलिखित गद्य का ध्यानपूर्वक अध्ययन करें : **1**

"विगत कुछ समयावधि में, भारत सरकार ने प्राथमिक व द्वितीयक दोनों शेयर बाज़ारों सहित पूँजी बाजार में अधिकाधिक सार्वजनिक भागीदारी को प्रोत्साहित करने के लिए कई उपाय आरंभ किए हैं ।"

उपरोक्त सुधार किस क्षेत्र के अंतर्गत प्रस्तुत किए गए हैं ? (सही विकल्प का चयन करें ।)

विकल्प :

(A) औद्योगिक (B) वित्तीय

(C) कर (D) विदेशी व्यापार

21. वर्ष 1987 में मॉन्ट्रियल प्रोटोकॉल पर हस्ताक्षर किए गए थे, जिसमें राष्ट्रों ने _____ की प्रतिबद्धता जताई थी । (सही विकल्प द्वारा रिक्त स्थान की पूर्ति करें ।) **1**

विकल्प :

(A) जैव-विविधता के नुकसान को कम करने

(B) वैश्विक ऊष्णता के प्रभाव को कम करने

(C) ओजोन परत को क्लोरोफ्लोरो कार्बन के कारण क्षरण से बचाने

(D) वनों की कटाई के प्रभाव को कम करने

19. Read the following statements : Assertion (A) and Reason (R), Choose the correct option from those given below : **1**

Assertion (A) : Education facilitates the assimilation of knowledge and competencies. It also fosters inventive capacities and enhances the aptitude to integrate advance technology.

Reason (R) : Education plays a pivotal role in transforming cognitive perspectives and serves as a catalyst for the economic advancement of a nation.

Options :

(A) Both Assertion (A) and Reason (R) are true, and Reason (R) is the correct explanation of Assertion (A).

(B) Both Assertion (A) and Reason (R) are true, but Reason (R) is not the correct explanation of Assertion (A).

(C) Assertion (A) is true, but Reason (R) is false.

(D) Assertion (A) is false, but Reason (R) is true.

20. Read the following text carefully : **1**

"In the recent times, the Government of India, has introduced several measures to encourage greater public participation in the capital market, including both primary and secondary stock markets."

Under which sector have the above mentioned reforms been introduced ?

(Choose the correct option)

Options :

(A) Industrial (B) Financial

(C) Taxation (D) Foreign Trade

21. The Montreal Protocol was signed in the year 1987 committing nations to _____. (Choose the correct option to fill in the blank) **1**

Options :

(A) protect biodiversity from any further losses.

(B) reduce the impact of global warming.

(C) protect ozone layer from depletion incurred due to chlorofluoro carbons .

(D) reduce the impact of deforestation.

22. निम्नलिखित कथनों – अभिकथन (A) तथा कारण (R) का अध्ययन करें । नीचे दिए गए विकल्पों में से सही विकल्प का चयन करें : **1**

अभिकथन (A) : कृषि उन्नति की तुलना में ग्रामीण विकास की अवधारणा में कहीं अधिक व्यापक वर्णक्रम (स्पेक्ट्रम) सम्मिलित है ।

कारण (R) : कृषि क्षेत्र में सरकारी हस्तक्षेप अनिवार्य है क्योंकि, कृषि ग्रामीण जनसंख्या के लिए जीविका का प्राथमिक साधन है ।

विकल्प :

(A) अभिकथन (A) तथा कारण (R) दोनों सत्य हैं तथा कारण (R), अभिकथन (A) की सही व्याख्या है ।

(B) अभिकथन (A) तथा कारण (R) दोनों सत्य हैं, परन्तु कारण (R), अभिकथन (A) की सही व्याख्या नहीं है ।

(C) अभिकथन (A) सत्य है, परन्तु कारण (R) असत्य है ।

(D) अभिकथन (A) असत्य है, परन्तु कारण (R) सत्य है ।

23. पहचान करें कि, निम्नलिखित में से कौन भारत के श्रम बाज़ार में उभरते रोजगार प्रवृत्ति (ट्रेन्ड) के स्वरूप (पैटर्न) से जुड़े एक महत्त्वपूर्ण मुद्दे पर प्रकाश डालता है । **1**

विकल्प :

(A) स्थायी वेतनभोगी कर्मचारियों की हिस्सेदारी में उत्तरोत्तर वृद्धि

(B) आकस्मिक रूप से नियोजित व्यक्तियों के अनुपात में वृद्धि

(C) सभी क्षेत्रों में स्वरोज़गार के अवसरों का विस्तार

(D) औपचारिक क्षेत्र में रोज़गार के अवसरों में उल्लेखनीय वृद्धि

24. कॉलम–I में दी गई मदों को कॉलम–II में दिए गए उनके अर्थों से सुमेलित करें : **1**

(सही विकल्प का चयन करें)

	कॉलम-I		**कॉलम-II**
(i)	मौसमी बेरोज़गारी	(a)	ऐसे निजी उद्यम जिसमें 10 से कम कर्मचारी कार्यरत हैं ।
(ii)	स्व–रोजगार	(b)	वे व्यक्ति जो अपनी जीविका चलाने के लिए स्वयं के संसाधनों का उपयोग करते हैं ।
(iii)	असंगठित क्षेत्र	(c)	कुछ विशेष मौसमों में होने वाली बेरोज़गारी
(iv)	प्रच्छन्न बेरोज़गारी	(d)	शून्य सीमांत उत्पादकता

विकल्प :

(A) (i)-(d); (ii)-(a); (iii)-(b); (iv)-(c)

(B) (i)-(b); (ii)-(a); (iii)-(c); (iv)-(d)

(C) (i)-(c); (ii)-(b); (iii)-(a); (iv)-(d)

(D) (i)-(c); (ii)-(d); (iii)-(a); (iv)-(b)

22. Read the following statements : Assertion (A) and Reason (R), Choose the correct option from those given below : **1**

Assertion (A) : The notion of rural development encompasses a far wider spectrum than agricultural advancement.

Reason (R) : Government interventions in the agricultural sector remain imperative, as it constitutes the primary means of sustanance for the rural population.

Options :

(A) Both Assertion (A) and Reason (R) are true, and Reason (R) is the correct explanation of Assertion (A).

(B) Both Assertion (A) and Reason (R) are true, but Reason (R) is not the correct explanation of Assertion (A).

(C) Assertion (A) is true, but Reason (R) is false.

(D) Assertion (A) is false, but Reason (R) is true.

23. Identify, which of the following, highlights a highly relevant issue associated with evolving employment trends in India's labour market ? **1**

Options :

(A) Progressive increase in the share of permanent salaried employees.

(B) Increase in the proportion of casually employed individuals.

(C) Expansion of self-employment avenues in all regions.

(D) Significant rise in job opportunities within the formal sector.

24. Match the terms given in Column-I with their respective meaning in Column-II. Select the correct option : **1**

	Column-I		**Column-II**
(i)	Seasonal Unemployment	(a)	Private enterprises hiring less than 10 employees
(ii)	Self-employed	(b)	Workers using their own resources to earn livelihood
(iii)	Unorganised sector	(c)	Unemployment occurring in specific season
(iv)	Disguised Unemployment	(d)	Zero Marginal Productivity

Options :

(A) (i)-(d); (ii)-(a); (iii)-(b); (iv)-(c)

(B) (i)-(b); (ii)-(a); (iii)-(c); (iv)-(d)

(C) (i)-(c); (ii)-(b); (iii)-(a); (iv)-(d)

(D) (i)-(c); (ii)-(d); (iii)-(a); (iv)-(b)

25. "धारणीय विकास से तात्पर्य उस विकास से है जो कि, वर्तमान पीढ़ी की आवश्यकताओं से समझौता किए बिना भावी पीढ़ी की आवश्यकताओं को पूरा करने की क्षमता रखता है ।"
उपर्युक्त परिभाषा _____ द्वारा दी गई है । (सही विकल्प द्वारा रिक्त स्थान की पूर्ति करें ।) **1**

(A) पर्यावरण व विकास पर संयुक्त राष्ट्र सम्मेलन (B) पर्यावरण व विकास पर संयुक्त राष्ट्र समिति
(C) पर्यावरण संरक्षण पर संयुक्त राष्ट्र समिति (D) पर्यावरण संरक्षण पर संयुक्त राष्ट्र सम्मेलन

26. निम्नलिखित कथनों – अभिकथन (A) तथा कारण (R) का अध्ययन करें । नीचे दिए गए विकल्पों में से सही विकल्प का चयन करें : **1**

अभिकथन (A) : भारत सरकार ने कृषि उत्पादों के लिए पारदर्शी व सुशासित विनियमित विपणन स्थिति सुनिश्चित करने के लिए बाज़ारों के विनियमन का उपाय अपनाया था ।

कारण (R) : बाज़ारों के विनियमन से पारदर्शी मूल्य निर्धारण, निष्पक्ष व्यापार प्रथाओं व कृषि विपणन में शोषण के विरुद्ध कृषकों के लिए सुरक्षा सुनिश्चित की गई थी ।

विकल्प :

(A) अभिकथन (A) तथा कारण (R) दोनों सत्य हैं तथा कारण (R), अभिकथन (A) की सही व्याख्या है ।
(B) अभिकथन (A) तथा कारण (R) दोनों सत्य हैं, परन्तु कारण (R), अभिकथन (A) की सही व्याख्या नहीं है ।
(C) अभिकथन (A) सत्य है, परन्तु कारण (R) असत्य है ।
(D) अभिकथन (A) असत्य है, परन्तु कारण (R) सत्य है ।

27. चीन के आर्थिक विकास इतिहास में निम्नलिखित घटनाओं को सही कालानुक्रमिक क्रम में व्यवस्थित करें तथा उपयुक्त विकल्प का चयन करें : **1**

I. महान सर्वहारा सांस्कृतिक क्रांति II. ग्रेट लीप फॉरवर्ड
III. आर्थिक सुधारों का आरंभ IV. प्रथम पंचवर्षीय योजना का शुभारंभ

विकल्प :

(A) II, IV, III, I (B) IV, II, I, III
(C) II, IV, I, III (D) IV, I, II, III

28. (A) "औपचारिक क्षेत्र में रोज़गार, अनौपचारिक क्षेत्र में नौकरियों की तुलना में बेहतर आय व सामाजिक लाभ की गारंटी प्रदान करता है ।"
वैध कारण व उदाहरण के साथ उपर्युक्त कथन का समर्थन या खंडन करें । **3**

अथवा

(B) 29 जून, 2025 को प्रसारित 'मन की बात' कार्यक्रम के दौरान, प्रधानमंत्री ने साझा किया कि, विश्व स्वास्थ्य संगठन (WHO) ने भारत को ट्रेकोमा (नेत्रों से संबंधित एक रोग) – मुक्त घोषित किया है । यह स्वास्थ्य सेवा, स्वच्छता, जागरूकता व चिकित्सा अभिगम में निरंतर प्रयासों का परिणाम है ।
उपर्युक्त कथन के आलोक में, बताएँ कि स्वास्थ्य सेवा में निवेश किसी राष्ट्र की सामाजिक-आर्थिक स्थिति में किस प्रकार योगदान देती है । अपने उत्तर के समर्थन में कारण दें । **3**

25. "Sustainable development refers to the development that meets the need of the present generation without compromising the ability of the future generations, to meet their own needs."
The above mentioned definition has been given by _____. **1**
(Choose the correct option to fill in the blank)
(A) United Nations Conference on Environment and Development
(B) United Nations Committee on Environment and Development
(C) United Nations Committee on Protection of Environment
(D) United Nations Conference on Protection of Environment

26. Read the following statements : Assertion (A) and Reason (R), Choose the correct option from those given below : **1**
Assertion (A) : The Government of India adopted the measure of regulation of markets to improve marketing conditions for agricultural products.
Reason (R) : Regulation of market ensured transparent pricing, fair trade practices, and protection for farmers against exploitation in agricultural marketing.
Options :
(A) Both Assertion (A) and Reason (R) are true, and Reason (R) is the correct explanation of Assertion (A).
(B) Both Assertion (A) and Reason (R) are true, but Reason (R) is not the correct explanation of Assertion (A).
(C) Assertion (A) is true, but Reason (R) is false.
(D) Assertion (A) is false, but Reason (R) is true.

27. Arrange the following events in China's economic development history in correct chronological sequence and select the correct option : **1**
I. Great Proletarian Cultural Revolution.
II. Great leap forward
III. Introduction of Economic Reforms
IV. Launch of the First Five Year Plan
Options :
(A) II, IV, III, I (B) IV, II, I, III
(C) II, IV, I, III (D) IV, I, II, III

28. (A) "Employment in the formal sector guarantees better income and social benefits compared to informal sector job."
Defend or refute the above statement with valid reason and example. **3**
OR
(B) During the 'Mann ki Baat' program aired on 29th June, 2025, Prime Minister shared that World Health Organisation (WHO) has declared India as a Trachoma free (an eye disease). This achievement, he shared, is a result of sustained efforts in health care, sanitation, awareness and medical access.
In the light of the above statement, explain how investments in health care contributes to a nation's development. Support your answer with valid arguments. **3**

29. "1970 के दशक के बाद के वर्षों में भारत की अपेक्षा, चीन की जनसंख्या वृद्धि दर में तीव्र कमी आयी थी ।" इस स्थिति के कारणों व प्रभावों की व्याख्या करें । **3**

30. (A) ऐसे किन्हीं दो परिवर्तनों का उल्लेख व व्याख्या करें जो कि ब्रिटिश शासन के दौरान भारत की व्यावसायिक संरचना में देखी गई थी । **4**

अथवा

(B) "अंग्रेजों ने भारत में संरचनात्मक ढाँचे के विकास की अपनी नीतियों के माध्यम से अपने निहित स्वार्थ को प्राप्त करने का प्रयास किया था ।"

क्या आप उपर्युक्त कथन से सहमत है ? अपने उत्तर को उचित स्पष्टीकरण द्वारा प्रमाणित करें । **4**

31. "स्वतंत्रता के समय, भारत व पाकिस्तान दोनों को समान औपनिवेशिक आर्थिक संरचनाएँ विरासत में मिली थीं । दोनों राष्ट्रों ने आर्थिक नियोजन की कई एक जैसी रणनीतियाँ अपनाई थीं ।"

भारत व पाकिस्तान के विकास पथ में किन्हीं दो समानताओं की व्याख्या कीजिए । **4**

32. (A) प्रच्छन्न बेरोज़गारी के अर्थ का उल्लेख करें । **1**

(B)

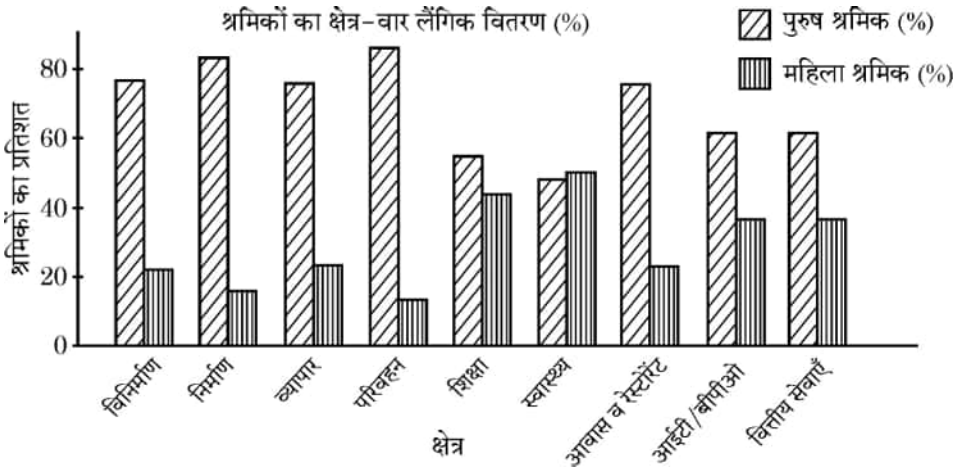

उपर्युक्त चार्ट के आलोक में, श्रमिकों के लिंगाधार क्षेत्रीय वितरण का विश्लेषण करें । **3**

नोट : निम्नलिखित प्रश्न केवल दृष्टिबाधित परीक्षार्थियों के लिए प्रश्न संख्या 32 (B) के स्थान पर है :

शहरी क्षेत्रों की तुलना में ग्रामीण क्षेत्रों में आर्थिक गतिविधियों में अधिक महिलाओं के कार्यरत होने के पीछे के किन्हीं दो कारणों को स्पष्ट करें । **3**

29. "In the late 1970's China's population growth rate has sharply declined as compared to India."
Elucidate the reasons and impacts of this situation. **3**

30. (A) State and explain any two changes which were observed in India's occupational structure during the British Rule. **4**

OR

(B) "The British sought to achieve their vested interest through their policies of infrastructural development in India."
Do you agree with the given statement ? Justify your answer with valid explanation. **4**

31. "At the time of independence, both India and Pakistan inherited similar colonial economic structures. Both the nations adopted many similar economic planning strategies."
Explain any two such similarities in the developmental path of India and Pakistan. **4**

32. (A) State the meaning of 'Disguised Unemployment'. **1**

(B)

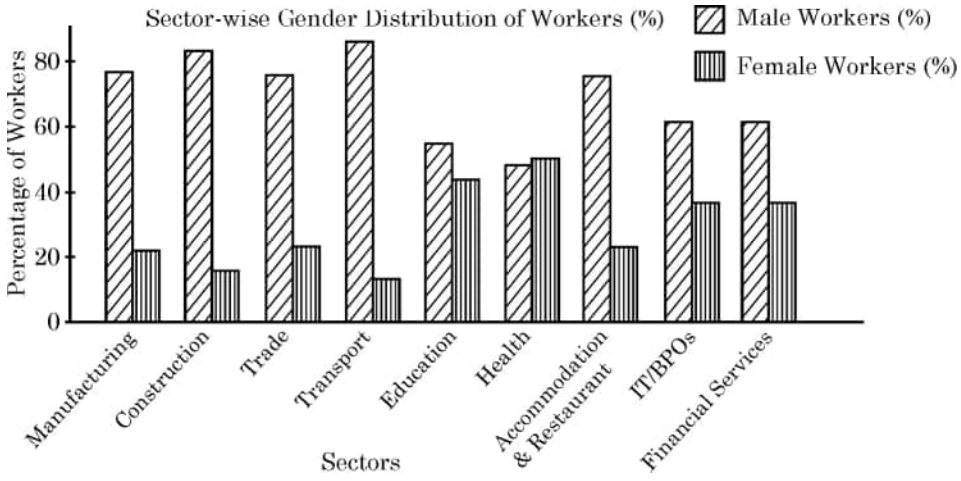

In the light of the given chart, analyse the gender-wise sectoral distribution of workers. **3**

Note : The following question is for the Visually Impaired Candidates only in lieu of Q. No. 32 (B).

Elaborate any two reasons behind more women employed in economic activities in Rural areas as compared to Urbans areas. **3**

33. (A) (i) बैंगलोर के एक IT उद्यमी श्रीमान रवि ने यह अनुभव किया कि कई बहुराष्ट्रीय कंपनियाँ सॉफ्टवेयर विकास, ग्राहक सहायता व डेटा प्रबंधन जैसी सेवाओं के लिए भारत को अपने बाह्यप्रापण (Outsourcing) केन्द्र के रूप में पसंद करती हैं ।
उनकी मित्र प्रिया का मानना है कि, ऐसा भारतीय अर्थव्यवस्था के कुछ अंतर्निहित लाभों के कारण है ।
आपकी राय में, भारत को एक पसंदीदा बाह्यप्रापण गंतव्य बनाने वाले किन्हीं दो कारकों का उल्लेख और उसकी व्याख्या कीजिए । **3**

(ii) "स्वतंत्रता उपरांत अवधि में भारत ने सुरक्षात्मक टैरिफ नीति अपनाई थी ।"
क्या आप उपर्युक्त कथन से सहमत हैं ? किन्हीं दो वैध तर्कों द्वारा अपने उत्तर का औचित्य सिद्ध कीजिए । **3**

अथवा

(B) (i) "सार्वजनिक क्षेत्र के उपक्रम की रणनीतिक बिक्री (strategic sale) व उनके अंशों (shares) की अल्पमत बिक्री (minority sale) विनिवेश के उपाय हैं ।"
उपर्युक्त कथन का वैध तर्कों द्वारा समर्थन अथवा खंडन करें । **3**

(ii) संक्षेप में चर्चा करें कि, किस प्रकार द्विपक्षीय व्यापारिक समझौते बहुपक्षीय व्यापारिक समझौतों से भिन्न होते हैं । **3**

34. निम्नलिखित गद्य का ध्यानपूर्वक अध्ययन करें :

सभी के लिए समावेशी व गुणवत्तापूर्ण शिक्षा की सुनिश्चितता हेतु, भारत सरकार ने कई महत्त्वपूर्ण योजनाएँ प्रारंभ की हैं, जिनका उद्देश्य पहुँच, समानता व शिक्षण अधिगमों में सुधार लाना है, विशेष रूप से वंचित समूहों में ।

4 अगस्त, 2009 को भारतीय संसद द्वारा पारित शिक्षा का अधिकार (RTE) अधिनियम, 6-14 वर्ष की आयु के सभी बालक-बालिकाओं को प्राथमिक शिक्षा पूरी होने तक, निकटवर्ती विद्यालयों में शिक्षा प्राप्त होने की गारंटी प्रदान करता है । ऐसी ही एक अन्य प्रमुख पहल, सर्व शिक्षा अभियान (SSA) भी है । इसे 2001 में, प्रारंभ किया गया था । यह प्रारंभिक शिक्षा के सार्वभौमिकरण के लिए भारत के प्रमुख कार्यक्रमों में से एक है ।

1 जुलाई, 2015 को प्रारंभ किया गया डिजीटल इंडिया अभियान, विशेष रूप से ग्रामीण व दूरदराज़ के क्षेत्रों में, मोबाइल व इंटरनेट कनेक्टिविटी में सुधार करके, भारत को डिजीटल रूप से सशक्त समाज में बदलने पर केंद्रित है । यह पहल डिजीटल शिक्षा व शैक्षिक संसाधनों तक पहुँच का समर्थन करती है ।

इन सभी पहलों के माध्यम से, सरकार सभी बच्चों के लिए एकसमान, सुलभ व गुणवत्ता-संचालित शैक्षिक वातावरण बनाने का प्रयास करती है, जो कि राष्ट्रीय विकास की एक मजबूत नींव रखता है ।

उपरोक्त गद्य व सामान्य ज्ञान के आलोक में, निम्नलिखित प्रश्नों का उत्तर दें :

(i) पहचानिये कि, कौन सा कानून 14 वर्ष की आयु तक निःशुल्क व अनिवार्य शिक्षा की गारंटी प्रदान करता है ? समझाइए कि, यह किस प्रकार शिक्षा तक पहुँच सुनिश्चित करने में सहायक है । **1+2**

(ii) आपके मत में, शिक्षा पर सार्वजनिक व्यय में वृद्धि ने भारत के सामाजिक व आर्थिक परिवर्तन में किस प्रकार योगदान प्रदान किया है ? अपने उत्तर के समर्थन में उचित तर्क प्रस्तुत करें । **3**

33. (A) (i) Mr. Ravi, an IT entrepreneur from Bengaluru, observed that several MNC's prefer India as their outsourcing Hub for services like software development, customer support, data management etc.
His friend Priya believes this is due to certain inherent advantages of the Indian economy. **3**
In your opinion, state and explain any two factors that make India a preferred outsourcing destination.

(ii) "In the post-independence era, India adopted a protective tariff policy."
Do you agree with the given statement ? Justify your answer with any two valid arguments. **3**

OR

(B) (i) 'Strategic sale of a public sector undertaking and minority sale of their shares are methods of disinvestment.' Defend or refute the given statement with valid argument. **3**

(ii) Discuss briefly, how bilateral trade agreements are different from multilateral trade agreements ? **3**

34. Read the following text carefully :
To ensure inclusive and quality education for all, the Indian government has launched several important schemes. These schemes aimed at improving access, equity and learning outcomes, especially among disadvantaged group.
The Right to Education (RTE) Act, passed by the India Parliament on August 4, 2009, guarantees free and compulsory education to every child between 6-14 years of age. It ensures that all children have access to education in neightbourhood schools, until they complete elementary education. Another key initiative is Sarva Siksha Abhiyan (SSA). It was introduced in 2001. It is one of India's flagship programmes for the Universalisation of Elementary Education.
Digital India Campaign, launched on July 1, 2015, focuses on transforming India into a digitally empowered society by improving mobile and internet connectivity, particularly in rural and remote regions. This initiative supports digital learning & access to educational resources.
Through these initiatives, the government strives to create an equitable, accessible & quality driven educational environment for all children, laying a strong foundation for national development.
On the basis of the given text and common understanding, answer the following questions :

(i) Identify, which law guarantees free and compulsory education upto the age of 14 years. Explain, how does it help in enhancing access to education. **1+2**

(ii) In your opinion, how has the increase in public spending on education contributed to India's social and economic transformation ? Support your answer with valid arguments. **3**



Marking Scheme
Strictly Confidential
(For Internal and Restricted use only)
Senior School Certificate Examination, 2026

ECONOMICS (SUBJECT CODE – 030)

(PAPER CODE – 58/1/1)

General Instructions: -

1	You are aware that evaluation is the most important process in the actual and correct assessment of the candidates. A small mistake in evaluation may lead to serious problems which may affect the future of the candidates, education system and teaching profession. To avoid mistakes, it is requested that before starting evaluation, you must read and understand the spot evaluation guidelines carefully.
2	**"Evaluation policy is a confidential policy as it is related to the confidentiality of the examinations conducted, Evaluation done and several other aspects. Its' leakage to public in any manner could lead to derailment of the examination system and affect the life and future of millions of candidates. Sharing this policy/document to anyone, publishing in any magazine and printing in News Paper/Website etc may invite action under various rules of the Board and IPC."**
3	Evaluation is to be done as per instructions provided in the Marking Scheme. It should not be done according to one's own interpretation or any other consideration. Marking Scheme should be strictly adhered to and religiously followed. **However, while evaluating, answers which are based on latest information or knowledge and/or are innovative, they may be assessed for their correctness otherwise and due marks be awarded to them. In Class XII, while evaluating competency-based questions, please try to understand given answer and even if reply is not from marking scheme but correct competency is enumerated by the candidate, due marks should be awarded.**
4	The Marking scheme carries only suggested value points for the answers.These are in the nature of Guidelines only and do not constitute the complete answer. The students can have their own expression and if the expression is correct, the due marks should be awarded accordingly.
5	The Head-Examiner must go through the first five answer books evaluated by each evaluator on the first day, to ensure that evaluation has been carried out as per the instructions given in the Marking Scheme. If there is any variation, the same should be zero after delibration and discussion. The remaining answer books meant for evaluation shall be given only after ensuring that there is no significant variation in the marking of individual evaluators.
6	Evaluators will mark(√) wherever answer is correct. For wrong answer CROSS 'X" be marked. Evaluators will not put right (✓)while evaluating which gives an impression that answer is correct and no marks are awarded. **This is most common mistake which evaluators are committing.**

7	If a question has parts, please award marks on the right-hand side for each part. Marks awarded for different parts of the question should then be totaled up and written in the left-hand margin and encircled. This may be followed strictly.
8	If a question does not have any parts, marks must be awarded in the left-hand margin and encircled. This may also be followed strictly.
9	If a student has attempted an extra question, answer of the question deserving more marks should be retained and the other answer scored out with a note **"Extra Question"**.
10	No marks to be deducted for the cumulative effect of an error. It should be penalized only once.
11	A full scale of marks 80 has to be used. Please do not hesitate to award full marks if the answer deserves it.
12	Every examiner has to necessarily do evaluation work for full working hours i.e., 8 hours every day and evaluate 20 answer books per day in main subjects and 25 answer books per day in other subjects (Details are given in Spot Guidelines).
13	Ensure that you do not make the following common types of errors committed by the Examiner in the past:- Giving more marks for an answer than assigned to it. ● Wrong totaling of marks awarded on an answer. ● Wrong transfer of marks from the inside pages of the answer book to the title page. ● Wrong question wise totaling on the title page. ● Leaving answer or part thereof unassessed in an answer book. ● Wrong totaling of marks of the two columns on the title page. ● Wrong grand total. ● Marks in words and figures not tallying/not same. ● Wrong transfer of marks from the answer book to online award list. ● Answers marked as correct, but marks not awarded. (Ensure that the right tick mark is correctly and clearly indicated. It should merely be a line. Same is with the X for incorrect answer.) ● Half or a part of answer marked correct and the rest as wrong, but no marks awarded.
14	While evaluating the answer books if the answer is found to be totally incorrect, it should be marked as cross (X) and awarded zero (0)Marks.
15	Any un assessed portion, non-carrying over of marks to the title page, or totaling error detected by the candidate shall damage the prestige of all the personnel engaged in the evaluation work as also of the Board. Hence, in order to uphold the prestige of all concerned, it is again reiterated that the instructions be followed meticulously and judiciously.
16	The Examiners should acquaint themselves with the guidelines given in the "**Guidelines for spot Evaluation**" before starting the actual evaluation.
17	Every Examiner shall also ensure that all the answers are evaluated, marks carried over to the title page, correctly totaled and written in figures and words.
18	The candidates are entitled to obtain photocopy of the Answer Book on request on payment of the prescribed processing fee. All Examiners/Additional Head Examiners/Head Examiners are once again reminded that they must ensure that evaluation is carried out strictly as per value points for each answer as given in the Marking Scheme.

MARKING SCHEME

Senior School Certificate Examination 2026

ECONOMICS (Subject Code–030)

[Paper Code: 58/1/1]

Maximum Marks: 80

Q. No.	EXPECTED ANSWER / VALUE POINTS	Marks
	SECTION -A **(Macro Economics)**	
1.	In a two sector economy, the flow of factor payments moves from _____ to _____. (Choose the correct option to fill in the blanks) (A) firms, households (B) firms, government (C) banks, households (D) households, firms **Ans. (A) firms, households**	**1**
2.	Read the following statements: Assertion (A) and Reason (R). Choose the correct option from those given below: **Assertion (A):** Money is of perishable nature and is generally accepted by all at any point of time. **Reason (R):** Money serves as a store of value, facilitating individuals to transfer purchasing power from the present to the future. **Options:** (A) Both Assertion (A) and Reason (R) are true, and Reason (R) is the correct explanation of Assertion (A). (B) Both Assertion (A) and Reason (R) are true, but Reason (R) is not the correct explanation of Assertion (A). (C) Assertion (A) is true, but Reason (R) is false. (D) Assertion (A) is false, but Reason (R) is true. **Ans. (D) Assertion (A) is false, but Reason (R) is true.**	**1**
3.	Read the following statements carefully: **Statement 1:** Depreciation of currency is an economic action undertaken by the government of a nation under the fixed exchange rate system. **Statement 2:** Under the floating exchange Rate system, authorities actively intervene in the foreign exchange market by way of maintaining foreign exchange reserves. In the light of the given statements, choose the correct option from the following: (A) Statement 1 is true and statement 2 is false. (B) Statement 1 is false and statement 2 is true. (C) Both statements 1 and 2 are true. (D) Both statements 1 and 2 are false. **Ans. (D) Both statements 1 and 2 are false.**	**1**
4.	In an economy, when _____ is insufficient to achieve the level of output corresponding to the full employment, the difference is termed a deflationary gap. (Choose the correct option to fill in the blank) **Options:** (A) ex-ante Aggregate Demand (B) ex-post Aggregate Demand (C) ex-ante Aggregate Supply (D) ex-post Aggregate Supply **Ans. (A) ex-ante Aggregate Demand**	**1**
5.	In an economy, exclusion of _____ may lead to under estimation of the value of Gross Domestic Product (GDP). (Choose the correct option to fill in the blank)	

	(i) Barter Transactions (ii) Services provided by family members (iii) Illegal activities (iv) Depreciation of Assets **Options:** (A) (i) and (ii) (B) (ii) and (iii) (C) (iii) and (iv) (D) (i), (ii) and (iii) **Ans. (A) (i) and (ii)**	**1**
6.	Identify, which of the following is true at the Break Even level of Income. (Choose the correct option) **Options:** (A) Slope of Consumption Curve = Slope of Saving Curve (B) Average Propensity to Consume (APC) = Average Propensity to Save (APS) (C) Slope of Saving Curve = Unity (1) (D) Average Propensity to Consume (APC) = Unity (1) **Ans. (D) Average Propensity to Consume (APC) = Unity (1)**	**1**
7.	Read the following statements carefully: **Statement 1:** Final goods are those goods which normally lose their identity in the production process. **Statement 2:** Final goods may get transformed during the consumption process by a consumer. (Choose the correct option) **Options:** (A) Statement 1 is true and statement 2 is false. (B) Statement 1 is false and statement 2 is true. (C) Both statements 1 and 2 are true. (D) Both statements 1 and 2 are false. **Ans. (B) Statement 1 is false and statement 2 is true.**	**1**
8.	Read the following statements: Assertion (A) and Reason (R). Choose the correct option from those given below: **Assertion (A):** Unilateral Transfers are recorded in the Current Account of the Balance of Payments (BoP) of a nation. **Reason (R):** Capital account records transactions which cause a change in the assets or liabilities of the country. **Options:** (A) Both Assertion (A) and Reason (R) are true, and Reason (R) is the correct explanation of Assertion (A). (B) Both Assertion (A) and Reason (R) are true, but Reason (R) is not the correct explanation of Assertion (A). (C) Assertion (A) is true, but Reason (R) is false. (D) Assertion (A) is false, but Reason (R) is true. **Ans. (B) Both Assertion (A) and Reason (R) are true, but Reason (R) is not the correct explanation of Assertion (A).**	**1**
9.	"In the Indian Banking System, the Statutory Liquidity Ratio (SLR) plays a vital role in controlling the credit creation capacity of the Commercial Banks, as it _____." (Choose the correct option to fill in the blank) (A) ensures that all the deposits are converted into liquid assets. (B) requires banks to maintain a percentage of deposits in the form of liquid assets. (C) sets the maximum interest rate which the banks can charge on loans. (D) promote banks from lending beyond a specific proportion of their total reserves.	

	Ans. (B) requires banks to maintain a percentage of deposits in the form of liquid assets.	**1**
10.	'In an economy, the currency held by the public, Net Demand Deposits with Commercial Banks and Net Time Deposits with Commercial Banks stand at ₹ 1,42,000 crore, ₹ 22,000 crore and ₹ 86,000 crore respectively. The value of Money Supply (M_1) would be ₹ _____ crore. (Choose the correct option to fill in the blank) **Options:** (A) 2,50,000 (B) 86,000 (C) 1,64,000 (D) 1,42,000 **Ans. (C) 1,64,000**	**1**
11. **(A)**	Meera and Shahid are two classmates, who were comparing India's economic growth over the years. Meera referred to the increase in Gross Domestic Product (GDP) at current prices prevailing in market, while Sahid insisted on considering GDP after adjusting for inflation. Their debate on which of the two measures gives a true picture of people's well-being, remained inconclusive. Considering the above mentioned situation, elaborate with valid reason, which of the two variables is considered a better indicator of welfare and why? **Ans. Gross Domestic Product (GDP) after adjusting for inflation (Real GDP) is a better measure of welfare than GDP at current prices (Nominal GDP).** **Real GDP is a true indicator of economic growth of a country as it changes only with the change in physical output. Thus, it eliminates the effect of changes in prices, showing the real growth of the economy.** **In contrast, Nominal GDP might change with the change in output or/and change in prices.**	**1** **1** **1**
	OR	**3**
(B)	Two friends, Ravi and Harry were discussing whether the money received from sale of an old car should be included in India's National income. Ravi was of the view that it should be included in India's National income while Harry did not agree with him. They also had difference of opinion on the treatment of brokerage paid to the car dealer. As their Economics teacher, state the treatments with valid arguments. **Ans. Harry's opinion is correct.** **The money received from the sale of an old car will not be included in India's National Income because its value was already included in the year it was originally produced. Hence, it does not contribute to the current flow of goods and services.** **However, the brokerage paid to the car dealer is included in India's National Income, as it represents payment for productive services rendered in the current year.**	**1 ½** **1 ½**
		3
12.	"Under the provisions stated in the Section 20 and Section 21 of the Reserve Bank of India (RBI) Act, 1934, the RBI is mandated to handle the banking operations of the Government of India." In the light of the given statement, elaborate the indicated function of the Reserve Bank of India.	

	Ans. The Reserve Bank of India (RBI) serves as banker to the government, managing its accounts, receiving deposits and processing payments. Exchanges, remittances and various banking operations are facilitated by the RBI on behalf of the government. **In addition to this, during any financial crisis, RBI provides credit to the government to ensure its smooth functioning and to support the state in managing its obligations effectively. (To be marked as a whole)**	**3**
13. (A)	For a hypothetical economy, assuming there are only two firms (X and Y) with equal values of Gross Value Added (GVA). On the basis of the following data, estimate the value of Domestic Sales of both the firms (X and Y):	

S. No.	Items	Amount (in ₹ crore)
(i)	Value of Output of firm Y	700
(ii)	Purchases by firm X from firm Y	200
(iii)	Exports by firm X	100
(iv)	Purchases by firm Y from firm X	150
(v)	Additions to Stock of firm X	50

Ans. Gross Value Added of Firm Y = (i) – (iv) ½
= 700 – 150
= ₹ 550 crore ½

Domestic Sales of Firm Y = Gross Value Added of Firm Y + (iv) ½
= 550 + 150
= ₹ 700 crore ½

Gross Value Added of Firm X = Gross Value Added of Firm Y = ₹ 550 crore

Domestic Sales of Firm X = Gross Value Added of Firm X – (iii) – (v) + (ii) **1**
= 550 – 100 – 50 + 200 ½
= ₹ 600 crore ½

OR **4**

(B) Ms. Reeta D'Costa, retired from the post of Income Tax Commissioner in the year 2023.
Apart from her pension, she also receives the following from various sources:

- Rental income from a flat she owns.
- Interest income from her fixed deposits.
- Money sent by her children settled abroad.

Identify and classify, her monthly incomes into 'factor income' and 'transfer income', with valid reasons.

Ans. Factor Income:

- **Rental income from a flat she owns.** ½
- **Interest income from her fixed deposits.** ½
- **Retirement pension (Deferred Payment)** ½

Transfer Income:

- **Money sent by her children settled abroad.** ½

Factor income is the income earned by the factors of production for rendering their services. **1**

	Transfer income is the income received without rendering any productive service in return.	**1**
		4
14.	Michel, an entrepreneur of Country Zeta, borrowed $ 5 million from an overseas bank to expand his textile business. During the same financial year, the Government of Country Zeta secured a loan of $ 30 Billion from an International Financial Institution to manage the ongoing Balance of Payments. Samuel, an Economics student categorised both of these transactions as 'autonomous transactions' in the BoP account of the country. Do you agree with his classification? Justify your answer with valid reasons. **Ans. No. The loan taken by the Government of Zeta in this case can be classified as an accommodating transaction. Such transactions are those international economic transactions which are undertaken (by competent authorities) to cover the surplus or deficit in Balance of Payments (BoP) and are independent of any economic motive.** **However, loan taken by Michel, can be classified as an autonomous transaction. Such international economic transactions are independent of the state of BoP and generally take place with an economic motive.**	**2** **2**
		4
15.	Refer the given image carefully:  Explain any two measures that can be taken by the Central Bank to control the indicated macroeconomic problem. **Ans. To deal with the situation of highlighted macroeconomic problem i.e. inflation, the Central Bank may use the following measures:** • **Repo Rate: A rise in repo rate will force the commercial banks to increase the lending rates, making the credit dearer for the general public, discouraging the borrowings. Consequently, Aggregate Demand will fall thus correcting the problem of inflation in the economy.** • **Open Market Operations: The Central Bank can sell government securities in the open market, thereby, reducing the availability of funds with the commercial banks for lending. Consequently, Aggregate Demand will fall thus correcting the problem of inflation in the economy.** **(Any other valid interpretation and explanation of the image to be awarded marks)**	**2** **2**
		4
	Note: The following question is for the Visually Impaired Candidates only in lieu of Q. No. 15. State and explain any two measures that can be taken by the Central Bank to control the situation of deficient demand. **Ans. To deal with the situation of deficient demand, the Central Bank may use the following measures:** • **Repo Rate: A fall in repo rate will encourage the commercial banks to decrease the lending rates making the credit relatively affordable for the**	**2**

general public, encouraging the borrowings. Consequently, Aggregate Demand will rise thus correcting the problem of deficient demand in the economy.

- **Open Market Operations: The Central Bank can purchase the government securities in the open market, thereby, increasing the availability of funds with the commercial banks for lending. Consequently, Aggregate Demand will rise thus correcting the problem of deficient demand in the economy.**

2

4

16. (A) "Income of an economy increased from ₹ 20,000 to ₹ 50,000 crore. Savings of the economy increased from ₹ 2,000 crore to ₹ 10,000 crore."

(i) Calculate Average Propensity to Consume (APC) and Average Propensity to Save (APS), before and after the rise in income.

Ans.

Income (Y) (in ₹ crore)	**Savings (S) (in ₹ crore)**	**Consumption (C = Y - S) (in ₹ crore)**	**APC (C/Y)**	**APS (S/Y)**
20,000	**2,000**	**18,000**	$\frac{18000}{20000} = 0.9$	$\frac{2000}{20000} = 0.1$
50,000	**10,000**	**40,000**	$\frac{40000}{50000} = 0.8$	$\frac{10000}{50000} = 0.2$

1 + 1

1 + 1

(Any other valid alternative solution to be awarded marks)

(ii) Draw appropriate conclusion regarding the behaviour of Average Propensity to Consume (APC) as his income increases.

Ans. From the given data, it can be concluded that as income increases from ₹ 20,000 to ₹ 50,000 crore, value of Average Propensity to Consume (APC) falls from 0.9 to 0.8, thereby establishing an inverse relationship between the level of income and APC.

2

6

OR

(B) "Under a study, examining the spending habits of a hypothetical economy, it was observed that even households with zero income managed to consume basic necessities.

As the income of people increased, their consumption also increased, but not as rapidly as income."

Based on the given text and common understanding, answer the following questions:

(i) Identify and elaborate the type of consumption indicated in the first para of the above text.

Ans. The type of consumption indicated in the above paragraph is Autonomous Consumption.

1

Autonomous Consumption is independent of level of income. Autonomous Consumption signifies the minimum level of consumption which is essential for survival.

2

(ii) Explain, the reason behind the positive slope of Aggregate Demand Curve.

Ans. Aggregate Demand (AD) is the sum of consumption and investment. Based on the assumption that, investment is autonomous, thereby, when income rises, consumption also rises, which leads to a rise in Aggregate Demand. Hence, Aggregate Demand curve slopes upward, reflecting a direct relationship between income and Aggregate Demand.

3

6

17.	Refer the given text carefully: According to the Economic Survey 2024-25, the government budget's projections for the fiscal year 2025-26 indicate that gross direct tax revenue will rise by 12.7%, while gross indirect tax collections are expected to grow by 8.3% relative to FY 2024-25. Direct taxes include income tax and corporate tax, reflecting earnings and profits of households and firms. It plays a key role in revenue growth of the government. Indirect taxes encompass Goods and Services Tax (GST), custom duties and other transaction-based levies. Higher growth rate projected for direct taxes suggests a push to enhance tax buoyancy through improved compliance and reforms. On the other hand, indirect taxes are expected to benefit from consumption trends and Goods and Services Tax (GST) administration improvements. The balance tax strategy aims to mobilise resources while supporting fiscal consolidation and sustainable economic growth. On the basis of the above passage and common understanding, answer the following questions: (i) Differentiate between the two types of taxes indicated in the above text, with suitable examples. **Ans. The two types of taxes indicated in the above text are direct and indirect taxes.** **Direct taxes are those taxes whose impact and incidence lies on the same entity. In other words, the liability of paying direct taxes can't be shifted.** **For example: Income tax etc.** **Whereas;** **Indirect taxes are those taxes whose impact and incidence may lie on different entities. In other words, the liability of paying indirect taxes can be shifted.** **For example: Goods and Services Tax (GST) etc.** **(Any other valid example to be awarded marks)** (ii) Elaborate the likely consequences of the tax projections made by the government. **Ans. The projected increase in tax revenues is likely to strengthen the government's revenue base. Overall, this balanced tax strategy will help mobilise resources, support fiscal consolidation and promote sustainable economic growth.**	**1 ½** **½** **1 ½** **½** **2** **6**
	SECTION – B **(Indian Economic Development)**	
18.	Read the following statements carefully: **Statement 1:** During the British rule in India, the export surplus was utilised to import of invisible items from Britain. **Statement 2:** Indians paid for the expenses incurred by an office set up by the colonial government in Britain. In the light of above statements, choose the correct option from the following: (A) Statement 1 is true and statement 2 is false. (B) Statement 1 is false and statement 2 is true. (C) Both statements 1 and 2 are true. (D) Both statements 1 and 2 are false. **Ans. (C) Both statements 1 and 2 are true.**	**1**
19.	Read the following statements: Assertion (A) and Reason (R), Choose the correct option from those given below:	

	Assertion (A): Education facilitates the assimilation of knowledge and competencies. It also fosters inventive capacities and enhances the aptitude to integrate advance technology. **Reason (R):** Education plays a pivotal role in transforming cognitive perspectives and serves as a catalyst for the economic advancement of a nation. **Options:** (A) Both Assertion (A) and Reason (R) are true, and Reason (R) is the correct explanation of Assertion (A). (B) Both Assertion (A) and Reason (R) are true, but Reason (R) is not the correct explanation of Assertion (A). (C) Assertion (A) is true, but Reason (R) is false. (D) Assertion (A) is false, but Reason (R) is true. **Ans. (B) Both Assertion (A) and Reason (R) are true, but Reason (R) is not the correct explanation of Assertion (A).**	**1**
20.	Read the following text carefully: "In the recent times, the Government of India, has introduced several measures to encourage greater public participation in the capital market, including both primary and secondary stock markets." Under which sector have the above mentioned reforms been introduced? (Choose the correct option) **Options:** (A) Industrial (B) Financial (C) Taxation (D) Foreign Trade **Ans. (B) Financial**	**1**
21.	The Montreal Protocol was signed in the year 1987 committing nations to____. (Choose the correct option to fill in the blank) **Options:** (A) protect biodiversity from any further losses. (B) reduce the impact of global warming. (C) protect ozone layer from depletion incurred due to chlorofluoro carbons. (D) reduce the impact of deforestation. **Ans. (C) protect ozone layer from depletion incurred due to chlorofluoro carbons.**	**1**
22.	Read the following statements: Assertion (A) and Reason (R), Choose the correct option from those given below: **Assertion (A):** The notion of rural development encompasses a far wider spectrum than agricultural advancement. **Reason (R):** Government interventions in the agricultural sector remain imperative, as it constitutes the primary means of sustanance for the rural population. **Options:** (A) Both Assertion (A) and Reason (R) are true, and Reason (R) is the correct explanation of Assertion (A). (B) Both Assertion (A) and Reason (R) are true, but Reason (R) is not the correct explanation of Assertion (A). (C) Assertion (A) is true, but Reason (R) is false. (D) Assertion (A) is false, but Reason (R) is true. **Ans. (B) Both Assertion (A) and Reason (R) are true, but Reason (R) is not the correct explanation of Assertion (A).**	**1**
23.	Identify, which of the following, highlights a highly relevant issue associated with evolving employment trends in India's labour market?	

Options:
(A) Progressive increase in the share of permanent salaried employees.
(B) Increase in the proportion of casually employed individuals.
(C) Expansion of self-employment avenues in all regions.
(D) Significant rise in job opportunities within the formal sector.
Ans. (B) Increase in the proportion of casually employed individuals. **1**

24. Match the terms given in Column-I with their respective meaning in Column-II. Select the correct option :

	Column-I		Column-II
(i)	Seasonal Unemployment	(a)	Private enterprises hiring less than 10 employees
(ii)	Self-employed	(b)	Workers using their own resources to earn livelihood
(iii)	Unorganised sector	(c)	Unemployment occurring in specific season
(iv)	Disguised Unemployment	(d)	Zero Marginal Productivity

Options:
(A) (i)-(d); (ii)-(a); (iii)-(b); (iv)-(c)
(B) (i)-(b); (ii)-(a); (iii)-(c); (iv)-(d)
(C) (i)-(c); (ii)-(b); (iii)-(a); (iv)-(d)
(D) (i)-(c); (ii)-(d); (iii)-(a); (iv)-(b)
Ans. (C) (i)-(c); (ii)-(b); (iii)-(a); (iv)-(d) **1**

25. "Sustainable development refers to the development that meets the need of the present generation without compromising the ability of the future generations, to meet their own needs."
The above mentioned definition has been given by _____.
(Choose the correct option to fill in the blank)
(A) United Nations Conference on Environment and Development
(B) United Nations Committee on Environment and Development
(C) United Nations Committee on Protection of Environment
(D) United Nations Conference on Protection of Environment
Ans. (A) United Nations Conference on Environment and Development **1**

26. Read the following statements: Assertion (A) and Reason (R), Choose the correct option from those given below:
Assertion (A): The Government of India adopted the measure of regulation of markets to improve marketing conditions for agricultural products.
Reason (R): Regulation of market ensured transparent pricing, fair trade practices, and protection for farmers against exploitation in agricultural marketing.
Options:
(A) Both Assertion (A) and Reason (R) are true, and Reason (R) is the correct explanation of Assertion (A).
(B) Both Assertion (A) and Reason (R) are true, but Reason (R) is not the correct explanation of Assertion (A).
(C) Assertion (A) is true, but Reason (R) is false.
(D) Assertion (A) is false, but Reason (R) is true.
Ans. (A) Both Assertion (A) and Reason (R) are true, and Reason (R) is the correct explanation of Assertion (A). **1**

27.	Arrange the following events in China's economic development history in correct chronological sequence and select the correct option: I. Great Proletarian Cultural Revolution. II. Great leap forward III. Introduction of Economic Reforms IV. Launch of the First Five Year Plan **Options:** (A) II, IV, III, I (B) IV, II, I, III (C) II, IV, I, III (D) IV, I, II, III **Ans. (B) IV, II, I, III**	**1**
28. (A)	"Employment in the formal sector guarantees better income and social benefits compared to informal sector job." Defend or refute the above statement with valid reason and example. **Ans. The given statement is defended. Formal sector workers are entitled to fair wages and other social security measures such as pension, provident fund, etc.** **Whereas, workers in the informal sector do not get regular income and social security benefits. They can be dismissed without any compensation.** **For example: A government employee receives regular salary along with pension and social security, whereas a daily wage worker works without any social security. (Any other valid example to be awarded marks)**	**1** **1** **1**
	OR	**3**
(B)	During the 'Mann ki Baat' program aired on 29th June, 2025, Prime Minister shared that World Health Organisation (WHO) has declared India as a Trachoma free (an eye disease). This achievement, he shared, is a result of sustained efforts in health care, sanitation, awareness and medical access. In the light of the above statement, explain how investments in health care contributes to a nation's development. Support your answer with valid arguments. **Ans. Investment in healthcare contributes to a nation's development by ensuring the availability of a healthy workforce. The productivity of a healthy person is relatively higher than that of an unhealthy person. Healthy people may provide an uninterrupted labour supply for a long period. Thus, better healthcare enhances labour productivity, promotes human capital formation and ultimately supports the economic development of a country. (To be marked as a whole)**	**3**
29.	"In the late 1970's China's population growth rate has sharply declined as compared to India." Elucidate the reasons and impacts of this situation. **Ans. In the late 1970s, China experienced a sharp decline in its population growth rate compared to India due to the implementation of one-child policy introduced by the government.** **This policy led to an ageing population, with a higher proportion of elderly people as compared to the young population.**	**1 ½** **1 ½**
		3
30. (A)	State and explain any two changes which were observed in India's occupational structure during the British Rule. **Ans. During the British rule the occupational structure of India showed regional variation as:** • **Shift towards Industrial and Service sector: Parts of Madras Presidency, Bombay and Bengal witnessed a decline in the dependence of the**	**½ + 1 ½**

	workforce on the agricultural sector with a commensurate increase in the manufacturing and the services sectors. • **Rising Dependence on Agriculture sector: There had been an increase in the share of workforce in agriculture in states such as Orissa, Rajasthan and Punjab.**	**½ + 1 ½**
	OR	**4**
(B)	"The British sought to achieve their vested interest through their policies of infrastructural development in India." Do you agree with the given statement? Justify your answer with valid explanation. **Ans. Yes. The British developed the basic infrastructure to subserve their own interest. Roads and railways were built primarily to mobilise the army within India, drawing out raw materials from the countryside to the nearest railway station/port for exporting to England/other foreign destinations. Moreover, various communication tools like electric telegraph were introduced to maintain law and order. (To be marked as a whole)** **(Any other valid explanation to be awarded marks)**	**4**
31.	"At the time of independence, both India and Pakistan inherited similar colonial economic structures. Both the nations adopted many similar economic planning strategies." Explain any two such similarities in the developmental path of India and Pakistan. **Ans. Two similar developmental strategies adopted by India and Pakistan:** • **Both the nations followed the path of mixed economic system involving the public as well as the private sector.** • **Both India and Pakistan adopted import substitution policy in order to protect their domestic industries from foreign competition.** **(Any other valid strategy to be awarded marks)**	**2** **2** **4**
32.	(A) State the meaning of 'Disguised Unemployment'. **Ans. Disguised unemployment refers to a situation when the person seems to be employed but is not contributing to the output i.e., his marginal productivity is zero.** (B) 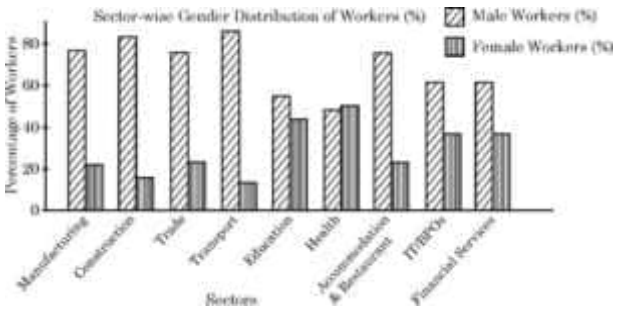 In the light of the given chart, analyse the gender-wise sectoral distribution of workers. **Ans. The given chart highlights the following points regarding the gender-wise sectoral distribution of workers:** • **Male workers dominate in most sectors such as manufacturing, construction, trade, transport etc.** • **Female participation is relatively low in construction and transport indicating gender inequality.** • **Education and health sectors show a relatively balanced distribution, with female participation being significantly higher compared to other sectors.** **(Any other valid point to be awarded marks)**	**1** **1** **1** **1**

	Note : The following question is for the Visually Impaired Candidates only in lieu of Q.No. 32 (B). Elaborate any two reasons behind more women employed in economic activities in Rural areas as compared to Urbans areas. **Ans. Reasons behind more women employed in economic activities in rural areas as compared to urban areas are:** • **Women in rural areas are more actively engaged in the economic activities as compared to their urban counterparts as women are compelled to work due to their economic condition.** • **Moreover, in urban areas, where men earn higher income, families often discourage female members from seeking employment.**	**1 ½** **1 ½** **4**
33. (A)	(i) Mr. Ravi, an IT entrepreneur from Bengaluru, observed that several MNC's prefer India as their outsourcing Hub for services like software development, customer support, data management etc. His friend Priya believes this is due to certain inherent advantages of the Indian economy. In your opinion, state and explain any two factors that make India a preferred outsourcing destination. **Ans. India has emerged as a preferred outsourcing destination because of:** • **Expansion of Information Technology and Communication: Growth of fast modes of communication, particularly the growth of Information Technology (IT).** • **Availability of skilled manpower: Efficient and skilled manpower is available at a relatively affordable cost.** (ii) "In the post-independence era, India adopted a protective tariff policy." Do you agree with the given statement? Justify your answer with any two valid arguments. **Ans. Yes. In the post-independence era, India adopted a protective tariff policy to:** • **promote domestic production by substituting imports with locally produced goods.** • **safeguard emerging industries from intense foreign competition, allowing them to grow and develop sustainably.** **(Any other valid argument to be awarded marks)**	**½ + 1** **½ + 1** **1 ½** **1 ½**
	OR	**6**
(B)	(i) 'Strategic sale of a public sector undertaking and minority sale of their shares are methods of disinvestment.' Defend or refute the given statement with valid argument. **Ans. The given statement is defended. Both strategic and minority sale are the methods of disinvestment used by the government to reduce its ownership and encourage private participation. It leads to improved efficiency and better performance of public sector enterprises. Strategic sale involves transferring a significant share of government ownership along with management control to a private entity. Although minority sale refers to selling a limited portion of shares while the government retains control.** **(Any other valid explanation to be awarded marks)**	**3**

	(ii) Discuss briefly, how bilateral trade agreements are different from multilateral trade agreements? **Ans. Bilateral Trade Agreement refers to the agreements relating to exchange of Goods and services between two countries.** **Whereas;** **Multilateral Trade Agreement refers to the trade agreements made by a country with more than two nations to exchange goods and services.**	**1 ½** **1 ½** **6**
34.	Read the following text carefully: To ensure inclusive and quality education for all, the Indian government has launched several important schemes. These schemes aimed at improving access, equity and learning outcomes, especially among disadvantaged group. The Right to Education (RTE) Act, passed by the India Parliament on August 4, 2009, guarantees free and compulsory education to every child between 6-14 years of age. It ensures that all children have access to education in neighbourhood schools, until they complete elementary education. Another key initiative is Sarva Siksha Abhiyan (SSA). It was introduced in 2001. It is one of India's flagship programmes for the Universalisation of Elementary Education. Digital India Campaign, launched on July 1, 2015, focuses on transforming India into a digitally empowered society by improving mobile and internet connectivity, particularly in rural and remote regions. This initiative supports digital learning & access to educational resources. Through these initiatives, the government strives to create an equitable, accessible & quality driven educational environment for all children, laying a strong foundation for national development. On the basis of the given text and common understanding, answer the following questions: (i) Identify, which law guarantees free and compulsory education upto the age of 14 years. Explain, how does it help in enhancing access to education. **Ans. The Right to Education (RTE) Act, 2009 guarantees free and compulsory education up to the age of 14 years.** **It enhances access to education by ensuring that every child between 6 to 14 years can attend school without any financial burden. It also provides schooling facilities in neighbourhood areas, making education easily accessible. This helps include children from disadvantaged groups and ensures that all children complete elementary education.** (ii) In your opinion, how has the increase in public spending on education contributed to India's social and economic transformation? Support your answer with valid arguments. **Ans. Increase in government spending on education has played an important role in India's social and economic development. It has made education more accessible, especially for weaker sections, thus, promoting equality. Education has improved skills and knowledge, leading to better job opportunities and higher productivity. It has helped in improving the standard of living of the people and overall development of the country. (To be marked as a whole)** **(Any other valid explanation to be awarded marks)**	**1** **2** **3** **6**

* * *

विषय : अर्थशास्त्र (030)

अंक योजना – हिन्दी माध्यम

अत्यंत गोपनीय

(केवल आंतरिक एवं सीमित उपयोग हेतु)

सीनियर सेकेंडरी स्कूल प्रमाणपत्र परीक्षा, 2026

सामान्य निर्देश:-

1	सीबीएसई ने 2026 की परीक्षा से कक्षा XII की उत्तर पुस्तिका के मूल्यांकन के लिए ऑन स्क्रीन मार्किंग (ओएसएम) शुरू करने का निर्णय लिया है।
2	आप जानते हैं कि उम्मीदवारों के वास्तविक और सही आकलन में मूल्यांकन सबसे महत्वपूर्ण प्रक्रिया है। मूल्यांकन में एक छोटी सी गलती भी गंभीर समस्याओं को जन्म दे सकती है, जिससे उम्मीदवारों, शिक्षा प्रणाली और शिक्षण पेशे के भविष्य पर गहरा असर पड़ सकता है। गलतियों से बचने के लिए, आपसे अनुरोध है कि मूल्यांकन शुरू करने से पहले, मौके पर किए गए मूल्यांकन के दिशानिर्देशों को ध्यानपूर्वक पढ़ें और समझें।
3	"मूल्यांकन नीति एक गोपनीय नीति है क्योंकि यह आयोजित परीक्षाओं, किए गए मूल्यांकन और कई अन्य पहलुओं की गोपनीयता से संबंधित है। किसी भी तरह से इसका सार्वजनिक होना परीक्षा प्रणाली को बाधित कर सकता है और लाखों उम्मीदवारों के जीवन और भविष्य को प्रभावित कर सकता है। इस नीति/दस्तावेज़ को किसी के साथ साझा करना, किसी पत्रिका में प्रकाशित करना और समाचार पत्र/वेबसाइट आदि में छापना बोर्ड के विभिन्न नियमों और आईपीसी के तहत कार्रवाई को आमंत्रित कर सकता है।"
4	मूल्यांकन अंकन योजना में दिए गए निर्देशों के अनुसार किया जाना चाहिए। यह किसी की व्यक्तिगत व्याख्या या अन्य किसी विचार के आधार पर नहीं किया जाना चाहिए। अंकन योजना का कड़ाई से पालन किया जाना चाहिए। हालांकि, मूल्यांकन करते समय, नवीनतम जानकारी या ज्ञान पर आधारित और/या नवीन उत्तरों की शुद्धता का अलग से मूल्यांकन किया जा सकता है और उन्हें उचित अंक दिए जा सकते हैं। कक्षा XII में, दो योग्यता-आधारित प्रश्नों का मूल्यांकन करते समय, कृपया दिए गए उत्तर को समझने का प्रयास करें और यदि उत्तर अंकन योजना के अनुसार नहीं है, लेकिन उम्मीदवार द्वारा सही योग्यता का उल्लेख किया गया है, तो उचित अंक दिए जाने चाहिए।
5	अंकन योजना में उत्तरों के लिए केवल सुझाए गए अंक दिए गए हैं। ये केवल दिशानिर्देश हैं और पूर्ण उत्तर नहीं हैं। छात्र अपनी अभिव्यक्ति दे सकते हैं और यदि अभिव्यक्ति सही है, तो तदनुसार अंक दिए जाने चाहिए।
6	मुख्य परीक्षक को पहले दिन प्रत्येक मूल्यांकनकर्ता द्वारा मूल्यांकित की गई पहली पाँच उत्तर पुस्तिकाओं की जाँच करनी चाहिए, ताकि यह सुनिश्चित हो सके कि मूल्यांकन अंकन योजना में दिए गए निर्देशों के अनुसार किया गया है। यदि कोई भिन्नता पाई जाती है, तो विचार-विमर्श और चर्चा के बाद उसे शून्य कर दिया जाना चाहिए। शेष उत्तर पुस्तिकाएँ, जिनका मूल्यांकन किया जाना है, तभी दी जाएँगी जब यह सुनिश्चित हो जाए कि प्रत्येक मूल्यांकनकर्ता के अंकन में कोई महत्वपूर्ण भिन्नता नहीं है।
7	मूल्यांकनकर्ता सही उत्तरों पर (√) चिह्न लगाएंगे। गलत उत्तरों पर 'X' का निशान लगाया जाएगा। मूल्यांकन करते समय मूल्यांकनकर्ता सही (✓) चिह्न नहीं लगाएंगे, जिससे यह आभास होगा कि उत्तर सही है और कोई अंक नहीं दिए जाएंगे। यह मूल्यांकनकर्ताओं द्वारा की जाने वाली सबसे आम गलती है।
8	यदि किसी प्रश्न के कई भाग हैं, तो कृपया प्रत्येक भाग के लिए OSM पोर्टल में दाईं ओर अंक दें। प्रश्न के विभिन्न भागों के लिए दिए गए अंकों को OSM सिस्टम द्वारा कुल मिलाकर जोड़ा जाएगा।

9	यदि किसी प्रश्न के कोई भाग नहीं हैं, तो OSM पोर्टल में बाईं ओर के हाशिये में अंक दिए जाने चाहिए। इसका सख्ती से पालन किया जाना चाहिए।
10	किसी त्रुटि के संचयी प्रभाव के लिए कोई अंक नहीं काटे जाएंगे। इसके लिए केवल एक बार ही दंड दिया जाना चाहिए।
11	उत्तर के लिए पूर्ण अंक प्रणाली 60 (उदाहरण के लिए प्रश्न पत्र में दिए गए 0 से 80/70/60/50/40/30 अंक) का उपयोग किया जाना है। यदि उत्तर उचित हो तो पूर्ण अंक देने में संकोच न करें।
12	प्रत्येक परीक्षक को अनिवार्य रूप से पूरे कार्य समय यानी प्रतिदिन 8 घंटे मूल्यांकन कार्य करना होगा और मुख्य विषयों में प्रतिदिन 20 उत्तर पुस्तिकाओं और अन्य विषयों में प्रतिदिन 25 उत्तर पुस्तिकाओं का मूल्यांकन करना होगा (विवरण स्पॉट दिशानिर्देशों में दिया गया है)। यह कम किए गए पाठ्यक्रम और प्रश्नपत्र में प्रश्नों की संख्या को ध्यान में रखते हुए किया गया है।
13	सुनिश्चित करें कि आप परीक्षक द्वारा अतीत में की गई निम्नलिखित सामान्य त्रुटियों को न दोहराएँ: ● उत्तरों को सही चिह्नित करना, लेकिन अंक न देना। (सुनिश्चित करें कि सही निशान स्पष्ट रूप से लगा हो। यह केवल एक रेखा होनी चाहिए। गलत उत्तर के लिए X का निशान भी ऐसा ही होना चाहिए।) ● उत्तर का आधा या आंशिक भाग सही और शेष गलत चिह्नित करना, लेकिन अंक न देना।
14	उत्तर पुस्तिकाओं का मूल्यांकन करते समय यदि उत्तर पूरी तरह से गलत पाया जाता है, तो उसे क्रॉस (X) के रूप में चिह्नित किया जाना चाहिए और शून्य (0) अंक दिए जाने चाहिए।
15	वास्तविक मूल्यांकन शुरू करने से पहले परीक्षकों को "मौके पर मूल्यांकन के लिए दिशानिर्देश" में दिए गए दिशा-निर्देशों से स्वयं को परिचित कर लेना चाहिए।
16	निर्धारित प्रोसेसिंग शुल्क का भुगतान करने पर उम्मीदवारों को अनुरोध पर उत्तर पुस्तिका की फोटोकॉपी प्राप्त करने का अधिकार है। सभी परीक्षकों/अतिरिक्त मुख्य परीक्षकों/मुख्य परीक्षकों को एक बार फिर याद दिलाया जाता है कि उन्हें यह सुनिश्चित करना होगा कि मूल्यांकन अंकन योजना में दिए गए प्रत्येक उत्तर के लिए निर्धारित अंकों के अनुसार ही किया जाए।
17	अगर कोई कैंडिडेट किसी सवाल में दोनों ऑप्शन आज़माता है, जहाँ सिर्फ़ एक ऑप्शन आज़माना ज़रूरी है, तो इवैल्यूएटर दोनों ऑप्शन में मार्क्स देगा। सिस्टम दो में से ज़्यादा वाला स्कोर लेगा और दूसरे जवाब को नज़रअंदाज़ कर देगा।
18	दो विकल्पों वाले प्रश्न में, यदि उम्मीदवार ने केवल एक का प्रयास किया है, तो मूल्यांकनकर्ता उस विकल्प के सामने "एनए" (प्रयास नहीं किया गया) चिह्नित करेगा जिसका उम्मीदवार द्वारा प्रयास नहीं किया गया है।

अंकन योजना हिन्दी माध्यम
सीनियर स्कूल सर्टिफिकेट परीक्षा, 2026
अर्थशास्त्र (विषय कोड –030)
[प्रश्न-पत्र कोड : 58/1/1]

अधिकतम अंक : 80

प्र.सं	अपेक्षित उत्तर/मूल्य बिंदु	अंक
	खण्ड - क **(समष्टि अर्थशास्त्र)**	
1.	किसी द्वि-क्षेत्रक अर्थव्यवस्था में, कारक भुगतान का प्रवाह _____ से _____ की ओर जाता है। (सही विकल्प द्वारा रिक्त स्थान की पूर्ति करें।) (A) फर्म, गृहस्थ (B) फर्म, सरकार (C) बैंक, गृहस्थ (D) गृहस्थ, फर्म **उत्तर. (A) फर्म, गृहस्थ**	**1**
2.	निम्नलिखित कथनों - अभिकथन (A) तथा कारण (R) का अध्ययन करें। नीचे दिए गए विकल्पों में से सही विकल्प का चयन करें: **अभिकथन (A):** मुद्रा की प्रकृति नाशवान है तथा सामान्यतः यह किसी भी समय पर सभी द्वारा स्वीकृत की जाती है। **कारण (R)**: मुद्रा मूल्य के भंडार के रूप में कार्य करती है, जो कि व्यक्तियों को वर्तमान से भविष्य में क्रय शक्ति स्थानांतरित करने की सुविधा प्रदान करती है। **विकल्प:** (A) अभिकथन (A) तथा कारण (R) दोनों सत्य हैं तथा कारण (R), अभिकथन (A) की सही व्याख्या है। (B) अभिकथन (A) तथा कारण (R) दोनों सत्य हैं, परन्तु कारण (R), अभिकथन (A) की सही व्याख्या नहीं है। (C) अभिकथन (A) सत्य है, परन्तु कारण (R) असत्य है। (D) अभिकथन (A) असत्य है, परन्तु कारण (R) सत्य है। **उत्तर. (D) अभिकथन (A) असत्य है, परन्तु कारण (R) सत्य है।**	**1**
3.	निम्नलिखित कथनों का ध्यानपूर्वक अध्ययन करें: **कथन 1**: मुद्रा का मूल्यह्रास एक आर्थिक कार्यवाही है जो कि, किसी राष्ट्र की सरकार द्वारा स्थिर विनिमय दर प्रणाली के अंतर्गत की जाती है। **कथन 2**: नम्य विनिमय दर प्रणाली के अंतर्गत, विदेशी मुद्रा भंडार को कायम रखते हुए, अधिकारी विदेशी मुद्रा बाज़ार में सक्रिय रूप से हस्तक्षेप करते हैं। उपरोक्त कथनों के आलोक में, निम्नलिखित में से सही विकल्प का चयन करें : (A) कथन 1 सत्य है तथा कथन 2 असत्य है। (B) कथन 1 असत्य है तथा कथन 2 सत्य है। (C) कथन 1 व 2 दोनों सत्य हैं। (D) कथन 1 व 2 दोनों असत्य हैं। **उत्तर. (D) कथन 1 व 2 दोनों असत्य हैं।**	**1**
4.	किसी अर्थव्यवस्था में जब, _____ पूर्ण रोज़गार के अनुरूप उत्पादन के स्तर को प्राप्त करने के लिए अपर्याप्त होती है, तो इस अंतर को अपस्फीतिकारी अंतराल कहा जाता है। (सही विकल्प द्वारा रिक्त स्थान की पूर्ति करें ।) **विकल्प:** (A) नियोजित समग्र माँग (B) वास्तविक समग्र माँग (C) नियोजित समग्र पूर्ति (D) वास्तविक समग्र पूर्ति **उत्तर. (A) नियोजित समग्र माँग**	**1**

5.	किसी अर्थव्यवस्था में _____ का अपवर्जन करने से सकल घरेलू उत्पाद (GDP) के मूल्य का अल्पांकलन हो सकता है। (रिक्त स्थान की पूर्ति के लिए सही विकल्प का चयन करें।) (i) वस्तु विनिमय लेनदेन (ii) परिवार के सदस्यों द्वारा प्रदत्त सेवाएँ (iii) अवैध गतिविधियाँ (iv) परिसंपत्तियों का मूल्यह्रास **विकल्प** : (A) (i) व (ii) (B) (ii) व (iii) (C) (iii) व (iv) (D) (i), (ii) व (iii) **उत्तर. (A) (i) व (ii)**	**1**
6.	पहचान करें कि, निम्नलिखित में से कौन सम स्तर आय पर सत्य है। (सही विकल्प का चयन करें।) **विकल्प :** (A) उपभोग वक्र का ढाल बचत वक्र का ढाल (B) औसत उपभोग प्रवृत्ति (APC) औसत बचत प्रवृत्ति (APS) (C) बचत वक्र का ढाल इकाई (1) (D) औसत उपभोग प्रवृत्ति (APC) = इकाई (1) **उत्तर. (D) औसत उपभोग प्रवृत्ति (APC) = इकाई (1)**	**1**
7.	निम्नलिखित कथनों का ध्यानपूर्वक अध्ययन करें : **कथन 1**: अंतिम वस्तुएँ वे वस्तुएँ होती हैं जो, सामान्यतः उत्पादन प्रक्रिया में अपनी पहचान खो देती हैं। **कथन 2**: अंतिम वस्तुएँ उपभोक्ता द्वारा उपभोग प्रक्रिया के दौरान रूपांतरित हो सकती हैं। उपरोक्त कथनों के आलोक में, निम्नलिखित में से सही विकल्प का चयन करें। **विकल्प :** (A) कथन 1 सत्य है तथा कथन 2 असत्य है। (B) कथन 1 असत्य है तथा कथन 2 सत्य है। (C) कथन 1 व 2 दोनों सत्य हैं। (D) कथन 1 व 2 दोनों असत्य हैं। **उत्तर. (B) कथन 1 असत्य है तथा कथन 2 सत्य है।**	**1**
8.	निम्नलिखित कथनों - अभिकथन (A) तथा कारण (R) का अध्ययन करें। नीचे दिए गए विकल्पों में से सही विकल्प का चयन करें : **अभिकथन (A):** एकपक्षीय स्थानांतरण किसी राष्ट्र के भुगतान संतुलन के चालू खाते में दर्ज किए जाते हैं। **कारण (R):** पूँजी खाता उन लेन-देनों को अभिलेखित करता है, जो राष्ट्र की परिसंपत्तियों अथवा देनदारियों में परिवर्तन का कारण बनते हैं। **विकल्प :** (A) अभिकथन (A) तथा कारण (R) दोनों सत्य हैं तथा कारण (R), अभिकथन (A) की सही व्याख्या है। (B) अभिकथन (A) तथा कारण (R) दोनों सत्य हैं, परन्तु कारण (R), अभिकथन (A) की सही व्याख्या नहीं है। (C) अभिकथन (A) सत्य है, परन्तु कारण (R) असत्य है। (D) अभिकथन (A) असत्य है, परन्तु कारण (R) सत्य है। **उत्तर. (B) अभिकथन (A) तथा कारण (R) दोनों सत्य हैं, परन्तु कारण (R), अभिकथन (A) की सही व्याख्या नहीं है।**	**1**
9.	"भारतीय बैंकिंग प्रणाली, सांविधिक तरलता अनुपात (SLR) वाणिज्यिक बैंकों की साख निर्माण क्षमता को नियंत्रित करने में महत्त्वपूर्ण भूमिका निभाती है, क्योंकि _____ (रिक्त स्थान की पूर्ति के लिए सही विकल्प का चयन करें।) (A) यह सुनिश्चित करता है कि, सभी जमाओं को तरल परिसंपत्तियों में परिवर्तित कर दिया गया है।	

	(B) इसमें बैंकों को जमाओं का एक निश्चित प्रतिशत तरल सम्पत्तियों के रूप में बनाए रखने की अनिवार्यता होती है। (C) यह ब्याज की वह अधिकतम सीमा निर्धारित करता है, जो बैंक ऋणों पर आरोपित कर सकते हैं। (D) बैंकों को उनकी कुल जमा राशि के एक विशिष्ट अनुपात से अधिक ऋण देने पर प्रतिबंध लगाता है। **उत्तर. B) इसमें बैंकों को जमाओं का एक निश्चित प्रतिशत तरल सम्पत्तियों के रूप में बनाए रखने की अनिवार्यता होती है।**	**1**
10.	एक अर्थव्यवस्था में, जनता के पास रखी गई मुद्रा, वाणिज्यिक बैंकों के पास शुद्ध माँग जमा व वाणिज्यिक बैंकों के पास शुद्ध सावधि जमा क्रमशः ₹ 1,42,000 करोड़, ₹ 22,000 करोड़ तथा ₹ 86,000 करोड़ है। मुद्रा आपूर्ति (M_1) का मूल्य ₹_____ करोड़ होगा । (रिक्त स्थान की पूर्ति के लिए सही विकल्प का चयन करें ।) **विकल्प :** (A) 2,50,000 (B) 86,000 (C) 1,64,000 (D) 1,42,000 **उत्तर. (C) 1,64,000**	**1**
11. (A)	दो मित्र, मीरा व शाहिद, विगत कुछ वर्षों में भारत की आर्थिक वृद्धि की तुलना कर रहे थे। मीरा ने वर्तमान बाजार मूल्यों पर सकल घरेलू उत्पाद (GDP) में वृद्धि का उल्लेख किया, जबकि शाहिद ने मुद्रास्फीति के समायोजन के पश्चात्, सकल घरेलू उत्पाद (GDP) पर विचार करने पर बल दिया । दोनों में से कौन सा उपाय लोगों के कल्याण का सही चित्र प्रस्तुत करता है, इस पर दोनों की बहस अनिर्णीत रही । उपरोक्त स्थिति को ध्यान में रखते हुए, वैध कारण सहित विस्तार से उल्लेख करें कि दोनों में से किस चर को कल्याण का बेहतर संकेतक माना जाता है तथा क्यों ? **उत्तर. मुद्रास्फीति के समायोजन के उपरान्त सकल घरेलू उत्पाद (वास्तविक GDP) वर्तमान कीमतों पर आधारित GDP (मौद्रिक GDP) की तुलना में कल्याण का एक बेहतर संकेतक है।** **वास्तविक GDP किसी देश की आर्थिक वृद्धि का एक यथार्थ संकेतक है, क्योंकि इसमें केवल भौतिक उत्पादन में हुए परिवर्तन के कारण ही बदलाव आता है। इस प्रकार, यह कीमतों में होने वाले परिवर्तन के प्रभाव को समाप्त कर देता है, तथा अर्थव्यवस्था में वास्तविक वृद्धि को दर्शाता है।** **इसके विपरीत, मौद्रिक GDP में परिवर्तन, उत्पादन या कीमतों या इन दोनों में परिवर्तन के कारण हो सकता है।**	**1** **1** **1**
	अथवा	**3**
(B)	दो मित्र, रवि व हैरी इस बात पर चर्चा कर रहे थे कि, किसी पुरानी कार की बिक्री को भारत की राष्ट्रीय आय में सम्मिलित किया जाना चाहिए अथवा नहीं । रवि का मानना था, इसे राष्ट्रीय आय में सम्मिलित किया जाना चाहिए, जबकि हैरी उससे सहमत नहीं था। कार डीलर को दी जाने वाली दलाली के उपचार पर भी उनके विचार पृथक-पृथक थे। दोनों छात्रों के अर्थशास्त्र शिक्षक के रूप में, वैध तकों द्वारा सही उपचार बताएँ । **उत्तर. हैरी का मत सही है।** **पुरानी कार की बिक्री से प्राप्त राशि को भारत की राष्ट्रीय आय में सम्मिलित नहीं किया जाएगा, क्योंकि इसके मूल्य की गणना उस वर्ष ही की जा चुकी थी जिस वर्ष इसका उत्पादन हुआ। इसलिए, यह वस्तुओं और सेवाओं के वर्तमान प्रवाह में कोई योगदान नहीं देता है।** **अपितु, कार डीलर को दी गई दलाली को इसमें सम्मिलित किया जाता है, क्योंकि यह वर्तमान वर्ष में दी गई उत्पादक सेवाओं हेतु किए गए भुगतान को दर्शाता है।**	**1 ½** **1 ½**
		3

12. "भारतीय रिज़र्व बैंक (RBI) अधिनियम, 1934 की धारा 20 व धारा 21 में वर्णित प्रावधानों के अंतर्गत, RBI को भारत सरकार के बैंकिंग परिचालन को संभालने का अधिकार है।"
उपरोक्त कथन के आलोक में RBI के संकेतित कार्य की विस्तृत व्याख्या करें। **3**

उत्तर. भारतीय रिज़र्व बैंक (RBI) सरकार के बैंकर के रूप में कार्य करता है, उसके खातों का प्रबंधन करता है, जमा स्वीकार करता है तथा भुगतानों को संसाधित करता है। सरकार के लिए RBI द्वारा विनिमय, प्रेषण और विभिन्न बैंकिंग कार्यों की सुविधा प्रदान की जाती है।
इसके अतिरिक्त, किसी भी वित्तीय संकट के दौरान, RBI सरकार को ऋण प्रदान करता है ताकि उसके सुचारू कामकाज को सुनिश्चित किया जा सके और राज्य को अपने दायित्वों का प्रभावी ढंग से प्रबंधन करने में सहायता मिल सके। (पूरे उत्तर को एक साथ अंकित किया जाए)

13. (A) किसी काल्पनिक अर्थव्यवस्था के लिए, मान लीजिए कि मात्र दो फर्म (X और Y) हैं, जिनका सकल मूल्यवर्धन (GVA) बराबर है।
निम्नलिखित आँकड़ों पर दोनों फर्मों की घरेलू बिक्री का मूल्य अनुमानित कीजिए:

क्रम संख्या	**चर**	**राशि (₹ करोड़ में)**
(i)	फर्म Y के उत्पाद का मूल्य	700
(ii)	फर्म X द्वारा फर्म Y से किया गया क्रय	200
(iii)	फर्म X द्वारा किया गया निर्यात	100
(iv)	फर्म Y द्वारा फर्म X से किया गया क्रय	150
(v)	फर्म X के स्टॉक में वृद्धि	50

उत्तर. फर्म Y द्वारा सकल मूल्यवर्धन = (i) – (iv) ½
= 700 – 150
= ₹ 550 करोड़ ½
फर्म Y की घरेलू बिक्री = फर्म Y द्वारा सकल मूल्यवर्धन + (iv) ½
= 550 + 150
= ₹ 700 करोड़ ½
फर्म X द्वारा सकल मूल्यवर्धन = फर्म Y द्वारा सकल मूल्यवर्धन = ₹ 550 करोड़
फर्म X की घरेलू बिक्री = फर्म X द्वारा सकल मूल्यवर्धन – (iii) – (v) + (ii) **1**
= 550 – 100 – 50 + 200 ½
= ₹ 600 करोड़ ½

अथवा **4**

(B) सुश्री रीटा डी'कोस्टा, 2023 में आयकर आयुक्त के पद से सेवानिवृत्त हुई थी। उन्हें अपनी पेंशन के अतिरिक्त विभिन्न स्रोतों से निम्नलिखित राशियाँ भी प्राप्त होती हैं:

- स्व-स्वामित्व वाले फ्लैट का किराया
- उनकी सावधि जमा से ब्याज
- विदेश में बसे उनके बच्चों द्वारा प्रेषित धनराशि

वैध कारणों द्वारा, रीटा की मासिक आय को 'कारक आय' व 'हस्तांतरण आय' में वर्गीकृत करें ।

उत्तर. कारक आय:

- **स्व-स्वामित्व वाले फ्लैट का किराया** ½
- **उनकी सावधि जमा से ब्याज** ½
- **सेवा निवृत्ति पेंशन (स्थगित भुगतान)** ½

हस्तांतरण आय:

- **विदेश में बसे उनके बच्चों द्वारा प्रेषित धनराशि** ½

कारक आय वह आय है जो उत्पादन के कारकों द्वारा अपनी सेवाएँ प्रदान करने के बदले अर्जित की जाती है। **1**

	हस्तांतरण आय वह आय है जिसके बदले में कोई कारक सेवा प्रदान नहीं की जाती।	**1**
		4
14.	राष्ट्र जीटा (Zeta) के एक उद्यमी माईकल ने अपने कपड़ा निर्माण व्यवसाय का विस्तार करने के लिए एक विदेशी बैंक से $ 5 मिलियन का ऋण लिया था। उसी वित्त वर्ष में, राष्ट्र जीटा (Zeta) की सरकार ने प्रचलित भुगतान संतुलन (BoP) संकट का प्रबंधन करने के लिए एक अंतर्राष्ट्रीय वित्तीय संस्थान से $ 30 बिलियन का ऋण प्राप्त किया था। अर्थशास्त्र के शोध छात्र सैमुअल ने इन दोनों लेनदेन को राष्ट्र जीटा (Zeta) के भुगतान संतुलन (BoP) खाते में स्वायत्त लेन-देन के रूप में वर्गीकृत किया । क्या आप सैमुअल द्वारा किए गए वर्गीकरण से सहमत हैं? अपने उत्तर की उचित कारणों से पुष्टि करें। **उत्तर. नहीं। इस मामले में जीटा की सरकार द्वारा लिए गए ऋण को एक समायोजक लेन-देन के रूप में वर्गीकृत किया जा सकता है। ऐसे लेन-देन वे अंतर्राष्ट्रीय आर्थिक लेन-देन होते हैं, जो (सक्षम अधिकारियों द्वारा) भुगतान संतुलन में अधिशेष या घाटे को पूरा करने के लिए किए जाते हैं और किसी भी आर्थिक उद्देश्य से स्वतंत्र होते हैं।** **यद्यपि, माइकल द्वारा लिए गए ऋण को एक स्वायत्त लेन-देन के रूप में वर्गीकृत किया जा सकता है। ऐसे अंतर्राष्ट्रीय आर्थिक लेन-देन, भुगतान संतुलन (BoP) की स्थिति से स्वतंत्र होते हैं और सामान्यतः किसी आर्थिक उद्देश्य के साथ किए जाते हैं।**	**2** **2**
		4
15.	निम्नलिखित चित्र का ध्यानपूर्वक अध्ययन करें :  इंगित समष्टिगत अर्थशास्त्र संबंधी समस्या को नियंत्रित करने के लिए केंद्रीय बैंक द्वारा उठाए जा सकने वाले किन्हीं दो उपकरणों/उपायों की व्याख्या करें। **उत्तर. इंगित समष्टिगत अर्थशास्त्र संबंधी समस्या, अर्थात मुद्रास्फीति को नियंत्रित करने के लिए, केंद्रीय बैंक निम्नलिखित उपायों का उपयोग कर सकता है:** • **रेपो दर : रेपो दर में वृद्धि से वाणिज्यिक बैंकों को साख दरें बढ़ाने के लिए बाध्य होना पड़ेगा, जिससे आम जनता के लिए ऋण महंगा हो जाएगा और लोग ऋण लेने से हतोत्साहित होंगे। इसके परिणामस्वरूप , समग्र मांग (Aggregate Demand) में कमी आएगी, जिससे अर्थव्यवस्था में मुद्रास्फीति की समस्या ठीक हो जाएगी।** • **खुले बाजार की क्रियाएँ : केंद्रीय बैंक खुले बाजार में सरकारी प्रतिभूतियों की बिक्री सकता है, जिससे वाणिज्यिक बैंकों के पास ऋण देने के लिए कोषों की उपलब्धता कम हो जाएगी। अतः , समग्र मांग में कमी हो जाएगी, जिससे अर्थव्यवस्था में मुद्रास्फीति नियंत्रित होगी।** **(चित्र की कोई अन्य वैध विवेचना तथा व्याख्या को अंक प्रदान किये जाएँ।)**	**2** **2** **4**
	नोट : निम्नलिखित प्रश्न केवल दृष्टिबाधित परीक्षार्थियों के लिए प्रश्न संख्या 15 के स्थान पर है : अल्प माँग की स्थिति को नियंत्रण में लाने के लिए केन्द्रीय बैंक द्वारा उठाए जा सकने वाले किन्हीं दो उपायों का उल्लेख व व्याख्या करें। **उत्तर. अल्प माँग को नियंत्रित करने के लिए, केंद्रीय बैंक निम्नलिखित उपायों का उपयोग कर सकता है:** • **रेपो दर : रेपो दर में कमी होने से वाणिज्यिक बैंक अपनी साख दरें घटाने के लिए प्रोत्साहित होंगे, जिससे आम जनता के लिए ऋण सस्ता हो जाएगा और लोग अधिक**	**2**

	ऋण लेने के लिए प्रोत्साहित होंगे । इसके परिणामस्वरूप, समग्र मांग (Aggregate Demand) में वृद्धि होगी, जिससे अर्थव्यवस्था में अल्प मांग की समस्या नियंत्रित होगी। • **खुले बाजार की क्रियाएँ : केंद्रीय बैंक खुले बाजार में सरकारी प्रतिभूतियों का क्रय सकता है, जिससे वाणिज्यिक बैंकों के पास ऋण देने के लिए कोषों की उपलब्धता में वृद्धि हो जाएगी। अतः, समग्र मांग में वृद्धि होगी, जिससे अर्थव्यवस्था में अल्प मांग की समस्या नियंत्रित हो जाएगी। (कोई अन्य वैध उपाय को अंक प्रदान किये जाएँ।)**	**2** **4**
16. (A)	"एक अर्थव्यवस्था की आय ₹ 20,000 करोड़ से बढ़कर ₹ 50,000 करोड़ हो गई । अर्थव्यवस्था की बचत ₹ 2,000 करोड़ से ₹ 10,000 करोड़ हो गई।" (i) आय वृद्धि पूर्व व पश्चात् उनकी औसत उपभोग प्रवृत्ति (APC) व औसत बचत प्रवृत्ति (APS) की गणना करें। **उत्तर.**	
		1 + 1 **1 + 1**
	(कोई अन्य वैध तथा वैकल्पिक हल को अंक प्रदान किये जाएँ) (ii) आय वृद्धि पर औसत उपभोग प्रवृत्ति (APC) के व्यवहार के बारे में क्या निष्कर्ष निकाला जा सकता है? **उत्तर. दिए गए आंकड़ों से, यह निष्कर्ष निकाला जा सकता है कि आय के ₹ 20,000 करोड़ से ₹ 50,000 करोड़ होने पर, औसत उपभोग प्रवृत्ति (APC) का मूल्य 0.9 से घटकर 0.8 हो गया। उपरोक्त गणना आय के स्तर तथा APC के मध्य विपरीत संबंध का प्रमाण देती है।**	**2**
	अथवा	**6**
(B)	"एक काल्पनिक राष्ट्र के व्यय पैटर्न के विश्लेषण से संबंधित एक अध्ययन के अंतर्गत यह पाया गया कि शून्य आय वाले परिवार भी बुनियादी आवश्यकताओं का उपभोग करने में कामयाब रहे । जैसे-जैसे लोगों की आय में वृद्धि हुई वैसे-वैसे उनके उपभोग में भी वृद्धि हुई, परन्तु आय जितनी तीव्रता से नहीं ।" उपरोक्त गद्य व सामान्य ज्ञान के आधार पर निम्नलिखित प्रश्नों के उत्तर दें: (i) प्रथम पैरा में दर्शाये गये उपभोग के प्रकार की पहचान व व्याख्या करें। **उत्तर. प्रथम पैरा में दर्शाया गया उपभोग 'स्वायत्त उपभोग' है।** **स्वायत्त उपभोग आय के स्तर से स्वतंत्र होता है। स्वायत्त उपभोग उपभोग के उस न्यूनतम स्तर को दर्शाता है, जो जीवन निर्वाह के लिए अनिवार्य है।** (ii) सकारण बताए कि, समग्र माँग (AD) वक्र सकारात्मक रूप से ढालू क्यों होता है। **उत्तर. समग्र माँग (AD) उपभोग और निवेश का योग होती है। यह मानते हुए की निवेश स्वायत्त है, जब आय बढ़ती है, तो उपभोग में भी वृद्धि होती है, जिससे समग्र माँग में वृद्धि होती है। अतः, समग्र माँग वक्र सकारात्मक रूप से ढालू होता है, जो आय और समग्र माँग के बीच प्रत्यक्ष संबंध को दर्शाता है।**	**1** **2** **3**
		6
17.	निम्नलिखित गद्य का ध्यानपूर्वक अध्ययन करें :	

आय (Y) (₹ करोड़ में)	बचत (S) (₹ करोड़ में)	उपभोग (C=Y - S) (₹ करोड़ में)	APC (C/Y)	APS (S/Y)
20,000	2,000	18,000	$\frac{18000}{20000} = 0.9$	$\frac{2000}{20000} = 0.1$
50,000	10,000	40,000	$\frac{40000}{50000} = 0.8$	$\frac{10000}{50000} = 0.2$

	आर्थिक सर्वेक्षण 2024-25 के अनुसार, वित्त वर्ष 2025-26 के लिए सरकारी बजट अनुमानों में यह इंगित किया गया है कि, सकल प्रत्यक्ष कर राजस्व में 12.7% की वृद्धि होगी, जबकि सकल अप्रत्यक्ष कर का संग्रह वित्त वर्ष 2024-25 की तुलना में 8.3% से वृद्धि होने की संभावना है। प्रत्यक्ष करों में आयकर व निगम कर सम्मिलित होते हैं, जो कि गृहस्थों व फर्मों द्वारा अर्जित आय व लाभको दर्शाते हैं। ये सरकार की राजस्व वृद्धि में महत्वपूर्ण भूमिका निभाते हैं। अप्रत्यक्ष करों में वस्तु व सेवा कर (GST), सीमा शुल्क व अन्य लेन-देनों पर आधारित शुल्क सम्मिलित होते हैं। प्रत्यक्ष करों के लिए अनुमानित उच्च वृद्धि दर बेहतर अनुपालन व सुधारों के माध्यम से कर उत्प्लावन (tax buoyancy) की वृद्धि की दिशा में एक कदम है। दूसरी ओर, अप्रत्यक्ष करों को उपभोग प्रवृत्तियों तथा वस्तु व सेवा कर (GST) प्रशासन में सुधार से लाभान्वित होने की उम्मीद है। एक संतुलित कर रणनीति का उद्देश्य राजकोषीय सुदृढ़ीकरण व सतत् आर्थिक विकास को समर्थन देते हुए संसाधन जुटाना है। (i) उपर्युक्त गद्य में इंगित दो प्रकार के करों के मध्य उपयुक्त उदाहरणों सहित अंतर स्पष्ट करें। **उत्तर. उपर्युक्त गद्य में इंगित दो प्रकार के कर हैं: प्रत्यक्ष और अप्रत्यक्ष कर हैं।** **प्रत्यक्ष कर वे कर हैं जिनका भार और प्रभाव एक ही व्यक्ति/ संस्था पर पड़ता है। दूसरे शब्दों में, प्रत्यक्ष करों के भुगतान की देयता को स्थानांतरित नहीं किया जा सकता है।** **उदाहरण के लिएः आयकर आदि।** **जबकि;** **अप्रत्यक्ष कर वे कर हैं जिनका भार और प्रभाव विभिन्न व्यक्तियों/ संस्थाओं पर पड़ सकता है। दूसरे शब्दों में, अप्रत्यक्ष करों के भुगतान की देयता को स्थानांतरित किया जा सकता है।** **उदाहरण के लिए: वस्तु एवं सेवा कर (GST) आदि।** **(अन्य कोई प्रासंगिक उदाहरण के लिए भी अंक प्रदान किए जाए)** (ii) सरकार द्वारा दिए गए कर अनुमानों के संभावित परिणामों की व्याख्या करें। **उत्तर. कर राजस्व में अनुमानित वृद्धि से सरकार का राजस्व आधार सुदृढ़ होने की संभावना होती है। अतः, इस संतुलित कर रणनीति से संसाधनों को जुटाने, राजकोषीय मजबूती को समर्थन देने और सतत आर्थिक विकास को प्रोत्साहन देने में सहायता मिल सकती है।**	**1 ½** **½** **1 ½** **½** **2** **6**
	खण्ड - ख **(भारतीय आर्थिक विकास)**	
18.	निम्नलिखित कथनों का ध्यानपूर्वक अध्ययन करें : **कथन 1**: ब्रिटिश शासन के दौरान, निर्यात अधिशेष का उपयोग ब्रिटेन से अदृश्य मदों के आयात करने के लिए किया गया था। **कथन 2**: भारतीयों ने ब्रिटेन में औपनिवेशिक सरकार द्वारा स्थापित कार्यालय के व्यय का भुगतान भी किया था । उपरोक्त कथनों के आलोक में, निम्नलिखित में से सही विकल्प का चयन करें : (A) कथन 1 सत्य है तथा कथन 2 असत्य है। (B) कथन 1 असत्य है तथा कथन 2 सत्य है। (C) कथन 1 व 2 दोनों सत्य हैं। (D) कथन 1 व 2 दोनों असत्य हैं। **उत्तर. (C) कथन 1 व 2 दोनों सत्य हैं।**	**1**
19.	निम्नलिखित कथनों अभिकथन (A) तथा कारण (R) का अध्ययन करें। नीचे दिए गए विकल्पों में से सही विकल्प का चयन करें : **अभिकथन (A)** : शिक्षा, ज्ञान व दक्षताओं को आत्मसात् करने की सुविधा प्रदान करती है। यह आविष्कारशील क्षमताओं को भी प्रोत्साहित करती है, तथा उन्नत प्रौद्योगिकियों को एकीकृत करने की योग्यता में वृद्धि करती है।	

	कारण (R) : शिक्षा संज्ञानात्मक दृष्टिकोण को परिवर्तित करने में महत्वपूर्ण भूमिका निभाती है तथा किसी देश की आर्थिक उन्नति के लिए उत्प्रेरक का कार्य करती है। **विकल्प :** (A) अभिकथन (A) तथा कारण (R) दोनों सत्य हैं तथा कारण (R), अभिकथन (A) की सही व्याख्या है। (B) अभिकथन (A) तथा कारण (R) दोनों सत्य हैं, परन्तु कारण (R), अभिकथन (A) की सही व्याख्या नहीं है। (C) अभिकथन (A) सत्य है, परन्तु कारण (R) असत्य है। (D) अभिकथन (A) असत्य है, परन्तु कारण (R) सत्य है। **उत्तर. (B) अभिकथन (A) तथा कारण (R) दोनों सत्य हैं, परन्तु कारण (R), अभिकथन (A) की सही व्याख्या नहीं है।**	**1**
20.	निम्नलिखित गद्य का ध्यानपूर्वक अध्ययन करें : "विगत कुछ समयावधि में, भारत सरकार ने प्राथमिक व द्वितीयक दोनों शेयर बाजारों सहित पूँजी बाजार में अधिकाधिक सार्वजनिक भागीदारी को प्रोत्साहित करने के लिए कई उपाय आरंभ किए हैं।" उपरोक्त सुधार किस क्षेत्र के अंतर्गत प्रस्तुत किए गए हैं ? (सही विकल्प का चयन करें।) **विकल्प :** (A) औद्योगिक (B) वित्तीय (C) कर (D) विदेशी व्यापार **उत्तर. (B) वित्तीय**	**1**
21.	वर्ष 1987 में मॉन्ट्रियल प्रोटोकॉल पर हस्ताक्षर किए गए थे, जिसमें राष्ट्रों ने _____ की प्रतिबद्धता जताई थी । (सही विकल्प द्वारा रिक्त स्थान की पूर्ति करें ।) **विकल्प :** (A) जैव-विविधता के नुकसान को कम करने (B) वैश्विक ऊष्णता के प्रभाव को कम करने (C) ओजोन परत को क्लोरोफ्लोरो कार्बन के कारण क्षरण से बचाने (D) वनों की कटाई के प्रभाव को कम करने **उत्तर. (C) ओजोन परत को क्लोरोफ्लोरो कार्बन के कारण क्षरण से बचाने**	**1**
22.	निम्नलिखित कथनों अभिकथन (A) तथा कारण (R) का अध्ययन करें। नीचे दिए गए विकल्पों में से सही विकल्प का चयन करें : **अभिकथन (A):** कृषि उन्नति की तुलना में ग्रामीण विकास की अवधारणा में कहीं अधिक व्यापक वर्णक्रम (स्पेक्ट्रम) सम्मिलित है। **कारण (R)** : कृषि क्षेत्र में सरकारी हस्तक्षेप अनिवार्य है क्योंकि, कृषि ग्रामीण जनसंख्या के लिए जीविका का प्राथमिक साधन है। **विकल्प :** (A) अभिकथन (A) तथा कारण (R) दोनों सत्य हैं तथा कारण (R), अभिकथन (A) की सही व्याख्या है। (B) अभिकथन (A) तथा कारण (R) दोनों सत्य हैं, परन्तु कारण (R), अभिकथन (A) की सही व्याख्या नहीं है। (C) अभिकथन (A) सत्य है, परन्तु कारण (R) असत्य है। (D) अभिकथन (A) असत्य है, परन्तु कारण (R) सत्य है। **उत्तर. (B) अभिकथन (A) तथा कारण (R) दोनों सत्य हैं, परन्तु कारण (R), अभिकथन (A) की सही व्याख्या नहीं है।**	**1**
23.	पहचान करें कि, निम्नलिखित में से कौन भारत के श्रम बाज़ार में उभरते रोजगार प्रवृत्ति (ट्रेन्ड) के स्वरूप (पैटर्न) से जुड़े एक महत्त्वपूर्ण मुद्दे पर प्रकाश डालता है। **विकल्प :** (A) स्थायी वेतनभोगी कर्मचारियों की हिस्सेदारी में उत्तरोत्तर वृद्धि	

	(B) आकस्मिक रूप से नियोजित व्यक्तियों के अनुपात में वृद्धि (C) सभी क्षेत्रों में स्वरोज़गार के अवसरों का विस्तार (D) औपचारिक क्षेत्र में रोज़गार के अवसरों में उल्लेखनीय वृद्धि **उत्तर. (B) आकस्मिक रूप से नियोजित व्यक्तियों के अनुपात में वृद्धि**	**1**
24.	कॉलम-1 में दी गई मदों को कॉलम-II में दिए गए उनके अर्थों से सुमेलित करें : (सही विकल्प का चयन करें)	

	कॉलम-I		**कॉलम-II**
(i)	मौसमी बेरोज़गारी	(a)	ऐसे निजी उद्यम जिसमें 10 से कम कर्मचारी कार्यरत हैं।
(ii)	स्व-रोजगार	(b)	वे व्यक्ति जो अपनी जीविका चलाने के लिए स्वयं के संसाधनों का उपयोग करते हैं।
(iii)	असंगठित क्षेत्र	(c)	कुछ विशेष मौसमों में होने वाली बेरोज़गारी
(iv)	प्रच्छन्न बेरोजगारी	(d)	शून्य सीमांत उत्पादकता

विकल्प :

(A) (i)-(d); (ii)-(a); (iii)-(b); (iv)-(c)

(B) (i)-(b); (ii)-(a); (iii)-(c); (iv)-(d)

(C) (1)-(c); (ii)-(b); (iii)-(a); (iv)-(d)

(D) (i)-(c); (ii)-(d); (iii)-(a); (iv)-(b)

उत्तर. (C) (1)-(c); (ii)-(b); (iii)-(a); (iv)-(d) — **1**

25.	"धारणीय विकास से तात्पर्य उस विकास से है जो कि, वर्तमान पीढ़ी की आवश्यकताओं से समझौता किए बिना भावी पीढ़ी की आवश्यकताओं को पूरा करने की क्षमता रखता है।" उपर्युक्त परिभाषा _____ द्वारा दी गई है। (सही विकल्प द्वारा रिक्त स्थान की पूर्ति करें ।) (A) पर्यावरण व विकास पर संयुक्त राष्ट्र सम्मेलन (B) पर्यावरण व विकास पर संयुक्त राष्ट्र समिति (C) पर्यावरण संरक्षण पर संयुक्त राष्ट्र समिति (D) पर्यावरण संरक्षण पर संयुक्त राष्ट्र सम्मेलन **उत्तर. (A) पर्यावरण व विकास पर संयुक्त राष्ट्र सम्मेलन**	**1**
26.	निम्नलिखित कथनों अभिकथन (A) तथा कारण (R) का अध्ययन करें। नीचे दिए गए विकल्पों में से सही विकल्प का चयन करें : **अभिकथन (A):** भारत सरकार ने कृषि उत्पादों के लिए पारदर्शी व सुशासित विनियमित विपणन स्थिति सुनिश्चित करने के लिए बाज़ारों के विनियमन का उपाय अपनाया था । **कारण (R)** : बाज़ारों के विनियमन से पारदर्शी मूल्य निर्धारण, निष्पक्ष व्यापार प्रथाओं व कृषि विपणन में शोषण के विरुद्ध कृषकों के लिए सुरक्षा सुनिश्चित की गई थी। **विकल्प :** (A) अभिकथन (A) तथा कारण (R) दोनों सत्य हैं तथा कारण (R), अभिकथन (A) की सही व्याख्या है। व्याख्या नहीं है। (B) अभिकथन (A) तथा कारण (R) दोनों सत्य हैं, परन्तु कारण (R), अभिकथन (A) की सही (C) अभिकथन (A) सत्य है, परन्तु कारण (R) असत्य है। (D) अभिकथन (A) असत्य है, परन्तु कारण (R) सत्य है। **उत्तर. (A) अभिकथन (A) तथा कारण (R) दोनों सत्य हैं तथा कारण (R), अभिकथन (A) की सही व्याख्या है।**	**1**

27.	चीन के आर्थिक विकास इतिहास में निम्नलिखित घटनाओं को सही कालानुक्रमिक क्रम में व्यवस्थित करें तथा उपयुक्त विकल्प का चयन करें : I. महान सर्वहारा सांस्कृतिक क्रांति II. ग्रेट लीप फॉरवर्ड III. आर्थिक सुधारों का आरंभ IV. प्रथम पंचवर्षीय योजना का शुभारंभ विकल्प : (A) II, IV, III, I (B) IV, II, I, III (C) II, IV, I, III (D) IV, I, II, III **उत्तर. (B) IV, II, I, III**	**1**
28. (A)	"औपचारिक क्षेत्र में रोज़गार, अनौपचारिक क्षेत्र में नौकरियों की तुलना में बेहतर आय व सामाजिक लाभ की गारंटी प्रदान करता है।" वैध कारण व उदाहरण के साथ उपर्युक्त कथन का समर्थन या खंडन करें। **उत्तर. दिए गए कथन का समर्थन किया जाता है। औपचारिक क्षेत्र के कर्मचारियों को उचित वेतन और अन्य सामाजिक सुरक्षा उपाय जैसे पेंशन, भविष्य निधि आदि प्राप्त करने का अधिकार होता है ।** **जबकि, अनौपचारिक क्षेत्र के श्रमिकों को नियमित आय और सामाजिक सुरक्षा लाभ नहीं मिलते। उन्हें बिना किसी क्षतिपूर्ति के निष्कासित किया जा सकता है।** **उदाहरण के लिए, एक सरकारी कर्मचारी को पेंशन के साथ नियमित वेतन और सामाजिक सुरक्षा लाभ प्राप्त होते हैं, जबकि एक दैनिक वेतनभोगी बिना सामाजिक सुरक्षा लाभ के काम करता है। (कोई अन्य वैध उदाहरण को अंक प्रदान किये जाएँ।)**	**1** **1** **1**
	अथवा	**3**
(B)	29 जून, 2025 को प्रसारित 'मन की बात' कार्यक्रम के दौरान, प्रधानमंत्री ने साझा किया कि, विश्व स्वास्थ्य संगठन (WHO) ने भारत को ट्रेकोमा (नेत्रों से संबंधित एक रोग) मुक्त घोषित किया है। यह स्वास्थ्य सेवा, स्वच्छता, जागरूकता व चिकित्सा अभिगम में निरंतर प्रयासों का परिणाम है। उपर्युक्त कथन के आलोक में, बताएँ कि स्वास्थ्य सेवा में निवेश किसी राष्ट्र की सामाजिक-आर्थिक स्थिति में किस प्रकार योगदान देती है। अपने उत्तर के समर्थन में कारण दें। **उत्तर. स्वास्थ्य सेवा में निवेश एक स्वस्थ कार्यबल की उपलब्धता सुनिश्चित करके देश के विकास में योगदान देता है। सस्ती स्वास्थ्य सुविधाओं के प्रावधान से स्वस्थ श्रम बल की आपूर्ति बढ़ जाती है। स्वस्थ व्यक्ति की उत्पादकता अस्वस्थ व्यक्ति की तुलना में अपेक्षाकृत अधिक होती है। इस प्रकार, बेहतर स्वास्थ्य सेवा श्रम उत्पादकता में वृद्धि करती है, मानव पूंजी निर्माण को बढ़ावा देती है और अंततः देश के आर्थिक विकास में योगदान देती है।** **(पूरे उत्तर को एक साथ अंकित किया जाए)**	**3**
29.	"1970 के दशक के बाद के वर्षों में भारत की अपेक्षा, चीन की जनसंख्या वृद्धि दर में तीव्र कमी आयी थी।" इस स्थिति के कारणों व प्रभावों की व्याख्या करें। **उत्तर. 1970 के दशक के उत्तरार्ध में, चीन में, सरकार द्वारा आरम्भ की गई एक-संतान नीति के कार्यान्वयन के कारण, भारत की तुलना में अपनी जनसंख्या वृद्धि दर में तेज गिरावट का अनुभव किया।** **इस नीतिगत उपाय के कारण जनसँख्या वृद्ध होती गयी, जिसमें युवाओं की तुलना में बुजुर्गों का अनुपात अधिक हो गया है।**	**1 ½** **1 ½**
		3
30. (A)	ऐसे किन्हीं दो परिवर्तनों का उल्लेख व व्याख्या करें जो कि ब्रिटिश शासन के दौरान भारत की व्यावसायिक संरचना में देखी गई थी। **उत्तर. ब्रिटिश शासन के अंतर्गत भारत की व्यावसायिक संरचना में क्षेत्रीय भिन्नता देखी गई:** • **औद्योगिक और सेवा क्षेत्र की ओर प्रवाह: मद्रास प्रेसीडेंसी, बॉम्बे और बंगाल के कुछ भागों में विनिर्माण और सेवा क्षेत्रों में आनुपातिक वृद्धि के साथ कृषि क्षेत्र पर कार्यबल की निर्भरता में गिरावट देखी गई।**	**½ + 1 ½**

	• **कृषि क्षेत्र पर बढ़ती निर्भरता: उड़ीसा, राजस्थान और पंजाब जैसे राज्यों में कृषि में कार्यबल की भागीदारी में वृद्धि हुई है।**	**½ + 1 ½**
	अथवा	**4**
(B)	"अंग्रेजों ने भारत में संरचनात्मक ढाँचे के विकास की अपनी नीतियों के माध्यम से अपने निहित स्वार्थ को प्राप्त करने का प्रयास किया था।" क्या आप उपर्युक्त कथन से सहमत है? अपने उत्तर को उचित स्पष्टीकरण द्वारा प्रमाणित करें। **उत्तर. हां। अंग्रेजों ने भारत में संरचनात्मक ढाँचे के विकास की अपनी नीतियों के माध्यम से अपने निहित स्वार्थ को प्राप्त करने का प्रयास किया था।** **सड़कों और रेलवे का निर्माण मुख्य रूप से भारत के भीतर सेना के आवागमन तथा देश के भीतरी भागों से कच्चे माल को पत्तन तक पहुंचने में सहायता करने किया गया। विद्युत् तार जैसे संचार उपकरण देश भर में प्रशासनिक नियंत्रण को मज़बूत करने तथा कानून और व्यवस्था बनाए रखने के लिए शुरू किए गए थे। (पूरे उत्तर को एक साथ अंकित किया जाए)** **(अन्य किसी प्रासंगिक उत्तर के लिए भी अंक प्रदान किए जाए)**	**4**
31.	"स्वतंत्रता के समय, भारत व पाकिस्तान दोनों को समान औपनिवेशिक आर्थिक संरचनाएँ विरासत में मिली थीं। दोनों राष्ट्रों ने आर्थिक नियोजन की कई एक जैसी रणनीतियाँ अपनाई थीं।" भारत व पाकिस्तान के विकास पथ में किन्हीं दो समानताओं की व्याख्या कीजिए। **उत्तर. भारत और पाकिस्तान द्वारा अपनाई गई ऐसी ही दो विकास कार्यनीतियां हैं:** • **दोनों देशों ने सार्वजनिक और निजी क्षेत्र को शामिल करते हुए मिश्रित आर्थिक प्रणाली के मार्ग का अनुसरण किया।** • **भारत और पाकिस्तान ने अपने घरेलू उद्योगों को विदेशी प्रतिस्पर्धा से बचाने के लिए आयात प्रतिस्थापन नीति अपनाई।** **(अन्य कोई प्रासंगिक उपाय के लिए भी अंक प्रदान किए जाए)**	**2** **2** **4**
32.	(A) प्रच्छन्न बेरोज़गारी के अर्थ का उल्लेख करें । **उत्तर. प्रच्छन्न बेरोजगारी एक ऐसी स्थिति को संदर्भित करती है जब व्यक्ति नियोजित प्रतीत होता है, परन्तु वास्तव में उत्पादन में योगदान नहीं कर रहा है अर्थात, उसकी सीमांत उत्पादकता शून्य होती है।**	**1**
	(B) 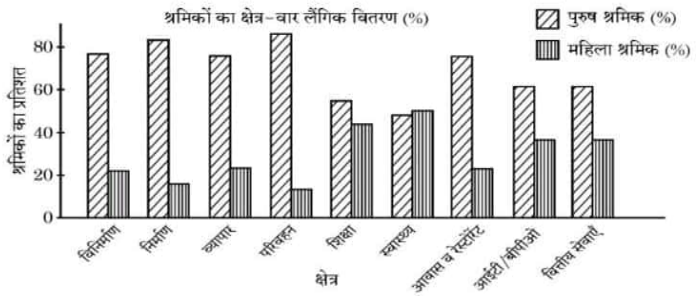 उपर्युक्त चार्ट के आलोक में, श्रमिकों के लिंगाधार क्षेत्रीय वितरण का विश्लेषण करें । **उत्तर. दिया गया चार्ट श्रमिकों के लिंगाधार क्षेत्रीय वितरण के संबंध में निम्नलिखित बिंदुओं पर प्रकाश डालता है:** • **विनिर्माण, निर्माण, व्यापार परिवहन आदि जैसे अधिकांश क्षेत्रों में पुरुष श्रमिकों का वर्चस्व है।** • **निर्माण और परिवहन में महिलाओं की भागीदारी अपेक्षाकृत कम है जो लैंगिक असमानता को दर्शाती है।** • **शिक्षा और स्वास्थ्य क्षेत्र एक संतुलित वितरण दिखाते हैं, जिसमें महिला भागीदारी अन्य क्षेत्रों की तुलना में काफी अधिक है।** **(अन्य कोई प्रासंगिक उत्तर के लिए भी अंक प्रदान किए जाए)**	**1** **1** **1**

	नोट : निम्नलिखित प्रश्न केवल दृष्टिबाधित परीक्षार्थियों के लिए प्रश्न संख्या 32 (B) के स्थान पर है: शहरी क्षेत्रों की तुलना में ग्रामीण क्षेत्रों में आर्थिक गतिविधियों में अधिक महिलाओं के कार्यरत होने के पीछे के किन्हीं दो कारणों को स्पष्ट करें । **उत्तर. शहरी क्षेत्रों की तुलना में ग्रामीण क्षेत्रों में आर्थिक गतिविधियों में अधिक महिलाओं के कार्यरत होने के पीछे के कारण हैं:** • **ग्रामीण क्षेत्रों की महिलाएँ शहरी क्षेत्रों की महिलाओं की तुलना में आर्थिक गतिविधियों में अधिक सक्रिय रूप से संलग्न रहती हैं, क्योंकि अपनी आर्थिक स्थिति के कारण उन्हें काम करने के लिए विवश होना पड़ता है।** • **इसके अतिरिक्त, शहरी क्षेत्रों में, जहां पुरुष उच्च आय अर्जित करने में सक्षम हैं, परिवार महिला सदस्यों को नौकरी लेने से हतोत्साहित करते हैं।**	**1 ½** **1 ½** **4**
33. (A)	(i) बैंगलोर के एक IT उद्यमी श्रीमान रवि ने यह अनुभव किया कि कई बहुराष्ट्रीय कंपनियाँ सॉफ्टवेयर विकास, ग्राहक सहायता व डेटा प्रबंधन जैसी सेवाओं के लिए भारत को अपने बाह्यप्रापण (Outsourcing) केन्द्र के रूप में पसंद करती हैं। उनकी मित्र प्रिया का मानना है कि, ऐसा भारतीय अर्थव्यवस्था के कुछ अंतर्निहित लाभों के कारण है। आपकी राय में, भारत को एक पसंदीदा बाह्यप्रापण गंतव्य बनाने वाले किन्हीं दो कारकों का उल्लेख और उसकी व्याख्या कीजिए । **उत्तर. भारत के एक पसंदीदा बाह्यप्रापण गंतव्य के रूप में उभरने के कारक हैं :** • **संचार साधनों तथा सूचना प्रौद्योगिकी का विकास: संचार के तीव्र साधनों विशेषकर सूचना प्रौद्योगिकी के विकास में वृद्धि।** • **कुशल श्रमशक्ति की उपलब्धता: अपेक्षाकृत मितव्ययी लागत पर कुशल श्रमशक्ति की उपलब्धता ने भारत को बहुराष्ट्रीय कंपनियों (MNC) के लिए एक अग्रणी बाह्यप्रापण केंद्र बना दिया है, जो अपनी सेवाओं को भारत से प्राप्त कर रही हैं।** (ii) "स्वतंत्रता उपरांत अवधि में भारत ने सुरक्षात्मक टैरिफ नीति अपनाई थी।" क्या आप उपर्युक्त कथन से सहमत हैं? किन्हीं दो वैध तर्कों द्वारा अपने उत्तर का औचित्य सिद्ध कीजिए। **उत्तर. हाँ। स्वतंत्रता उपरांत, भारत ने एक संरक्षात्मक टैरिफ नीति अपनाई ताकि:** • **स्थानीय रूप से उत्पादित वस्तुओं के साथ आयात को प्रतिस्थापित करके घरेलू उत्पादन को प्रोत्साहित किया जा सके।** • **उभरते हुए उद्योगों को तीव्र विदेशी प्रतिस्पर्धा से सुरक्षित रखना, जिससे वे सतत रूप से विकसित और समृद्ध हो सके।**	**½ + 1** **½ + 1** **1 ½** **1 ½**
	अथवा	**6**
(B)	(i) "सार्वजनिक क्षेत्र के उपक्रम की रणनीतिक बिक्री (strategic sale) व उनके अंशों (shares) की अल्पमत बिक्री (minority sale) विनिवेश के उपाय हैं।" उपर्युक्त कथन का वैध तर्कों द्वारा समर्थन अथवा खंडन करें । **उत्तर. दिए गए कथन का समर्थन किया जाता है। रणनीतिक बिक्री और अल्पमत बिक्री दोनों ही सरकार द्वारा अपनाये गए विनिवेश के उपाय हैं। रणनीतिक बिक्री में एक निजी इकाई को सार्वजनिक उपक्रम का प्रबंधन उसके नियंत्रण सहित स्वामित्व का एक महत्वपूर्ण अंश हस्तांतरित करना शामिल है। अल्पमत बिक्री का अर्थ है शेयरों के एक सीमित अंश का विक्रय जबकि उपक्रम पर सरकार का नियंत्रण बना रहता है। दोनों ही विनिवेश के रूप हैं, जो सरकारी स्वामित्व को कम करते हैं और निजी भागीदारी को प्रोत्साहित करते हैं, जिससे बेहतर दक्षता और सार्वजनिक क्षेत्र के उद्यमों का बेहतर प्रदर्शन होता है।** **(अन्य कोई प्रासंगिक उत्तर के लिए भी अंक प्रदान किए जाए)**	**3**

	(ii) संक्षेप में चर्चा करें कि, किस प्रकार द्विपक्षीय व्यापारिक समझौते बहुपक्षीय व्यापारिक समझौतों से भिन्न होते हैं। **उत्तर. द्विपक्षीय व्यापार समझौता दो देशों के बीच वस्तुओं और सेवाओं के आदान-प्रदान से संबंधित समझौतों को संदर्भित करता है।** **जबकि,** **बहुपक्षीय व्यापार समझौता एक देश द्वारा किए गए व्यापार समझौतों को संदर्भित करता है जिसमें दो से अधिक देशों के साथ वस्तुओं और सेवाओं का आदान-प्रदान किया जाता है।**	**1 ½** **1 ½** **6**
34.	निम्नलिखित गद्य का ध्यानपूर्वक अध्ययन करें : सभी के लिए समावेशी व गुणवत्तापूर्ण शिक्षा की सुनिश्चितता हेतु, भारत सरकार ने कई महत्त्वपूर्ण योजनाएँ प्रारंभ की हैं, जिनका उद्देश्य पहुँच, समानता व शिक्षण अधिगमों में सुधार लाना है, विशेष रूप से वंचित समूहों में । 4 अगस्त, 2009 को भारतीय संसद द्वारा पारित शिक्षा का अधिकार (RTE) अधिनियम, 6-14 वर्ष की आयु के सभी बालक-बालिकाओं को प्राथमिक शिक्षा पूरी होने तक, निकटवर्ती विद्यालयों में शिक्षा प्राप्त होने की गारंटी प्रदान करता है। ऐसी ही एक अन्य प्रमुख पहल, सर्व शिक्षा अभियान (SSA) भी है। इसे 2001 में, प्रारंभ किया गया था। यह प्रारंभिक शिक्षा के सार्वभौमिकरण के लिए भारत के प्रमुख कार्यक्रमों में से एक है। 1 जुलाई, 2015 को प्रारंभ किया गया डिजीटल इंडिया अभियान, विशेष रूप से ग्रामीण व दूरदराज के क्षेत्रों में, मोबाइल व इंटरनेट कनेक्टिविटी में सुधार करके, भारत को डिजीटल रूप से सशक्त समाज में बदलने पर केंद्रित है। यह पहल डिजीटल शिक्षा व शैक्षिक संसाधनों तक पहुँच का समर्थन करती है। इन सभी पहलों के माध्यम से, सरकार सभी बच्चों के लिए एकसमान, सुलभ व गुणवत्ता संचालित शैक्षिक वातावरण बनाने का प्रयास करती है, जो कि राष्ट्रीय विकास की एक मजबूत नींव रखता है। उपरोक्त गद्य व सामान्य ज्ञान के आलोक में, निम्नलिखित प्रश्नों का उत्तर दें: (i) पहचानिये कि, कौन सा कानून 14 वर्ष की आयु तक निःशुल्क व अनिवार्य शिक्षा की गारंटी प्रदान करता है ? समझाइए कि, यह किस प्रकार शिक्षा तक पहुँच सुनिश्चित करने में सहायक है। **उत्तर. शिक्षा का अधिकार (RTE) अधिनियम, 2009, 14 वर्ष की आयु तक निःशुल्क और अनिवार्य शिक्षा की गारंटी देने वाला कानून है।** **यह कानून, 6 से 14 वर्ष की आयु के प्रत्येक बालक तक, बिना किसी वित्तीय बोझ के, स्कूली शिक्षा की पहुँच को सुनिश्चित करता है। यह आस-पड़ोस के क्षेत्रों में स्कूली सुविधाएं भी प्रदान करता है, जिससे शिक्षा प्राप्त करना सुलभ व सरल हो जाता है। यह वंचित समूहों के बच्चों को समावेशित करने में सहायता करता है और यह सुनिश्चित करता है कि सभी बच्चे अपनी प्रारंभिक शिक्षा पूर्ण करें।** (ii) आपके मत में, शिक्षा पर सार्वजनिक व्यय में वृद्धि ने भारत के सामाजिक व आर्थिक परिवर्तन में किस प्रकार योगदान प्रदान किया है? अपने उत्तर के समर्थन में उचित तर्क प्रस्तुत करें । **उत्तर. शिक्षा पर सरकारी व्यय में वृद्धि ने भारत के सामाजिक और आर्थिक विकास में एक महत्वपूर्ण भूमिका निभाई है। इसने शिक्षा को अधिक सुलभ बनाया है, विशेष रूप से कमजोर वर्गों के लिए, जिससे समानता को प्रोत्साहन मिला है। शिक्षा ने कौशल और ज्ञान में सुधार किया है, जिससे बेहतर रोज़गार के अवसर और उच्च उत्पादकता प्राप्त हुई है। इसने लोगों के जीवन स्तर को बेहतर बनाने और देश के समग्र विकास में सहायता की है।** **(पूरे उत्तर को एक साथ अंकित किया जाए)** **(अन्य कोई प्रासंगिक उत्तर के लिए भी अंक प्रदान किए जाए)**	**1** **2** **3** **6**

* * *